Question Paper Preview

Notations :

1.Options shown in green color and with ✔ icon are correct.

2.Options shown in red color and with ✖ icon are incorrect.

Subject Name :	Junior Clerk
Creation Date :	2021-11-17 11:28:23
Duration :	120
Total Marks :	200
Display Marks:	Yes
Share Answer Key With Delivery Engine :	No
Actual Answer Key :	Yes
Calculator :	None
Magnifying Glass Required? :	No
Ruler Required? :	No
Eraser Required? :	No
Scratch Pad Required? :	No
Rough Sketch/Notepad Required? :	No
Protractor Required? :	No
Show Watermark on Console? :	Yes
Highlighter :	No
Auto Save on Console? (SA type of questions will be always auto saved) :	No

General Ability1

Group Number :	1
Group Id :	540626946
Group Maximum Duration :	0
Group Minimum Duration :	0

Show Attended Group? :	No
Edit Attended Group? :	No
Break time :	0
Group Marks :	20
Is this Group for Examiner? :	No

General Ability1

Section Id :	5406261193
Section Number :	1
Section type :	Online
Mandatory or Optional :	Mandatory
Number of Questions :	20
Number of Questions to be attempted :	20
Section Marks :	20
Enable Mark as Answered Mark for Review and Clear Response :	Yes
Sub-Section Number :	1
Sub-Section Id :	5406261421
Question Shuffling Allowed :	Yes

Question Number : 1 Question Id : 54062624073 Question Type : MCQ Option Shuffling : Yes Is Question Mandatory : No Option Orientation : Vertical

Correct Marks : 1 Wrong Marks : 0.25

A series is given with one term missing. Select the correct alternative from the given ones that will complete the series.

PMO, USV, ZYC, EEJ, ?

Options :

1. ✖ KNQ
2. ✖ LOR
3. ✖ MPS
4. ✔ JKQ

Question Number : 1 Question Id : 54062624073 Question Type : MCQ Option Shuffling : Yes Is Question Mandatory : No Option

Orientation : Vertical

Correct Marks : 1 Wrong Marks : 0.25

एक अनुक्रम दिया गया है, जिसमें से एक पद लुप्त है। दिए गए विकल्पों में से वह सही विकल्प चुनिए, जो अनुक्रम को पूरा करे।

PMO, USV, ZYC, EEJ, ?

Options :

1. ✖ KNQ
2. ✖ LOR
3. ✖ MPS
4. ✔ JKQ

Question Number : 2 Question Id : 54062624074 Question Type : MCQ Option Shuffling : Yes Is Question Mandatory : No Option Orientation : Vertical

Correct Marks : 1 Wrong Marks : 0.25

A series is given with one term missing. Select the correct alternative from the given ones that will complete the series.

N18M, R36Q, V72U, Z144Y, ?

Options :

1. ✖ E288B
2. ✔ D288C
3. ✖ D289A
4. ✖ G285D

Question Number : 2 Question Id : 54062624074 Question Type : MCQ Option Shuffling : Yes Is Question Mandatory : No Option Orientation : Vertical

Correct Marks : 1 Wrong Marks : 0.25

एक अनुक्रम दिया गया है, जिसमें से एक पद लुप्त है। दिए गए विकल्पों में से वह सही विकल्प चुनिए, जो अनुक्रम को पूरा करे।

N18M, R36Q, V72U, Z144Y, ?

Options :

1. ✖ E288B
2. ✔ D288C
3. ✖ D289A

4. ✖ G285D

Question Number : 3 Question Id : 54062624075 Question Type : MCQ Option Shuffling : Yes Is Question Mandatory : No Option Orientation : Vertical

Correct Marks : 1 Wrong Marks : 0.25

After arranging the given words according to dictionary order, which word will come at 'fourth' position?

1. SHELF
2. SHEEP
3. SHED
4. SHAFT
5. SHELL

Options :

1. ✖ SHEEP
2. ✔ SHELF
3. ✖ SHAFT
4. ✖ SHELL

Question Number : 3 Question Id : 54062624075 Question Type : MCQ Option Shuffling : Yes Is Question Mandatory : No Option Orientation : Vertical

Correct Marks : 1 Wrong Marks : 0.25

दिए गए शब्दों को शब्दकोष के अनुसार व्यवस्थित करने के पश्चात्, कौन सा शब्द 'चौथे' स्थान पर आएगा?

1. SHELF
2. SHEEP
3. SHED
4. SHAFT
5. SHELL

Options :

1. ✖ SHEEP
2. ✔ SHELF
3. ✖ SHAFT
4. ✖ SHELL

Question Number : 4 Question Id : 54062624076 Question Type : MCQ Option Shuffling : Yes Is Question Mandatory : No Option Orientation : Vertical

Correct Marks : 1 Wrong Marks : 0.25

In the following question, select the odd word pair from the given alternatives.

Options :

1. ✖ Factory – Workers
2. ✔ Parlour – Farmer
3. ✖ Hospital – Patients
4. ✖ School – Students

Question Number : 4 Question Id : 54062624076 Question Type : MCQ Option Shuffling : Yes Is Question Mandatory : No Option Orientation : Vertical

Correct Marks : 1 Wrong Marks : 0.25

निम्नलिखित प्रश्न में दिए गए विकल्पों में से विषम शब्द युग्म को चुनिए।

Options :

1. ✖ फैक्ट्री – मजदूर
2. ✔ पार्लर – किसान
3. ✖ अस्पताल – मरीज़
4. ✖ विद्यालय – छात्र

Question Number : 5 Question Id : 54062624077 Question Type : MCQ Option Shuffling : Yes Is Question Mandatory : No Option Orientation : Vertical

Correct Marks : 1 Wrong Marks : 0.25

In the following question, four letter pairs are given. The letters on left side of (–) is related to the letters on the right side of (–) with some Logic/Rule/Relation. Three are similar on basis of same Logic/Rule/Relation. Select the odd one out from the given alternatives.

Options :

1. ✖ BDL – XZH
2. ✔ QMS – MGO
3. ✖ BJO – XFK
4. ✖ OTF – KPB

Question Number : 5 Question Id : 54062624077 Question Type : MCQ Option Shuffling : Yes Is Question Mandatory : No Option

Orientation : Vertical

Correct Marks : 1 Wrong Marks : 0.25

नीचे दिए गए प्रश्न में, चार अक्षर युग्म दिए गए हैं। (–) के बायीं ओर दिये गये अक्षर (–) के दायीं ओर दिये गये अक्षर से किसी तर्क/नियम/संबंध से संबंधित है। तीन उसी एक तर्क/नियम/संबंध के आधार पर समान हैं। दिए गए विकल्पों में से विषम को चुनिए।

Options :

1. ✖ BDL – XZH
2. ✔ QMS – MGO
3. ✖ BJO – XFK
4. ✖ OTF – KPB

Question Number : 6 Question Id : 54062624078 Question Type : MCQ Option Shuffling : Yes Is Question Mandatory : No Option Orientation : Vertical

Correct Marks : 1 Wrong Marks : 0.25

In the following question, select the odd letter/letters from the given alternatives.

Options :

1. ✖ GILPU
2. ✖ NPSWB
3. ✔ ZBFHL
4. ✖ LNQUZ

Question Number : 6 Question Id : 54062624078 Question Type : MCQ Option Shuffling : Yes Is Question Mandatory : No Option Orientation : Vertical

Correct Marks : 1 Wrong Marks : 0.25

निम्नलिखित प्रश्न में दिए गए विकल्पों में से विषम अक्षर/अक्षरों को चुनिए।

Options :

1. ✖ GILPU
2. ✖ NPSWB
3. ✔ ZBFHL
4. ✖ LNQUZ

Question Number : 7 Question Id : 54062624079 Question Type : MCQ Option Shuffling : Yes Is Question Mandatory : No Option Orientation : Vertical

Correct Marks : 1 Wrong Marks : 0.25

In the following question, select the related words from the given alternatives.

Hospital : Nurse :: School : ?

Options :

1. ✔ Teacher
2. ✖ Chalk
3. ✖ Education
4. ✖ Bench

Question Number : 7 Question Id : 54062624079 Question Type : MCQ Option Shuffling : Yes Is Question Mandatory : No Option Orientation : Vertical

Correct Marks : 1 Wrong Marks : 0.25

निम्नलिखित प्रश्न में दिए गए विकल्पों में से संबंधित शब्दो को चुनिए।

अस्पताल : नर्स :: विद्यालय : ?

Options :

1. ✔ शिक्षक
2. ✖ चाक
3. ✖ शिक्षा
4. ✖ बैंच

Question Number : 8 Question Id : 54062624080 Question Type : MCQ Option Shuffling : Yes Is Question Mandatory : No Option Orientation : Vertical

Correct Marks : 1 Wrong Marks : 0.25

In the following question, select the related letter pair from the given alternatives.

RAP : LWN :: ?

Options :

1. ✖ PIN : JFL
2. ✖ GOM : KKC
3. ✖ TAP : MWP
4. ✔ LUM : IQH

Question Number : 8 Question Id : 54062624080 Question Type : MCQ Option Shuffling : Yes Is Question Mandatory : No Option Orientation : Vertical

Correct Marks : 1 Wrong Marks : 0.25

निम्नलिखित प्रश्न में दिए गए विकल्पों में से संबंधित अक्षर युग्म को चुनिए।

RAP : LWN :: ?

Options :

1. ✖ PIN : JFL
2. ✖ GOM : KKC
3. ✖ TAP : MWP
4. ✔ LUM : IQH

Question Number : 9 Question Id : 54062624081 Question Type : MCQ Option Shuffling : Yes Is Question Mandatory : No Option Orientation : Vertical

Correct Marks : 1 Wrong Marks : 0.25

In the following question, select the related letter pair from the given alternatives.

RAMP : UZRK :: ?

Options :

1. ✖ LOBS : ONGH
2. ✔ TEAR : WVFI
3. ✖ GORE : JLUV
4. ✖ LURF : QFWV

Question Number : 9 Question Id : 54062624081 Question Type : MCQ Option Shuffling : Yes Is Question Mandatory : No Option Orientation : Vertical

Correct Marks : 1 Wrong Marks : 0.25

निम्नलिखित प्रश्न में दिए गए विकल्पों में से संबंधित अक्षर युग्म को चुनिए।

RAMP : UZRK :: ?

Options :

1. ✖ LOBS : ONGH

2. ✔ TEAR : WVFI
3. ✖ GORE : JLUV
4. ✖ LURF : QFWV

Question Number : 10 Question Id : 54062624082 Question Type : MCQ Option Shuffling : Yes Is Question Mandatory : No Option Orientation : Vertical

Correct Marks : 1 Wrong Marks : 0.25

In a certain code language, 'Ramu parties hard' is written as 'ab cd ef', 'Questions were hard' is written 'jk lm ef'. What is the code for 'hard' in that code language?

Options :

1. ✖ lm
2. ✔ ef
3. ✖ ab
4. ✖ cd

Question Number : 10 Question Id : 54062624082 Question Type : MCQ Option Shuffling : Yes Is Question Mandatory : No Option Orientation : Vertical

Correct Marks : 1 Wrong Marks : 0.25

एक विशिष्ट कोड भाषा में, 'Ramu parties hard' को 'ab cd ef' लिखा जाता है, 'Questions were hard' को 'jk lm ef' लिखा जाता है। इस कोड भाषा में 'hard' का कोड क्या है?

Options :

1. ✖ lm
2. ✔ ef
3. ✖ ab
4. ✖ cd

Question Number : 11 Question Id : 54062624083 Question Type : MCQ Option Shuffling : Yes Is Question Mandatory : No Option Orientation : Vertical

Correct Marks : 1 Wrong Marks : 0.25

In a certain code language, 'The whole nine yards' is written as '4 8 7 3', 'Nine yards are long' is written as '7 3 1 5'. What is the code for 'yards nine' in that code language?

Options :

1. ✔ 3 7
2. ✖ 5 8
3. ✖ 4 5
4. ✖ 7 1

Question Number : 11 Question Id : 54062624083 Question Type : MCQ Option Shuffling : Yes Is Question Mandatory : No Option Orientation : Vertical

Correct Marks : 1 Wrong Marks : 0.25

एक विशिष्ट कोड भाषा में, 'The whole nine yards' को '4 8 7 3' लिखा जाता है, 'Nine yards are long' को '7 3 1 5' लिखा जाता है। इस कोड भाषा में 'yards nine' का कोड क्या है?

Options :

1. ✔ 3 7
2. ✖ 5 8
3. ✖ 4 5
4. ✖ 7 1

Question Number : 12 Question Id : 54062624084 Question Type : MCQ Option Shuffling : Yes Is Question Mandatory : No Option Orientation : Vertical

Correct Marks : 1 Wrong Marks : 0.25

In a certain code language, 'MAYANK' is written as 'FRNTEZ'. What is the code for 'TROPED' in that code language?

Options :

1. ✖ MICIVS
2. ✖ NIDIVS
3. ✔ MIDIVS
4. ✖ MIDVIS

Question Number : 12 Question Id : 54062624084 Question Type : MCQ Option Shuffling : Yes Is Question Mandatory : No Option Orientation : Vertical

Correct Marks : 1 Wrong Marks : 0.25

एक विशिष्ट कोड भाषा में, 'MAYANK' को 'FRNTEZ' लिखा जाता है। इस कोड भाषा में 'TROPED' का कोड क्या है?

Options :

1. ✖ MICIVS

2. ✖ NIDIVS
3. ✔ MIDIVS
4. ✖ MIDVIS

Question Number : 13 Question Id : 54062624085 Question Type : MCQ Option Shuffling : Yes Is Question Mandatory : No Option Orientation : Vertical

Correct Marks : 1 Wrong Marks : 0.25

In a certain code language, 'LOBSTERD' is written as 'ALQHIVGW'. What is the code for 'GRAMBOAT' in that code language?

Options :

1. ✖ VJPNQLPG
2. ✖ VPINQLPG
3. ✖ VIPQNLPG
4. ✔ VIPNQLPG

Question Number : 13 Question Id : 54062624085 Question Type : MCQ Option Shuffling : Yes Is Question Mandatory : No Option Orientation : Vertical

Correct Marks : 1 Wrong Marks : 0.25

एक विशिष्ट कोड भाषा में, 'LOBSTERD' को 'ALQHIVGW' लिखा जाता है। इस कोड भाषा में 'GRAMBOAT' का कोड क्या है?

Options :

1. ✖ VJPNQLPG
2. ✖ VPINQLPG
3. ✖ VIPQNLPG
4. ✔ VIPNQLPG

Question Number : 14 Question Id : 54062624086 Question Type : MCQ Option Shuffling : Yes Is Question Mandatory : No Option Orientation : Vertical

Correct Marks : 1 Wrong Marks : 0.25

Seven boys L, M, N, O, P, Q and R are sitting around a circular table facing towards the centre (not necessarily in the same order). M is second to the right of N. O is third to the left of N. R is not the immediate neighbour of M. Q is third to the right of R. L is third to the left of P. Who is to the immediate left of Q?

Options :

1. ✔ N

2. ✖ M
3. ✖ L
4. ✖ R

Question Number : 14 Question Id : 54062624086 Question Type : MCQ Option Shuffling : Yes Is Question Mandatory : No Option Orientation : Vertical

Correct Marks : 1 Wrong Marks : 0.25

सात लड़के L, M, N, O, P, Q तथा R केंद्र की ओर मुख करके एक वृत्ताकार मेज के इर्द-गिर्द बैठे हुए हैं (जरूरी नहीं की इसी क्रम में हो)। M, N के दायीं ओर दूसरे स्थान पर है। O, N के बायीं ओर तीसरे स्थान पर है। R, M का निकटतम पड़ोसी नहीं है। Q, R के दायीं ओर तीसरे स्थान पर है। L, P के बायीं ओर तीसरे स्थान पर है। Q के तुरंत बायीं ओर कौन है?

Options :

1. ✔ N
2. ✖ M
3. ✖ L
4. ✖ R

Question Number : 15 Question Id : 54062624087 Question Type : MCQ Option Shuffling : Yes Is Question Mandatory : No Option Orientation : Vertical

Correct Marks : 1 Wrong Marks : 0.25

A committee of five members is to be formed from four males members M1, M2, M3 and M4 and four female members F1, F2, F3 and F4. If M3 is selected, then F1 should be selected. If F3 is selected, then M2 should be selected. If F4 is selected, then neither M1 nor M2 can be selected. If F2 is selected, then neither F3 nor M3 can be selected. Who among the following may be selected?

Options :

1. ✖ M2, M3, M4, F2 and F4
2. ✔ M1, M2, M3, F1 and F3
3. ✖ M1, M2, M3, M4 and F3
4. ✖ M1, M2, M3, F2 and F1

Question Number : 15 Question Id : 54062624087 Question Type : MCQ Option Shuffling : Yes Is Question Mandatory : No Option Orientation : Vertical

Correct Marks : 1 Wrong Marks : 0.25

चार पुरूष सदस्यों M1, M2, M3 तथा M4 तथा चार महिला सदस्यों F1, F2, F3 तथा F4 में से पांच सदस्यों की एक समिति बनायी जानी है। यदि M3 को चुना

जाता है, तो F1 को चुना जाना चाहिए। यदि F3 को चुना जाता है, तो M2 को चुना जाना चाहिए। यदि F4 को चुना जाता है, तो ना ही M1 ना ही M2 को चुना जा सकता है। यदि F2 को चुना जाता है, तो ना ही F3 ना ही M3 को चुना जा सकता है। निम्नलिखित में से किन्हें चुना जा सकता है?

Options :

1. ✖ M2, M3, M4, F2 तथा F4
2. ✔ M1, M2, M3, F1 तथा F3
3. ✖ M1, M2, M3, M4 तथा F3
4. ✖ M1, M2, M3, F2 तथा F1

Question Number : 16 Question Id : 54062624088 Question Type : MCQ Option Shuffling : Yes Is Question Mandatory : No Option Orientation : Vertical

Correct Marks : 1 Wrong Marks : 0.25

Five persons J, K, L, M and N likes one shirt from S1, S2, S3, S4 and S5. No two persons like same shirt. J likes S3. L don't like odd numbered shirt. K likes even numbered shirt.

Which of the following statement(s) is/are correct?
I. M likes either S1 or S5.
II. N likes S2.

Options :

1. ✔ Only I
2. ✖ Only II
3. ✖ Both I and II
4. ✖ Neither I nor II

Question Number : 16 Question Id : 54062624088 Question Type : MCQ Option Shuffling : Yes Is Question Mandatory : No Option Orientation : Vertical

Correct Marks : 1 Wrong Marks : 0.25

पाँच व्यक्ति J, K, L, M तथा N S1, S2, S3, S4 तथा S5 में से एक कमीज पसंद करते हैं। कोई भी दो व्यक्तियों को समान कमीज पसंद नहीं है। J को S3 पसंद है। L को विषम संख्या वाली कमीज पसंद नहीं है। K को सम संख्या वाली कमीज पसंद है।

निम्नलिखित में से कौन सा/से कथन सही है/हैं?
I. M को या तो S1 या S5 पसंद है।
II. N को S2 पसंद है।

Options :

1. ✔ केवल I
2. ✖ केवल II
3. ✖ I तथा II दोनों
4. ✖ ना ही I ना ही II

Question Number : 17 Question Id : 54062624089 Question Type : MCQ Option Shuffling : Yes Is Question Mandatory : No Option Orientation : Vertical

Correct Marks : 1 Wrong Marks : 0.25

Marks of seven boys B1, B2, B3, B4, B5, B6 and B7 are compared. Marks of B4 are more than minimum four boys. Number of boys having more marks than B4 are same as the number of boys having less marks than B3. Marks of B2 are less than B3 and B7 but are not least. Marks of no two boys are same. If marks of only B5 and B6 are more than B4, then which of the following sequence cannot be correct?

Options :

1. ✖ B1 < B5 < B6
2. ✖ B2 < B7 < B4
3. ✖ B2 < B6 < B5
4. ✔ B3 < B2 < B6

Question Number : 17 Question Id : 54062624089 Question Type : MCQ Option Shuffling : Yes Is Question Mandatory : No Option Orientation : Vertical

Correct Marks : 1 Wrong Marks : 0.25

सात लड़कों B1, B2, B3, B4, B5, B6 तथा B7 के अंको की तुलना की गयी है। B4 के अंक कम से कम चार लड़कों से अधिक है। B4 से अधिक अंक वाले लड़कों की संख्या B3 से कम अंक वाले लड़कों की संख्या के समान है। B2 के अंक B3 तथा B7 से कम है लेकिन न्यूनतम नहीं है। कोई भी दो लड़कों के अंक समान नहीं है। यदि केवल B5 तथा B6 के अंक B4 से अधिक है, तो निम्नलिखित में से कौन सा अनुक्रम सही नहीं हो सकता है?

Options :

1. ✖ B1 < B5 < B6
2. ✖ B2 < B7 < B4
3. ✖ B2 < B6 < B5
4. ✔ B3 < B2 < B6

Question Number : 18 Question Id : 54062624090 Question Type : MCQ Option Shuffling : Yes Is Question Mandatory : No Option Orientation : Vertical

Correct Marks : 1 Wrong Marks : 0.25

Nine girls A, B, C, D, E, F, G, H and I are sitting around a circular table facing towards the centre (not necessarily in the same order). C is third to the left of I. Three girls are sitting between C and D. Three girls are sitting between D and F. F is to the immediate left of C. B is third to the right of A. H is third to the left of E. D is not to the immediate left of E.

Which of the following statement(s) is/are not correct?
I. I is not the immediate neighbour of A and D.
II. B is to the immediate right of D.
III. F is third to the right of B.
IV. C is fourth to the left of D.

Options :

1. ✖ II and IV
2. ✖ I, II and III
3. ✖ Only II
4. ✔ Only I

Question Number : 18 Question Id : 54062624090 Question Type : MCQ Option Shuffling : Yes Is Question Mandatory : No Option Orientation : Vertical

Correct Marks : 1 Wrong Marks : 0.25

नौ लड़कियाँ A, B, C, D, E, F, G, H तथा I केंद्र की ओर मुख करके एक वृत्ताकार मेज के इर्द-गिर्द बैठी हुई हैं (जरूरी नहीं की इसी क्रम में हो)। C, I के बायीं ओर तीसरे स्थान पर है। C तथा D के मध्य तीन लड़कियाँ बैठी हुई हैं। D तथा F के मध्य तीन लड़कियाँ बैठी हुई हैं। F, C के तुरंत बायीं ओर है। B, A के दायीं ओर तीसरे स्थान पर है। H, E के बायीं ओर तीसरे स्थान पर है। D, E के तुरंत बायीं ओर नहीं है।

निम्नलिखित में से कौन सा/से कथन सही नही है/हैं?
I. I, A तथा D की निकटतम पड़ोसी नहीं है।
II. B, D के तुरंत दायीं ओर है।
III. F, B के दायीं ओर तीसरे स्थान पर है।
IV. C, D के बायीं ओर चौथे स्थान पर है।

Options :

1. ✖ II तथा IV
2. ✖ I, II तथा III
3. ✖ केवल II
4. ✔ केवल I

Question Number : 19 Question Id : 54062624091 Question Type : MCQ Option Shuffling : Yes Is Question Mandatory : No Option

Orientation : Vertical

Correct Marks : 1 Wrong Marks : 0.25

In the following question below are given some statements followed by some conclusions based on those statements. Taking the given statements to be true even if they seem to be at variance from commonly known facts. Read all the conclusions and then decide which of the given conclusion logically follows the given statements.

Statements:
I. Some R are P.
II. No P is W.

Conclusions:
I. No W is R.
II. Some W are not P.

Options :

1. ✖ Only conclusion I follows
2. ✔ Only conclusion II follows
3. ✖ Both conclusions I and II follows
4. ✖ Neither conclusion follows

Question Number : 19 Question Id : 54062624091 Question Type : MCQ Option Shuffling : Yes Is Question Mandatory : No Option Orientation : Vertical

Correct Marks : 1 Wrong Marks : 0.25

नीचे दिए गए प्रश्न में कुछ कथन और उनके बाद उन कथनों पर आधारित कुछ निष्कर्ष दिए गए हैं। दिए गए कथनों को सही माने, चाहे उनमें सामान्य ज्ञात तथ्यों से भिन्नता हो। सभी निष्कर्ष पढ़ें और फिर निर्धारित करें कि दिए गए कौन से निष्कर्ष, दिए गए कथनों के आधार पर युक्तिसंगत हैं।

कथन:
I. कुछ R, P हैं।
II. कोई भी P, W नहीं है।

निष्कर्ष:
I. कोई भी W, R नहीं है।
II. कुछ W, P नहीं हैं।

Options :

1. ✖ केवल निष्कर्ष I अनुसरण करता है
2. ✔ केवल निष्कर्ष II अनुसरण करता है

3. ✖ दोनों निष्कर्ष I तथा II अनुसरण करते हैं
4. ✖ कोई भी निष्कर्ष अनुसरण नहीं करता है

Question Number : 20 Question Id : 54062624092 Question Type : MCQ Option Shuffling : Yes Is Question Mandatory : No Option Orientation : Vertical

Correct Marks : 1 Wrong Marks : 0.25

In the following question below are given some statements followed by some conclusions based on those statements. Taking the given statements to be true even if they seem to be at variance from commonly known facts. Read all the conclusions and then decide which of the given conclusion logically follows the given statements.

Statements:
I. No A is B.
II. Some B are P.

Conclusions:
I. Some B are not A.
II. Some P are not A.

Options :

1. ✖ Only conclusion I follows
2. ✖ Only conclusion II follows
3. ✔ Both conclusions I and II follows
4. ✖ Neither conclusion follows

Question Number : 20 Question Id : 54062624092 Question Type : MCQ Option Shuffling : Yes Is Question Mandatory : No Option Orientation : Vertical

Correct Marks : 1 Wrong Marks : 0.25

नीचे दिए गए प्रश्न में कुछ कथन और उनके बाद उन कथनों पर आधारित कुछ निष्कर्ष दिए गए हैं। दिए गए कथनों को सही माने, चाहे उनमें सामान्य ज्ञात तथ्यों से भिन्नता हो। सभी निष्कर्ष पढ़ें और फिर निर्धारित करें कि दिए गए कौन से निष्कर्ष, दिए गए कथनों के आधार पर युक्तिसंगत हैं।

कथन:
I. कोई भी A, B नहीं है।
II. कुछ B, P हैं।

निष्कर्ष:

I. कुछ B, A नहीं हैं।
II. कुछ P, A नहीं हैं।

Options :

1. ✖ केवल निष्कर्ष I अनुसरण करता है
2. ✖ केवल निष्कर्ष II अनुसरण करता है
3. ✔ दोनों निष्कर्ष I तथा II अनुसरण करते हैं
4. ✖ कोई भी निष्कर्ष अनुसरण नहीं करता है

General Ability2

Group Number :	2
Group Id :	540626947
Group Maximum Duration :	0
Group Minimum Duration :	0
Show Attended Group? :	No
Edit Attended Group? :	No
Break time :	0
Group Marks :	20
Is this Group for Examiner? :	No

General Ability2

Section Id :	5406261194
Section Number :	1
Section type :	Online
Mandatory or Optional :	Mandatory
Number of Questions :	20
Number of Questions to be attempted :	20
Section Marks :	20
Enable Mark as Answered Mark for Review and Clear Response :	Yes
Sub-Section Number :	1
Sub-Section Id :	5406261422

Question Shuffling Allowed : Yes

Question Number : 21 Question Id : 54062624093 Question Type : MCQ Option Shuffling : Yes Is Question Mandatory : No Option Orientation : Vertical

Correct Marks : 1 Wrong Marks : 0.25

In the following question below are given some statements followed by some conclusions based on those statements. Taking the given statements to be true even if they seem to be at variance from commonly known facts. Read all the conclusions and then decide which of the given conclusion logically follows the given statements.

Statements:
I. All white are red.
II. No paper is red.

Conclusions:
I. No red is paper.
II. No white is paper.
III. Some red are white.

Options :

1. ✖ Both conclusions II and III follows
2. ✖ Both conclusions I and II follows
3. ✖ Both conclusions I and III follows
4. ✔ All conclusion follows

Question Number : 21 Question Id : 54062624093 Question Type : MCQ Option Shuffling : Yes Is Question Mandatory : No Option Orientation : Vertical

Correct Marks : 1 Wrong Marks : 0.25

नीचे दिए गए प्रश्न में कुछ कथन और उनके बाद उन कथनों पर आधारित कुछ निष्कर्ष दिए गए हैं। दिए गए कथनों को सही माने, चाहे उनमें सामान्य ज्ञात तथ्यों से भिन्नता हो। सभी निष्कर्ष पढ़ें और फिर निर्धारित करें कि दिए गए कौन से निष्कर्ष, दिए गए कथनों के आधार पर युक्तिसंगत हैं।

कथन:
I. सभी सफेद, लाल हैं।
II. कोई भी कागज, लाल नहीं है।

निष्कर्ष:
I. कोई भी लाल, कागज नहीं है।

II. कोई भी सफेद, कागज नहीं है।
III. कुछ लाल, सफेद हैं।

Options :

1. ✖ दोनों निष्कर्ष II तथा III अनुसरण करते हैं
2. ✖ दोनों निष्कर्ष I तथा II अनुसरण करते हैं
3. ✖ दोनों निष्कर्ष I तथा III अनुसरण करते हैं
4. ✔ सभी निष्कर्ष अनुसरण करते हैं

Question Number : 22 Question Id : 54062624094 Question Type : MCQ Option Shuffling : Yes Is Question Mandatory : No Option Orientation : Vertical

Correct Marks : 1 Wrong Marks : 0.25

In the following question below are given some statements followed by some conclusions based on those statements. Taking the given statements to be true even if they seem to be at variance from commonly known facts. Read all the conclusions and then decide which of the given conclusion logically follows the given statements.

Statements:
I. No K is C.
II. Some A are K.
III. Some M are C.

Conclusions:
I. Some A are not C.
II. Some K are not C.
III. Some M are not K.

Options :

1. ✖ Both conclusions II and III follows
2. ✖ Only conclusion I follows
3. ✖ Only conclusion II follows
4. ✔ All conclusion follows

Question Number : 22 Question Id : 54062624094 Question Type : MCQ Option Shuffling : Yes Is Question Mandatory : No Option Orientation : Vertical

Correct Marks : 1 Wrong Marks : 0.25

नीचे दिए गए प्रश्न में कुछ कथन और उनके बाद उन कथनों पर आधारित कुछ निष्कर्ष दिए गए हैं। दिए गए कथनों को सही माने, चाहे उनमें सामान्य ज्ञात तथ्यों

से भिन्नता हो। सभी निष्कर्ष पढ़ें और फिर निर्धारित करें कि दिए गए कौन से निष्कर्ष, दिए गए कथनों के आधार पर युक्तिसंगत हैं।

कथन:
I. कोई भी K, C नहीं है।
II. कुछ A, K हैं।
III. कुछ M, C हैं।

निष्कर्ष:
I. कुछ A, C नहीं हैं।
II. कुछ K, C नहीं हैं।
III. कुछ M, K नहीं हैं।

Options :

1. ✖ दोनों निष्कर्ष II तथा III अनुसरण करते हैं
2. ✖ केवल निष्कर्ष I अनुसरण करता है
3. ✖ केवल निष्कर्ष II अनुसरण करता है
4. ✔ सभी निष्कर्ष अनुसरण करते हैं

Question Number : 23 Question Id : 54062624095 Question Type : MCQ Option Shuffling : Yes Is Question Mandatory : No Option Orientation : Vertical

Correct Marks : 1 Wrong Marks : 0.25

In the following question below are given some statements followed by some conclusions based on those statements. Taking the given statements to be true even if they seem to be at variance from commonly known facts. Read all the conclusions and then decide which of the given conclusion logically follows the given statements.

Statements:
I. All P are B.
II. All C are M.
III. Some B are M.

Conclusions:
I. No C is B.
II. Some M are B.
III. Some P are M.

Options :

1. ✖ Both conclusions I and III follows

2. ✖ Only conclusion I follows
3. ✖ Only conclusion III follows
4. ✔ Only conclusion II follows

Question Number : 23 Question Id : 54062624095 Question Type : MCQ Option Shuffling : Yes Is Question Mandatory : No Option Orientation : Vertical

Correct Marks : 1 Wrong Marks : 0.25

नीचे दिए गए प्रश्न में कुछ कथन और उनके बाद उन कथनों पर आधारित कुछ निष्कर्ष दिए गए हैं। दिए गए कथनों को सही माने, चाहे उनमें सामान्य ज्ञात तथ्यों से भिन्नता हो। सभी निष्कर्ष पढ़ें और फिर निर्धारित करें कि दिए गए कौन से निष्कर्ष, दिए गए कथनों के आधार पर युक्तिसंगत हैं।

कथन:
I. सभी P, B हैं।
II. सभी C, M हैं।
III. कुछ B, M हैं।

निष्कर्ष:
I. कोई भी C, B नहीं है।
II. कुछ M, B हैं।
III. कुछ P, M हैं।

Options :

1. ✖ दोनों निष्कर्ष I तथा III अनुसरण करते हैं
2. ✖ केवल निष्कर्ष I अनुसरण करता है
3. ✖ केवल निष्कर्ष III अनुसरण करता है
4. ✔ केवल निष्कर्ष II अनुसरण करता है

Question Number : 24 Question Id : 54062624096 Question Type : MCQ Option Shuffling : Yes Is Question Mandatory : No Option Orientation : Vertical

Correct Marks : 1 Wrong Marks : 0.25

Select the odd group of numbers from the given alternatives.

Options :

1. ✔ (17, 13, 5)
2. ✖ (7, 11, 13)
3. ✖ (11, 13, 17)

4. ✖ (73, 79, 83)

Question Number : 24 Question Id : 54062624096 Question Type : MCQ Option Shuffling : Yes Is Question Mandatory : No Option Orientation : Vertical

Correct Marks : 1 Wrong Marks : 0.25

दिये गए विकल्पों में से संख्याओं के विषम समूह को चुनिए।

Options :

1. ✔ (17, 13, 5)
2. ✖ (7, 11, 13)
3. ✖ (11, 13, 17)
4. ✖ (73, 79, 83)

Question Number : 25 Question Id : 54062624097 Question Type : MCQ Option Shuffling : Yes Is Question Mandatory : No Option Orientation : Vertical

Correct Marks : 1 Wrong Marks : 0.25

In the following question, select the number which can be placed at the sign of question mark (?) from the given alternatives.

13	17	2	4
5	8	16	15
73	144	?	68

Options :

1. ✖ 44
2. ✔ 40
3. ✖ 48
4. ✖ 56

Question Number : 25 Question Id : 54062624097 Question Type : MCQ Option Shuffling : Yes Is Question Mandatory : No Option Orientation : Vertical

Correct Marks : 1 Wrong Marks : 0.25

निम्नलिखित प्रश्न में दिए गए विकल्पों में से प्रश्न चिन्ह (?) के स्थान पर आने वाली संख्या को चुनिए।

13	17	2	4
5	8	16	15
73	144	?	68

Options :

1. ✖ 44
2. ✔ 40
3. ✖ 48
4. ✖ 56

Question Number : 26 Question Id : 54062624098 Question Type : MCQ Option Shuffling : Yes Is Question Mandatory : No Option Orientation : Vertical

Correct Marks : 1 Wrong Marks : 0.25

If 14 @ 2 # 17 = 38 and 18 # 35 @ 2 = 81, then 19 @ 5 # 2 = ?

Options :

1. ✔ 90
2. ✖ 92
3. ✖ 94
4. ✖ 96

Question Number : 26 Question Id : 54062624098 Question Type : MCQ Option Shuffling : Yes Is Question Mandatory : No Option Orientation : Vertical

Correct Marks : 1 Wrong Marks : 0.25

यदि 14 @ 2 # 17 = 38 तथा 18 # 35 @ 2 = 81 हो, तो 19 @ 5 # 2 = ?

Options :

1. ✔ 90
2. ✖ 92
3. ✖ 94
4. ✖ 96

Question Number : 27 Question Id : 54062624099 Question Type : MCQ Option Shuffling : Yes Is Question Mandatory : No Option Orientation : Vertical

Correct Marks : 1 Wrong Marks : 0.25

In the following question, select the missing number from the given series.

13, 13, ?, 39, 97.5, 292.5

Options :

1. ✖ 17.5

2. ✖ 16.5

3. ✖ 18.5

4. ✔ 19.5

Question Number : 27 Question Id : 54062624099 Question Type : MCQ Option Shuffling : Yes Is Question Mandatory : No Option Orientation : Vertical

Correct Marks : 1 Wrong Marks : 0.25

निम्नलिखित प्रश्न में दी गई श्रृंखला में से लुप्त अंक ज्ञात कीजिए।

13, 13, ?, 39, 97.5, 292.5

Options :

1. ✖ 17.5

2. ✖ 16.5

3. ✖ 18.5

4. ✔ 19.5

Question Number : 28 Question Id : 54062624100 Question Type : MCQ Option Shuffling : Yes Is Question Mandatory : No Option Orientation : Vertical

Correct Marks : 1 Wrong Marks : 0.25

Identify the diagram that best represents the relationship among the given classes.

Red, Black, Yellow

Options :

1. ✔

2. ✖

3. ✖ 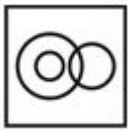

4. ✖

Question Number : 28 Question Id : 54062624100 Question Type : MCQ Option Shuffling : Yes Is Question Mandatory : No Option Orientation : Vertical

Correct Marks : 1 Wrong Marks : 0.25

वह आरेख चुनिए जो नीचे दिए गए वर्गों के बीच के संबंध का सही निरूपण करता है।

लाल, काला, पीला

Options :

1. ✔

2. ✖

3. ✖ 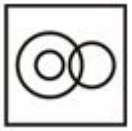

4. ✖

Question Number : 29 Question Id : 54062624101 Question Type : MCQ Option Shuffling : Yes Is Question Mandatory : No Option Orientation : Vertical

Correct Marks : 1 Wrong Marks : 0.25

How many grapes are orange?

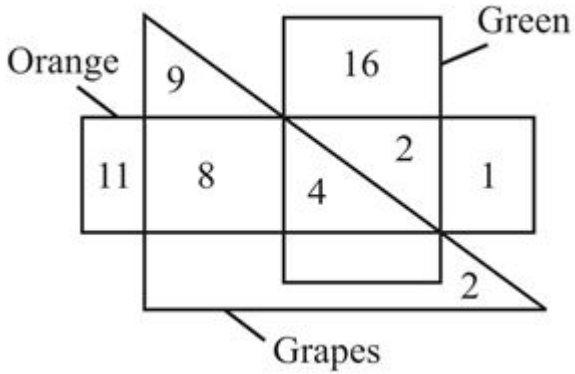

Options :

1. ✖ 15
2. ✖ 14
3. ✔ 12
4. ✖ 8

Question Number : 29 Question Id : 54062624101 Question Type : MCQ Option Shuffling : Yes Is Question Mandatory : No Option Orientation : Vertical

Correct Marks : 1 Wrong Marks : 0.25

कितने अंगूर, संतरे हैं?

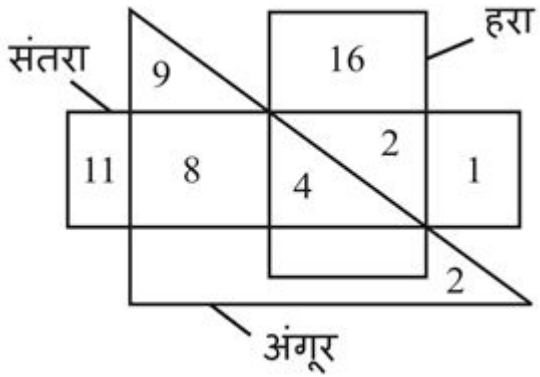

Options :

1. ✖ 15
2. ✖ 14
3. ✔ 12
4. ✖ 8

Question Number : 30 Question Id : 54062624102 Question Type : MCQ Option Shuffling : Yes Is Question Mandatory : No Option Orientation : Vertical

Correct Marks : 1 Wrong Marks : 0.25

How many red are tyre?

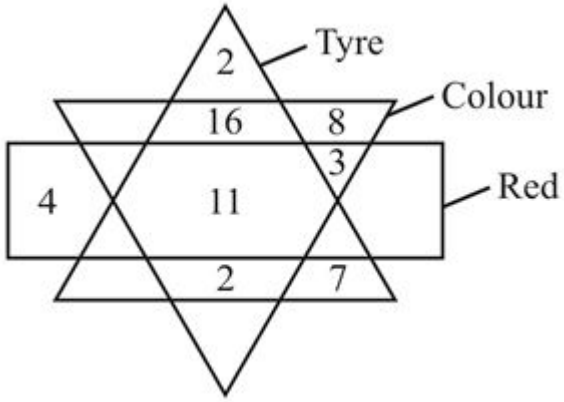

Options :

1. ✔ 11
2. ✖ 14

3. ✖ 3

4. ✖ 27

Question Number : 30 Question Id : 54062624102 Question Type : MCQ Option Shuffling : Yes Is Question Mandatory : No Option Orientation : Vertical

Correct Marks : 1 Wrong Marks : 0.25

कितने लाल, टायर हैं?

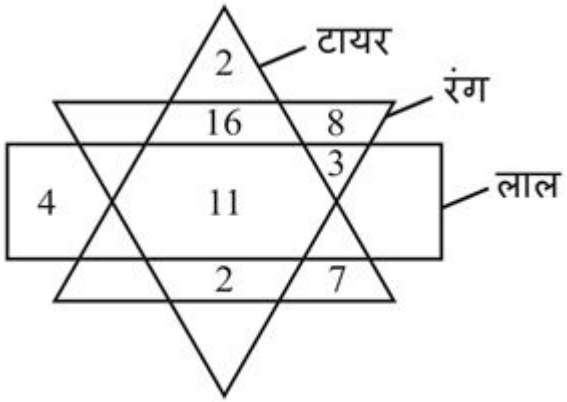

Options :

1. ✔ 11

2. ✖ 14

3. ✖ 3

4. ✖ 27

Question Number : 31 Question Id : 54062624103 Question Type : MCQ Option Shuffling : Yes Is Question Mandatory : No Option Orientation : Vertical

Correct Marks : 1 Wrong Marks : 0.25

Based on the given diagram, which of the following statement(s) is/are not correct?

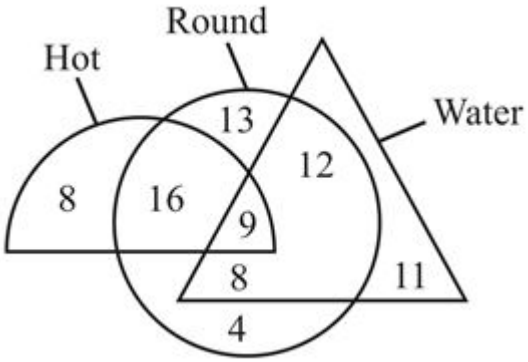

I. Number of hot which are neither water nor round, are 8.
II. Total number of water are 41.

Options :

1. ✖ Only I
2. ✔ Only II
3. ✖ Both I and II
4. ✖ Neither I nor II

Question Number : 31 Question Id : 54062624103 Question Type : MCQ Option Shuffling : Yes Is Question Mandatory : No Option Orientation : Vertical

Correct Marks : 1 Wrong Marks : 0.25

दिए गए आरेख के आधार पर, निम्नलिखित में से कौन सा/से कथन सही नहीं है/हैं?

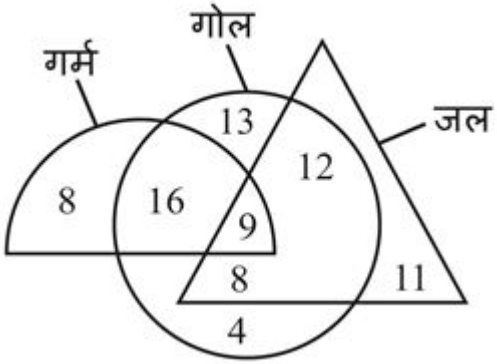

I. वह गर्म जो ना तो जल है ना ही गोल है, की संख्या 8 हैं।
II. जल की कुल संख्या 41 हैं।

Options :

1. ✖ केवल I
2. ✔ केवल II
3. ✖ I तथा II दोनों
4. ✖ ना ही I ना ही II

Question Number : 32 Question Id : 54062624104 Question Type : MCQ Option Shuffling : Yes Is Question Mandatory : No Option Orientation : Vertical

Correct Marks : 1 Wrong Marks : 0.25

Based on the given diagram, which of the following statement(s) is/are not correct?

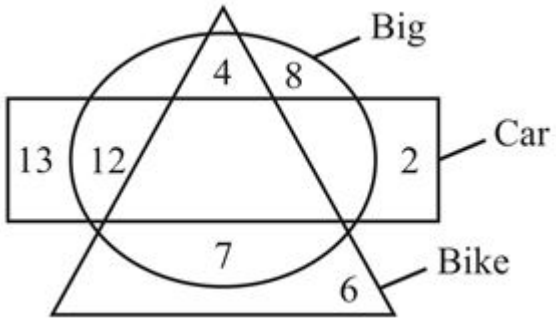

I. Number of big which are bike, are 10.
II. Number of car which are only big, are 14.

Options :

1. ✖ Only I
2. ✖ Only II
3. ✔ Both I and II
4. ✖ Neither I nor II

Question Number : 32 Question Id : 54062624104 Question Type : MCQ Option Shuffling : Yes Is Question Mandatory : No Option Orientation : Vertical

Correct Marks : 1 Wrong Marks : 0.25

दिए गए आरेख के आधार पर, निम्नलिखित में से कौन सा/से कथन सही नहीं है/हैं?

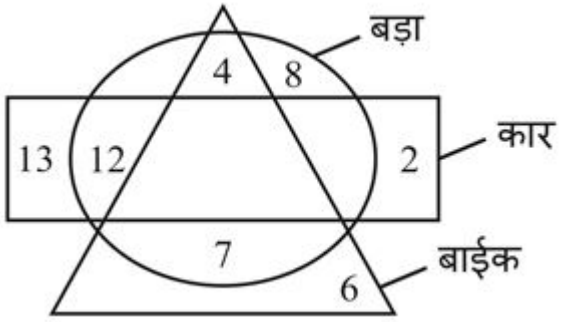

I. वह बड़े जो बाईक है, की संख्या 10 हैं।
II. वह कार जो केवल बड़ी है, की संख्या 14 हैं।

Options :

1. ✖ केवल I
2. ✖ केवल II
3. ✔ I तथा II दोनों
4. ✖ ना ही I ना ही II

Question Number : 33 Question Id : 54062624105 Question Type : MCQ Option Shuffling : Yes Is Question Mandatory : No Option Orientation : Vertical

Correct Marks : 1 Wrong Marks : 0.25

Which figure is similar to the given figures?

Options :

1. ✔

2. ✖

3. ✖

4. ✖

Question Number : 33 Question Id : 54062624105 Question Type : MCQ Option Shuffling : Yes Is Question Mandatory : No Option Orientation : Vertical

Correct Marks : 1 Wrong Marks : 0.25

कौन सी आकृति दी गई आकृतियों के समान है?

Options :

1. ✔

2. ✖

3. ✖

4. ✖

Question Number : 34 Question Id : 54062624106 Question Type : MCQ Option Shuffling : Yes Is Question Mandatory : No Option Orientation : Vertical

Correct Marks : 1 Wrong Marks : 0.25

Which figure is similar to the given figures?

Options :

1. ✖

2. ✖ 

3. ✔

4. ✖ 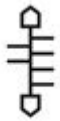

Question Number : 34 Question Id : 54062624106 Question Type : MCQ Option Shuffling : Yes Is Question Mandatory : No Option

Orientation : Vertical

Correct Marks : 1 Wrong Marks : 0.25

कौन सी आकृति दी गई आकृतियों के समान है?

Options :

1. ✖

2. ✖ 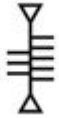

3. ✔

4. ✖ 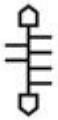

Question Number : 35 Question Id : 54062624107 Question Type : MCQ Option Shuffling : Yes Is Question Mandatory : No Option Orientation : Vertical

Correct Marks : 1 Wrong Marks : 0.25

In the following question, select the odd figure from the given alternatives.

Options :

1. ✖ 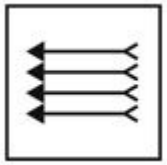

2. ✔ 

3. ✖ 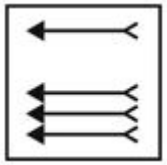

4. ✖ 

Question Number : 35 Question Id : 54062624107 Question Type : MCQ Option Shuffling : Yes Is Question Mandatory : No Option Orientation : Vertical

Correct Marks : 1 Wrong Marks : 0.25

निम्नलिखित प्रश्न में, दिए गए विकल्पों में से विषम आकृति को चुनिए।

Options :

1. ✖ 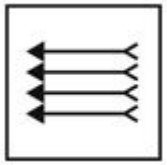

2. ✔ 

3. ✖ 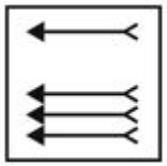

4. ✖ 

Question Number : 36 Question Id : 54062624108 Question Type : MCQ Option Shuffling : Yes Is Question Mandatory : No Option Orientation : Vertical

Correct Marks : 1 Wrong Marks : 0.25

Two figures given on the left side of (::) are related with some logic/rule/relation. Select the missing figure on the right of (::) from the given alternatives based on the same logic/rule/relation.

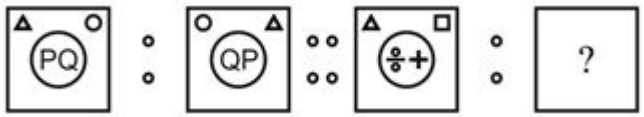

Options :

1. ✔

2. ✖

3. ✖

4. ✖

Question Number : 36 Question Id : 54062624108 Question Type : MCQ Option Shuffling : Yes Is Question Mandatory : No Option Orientation : Vertical

Correct Marks : 1 Wrong Marks : 0.25

(::) के बायीं ओर दी गयी दो आकृतियाँ किसी तर्क/नियम/संबंध से संबंधित है। दिये गये विकल्पों में से (::) के दायीं ओर समान तर्क/नियम/संबंध पर आधारित लुप्त आकृति को चुनिये।

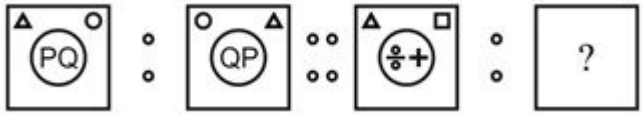

Options :

1. ✔

2. ✖

3. ✖

4. ✖

Question Number : 37 Question Id : 54062624109 Question Type : MCQ Option Shuffling : Yes Is Question Mandatory : No Option Orientation : Vertical

Correct Marks : 1 Wrong Marks : 0.25

How many quadrilaterals are there in the given figure?

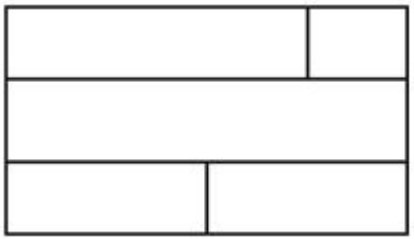

Options :

1. ✔ 10
2. ✖ 12
3. ✖ 11
4. ✖ 13

Question Number : 37 Question Id : 54062624109 Question Type : MCQ Option Shuffling : Yes Is Question Mandatory : No Option Orientation : Vertical

Correct Marks : 1 Wrong Marks : 0.25

दी गई आकृति में कितने चतुर्भुज हैं?

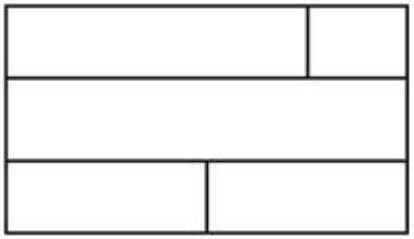

Options :

1. ✔ 10
2. ✖ 12

3. ✖ 11
4. ✖ 13

Question Number : 38 Question Id : 54062624110 Question Type : MCQ Option Shuffling : Yes Is Question Mandatory : No Option Orientation : Vertical

Correct Marks : 1 Wrong Marks : 0.25

Three positions of a dice are given below, what can come on the adjacent faces to the face containing 'K' on it?
I. L, S
II. G, R

Options :

1. ✔ Only I
2. ✖ Only II
3. ✖ Both I and II
4. ✖ Neither I nor II

Question Number : 38 Question Id : 54062624110 Question Type : MCQ Option Shuffling : Yes Is Question Mandatory : No Option Orientation : Vertical

Correct Marks : 1 Wrong Marks : 0.25

नीचे एक पासे की तीन अवस्थाएँ दर्शायी गयी हैं, 'K' युक्त फलक की संलग्न फलकों पर क्या आ सकता है?
I. L, S
II. G, R

Options :

1. ✔ केवल I
2. ✖ केवल II

3. ✖ I तथा II दोनों

4. ✖ ना ही I ना ही II

Question Number : 39 Question Id : 54062624111 Question Type : MCQ Option Shuffling : Yes Is Question Mandatory : No Option Orientation : Vertical

Correct Marks : 1 Wrong Marks : 0.25

If a mirror is placed on the line AB, then which of the answer figures is the right image of the given figure?



Options :

1. ✖

2. ✖

3. ✖

4. ✔

Question Number : 39 Question Id : 54062624111 Question Type : MCQ Option Shuffling : Yes Is Question Mandatory : No Option

Orientation : Vertical

Correct Marks : 1 Wrong Marks : 0.25

यदि एक दर्पण को AB रेखा पर रखा जाए, तो दी गई उत्तर आकृतियों में से कौन सी आकृति प्रश्न आकृति की सही प्रतिबिंब होगी?



Options :

1. ✖

2. ✖

3. ✖

4. ✔

Question Number : 40 Question Id : 54062624112 Question Type : MCQ Option Shuffling : Yes Is Question Mandatory : No Option Orientation : Vertical

Correct Marks : 1 Wrong Marks : 0.25

A piece of paper is folded and punched as shown below in the question figures. From the given answer figures, indicate how it will appear when opened?

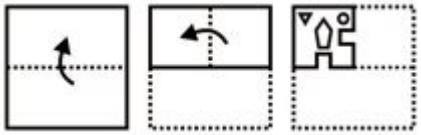

Options :

1. ✖

2. ✔

3. ✖

4. ✖

Question Number : 40 Question Id : 54062624112 Question Type : MCQ Option Shuffling : Yes Is Question Mandatory : No Option Orientation : Vertical

Correct Marks : 1 Wrong Marks : 0.25

नीचे के प्रश्न आकृतियों में दिखाए अनुसार कागज को मोड़कर छेदने तथा खोलने के बाद वह किस उत्तर आकृति जैसा दिखाई देगा?

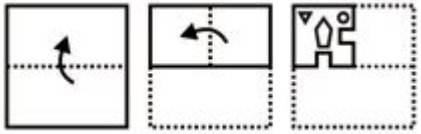

Options :

1. ✖

2. ✔

3. ✖

4. ✖

General Awareness1

Group Number :	3
Group Id :	540626948
Group Maximum Duration :	0
Group Minimum Duration :	0
Show Attended Group? :	No
Edit Attended Group? :	No
Break time :	0
Group Marks :	20
Is this Group for Examiner? :	No

General Awareness1

Section Id :	5406261195
Section Number :	1
Section type :	Online
Mandatory or Optional :	Mandatory
Number of Questions :	20
Number of Questions to be attempted :	20
Section Marks :	20
Enable Mark as Answered Mark for Review and Clear Response :	Yes
Sub-Section Number :	1
Sub-Section Id :	5406261423
Question Shuffling Allowed :	Yes

Question Number : 41 Question Id : 54062624113 Question Type : MCQ Option Shuffling : Yes Is Question Mandatory : No Option Orientation : Vertical

Correct Marks : 1 Wrong Marks : 0.25

Pavagadh fort is located in which state?

Options :

1. ✖ Haryana
2. ✖ Jharkhand
3. ✖ Odisha
4. ✔ Gujarat

Question Number : 41 Question Id : 54062624113 Question Type : MCQ Option Shuffling : Yes Is Question Mandatory : No Option Orientation : Vertical

Correct Marks : 1 Wrong Marks : 0.25

पावागढ़ किला किस राज्य में स्थित है?

Options :

1. ✖ हरियाणा
2. ✖ झारखंड
3. ✖ ओडिशा
4. ✔ गुजरात

Question Number : 42 Question Id : 54062624114 Question Type : MCQ Option Shuffling : Yes Is Question Mandatory : No Option Orientation : Vertical

Correct Marks : 1 Wrong Marks : 0.25

Bathukamma festival belongs to _____.

Options :

1. ✔ Telangana
2. ✖ Haryana
3. ✖ Manipur
4. ✖ Kerala

Question Number : 42 Question Id : 54062624114 Question Type : MCQ Option Shuffling : Yes Is Question Mandatory : No Option Orientation : Vertical

Correct Marks : 1 Wrong Marks : 0.25

बतुकम्म त्यौहार _____ से संबंधित है।

Options :

1. ✔ तेलंगाना
2. ✖ हरियाणा
3. ✖ मणिपुर
4. ✖ केरल

Question Number : 43 Question Id : 54062624115 Question Type : MCQ Option Shuffling : Yes Is Question Mandatory : No Option Orientation : Vertical

Correct Marks : 1 Wrong Marks : 0.25

_____ is a bowed lute played by the manganiars of west Rajasthan.

Options :

1. ✔ Kamaicha
2. ✖ Toomba
3. ✖ Nadaswaram
4. ✖ Jhanj

Question Number : 43 Question Id : 54062624115 Question Type : MCQ Option Shuffling : Yes Is Question Mandatory : No Option Orientation : Vertical

Correct Marks : 1 Wrong Marks : 0.25

_____ पश्चिम राजस्थान के मंगनियर समुदाय द्वारा बनायी जाने वाली वीणा है।

Options :

1. ✔ कमैचा
2. ✖ तुम्बा
3. ✖ नादस्वरम्
4. ✖ झांझ

Question Number : 44 Question Id : 54062624116 Question Type : MCQ Option Shuffling : Yes Is Question Mandatory : No Option Orientation : Vertical

Correct Marks : 1 Wrong Marks : 0.25

Which of the following pair of festival – State is/are correct?

I. Solung – Arunachal Pradesh
II. Sarhul – Jharkhand

Options :

1. ✖ Only I
2. ✖ Only II
3. ✔ Both I and II
4. ✖ Neither I nor II

Question Number : 44 Question Id : 54062624116 Question Type : MCQ Option Shuffling : Yes Is Question Mandatory : No Option Orientation : Vertical

Correct Marks : 1 Wrong Marks : 0.25

राज्य – त्यौहार का निम्नलिखित में से कौन सा/से युग्म सही है/हैं?

I. सोलुंग – अरुणाचल प्रदेश
II. सरहुल – झारखंड

Options :

1. ✖ केवल I
2. ✖ केवल II
3. ✔ I तथा II दोनों

4. ✖ ना ही I ना ही II

Question Number : 45 Question Id : 54062624117 Question Type : MCQ Option Shuffling : Yes Is Question Mandatory : No Option Orientation : Vertical

Correct Marks : 1 Wrong Marks : 0.25

What is the market value of all the goods and services produced in the country during a year is called?

Options :

1. ✔ GDP
2. ✖ GNP
3. ✖ NNP
4. ✖ GVA

Question Number : 45 Question Id : 54062624117 Question Type : MCQ Option Shuffling : Yes Is Question Mandatory : No Option Orientation : Vertical

Correct Marks : 1 Wrong Marks : 0.25

एक वर्ष के दौरान देश में उत्पादित सभी वस्तुओं और सेवाओं का बाजार मूल्य क्या कहलाता है?

Options :

1. ✔ जी.डी.पी.
2. ✖ जी.एन.पी.
3. ✖ एन.एन.पी.
4. ✖ जी.वी.ए.

Question Number : 46 Question Id : 54062624118 Question Type : MCQ Option Shuffling : Yes Is Question Mandatory : No Option Orientation : Vertical

Correct Marks : 1 Wrong Marks : 0.25

In India, Goods and Services tax (GST) regime was implemented from _____.

Options :

1. ✖ 1st April 2015
2. ✔ 1st July 2017
3. ✖ 1st June 2015
4. ✖ 1st March 2017

Question Number : 46 Question Id : 54062624118 Question Type : MCQ Option Shuffling : Yes Is Question Mandatory : No Option Orientation : Vertical

Correct Marks : 1 Wrong Marks : 0.25

भारत में वस्तु एवं सेवा कर (जीएसटी) व्यवस्था _____ से लागू किया गया है।

Options :

1. ✖ 1 अप्रैल 2015
2. ✔ 1 जुलाई 2017
3. ✖ 1 जून 2015
4. ✖ 1 मार्च 2017

Question Number : 47 Question Id : 54062624119 Question Type : MCQ Option Shuffling : Yes Is Question Mandatory : No Option Orientation : Vertical

Correct Marks : 1 Wrong Marks : 0.25

The value of GDP at the constant set of prices (or constant prices) is_____.

I. Nominal GDP
II. Real GDP

Options :

1. ✖ Only I
2. ✔ Only II
3. ✖ Both I and II
4. ✖ Neither I nor II

Question Number : 47 Question Id : 54062624119 Question Type : MCQ Option Shuffling : Yes Is Question Mandatory : No Option Orientation : Vertical

Correct Marks : 1 Wrong Marks : 0.25

स्थिर मूल्यों के सेट (या स्थिर मूल्य) पर जीडीपी का मान _____ है।

I. नाममात्र जीडीपी
II. वास्तविक जीडीपी

Options :

1. ✖ केवल I

2. ✔ केवल II
3. ✖ I और II दोनों
4. ✖ ना तो I, ना तो II

Question Number : 48 Question Id : 54062624120 Question Type : MCQ Option Shuffling : Yes Is Question Mandatory : No Option Orientation : Vertical

Correct Marks : 1 Wrong Marks : 0.25

Which of the following statement(s) is/are true regarding Reserve Deposit Ratio (RDR)?

I. Banks use this reserve to meet the demand for cash by account holders.
II. Reserve Deposit Ratio consist of vault cash in banks and deposits of commercial banks with RBI.

Options :

1. ✖ Only I
2. ✖ Only II
3. ✔ Both I and II
4. ✖ Neither I nor II

Question Number : 48 Question Id : 54062624120 Question Type : MCQ Option Shuffling : Yes Is Question Mandatory : No Option Orientation : Vertical

Correct Marks : 1 Wrong Marks : 0.25

निम्नलिखित कथन/कथनों में कौन सा/से आरक्षित जमा अनुपात (आरडीआर) के बारे में सही है/हैं?

I. बैंक खाताधारकों द्वारा नकदी की माँग को पूरा करने के लिए इस आरक्षित निधि का उपयोग करते हैं।
II. आरक्षित जमा अनुपात में बैंकों के पास वाल्ट/तिजोरी में रखे नकद और भारतीय रिजर्व बैंक में वाणिज्यिक बैंकों के रखे जमा शामिल है।

Options :

1. ✖ केवल I
2. ✖ केवल II
3. ✔ I और II दोनों
4. ✖ ना तो I, ना तो II

Question Number : 49 Question Id : 54062624121 Question Type : MCQ Option Shuffling : Yes Is Question Mandatory : No Option Orientation : Vertical

Correct Marks : 1 Wrong Marks : 0.25

Which of the following statement(s) is/are true regarding Marginal Standing Facility (MSF)?

I. It is one of the instruments of monetary policy of India.
II. It provides a safety valve against unanticipated liquidity shocks to the banking system.

Options :

1. ✖ Only I
2. ✖ Only II
3. ✔ Both I and II
4. ✖ Neither I nor II

Question Number : 49 Question Id : 54062624121 Question Type : MCQ Option Shuffling : Yes Is Question Mandatory : No Option Orientation : Vertical

Correct Marks : 1 Wrong Marks : 0.25

निम्नलिखित कथन/कथनों में कौन सा/से सीमांत स्थायी सुविधा (एमएसएफ) के संबंध में सही है/हैं?

I. यह भारत की मौद्रिक नीति के उपकरणों में से एक है।
II. यह बैंकिंग प्रणाली को अप्रत्याशित चलनिधि झटके के खिलाफ एक सुरक्षा वाल्व प्रदान करता है।

Options :

1. ✖ केवल I
2. ✖ केवल II
3. ✔ I और II दोनों
4. ✖ ना तो I, ना तो II

Question Number : 50 Question Id : 54062624122 Question Type : MCQ Option Shuffling : Yes Is Question Mandatory : No Option Orientation : Vertical

Correct Marks : 1 Wrong Marks : 0.25

If mass of body on earth is 10, then weight is _____ kg.

Options :

1. ✖ 45
2. ✖ 90
3. ✖ 49
4. ✔ 98

Question Number : 50 Question Id : 54062624122 Question Type : MCQ Option Shuffling : Yes Is Question Mandatory : No Option Orientation : Vertical

Correct Marks : 1 Wrong Marks : 0.25

यदि किसी पिण्ड का द्रव्यमान पृथ्वी पर 10 है, तो भार _____ कि.ग्रा. है।

Options :

1. ✖ 45
2. ✖ 90
3. ✖ 49
4. ✔ 98

Question Number : 51 Question Id : 54062624123 Question Type : MCQ Option Shuffling : Yes Is Question Mandatory : No Option Orientation : Vertical

Correct Marks : 1 Wrong Marks : 0.25

In a concave mirror, when object is at infinity, then the position of image is _____.

Options :

1. ✖ at infinity
2. ✖ between F and C
3. ✔ at F
4. ✖ at C

Question Number : 51 Question Id : 54062624123 Question Type : MCQ Option Shuffling : Yes Is Question Mandatory : No Option Orientation : Vertical

Correct Marks : 1 Wrong Marks : 0.25

एक अवतल दर्पण में, जब बिंब अनंत पर होता है, तो प्रतिबिंब की स्थिति _____ होती है।

Options :

1. ✖ अनंत पर
2. ✖ F तथा C के बीच
3. ✔ F पर
4. ✖ C पर

Question Number : 52 Question Id : 54062624124 Question Type : MCQ Option Shuffling : Yes Is Question Mandatory : No Option Orientation : Vertical

Correct Marks : 1 Wrong Marks : 0.25

Which of the following statement(s) is/are correct?

I. Birds excrete uric acid in semi solid form.
II. In plants, foods is transported by phloem.

Options :

1. ✖ Only I
2. ✖ Only II
3. ✔ Both I and II
4. ✖ Neither I nor II

Question Number : 52 Question Id : 54062624124 Question Type : MCQ Option Shuffling : Yes Is Question Mandatory : No Option Orientation : Vertical

Correct Marks : 1 Wrong Marks : 0.25

निम्नलिखित में से कौन सा/से कथन सही है/हैं?

I. पक्षी अर्ध घन रूप में यूरिक अम्ल का उत्सर्जन करते हैं।
II. पौधों में भोजन फ्लोएम द्वारा परिवहित होता है।

Options :

1. ✖ केवल I
2. ✖ केवल II
3. ✔ I तथा II दोनों
4. ✖ ना ही I ना ही II

Question Number : 53 Question Id : 54062624125 Question Type : MCQ Option Shuffling : Yes Is Question Mandatory : No Option Orientation : Vertical

Correct Marks : 1 Wrong Marks : 0.25

Which of the following pair is/are correct?

I. Hydra – Binary fission
II. Amoeba – Budding

Options :

1. ✖ Only I
2. ✖ Only II
3. ✖ Both I and II
4. ✔ Neither I nor II

Question Number : 53 Question Id : 54062624125 Question Type : MCQ Option Shuffling : Yes Is Question Mandatory : No Option Orientation : Vertical

Correct Marks : 1 Wrong Marks : 0.25

निम्नलिखित में से कौन सा/से युग्म सही है/हैं?

I. हाइड्रा – द्विखंडन
II. अमीबा – मुकुलन

Options :

1. ✖ केवल I
2. ✖ केवल II
3. ✖ I तथा II दोनों
4. ✔ ना ही I ना ही II

Question Number : 54 Question Id : 54062624126 Question Type : MCQ Option Shuffling : Yes Is Question Mandatory : No Option Orientation : Vertical

Correct Marks : 1 Wrong Marks : 0.25

The width of Himalayas in Kashmir is about _____ km.

Options :

1. ✖ 500
2. ✔ 400
3. ✖ 300
4. ✖ 600

Question Number : 54 Question Id : 54062624126 Question Type : MCQ Option Shuffling : Yes Is Question Mandatory : No Option Orientation : Vertical

Correct Marks : 1 Wrong Marks : 0.25

हिमालय की चौड़ाई कश्मीर में लगभग _____ कि.मी. है।

Options :

1. ✖ 500
2. ✔ 400
3. ✖ 300
4. ✖ 600

Question Number : 55 Question Id : 54062624127 Question Type : MCQ Option Shuffling : Yes Is Question Mandatory : No Option Orientation : Vertical

Correct Marks : 1 Wrong Marks : 0.25

The outer-most range of the Himalayas is called the _____.

Options :

1. ✖ Vindhyachal
2. ✔ Shiwaliks
3. ✖ Outer range
4. ✖ Himadri

Question Number : 55 Question Id : 54062624127 Question Type : MCQ Option Shuffling : Yes Is Question Mandatory : No Option Orientation : Vertical

Correct Marks : 1 Wrong Marks : 0.25

हिमालय की सबसे बाहरी श्रंखला को _____ कहा जाता है।

Options :

1. ✖ विंधयाचल
2. ✔ शिवालिक
3. ✖ बाहरी श्रंखला
4. ✖ हिमाद्री

Question Number : 56 Question Id : 54062624128 Question Type : MCQ Option Shuffling : Yes Is Question Mandatory : No Option Orientation : Vertical

Correct Marks : 1 Wrong Marks : 0.25

Which of the following are tributaries of Krishna?

I. Musi

II. Bhima
III. Koyna

Options :

1. ✖ I and II
2. ✖ II and III
3. ✖ I and III
4. ✔ I, II and III

Question Number : 56 Question Id : 54062624128 Question Type : MCQ Option Shuffling : Yes Is Question Mandatory : No Option Orientation : Vertical

Correct Marks : 1 Wrong Marks : 0.25

निम्नलिखित में से कौन सी कृष्णा की सहायक नदियाँ हैं?

I. मुसी
II. भीमा
III. कोयना

Options :

1. ✖ I तथा II
2. ✖ II तथा III
3. ✖ I तथा III
4. ✔ I, II तथा III

Question Number : 57 Question Id : 54062624129 Question Type : MCQ Option Shuffling : Yes Is Question Mandatory : No Option Orientation : Vertical

Correct Marks : 1 Wrong Marks : 0.25

Which of the following tree is found in tropical deciduous forest?

I. Shisham
II. Sandalwood

Options :

1. ✖ Only I
2. ✖ Only II
3. ✔ Both I and II

4. ✖ Neither I nor II

Question Number : 57 Question Id : 54062624129 Question Type : MCQ Option Shuffling : Yes Is Question Mandatory : No Option Orientation : Vertical

Correct Marks : 1 Wrong Marks : 0.25

निम्नलिखित में से कौन सा पेड़ उष्ण कटिबंधीय पर्णपाती वन में पाया जाता है?

I. शीशम
II. चंदन

Options :

1. ✖ केवल I
2. ✖ केवल II
3. ✔ I तथा II दोनों
4. ✖ ना ही I ना ही II

Question Number : 58 Question Id : 54062624130 Question Type : MCQ Option Shuffling : Yes Is Question Mandatory : No Option Orientation : Vertical

Correct Marks : 1 Wrong Marks : 0.25

Which of the following is/are coal producing area(s) in India?

I. Raniganj
II. Jharia
III. Bokaro

Options :

1. ✖ I and II
2. ✖ II and III
3. ✖ I and III
4. ✔ I, II and III

Question Number : 58 Question Id : 54062624130 Question Type : MCQ Option Shuffling : Yes Is Question Mandatory : No Option Orientation : Vertical

Correct Marks : 1 Wrong Marks : 0.25

निम्नलिखित में से कौन सा भारत का/के कोयला उत्पादक क्षेत्र है/हैं?

I. रानीगंज
II. झरिया
III. बोकारो

Options :

1. ✖ I तथा II
2. ✖ II तथा III
3. ✖ I तथा III
4. ✔ I, II तथा III

Question Number : 59 Question Id : 54062624131 Question Type : MCQ Option Shuffling : Yes Is Question Mandatory : No Option Orientation : Vertical

Correct Marks : 1 Wrong Marks : 0.25

Who did the partition of Bengal?

Options :

1. ✖ Louis Mountbatten
2. ✖ Charles Canning
3. ✔ Viceroy Curzon
4. ✖ Lord Simon

Question Number : 59 Question Id : 54062624131 Question Type : MCQ Option Shuffling : Yes Is Question Mandatory : No Option Orientation : Vertical

Correct Marks : 1 Wrong Marks : 0.25

बंगाल का विभाजन किसने किया था?

Options :

1. ✖ लूइस माउंटबैटन
2. ✖ चार्ल्स कनिंग
3. ✔ वायसराय कर्ज़न
4. ✖ लॉर्ड साईमन

Question Number : 60 Question Id : 54062624132 Question Type : MCQ Option Shuffling : Yes Is Question Mandatory : No Option Orientation : Vertical

Correct Marks : 1 Wrong Marks : 0.25

_____ prepared a grammar for Sanskrit.

Options :

1. ✖ Gautam
2. ✖ Raghuvir
3. ✔ Panini
4. ✖ Omkar Shastri

Question Number : 60 Question Id : 54062624132 Question Type : MCQ Option Shuffling : Yes Is Question Mandatory : No Option Orientation : Vertical

Correct Marks : 1 Wrong Marks : 0.25

_____ ने संस्कृत भाषा के व्याकरण की रचना की है।

Options :

1. ✖ गौतम
2. ✖ रघुवीर
3. ✔ पाणिनि
4. ✖ ओमकार शास्त्री

General Awareness2

Group Number :	4
Group Id :	540626949
Group Maximum Duration :	0
Group Minimum Duration :	0
Show Attended Group? :	No
Edit Attended Group? :	No
Break time :	0
Group Marks :	20
Is this Group for Examiner? :	No

General Awareness2

Section Id :	5406261196
Section Number :	1
Section type :	Online
Mandatory or Optional :	Mandatory
Number of Questions :	20
Number of Questions to be attempted :	20
Section Marks :	20
Enable Mark as Answered Mark for Review and Clear Response :	Yes
Sub-Section Number :	1
Sub-Section Id :	5406261424
Question Shuffling Allowed :	Yes

Question Number : 61 Question Id : 54062624133 Question Type : MCQ Option Shuffling : Yes Is Question Mandatory : No Option Orientation : Vertical

Correct Marks : 1 Wrong Marks : 0.25

_____ defeated Ibrahim Lodi at Panipat in 1526.

Options :

1. ✖ Shahjahan
2. ✖ Humayun
3. ✔ Babur
4. ✖ Akbar

Question Number : 61 Question Id : 54062624133 Question Type : MCQ Option Shuffling : Yes Is Question Mandatory : No Option Orientation : Vertical

Correct Marks : 1 Wrong Marks : 0.25

_____ ने 1526 में इब्राहिम लोदी को पानीपत में हराया था।

Options :

1. ✖ शाहजहाँ
2. ✖ हुमायूँ
3. ✔ बाबर
4. ✖ अकबर

Question Number : 62 Question Id : 54062624134 Question Type : MCQ Option Shuffling : Yes Is Question Mandatory : No Option Orientation : Vertical

Correct Marks : 1 Wrong Marks : 0.25

In which year did the first cotton mill was setup in India?

Options :

1. ✖ 1856
2. ✔ 1854
3. ✖ 1865
4. ✖ 1846

Question Number : 62 Question Id : 54062624134 Question Type : MCQ Option Shuffling : Yes Is Question Mandatory : No Option Orientation : Vertical

Correct Marks : 1 Wrong Marks : 0.25

किस वर्ष में भारत में पहली सूती कपड़ा मिल की स्थापना हुई थी?

Options :

1. ✖ 1856
2. ✔ 1854
3. ✖ 1865
4. ✖ 1846

Question Number : 63 Question Id : 54062624135 Question Type : MCQ Option Shuffling : Yes Is Question Mandatory : No Option Orientation : Vertical

Correct Marks : 1 Wrong Marks : 0.25

In which year was the Calico Act passed in England?

Options :

1. ✖ 1725
2. ✔ 1720
3. ✖ 1715
4. ✖ 1723

Question Number : 63 Question Id : 54062624135 Question Type : MCQ Option Shuffling : Yes Is Question Mandatory : No Option

Orientation : Vertical

Correct Marks : 1 Wrong Marks : 0.25

कैलिको नियम इंग्लैंड में किस वर्ष में पारित किये गए थे?

Options :

1. ✖ 1725
2. ✔ 1720
3. ✖ 1715
4. ✖ 1723

Question Number : 64 Question Id : 54062624136 Question Type : MCQ Option Shuffling : Yes Is Question Mandatory : No Option Orientation : Vertical

Correct Marks : 1 Wrong Marks : 0.25

Who was the first Indian woman to win the Nobel Peace Prize?

Options :

1. ✖ Indira Gandhi
2. ✖ Sarojini Naidu
3. ✔ Mother Teressa
4. ✖ Arunima Sinha

Question Number : 64 Question Id : 54062624136 Question Type : MCQ Option Shuffling : Yes Is Question Mandatory : No Option Orientation : Vertical

Correct Marks : 1 Wrong Marks : 0.25

नोबल शांति पुरस्कार जीतने वाली पहली भारतीय महिला कौन थी?

Options :

1. ✖ इंदिरा गांधी
2. ✖ सरोजिनी नायडू
3. ✔ मदर टेरेसा
4. ✖ अरुणिमा सिन्हा

Question Number : 65 Question Id : 54062624137 Question Type : MCQ Option Shuffling : Yes Is Question Mandatory : No Option Orientation : Vertical

Correct Marks : 1 Wrong Marks : 0.25

Who is the author of the book ‘A Promised Land’?

Options :

1. ✔ Barack Obama
2. ✖ Anna burns
3. ✖ Haruki Murakami
4. ✖ Devdutt Pattnaik

Question Number : 65 Question Id : 54062624137 Question Type : MCQ Option Shuffling : Yes Is Question Mandatory : No Option Orientation : Vertical

Correct Marks : 1 Wrong Marks : 0.25

ए प्रोमिस्ड लैण्ड' के लेखक कौन हैं?

Options :

1. ✔ बराक ओबामा
2. ✖ अन्ना बर्नस
3. ✖ हारुकी मुराकामी
4. ✖ देवदत्त पटनायक

Question Number : 66 Question Id : 54062624138 Question Type : MCQ Option Shuffling : Yes Is Question Mandatory : No Option Orientation : Vertical

Correct Marks : 1 Wrong Marks : 0.25

In September 2021, which of the following institution has launched ‘Project Udaan’, that enables translation of textbooks and other study material?

Options :

1. ✖ IIT Delhi
2. ✔ IIT Bombay
3. ✖ IIT Kanpur
4. ✖ IIT Kharagpur

Question Number : 66 Question Id : 54062624138 Question Type : MCQ Option Shuffling : Yes Is Question Mandatory : No Option Orientation : Vertical

Correct Marks : 1 Wrong Marks : 0.25

सितंबर 2021 में, निम्नलिखित में से किस संस्थान ने ‘प्रोजेक्ट उड़ान’ लॉन्च किया जो पाठ्यपुस्तकों और अन्य अध्ययन सामग्री के अनुवाद को सक्षम बनाता है?

Options :

1. ✖ आई.आई.टी. दिल्ली
2. ✔ आई.आई.टी. मुंबई
3. ✖ आई.आई.टी. कानपुर
4. ✖ आई.आई.टी. खड़गपुर

Question Number : 67 Question Id : 54062624139 Question Type : MCQ Option Shuffling : Yes Is Question Mandatory : No Option Orientation : Vertical

Correct Marks : 1 Wrong Marks : 0.25

In which year, New Development Bank (NDB) was established?

Options :

1. ✖ 2017
2. ✔ 2014
3. ✖ 2018
4. ✖ 2019

Question Number : 67 Question Id : 54062624139 Question Type : MCQ Option Shuffling : Yes Is Question Mandatory : No Option Orientation : Vertical

Correct Marks : 1 Wrong Marks : 0.25

न्यू डेवलपमेंट बैंक (एन.डी.बी.) किस वर्ष में स्थापित किया गया था?

Options :

1. ✖ 2017
2. ✔ 2014
3. ✖ 2018
4. ✖ 2019

Question Number : 68 Question Id : 54062624140 Question Type : MCQ Option Shuffling : Yes Is Question Mandatory : No Option Orientation : Vertical

Correct Marks : 1 Wrong Marks : 0.25

Who has been appointed as the new Chief Justice of India in 2021?

Options :

1. ✖ Ajay Tyagi
2. ✖ Sharad Abode
3. ✔ N V Ramana
4. ✖ Rakesh Saxena

Question Number : 68 Question Id : 54062624140 Question Type : MCQ Option Shuffling : Yes Is Question Mandatory : No Option Orientation : Vertical

Correct Marks : 1 Wrong Marks : 0.25

2021 में भारत के नये मुख्य न्यायधीश के रूप में किसे नियुक्त किया गया है?

Options :

1. ✖ अजय त्यागी
2. ✖ शरद अबोड
3. ✔ एन.वी. रामना
4. ✖ राकेश सक्सेना

Question Number : 69 Question Id : 54062624141 Question Type : MCQ Option Shuffling : Yes Is Question Mandatory : No Option Orientation : Vertical

Correct Marks : 1 Wrong Marks : 0.25

In August 2021, which state government of India launched 'Har Hith Store' scheme to wipe out unemployement by 2024?

Options :

1. ✖ Uttar Pradesh
2. ✖ Bihar
3. ✖ Jharkhand
4. ✔ Haryana

Question Number : 69 Question Id : 54062624141 Question Type : MCQ Option Shuffling : Yes Is Question Mandatory : No Option Orientation : Vertical

Correct Marks : 1 Wrong Marks : 0.25

अगस्त 2021 में, भारत की किस राज्य सरकार ने 2024 तक बेरोजगारी का सफाया करने के लिए 'हर हित स्टोर' योजना शुरू की?

Options :

1. ✖ उत्तर प्रदेश

2. ✖ बिहार
3. ✖ झारखंड
4. ✔ हरियाणा

Question Number : 70 Question Id : 54062624142 Question Type : MCQ Option Shuffling : Yes Is Question Mandatory : No Option Orientation : Vertical

Correct Marks : 1 Wrong Marks : 0.25

Which of the following Indian city has been declared as the first 'water plus' city of India under the Swachh Survekshan 2021?

Options :

1. ✔ Indore
2. ✖ Ahmedabad
3. ✖ Mysore
4. ✖ Pune

Question Number : 70 Question Id : 54062624142 Question Type : MCQ Option Shuffling : Yes Is Question Mandatory : No Option Orientation : Vertical

Correct Marks : 1 Wrong Marks : 0.25

निम्नलिखित में से किस भारतीय शहर को स्वच्छ सर्वेक्षण 2021 के तहत भारत का पहला 'वाटर प्लस' शहर घोषित किया गया है?

Options :

1. ✔ इंदौर
2. ✖ अहमदाबाद
3. ✖ मैसूर
4. ✖ पुणे

Question Number : 71 Question Id : 54062624143 Question Type : MCQ Option Shuffling : Yes Is Question Mandatory : No Option Orientation : Vertical

Correct Marks : 1 Wrong Marks : 0.25

Which country has topped the Environment Performance Index 2020?

Options :

1. ✖ China
2. ✔ Denmark

3. ✖ France
4. ✖ Luxembourg

Question Number : 71 Question Id : 54062624143 Question Type : MCQ Option Shuffling : Yes Is Question Mandatory : No Option Orientation : Vertical

Correct Marks : 1 Wrong Marks : 0.25

किस देश ने 2020 का इन्वायरोण्मेंट परफॉरमेंस इण्डेक्स टॉप किया है?

Options :

1. ✖ चीन
2. ✔ डेनमार्क
3. ✖ फ्रांस
4. ✖ लक्ज़मबर्ग

Question Number : 72 Question Id : 54062624144 Question Type : MCQ Option Shuffling : Yes Is Question Mandatory : No Option Orientation : Vertical

Correct Marks : 1 Wrong Marks : 0.25

Which article of the Indian Constitution deals with duration of houses of parliament?

Options :

1. ✔ 83
2. ✖ 80
3. ✖ 81
4. ✖ 84

Question Number : 72 Question Id : 54062624144 Question Type : MCQ Option Shuffling : Yes Is Question Mandatory : No Option Orientation : Vertical

Correct Marks : 1 Wrong Marks : 0.25

भारतीय संविधान का कौन सा अनुच्छेद संसद के सदनों की अवधि से संबंधित है?

Options :

1. ✔ 83
2. ✖ 80
3. ✖ 81

4. ✖ 84

Question Number : 73 Question Id : 54062624145 Question Type : MCQ Option Shuffling : Yes Is Question Mandatory : No Option Orientation : Vertical

Correct Marks : 1 Wrong Marks : 0.25

Which article of the Indian Constitution deals with rules of court?

Options :

1. ✖ 140
2. ✔ 145
3. ✖ 143
4. ✖ 142

Question Number : 73 Question Id : 54062624145 Question Type : MCQ Option Shuffling : Yes Is Question Mandatory : No Option Orientation : Vertical

Correct Marks : 1 Wrong Marks : 0.25

भारतीय संविधान का कौन सा अनुच्छेद न्यायालय के नियम से संबंधित है?

Options :

1. ✖ 140
2. ✔ 145
3. ✖ 143
4. ✖ 142

Question Number : 74 Question Id : 54062624146 Question Type : MCQ Option Shuffling : Yes Is Question Mandatory : No Option Orientation : Vertical

Correct Marks : 1 Wrong Marks : 0.25

Which of the following subject(s) is/are mentioned in the state list?

I. Intoxicating liquors
II. Relief of the disable and unemployable
III. Agriculture

Options :

1. ✖ I and II
2. ✖ I and III

3. ✖ II and III
4. ✔ I, II and III

Question Number : 74 Question Id : 54062624146 Question Type : MCQ Option Shuffling : Yes Is Question Mandatory : No Option Orientation : Vertical

Correct Marks : 1 Wrong Marks : 0.25

निम्नलिखित में से कौन सा/से विषय/विषयों का उल्लेख राज्य सूची में है/हैं?

I. मादक लिकर
II. निःशक्त और नियोजन के लिए अयोग्य व्यक्तियों की सहायता
III. कृषि

Options :

1. ✖ I तथा II
2. ✖ I तथा III
3. ✖ II तथा III
4. ✔ I, II तथा III

Question Number : 75 Question Id : 54062624147 Question Type : MCQ Option Shuffling : Yes Is Question Mandatory : No Option Orientation : Vertical

Correct Marks : 1 Wrong Marks : 0.25

With respect to the Indian constitution, which of the following pair is/are correct?

I. Tenth Schedule – Validation of certain Acts and Regulations
II. Ninth Schedule – Provisions as to disqualification on ground of defection.

Options :

1. ✖ Only I
2. ✖ Only II
3. ✖ Both I and II
4. ✔ Neither I nor II

Question Number : 75 Question Id : 54062624147 Question Type : MCQ Option Shuffling : Yes Is Question Mandatory : No Option Orientation : Vertical

Correct Marks : 1 Wrong Marks : 0.25

भारतीय संविधान के संदर्भ में,निम्नलिखित में से कौन सा युग्म सही है/हैं?

I. दसवीं अनुसूची – कुछ अधिनियमों और विनियमों का विधिमान्यकरण
II. नवीं अनुसूची - दल परिवर्तन के आधार पर निरर्हता के बारे में उपबंध

Options :

1. ✖ केवल I
2. ✖ केवल II
3. ✖ I तथा II दोनों
4. ✔ ना ही I ना ही II

Question Number : 76 Question Id : 54062624148 Question Type : MCQ Option Shuffling : Yes Is Question Mandatory : No Option Orientation : Vertical

Correct Marks : 1 Wrong Marks : 0.25

ICC Under 19 world cup is held every _____ years.

Options :

1. ✔ 2
2. ✖ 3
3. ✖ 4
4. ✖ 5

Question Number : 76 Question Id : 54062624148 Question Type : MCQ Option Shuffling : Yes Is Question Mandatory : No Option Orientation : Vertical

Correct Marks : 1 Wrong Marks : 0.25

आई.सी.सी. अण्डर 19 वर्ल्ड कप प्रत्येक _____ वर्ष में आयोजित होता है।

Options :

1. ✔ 2
2. ✖ 3
3. ✖ 4
4. ✖ 5

Question Number : 77 Question Id : 54062624149 Question Type : MCQ Option Shuffling : Yes Is Question Mandatory : No Option Orientation : Vertical

Correct Marks : 1 Wrong Marks : 0.25

Which country finished at 3rd place in 2018 Hockey Women's World Cup?

Options :

1. ✔ Spain
2. ✖ Germany
3. ✖ England
4. ✖ Italy

Question Number : 77 Question Id : 54062624149 Question Type : MCQ Option Shuffling : Yes Is Question Mandatory : No Option Orientation : Vertical

Correct Marks : 1 Wrong Marks : 0.25

2018 हॉकी महिला विश्व कप में कौन सा देश तीसरे स्थान पर रहा?

Options :

1. ✔ स्पेन
2. ✖ जर्मनी
3. ✖ इंग्लैंड
4. ✖ इटली

Question Number : 78 Question Id : 54062624150 Question Type : MCQ Option Shuffling : Yes Is Question Mandatory : No Option Orientation : Vertical

Correct Marks : 1 Wrong Marks : 0.25

The 4th test match of India tour of Australia 2021 was played at _____.

Options :

1. ✖ Sydney
2. ✔ Brisbane
3. ✖ Melbourne
4. ✖ Adelaide

Question Number : 78 Question Id : 54062624150 Question Type : MCQ Option Shuffling : Yes Is Question Mandatory : No Option Orientation : Vertical

Correct Marks : 1 Wrong Marks : 0.25

भारत का ऑस्ट्रेलिया दौरे 2021 का 4 था टेस्ट मैच _____ में खेला गया था।

Options :

1. ✖ सिडनी
2. ✔ ब्रिस्बेन
3. ✖ मेलबर्न
4. ✖ एडिलेड

Question Number : 79 Question Id : 54062624151 Question Type : MCQ Option Shuffling : Yes Is Question Mandatory : No Option Orientation : Vertical

Correct Marks : 1 Wrong Marks : 0.25

Which of the following pair of sports – sportsperson is correct?

I. Hockey – Manpreet Singh
II. Cricket – Mansi Joshi

Options :

1. ✖ Only I
2. ✖ Only II
3. ✔ Both I and II
4. ✖ Neither I nor II

Question Number : 79 Question Id : 54062624151 Question Type : MCQ Option Shuffling : Yes Is Question Mandatory : No Option Orientation : Vertical

Correct Marks : 1 Wrong Marks : 0.25

खेल - खिलाड़ी का निम्नलिखित में से कौन सा युग्म सही है?

I. हॉकी - मनप्रीत सिंह
II. क्रिकेट - मानसी जोशी

Options :

1. ✖ केवल I
2. ✖ केवल II
3. ✔ I तथा II दोनों
4. ✖ ना तो I ना तो II

Question Number : 80 Question Id : 54062624152 Question Type : MCQ Option Shuffling : Yes Is Question Mandatory : No Option Orientation : Vertical

Correct Marks : 1 Wrong Marks : 0.25

Which of the following pair of sports – sportsperson is correct?

I. Cricket – Geraint Jones
II. Football – Harry Kane

Options :

1. ✖ Only I
2. ✖ Only II
3. ✔ Both I and II
4. ✖ Neither I nor II

Question Number : 80 Question Id : 54062624152 Question Type : MCQ Option Shuffling : Yes Is Question Mandatory : No Option Orientation : Vertical

Correct Marks : 1 Wrong Marks : 0.25

खेल - खिलाड़ी का निम्नलिखित में से कौन सा युग्म सही है?

I. क्रिकेट - गेरेंट जोन्स
II. फुटबॉल - हेरी केन

Options :

1. ✖ केवल I
2. ✖ केवल II
3. ✔ I तथा II दोनों
4. ✖ ना तो I ना तो II

Arithmetic Ability1

Group Number :	5
Group Id :	540626950
Group Maximum Duration :	0
Group Minimum Duration :	0
Show Attended Group? :	No

Edit Attended Group? :	No
Break time :	0
Group Marks :	20
Is this Group for Examiner? :	No

Arithmetic Ability1

Section Id :	5406261197
Section Number :	1
Section type :	Online
Mandatory or Optional :	Mandatory
Number of Questions :	20
Number of Questions to be attempted :	20
Section Marks :	20
Enable Mark as Answered Mark for Review and Clear Response :	Yes
Sub-Section Number :	1
Sub-Section Id :	5406261425
Question Shuffling Allowed :	Yes

Question Number : 81 Question Id : 54062624153 Question Type : MCQ Option Shuffling : Yes Is Question Mandatory : No Option Orientation : Vertical

Correct Marks : 1 Wrong Marks : 0.25

What is the value of $\frac{1}{1\times4}+\frac{1}{4\times7}+\frac{1}{7\times10}+\frac{1}{10\times13}$?

Options :

1. ✖ $\frac{1}{13}$

2. ✖ $\frac{12}{13}$

3. ✖ $\frac{3}{13}$

4. ✔ $\frac{4}{13}$

Question Number : 81 Question Id : 54062624153 Question Type : MCQ Option Shuffling : Yes Is Question Mandatory : No Option Orientation : Vertical

Correct Marks : 1 Wrong Marks : 0.25

$\frac{1}{1\times4}+\frac{1}{4\times7}+\frac{1}{7\times10}+\frac{1}{10\times13}$ का मान क्या है?

Options :

1. ✖ $\frac{1}{13}$

2. ✖ $\frac{12}{13}$

3. ✖ $\frac{3}{13}$

4. ✔ $\frac{4}{13}$

Question Number : 82 Question Id : 54062624154 Question Type : MCQ Option Shuffling : Yes Is Question Mandatory : No Option Orientation : Vertical

Correct Marks : 1 Wrong Marks : 0.25

What is the value of $(1.1)^2 + (0.01)^2 + (0.001)^2$?

Options :

1. ✔ 1.210101
2. ✖ 1.02101
3. ✖ 1.21101
4. ✖ 1.2101

Question Number : 82 Question Id : 54062624154 Question Type : MCQ Option Shuffling : Yes Is Question Mandatory : No Option Orientation : Vertical

Correct Marks : 1 Wrong Marks : 0.25

$(1.1)^2 + (0.01)^2 + (0.001)^2$ का मान क्या है?

Options :

1. ✔ 1.210101
2. ✖ 1.02101
3. ✖ 1.21101
4. ✖ 1.2101

Question Number : 83 Question Id : 54062624155 Question Type : MCQ Option Shuffling : Yes Is Question Mandatory : No Option Orientation : Vertical

Correct Marks : 1 Wrong Marks : 0.25

Which of the following statement(s) is/are correct?

I. $\frac{1}{\sqrt{9}+\sqrt{7}} > \frac{1}{\sqrt{11}+\sqrt{9}}$

II. $\frac{3}{7} > \frac{5}{11} > \frac{9}{25}$

Options :

1. ✔ Only I
2. ✖ Only II

3. ✖ Both I and II
4. ✖ Neither I nor II

Question Number : 83 Question Id : 54062624155 Question Type : MCQ Option Shuffling : Yes Is Question Mandatory : No Option Orientation : Vertical

Correct Marks : 1 Wrong Marks : 0.25

निम्नलिखित में से कौन सा/से कथन सही हैं/हैं?

I. $\frac{1}{\sqrt{9}+\sqrt{7}} > \frac{1}{\sqrt{11}+\sqrt{9}}$

II. $\frac{3}{7} > \frac{5}{11} > \frac{9}{25}$

Options :

1. ✔ केवल I
2. ✖ केवल II
3. ✖ I तथा II दोनों
4. ✖ ना ही I ना ही II

Question Number : 84 Question Id : 54062624156 Question Type : MCQ Option Shuffling : Yes Is Question Mandatory : No Option Orientation : Vertical

Correct Marks : 1 Wrong Marks : 0.25

What is the value of $\frac{15 \div 3 \text{ of } 12 + 5 \times 3 - 4 \times 6 \div 3}{85 \div 34 \times 6 + 5 \times 15 \div 3 + 4 \times 12 \div 3}$?

Options :

1. ✖ $\frac{56}{357}$

2. ✖ $\frac{179}{312}$

3. ✔ $\frac{89}{672}$

4. ✖ $\frac{172}{293}$

Question Number : 84 Question Id : 54062624156 Question Type : MCQ Option Shuffling : Yes Is Question Mandatory : No Option Orientation : Vertical

Correct Marks : 1 Wrong Marks : 0.25

$\frac{15 \div 3 \text{ of } 12 + 5 \times 3 - 4 \times 6 \div 3}{85 \div 34 \times 6 + 5 \times 15 \div 3 + 4 \times 12 \div 3}$ का मान क्या है?

Options :

1. ✖ $\frac{56}{357}$

2. ✖ $\frac{179}{312}$

3. ✔ $\frac{89}{672}$

4. ✖ $\frac{172}{293}$

Question Number : 85 Question Id : 54062624157 Question Type : MCQ Option Shuffling : Yes Is Question Mandatory : No Option

Orientation : Vertical

Correct Marks : 1 Wrong Marks : 0.25

Which of the following statement(s) is/are correct?

I. 10012 is the smallest five digit number which is exactly divisible by 8, 9 and 12.
II. The largest number which can exactly divide 112, 140 and 210 is 14.

Options :

1. ✖ Only I
2. ✔ Only II
3. ✖ Both I and II
4. ✖ Neither I nor II

Question Number : 85 Question Id : 54062624157 Question Type : MCQ Option Shuffling : Yes Is Question Mandatory : No Option Orientation : Vertical

Correct Marks : 1 Wrong Marks : 0.25

निम्नलिखित में से कौन सा/से कथन सही हैं/हैं?

I. 10012 वह 5 अंको की सबसे छोटी संख्या है, जो 8, 9 तथा 12 से पूर्णतः विभाज्य है।
II. वह सबसे बड़ी संख्या जो 112, 140 तथा 210 को पूर्णतः विभाजित करती है, वह 14 है।

Options :

1. ✖ केवल I
2. ✔ केवल II
3. ✖ I तथा II दोनों
4. ✖ ना ही I ना ही II

Question Number : 86 Question Id : 54062624158 Question Type : MCQ Option Shuffling : Yes Is Question Mandatory : No Option Orientation : Vertical

Correct Marks : 1 Wrong Marks : 0.25

Marked price of an article is Rs. 2400. If a discount of 24 percent is given, then what is the selling price of the article?

Options :

1. ✔ Rs. 1824
2. ✖ Rs. 1846
3. ✖ Rs. 1924

4. ✖ Rs. 1936

Question Number : 86 Question Id : 54062624158 Question Type : MCQ Option Shuffling : Yes Is Question Mandatory : No Option Orientation : Vertical

Correct Marks : 1 Wrong Marks : 0.25

एक वस्तु का अंकित मूल्य 2400 रुपये है। यदि 24 प्रतिशत की छूट दी गयी है, तो वस्तु का विक्रय मूल्य क्या है?

Options :

1. ✔ 1824 रुपये
2. ✖ 1846 रुपये
3. ✖ 1924 रुपये
4. ✖ 1936 रुपये

Question Number : 87 Question Id : 54062624159 Question Type : MCQ Option Shuffling : Yes Is Question Mandatory : No Option Orientation : Vertical

Correct Marks : 1 Wrong Marks : 0.25

The average of 3 consecutive odd numbers is A. If next 2 and previous 3 odd numbers to these 3 odd numbers are also included, then what will the average of these 8 consecutive odd numbers?

Options :

1. ✖ A + 2
2. ✖ A + 3
3. ✖ A + 1
4. ✔ A – 1

Question Number : 87 Question Id : 54062624159 Question Type : MCQ Option Shuffling : Yes Is Question Mandatory : No Option Orientation : Vertical

Correct Marks : 1 Wrong Marks : 0.25

3 क्रमागत विषम संख्याओं का औसत A है। यदि इन 3 विषम संख्याओं की अगली 2 तथा पिछली 3 विषम संख्याओं को भी शामिल किया जाता है, तो इन 8 क्रमागत विषम संख्याओं का औसत क्या होगा?

Options :

1. ✖ A + 2
2. ✖ A + 3
3. ✖ A + 1

4. ✔ A – 1

Question Number : 88 Question Id : 54062624160 Question Type : MCQ Option Shuffling : Yes Is Question Mandatory : No Option Orientation : Vertical

Correct Marks : 1 Wrong Marks : 0.25

Marked price of a car is Rs. 850000. Rahul buys that car at two successive discounts of 20 percent and 30 percent. If he sells the car for Rs. 500000, then what is the profit percenatge?

Options :

1. ✖ 8.89 percent
2. ✖ 6.85 percent
3. ✖ 5.85 percent
4. ✔ 5.04 percent

Question Number : 88 Question Id : 54062624160 Question Type : MCQ Option Shuffling : Yes Is Question Mandatory : No Option Orientation : Vertical

Correct Marks : 1 Wrong Marks : 0.25

एक कार का अंकित मूल्य 850000 रुपये है। राहुल उस कार को 20 प्रतिशत तथा 30 प्रतिशत की दो क्रमिक छूटों पर खरीदता है। यदि वह कार को 500000 रुपये में बेच देता है, तो लाभ प्रतिशत क्या है?

Options :

1. ✖ 8.89 प्रतिशत
2. ✖ 6.85 प्रतिशत
3. ✖ 5.85 प्रतिशत
4. ✔ 5.04 प्रतिशत

Question Number : 89 Question Id : 54062624161 Question Type : MCQ Option Shuffling : Yes Is Question Mandatory : No Option Orientation : Vertical

Correct Marks : 1 Wrong Marks : 0.25

10 percent of 60 percent of a number is equal to 180. What is the 45 percent of that number?

Options :

1. ✔ 1350
2. ✖ 1250
3. ✖ 1450

4. ✖ 1150

Question Number : 89 Question Id : 54062624161 Question Type : MCQ Option Shuffling : Yes Is Question Mandatory : No Option Orientation : Vertical

Correct Marks : 1 Wrong Marks : 0.25

किसी संख्या के 60 प्रतिशत का 10 प्रतिशत, 180 के बराबर है। उस संख्या का 45 प्रतिशत क्या है?

Options :

1. ✔ 1350
2. ✖ 1250
3. ✖ 1450
4. ✖ 1150

Question Number : 90 Question Id : 54062624162 Question Type : MCQ Option Shuffling : Yes Is Question Mandatory : No Option Orientation : Vertical

Correct Marks : 1 Wrong Marks : 0.25

Price of tea increases by 40 percent. If expenditure on tea increases by only 20 percent, then by how much percent consumption should decrease?

Options :

1. ✖ 12.5 percent
2. ✔ 14.28 percent
3. ✖ 16.6 percent
4. ✖ 28.4 percent

Question Number : 90 Question Id : 54062624162 Question Type : MCQ Option Shuffling : Yes Is Question Mandatory : No Option Orientation : Vertical

Correct Marks : 1 Wrong Marks : 0.25

चाय के मूल्य मे 40 प्रतिशत की वृद्धि होती हैं। यदि चाय पर किये जाने वाले व्यय में केवल 20 प्रतिशत की वृद्धि होती है, तो खपत मे कितने प्रतिशत की कमी होनी चाहिए?

Options :

1. ✖ 12.5 प्रतिशत
2. ✔ 14.28 प्रतिशत
3. ✖ 16.6 प्रतिशत

4. ✖ 28.4 प्रतिशत

Question Number : 91 Question Id : 54062624163 Question Type : MCQ Option Shuffling : Yes Is Question Mandatory : No Option Orientation : Vertical

Correct Marks : 1 Wrong Marks : 0.25

Sonu spends 25 percent of his monthly income on food, 25 percent of his monthly income on travelling and 30 percent of his monthly income on rent. If he saves Rs. 8260 at the end of month, then what is the monthly income of Sonu?

Options :

1. ✖ Rs. 41000
2. ✖ Rs. 42400
3. ✔ Rs. 41300
4. ✖ Rs. 42000

Question Number : 91 Question Id : 54062624163 Question Type : MCQ Option Shuffling : Yes Is Question Mandatory : No Option Orientation : Vertical

Correct Marks : 1 Wrong Marks : 0.25

सोनू अपनी मासिक आय का 25 प्रतिशत खाद्य पदार्थ पर, अपनी मासिक आय का 25 प्रतिशत यात्रा पर तथा अपनी मासिक आय का 30 प्रतिशत किराए पर खर्च करता है। यदि वह महीने के अंत मे 8260 रुपये की बचत करता है, तो सोनू की मासिक आय क्या है?

Options :

1. ✖ 41000 रुपये
2. ✖ 42400 रुपये
3. ✔ 41300 रुपये
4. ✖ 42000 रुपये

Question Number : 92 Question Id : 54062624164 Question Type : MCQ Option Shuffling : Yes Is Question Mandatory : No Option Orientation : Vertical

Correct Marks : 1 Wrong Marks : 0.25

A is increased by 20 percent and it becomes B. B is increased by 30 percent and it becomes C. C is increased by 40 percent and it becomes D. If D = 40404, then which of the following statement is true?

I. A + C = 47360
II. D – B = 18104

Options :

1. ✔ Only I
2. ✖ Only II
3. ✖ Both I and II
4. ✖ Neither I nor II

Question Number : 92 Question Id : 54062624164 Question Type : MCQ Option Shuffling : Yes Is Question Mandatory : No Option Orientation : Vertical

Correct Marks : 1 Wrong Marks : 0.25

A 20 प्रतिशत से बढ़ाया जाता है तथा B बन जाता है। B 30 प्रतिशत से बढ़ाया जाता है तथा C बन जाता है। C 40 प्रतिशत से बढ़ाया जाता है तथा D बन जाता है। यदि D = 40404 है, तो निम्नलिखित में से कौन सा कथन सही है?

I. A + C = 47360
II. D – B = 18104

Options :

1. ✔ केवल I
2. ✖ केवल II
3. ✖ I तथा II दोनों
4. ✖ ना ही I ना ही II

Question Number : 93 Question Id : 54062624165 Question Type : MCQ Option Shuffling : Yes Is Question Mandatory : No Option Orientation : Vertical

Correct Marks : 1 Wrong Marks : 0.25

Cost price of a cooler is Rs. 9600. If the profit percentage is 8 percent, then what is the selling price of the cooler?

Options :

1. ✖ Rs. 10228
2. ✖ Rs. 9868
3. ✔ Rs. 10368
4. ✖ Rs. 10936

Question Number : 93 Question Id : 54062624165 Question Type : MCQ Option Shuffling : Yes Is Question Mandatory : No Option Orientation : Vertical

Correct Marks : 1 Wrong Marks : 0.25

एक कूलर का क्रय मूल्य 9600 रुपये है। यदि लाभ प्रतिशत 8 प्रतिशत है, तो कूलर का विक्रय मूल्य क्या है?

Options :

1. ✖ 10228 रुपये
2. ✖ 9868 रुपये
3. ✔ 10368 रुपये
4. ✖ 10936 रुपये

Question Number : 94 Question Id : 54062624166 Question Type : MCQ Option Shuffling : Yes Is Question Mandatory : No Option Orientation : Vertical

Correct Marks : 1 Wrong Marks : 0.25

A man buys 21 mangoes for a rupee. How many mangoes had he sold for a rupee so that there is a loss of 30 percent (cost price of all mangoes is same and selling price of all mangoes is same)?

Options :

1. ✖ 25
2. ✖ 35
3. ✖ 40
4. ✔ 30

Question Number : 94 Question Id : 54062624166 Question Type : MCQ Option Shuffling : Yes Is Question Mandatory : No Option Orientation : Vertical

Correct Marks : 1 Wrong Marks : 0.25

एक व्यक्ति ने 1 रुपये में 21 आम खरीदे। 1 रुपये में उसने कितने आम बेचे होंगे ताकि 30 प्रतिशत की हानि हो (सभी आमों का क्रयू मूल्य समान है तथा सभी आमों का विक्रय मूल्य समान है)?

Options :

1. ✖ 25
2. ✖ 35
3. ✖ 40
4. ✔ 30

Question Number : 95 Question Id : 54062624167 Question Type : MCQ Option Shuffling : Yes Is Question Mandatory : No Option Orientation : Vertical

Correct Marks : 1 Wrong Marks : 0.25

The difference between cost price and selling price is Rs. 152. If profit percentage is 16 percent, then what is the selling price?

Options :

1. ✖ Rs. 1024
2. ✖ Rs. 1126
3. ✔ Rs. 1102
4. ✖ Rs. 1084

Question Number : 95 Question Id : 54062624167 Question Type : MCQ Option Shuffling : Yes Is Question Mandatory : No Option Orientation : Vertical

Correct Marks : 1 Wrong Marks : 0.25

क्रय मूल्य तथा विक्रय मूल्य के मध्य 152 रुपये का अंतर है। यदि लाभ प्रतिशत 16 प्रतिशत है, तो विक्रय मूल्य क्या है?

Options :

1. ✖ 1024 रुपये
2. ✖ 1126 रुपये
3. ✔ 1102 रुपये
4. ✖ 1084 रुपये

Question Number : 96 Question Id : 54062624168 Question Type : MCQ Option Shuffling : Yes Is Question Mandatory : No Option Orientation : Vertical

Correct Marks : 1 Wrong Marks : 0.25

A trader sells an article at the profit of 20 percent. Had he bought that article at 30 percent less price and sold it at Rs. 80 less, then he would have earned a profit of 30 percent. What is the (approximate) cost price of the article?

Options :

1. ✖ Rs. 322.4
2. ✖ Rs. 300
3. ✖ Rs. 325.66
4. ✔ Rs. 275.86

Question Number : 96 Question Id : 54062624168 Question Type : MCQ Option Shuffling : Yes Is Question Mandatory : No Option Orientation : Vertical

Correct Marks : 1 Wrong Marks : 0.25

एक व्यापारी एक वस्तु को 20 प्रतिशत के लाभ पर बेचता है। यदि वह उस वस्तु को 30 प्रतिशत कम मूल्य पर खरीदता तथा 80 रुपये कम में बेचता, तो उसे 30

प्रतिशत का लाभ होता। वस्तु का क्रय मूल्य (लगभग) क्या है?

Options :

1. ✖ 322.4 रुपये
2. ✖ 300 रुपये
3. ✖ 325.66 रुपये
4. ✔ 275.86 रुपये

Question Number : 97 Question Id : 54062624169 Question Type : MCQ Option Shuffling : Yes Is Question Mandatory : No Option Orientation : Vertical

Correct Marks : 1 Wrong Marks : 0.25

If x : y = 2 : 5, then What is the value of (5x + y)/(5x – y)?

Options :

1. ✖ 5
2. ✔ 3
3. ✖ 4
4. ✖ 2

Question Number : 97 Question Id : 54062624169 Question Type : MCQ Option Shuffling : Yes Is Question Mandatory : No Option Orientation : Vertical

Correct Marks : 1 Wrong Marks : 0.25

यदि x : y = 2 : 5 है, तो (5x + y)/(5x – y) का मान क्या है?

Options :

1. ✖ 5
2. ✔ 3
3. ✖ 4
4. ✖ 2

Question Number : 98 Question Id : 54062624170 Question Type : MCQ Option Shuffling : Yes Is Question Mandatory : No Option Orientation : Vertical

Correct Marks : 1 Wrong Marks : 0.25

The ratio of the incomes of P and Q is 5 : 6 respectively and the ratio of their expenditures is 6 : 7 respectively. If they save Rs. 3000 and Rs. 4000 respectively, then what is their total income?

Options :

1. ✖ Rs. 24000
2. ✔ Rs. 33000
3. ✖ Rs. 36000
4. ✖ Rs. 44000

Question Number : 98 Question Id : 54062624170 Question Type : MCQ Option Shuffling : Yes Is Question Mandatory : No Option Orientation : Vertical

Correct Marks : 1 Wrong Marks : 0.25

P तथा Q की आय का अनुपात क्रमशः 5 : 6 है तथा उनके व्यय का अनुपात क्रमशः 6 : 7 है। यदि वह क्रमशः 3000 रुपये तथा 4000 रुपये बचत करते हैं, तो उनकी कुल आय क्या है?

Options :

1. ✖ 24000 रुपये
2. ✔ 33000 रुपये
3. ✖ 36000 रुपये
4. ✖ 44000 रुपये

Question Number : 99 Question Id : 54062624171 Question Type : MCQ Option Shuffling : Yes Is Question Mandatory : No Option Orientation : Vertical

Correct Marks : 1 Wrong Marks : 0.25

P, Q and R start a partnership. They invested Rs. 120000, Rs. 160000 and Rs. 200000 respectively. They stayed in partnership for 4 years, 2 years and 3 year respectively. If P's share in profit is Rs. 24000, then what is the sum of share of Q and R in the profit?

Options :

1. ✖ Rs. 40000
2. ✖ Rs. 48000
3. ✔ Rs. 46000
4. ✖ Rs. 23000

Question Number : 99 Question Id : 54062624171 Question Type : MCQ Option Shuffling : Yes Is Question Mandatory : No Option Orientation : Vertical

Correct Marks : 1 Wrong Marks : 0.25

P, Q तथा R एक साझेदारी शुरू करते हैं। वे क्रमशः 120000 रुपये, 160000 रुपये तथा 200000 रुपये निवेश करते हैं। वे क्रमशः 4 वर्ष, 2 वर्ष तथा 3 वर्ष

साझेदारी में रहते हैं। यदि लाभ में P का हिस्सा 24000 रुपये है, तो लाभ में Q तथा R के हिस्से का योग क्या है?

Options :

1. ✖ 40000 रुपये
2. ✖ 48000 रुपये
3. ✔ 46000 रुपये
4. ✖ 23000 रुपये

Question Number : 100 Question Id : 54062624172 Question Type : MCQ Option Shuffling : Yes Is Question Mandatory : No Option Orientation : Vertical

Correct Marks : 1 Wrong Marks : 0.25

The difference between simple interest on a certain sum at the annual rate of 10 percent for 7 years and 8 years is Rs. 57. What is the sum?

Options :

1. ✖ Rs. 610
2. ✔ Rs. 570
3. ✖ Rs. 550
4. ✖ Rs. 590

Question Number : 100 Question Id : 54062624172 Question Type : MCQ Option Shuffling : Yes Is Question Mandatory : No Option Orientation : Vertical

Correct Marks : 1 Wrong Marks : 0.25

एक निश्चित राशि पर 10 प्रतिशत की वार्षिक दर से 7 वर्ष तथा 8 वर्ष के साधारण ब्याज के मध्य अंतर 57 रुपये है। राशि क्या है?

Options :

1. ✖ 610 रुपये
2. ✔ 570 रुपये
3. ✖ 550 रुपये
4. ✖ 590 रुपये

Arithmetic Ability2

Group Number : 6

Group Id : 540626951

Group Maximum Duration :	0
Group Minimum Duration :	0
Show Attended Group? :	No
Edit Attended Group? :	No
Break time :	0
Group Marks :	20
Is this Group for Examiner? :	No

Arithmetic Ability2

Section Id :	5406261198
Section Number :	1
Section type :	Online
Mandatory or Optional :	Mandatory
Number of Questions :	20
Number of Questions to be attempted :	20
Section Marks :	20
Enable Mark as Answered Mark for Review and Clear Response :	Yes
Sub-Section Number :	1
Sub-Section Id :	5406261426
Question Shuffling Allowed :	Yes

Question Number : 101 Question Id : 54062624173 Question Type : MCQ Option Shuffling : Yes Is Question Mandatory : No Option Orientation : Vertical

Correct Marks : 1 Wrong Marks : 0.25

A person lent Rs. 16000 to B for 3 years and Rs. 12000 to C for 4 years on simple interest at the same rate of interest and received Rs. 6720 in all from both of them as interest. What is the annual rate of interest?

Options :

1. ✔ 7 percent
2. ✖ 7.5 percent
3. ✖ 9 percent
4. ✖ 8 percent

Question Number : 101 Question Id : 54062624173 Question Type : MCQ Option Shuffling : Yes Is Question Mandatory : No Option Orientation : Vertical

Correct Marks : 1 Wrong Marks : 0.25

एक व्यक्ति ने B को 3 वर्षों के लिए 16000 रुपये तथा C को 4 वर्षों के लिए 12000 रुपये ब्याज की समान दर से साधारण ब्याज पर उधार दिए तथा दोनों से कुल 6720 रुपये ब्याज के रूप में प्राप्त किए। ब्याज की वार्षिक दर क्या है?

Options :

1. ✔ 7 प्रतिशत
2. ✖ 7.5 प्रतिशत
3. ✖ 9 प्रतिशत
4. ✖ 8 प्रतिशत

Question Number : 102 Question Id : 54062624174 Question Type : MCQ Option Shuffling : Yes Is Question Mandatory : No Option Orientation : Vertical

Correct Marks : 1 Wrong Marks : 0.25

If the rate of interest is 3 percent for the first year, 7 percent for the second year and 10 percent for the third year, then what sum of money at compound interest will amount to Rs. 4849.24 in 3 years?

Options :

1. ✖ Rs. 4500
2. ✔ Rs. 4000
3. ✖ Rs. 3000
4. ✖ Rs. 3500

Question Number : 102 Question Id : 54062624174 Question Type : MCQ Option Shuffling : Yes Is Question Mandatory : No Option Orientation : Vertical

Correct Marks : 1 Wrong Marks : 0.25

यदि पहले वर्ष के लिए ब्याज दर 3 प्रतिशत है, दूसरे वर्ष के लिए 7 प्रतिशत है तथा तीसरे वर्ष के लिए 10 प्रतिशत है, तो कितनी राशि चक्रवृद्धि ब्याज पर 3 वर्षों में 4849.24 रुपये हो जायेगी?

Options :

1. ✖ 4500 रुपये
2. ✔ 4000 रुपये
3. ✖ 3000 रुपये
4. ✖ 3500 रुपये

Question Number : 103 Question Id : 54062624175 Question Type : MCQ Option Shuffling : Yes Is Question Mandatory : No Option Orientation : Vertical

Correct Marks : 1 Wrong Marks : 0.25

A train is moving at a speed of 20 m/s. What will be the speed of this train in km/hr?

Options :

1. ✔ 72 km/hr
2. ✖ 84 km/hr
3. ✖ 90 km/hr
4. ✖ 66 km/hr

Question Number : 103 Question Id : 54062624175 Question Type : MCQ Option Shuffling : Yes Is Question Mandatory : No Option Orientation : Vertical

Correct Marks : 1 Wrong Marks : 0.25

एक रेलगाड़ी 20 मी./से. की गति से चल रही है। इस रेलगाड़ी की गति कि.मी./घंटा में क्या होगी?

Options :

1. ✔ 72 कि.मी./घंटा
2. ✖ 84 कि.मी./घंटा
3. ✖ 90 कि.मी./घंटा
4. ✖ 66 कि.मी./घंटा

Question Number : 104 Question Id : 54062624176 Question Type : MCQ Option Shuffling : Yes Is Question Mandatory : No Option Orientation : Vertical

Correct Marks : 1 Wrong Marks : 0.25

A 540 metres long train is running at the speed of 54 km/hr. If it crosses a bridge in 54 seconds, then what is the length of the bridge?

Options :

1. ✔ 270 metres
2. ✖ 340 metres
3. ✖ 220 metres
4. ✖ 350 metres

Question Number : 104 Question Id : 54062624176 Question Type : MCQ Option Shuffling : Yes Is Question Mandatory : No Option Orientation : Vertical

Correct Marks : 1 Wrong Marks : 0.25

एक 540 मीटर लम्बी रेलगाड़ी 54 कि.मी./घंटा की गति से चल रही है। यदि वह एक पुल को 54 सेकण्ड में पार करती है, तो पुल की लम्बाई क्या है?

Options :

1. ✔ 270 मीटर
2. ✖ 340 मीटर
3. ✖ 220 मीटर
4. ✖ 350 मीटर

Question Number : 105 Question Id : 54062624177 Question Type : MCQ Option Shuffling : Yes Is Question Mandatory : No Option Orientation : Vertical

Correct Marks : 1 Wrong Marks : 0.25

A bus starts moving with the initial speed of 10 km/hr and its speed increases every hour by 2 km/hr. How much time will it take to cover a distance of 112 km?

Options :

1. ✔ 7 hours
2. ✖ 9 hours
3. ✖ 11 hours
4. ✖ 5 hours

Question Number : 105 Question Id : 54062624177 Question Type : MCQ Option Shuffling : Yes Is Question Mandatory : No Option Orientation : Vertical

Correct Marks : 1 Wrong Marks : 0.25

एक बस 10 कि.मी./घंटा की प्रारंभिक गति से चलना आरंभ करती है तथा इसकी गति में प्रत्येक घंटे में 2 कि.मी./घंटा की वृद्धि होती है। 112 कि.मी. की एक दूरी तय करने में वह कितना समय लेगी?

Options :

1. ✔ 7 घंटे
2. ✖ 9 घंटे
3. ✖ 11 घंटे
4. ✖ 5 घंटे

Question Number : 106 Question Id : 54062624178 Question Type : MCQ Option Shuffling : Yes Is Question Mandatory : No Option Orientation : Vertical

Correct Marks : 1 Wrong Marks : 0.25

E alone can complete a work in 15 days. F and G together can complete the same work in 10 days. E, F and G together will complete the same work in how many days?

Options :

1. ✖ 12 days
2. ✖ 10 days
3. ✔ 6 days
4. ✖ 8 days

Question Number : 106 Question Id : 54062624178 Question Type : MCQ Option Shuffling : Yes Is Question Mandatory : No Option Orientation : Vertical

Correct Marks : 1 Wrong Marks : 0.25

E अकेले एक कार्य को 15 दिनों में पूरा कर सकता है। F तथा G मिलकर उसी कार्य को 10 दिनों में पूरा कर सकते हैं। E, F तथा G मिलकर उसी कार्य को कितने दिनों में पूरा करेंगे?

Options :

1. ✖ 12 दिन
2. ✖ 10 दिन
3. ✔ 6 दिन
4. ✖ 8 दिन

Question Number : 107 Question Id : 54062624179 Question Type : MCQ Option Shuffling : Yes Is Question Mandatory : No Option Orientation : Vertical

Correct Marks : 1 Wrong Marks : 0.25

S does half as much work as T in 1/8 of the time taken by T. If they together complete a work in 160 days, then how many days shall S alone take to complete that work?

Options :

1. ✖ 224 days
2. ✖ 250 days
3. ✔ 200 days
4. ✖ 216 days

Question Number : 107 Question Id : 54062624179 Question Type : MCQ Option Shuffling : Yes Is Question Mandatory : No Option Orientation : Vertical

Correct Marks : 1 Wrong Marks : 0.25

T द्वारा लिए गए समय के 1/8 समय में S, T की तुलना में आधा कार्य करता है। यदि वे साथ मिलकर एक कार्य को 160 दिन में पूरा करते हैं, तो S अकेले उसी कार्य को पूरा करने के लिए कितने दिन लेगा?

Options :

1. ✖ 224 दिन
2. ✖ 250 दिन
3. ✔ 200 दिन
4. ✖ 216 दिन

Question Number : 108 Question Id : 54062624180 Question Type : MCQ Option Shuffling : Yes Is Question Mandatory : No Option Orientation : Vertical

Correct Marks : 1 Wrong Marks : 0.25

P, Q and R working together can complete a work in 7.5 days. Q and R together can complete the same work in 9 days. Which of the following statement is/are correct?

I. P alone can complete the same work in 60 days.
II. Efficiency of P is less than the total efficiency of Q and R.

Options :

1. ✖ Only I
2. ✔ Only II
3. ✖ Both I and II
4. ✖ Neither I nor II

Question Number : 108 Question Id : 54062624180 Question Type : MCQ Option Shuffling : Yes Is Question Mandatory : No Option Orientation : Vertical

Correct Marks : 1 Wrong Marks : 0.25

P, Q तथा R साथ मिलकर एक कार्य को 7.5 दिन में पूरा कर सकते है। Q तथा R साथ मिलकर उसी कार्य को 9 दिन में पूरा कर सकते हैं। निम्नलिखित मे से कौन सा/से कथन सही है/हैं?

I. P अकेले उसी कार्य को 60 दिन में पूरा कर सकता है।
II. P की कार्यकुशलता, Q तथा R की कार्यकुशलता से कम है।

Options :

1. ✖ केवल I
2. ✔ केवल II
3. ✖ I तथा II दोनों
4. ✖ ना ही I ना ही II

Question Number : 109 Question Id : 54062624181 Question Type : MCQ Option Shuffling : Yes Is Question Mandatory : No Option Orientation : Vertical

Correct Marks : 1 Wrong Marks : 0.25

Length of a rectangle is 10 cm. Its breadth is 1.5 times of its length. What is the perimeter of the rectangle?

Options :

1. ✔ 50 cm
2. ✖ 60 cm
3. ✖ 30 cm
4. ✖ 25 cm

Question Number : 109 Question Id : 54062624181 Question Type : MCQ Option Shuffling : Yes Is Question Mandatory : No Option Orientation : Vertical

Correct Marks : 1 Wrong Marks : 0.25

एक आयत की लंबाई 10 से.मी. है। उसकी चौड़ाई इसकी लंबाई का 1.5 गुणा है। आयत का परिमाप क्या है?

Options :

1. ✔ 50 से.मी.
2. ✖ 60 से.मी.
3. ✖ 30 से.मी.
4. ✖ 25 से.मी.

Question Number : 110 Question Id : 54062624182 Question Type : MCQ Option Shuffling : Yes Is Question Mandatory : No Option Orientation : Vertical

Correct Marks : 1 Wrong Marks : 0.25

A solid metallic cylinder has radius of base 7 cm and height 21 cm. It is melted to form a cone with radius and height 5 cm and 9 cm respectively. How much percentage metal was wasted?

Options :

1. ✖ 79.13
2. ✖ 86.43
3. ✔ 92.71
4. ✖ 96.43

Question Number : 110 Question Id : 54062624182 Question Type : MCQ Option Shuffling : Yes Is Question Mandatory : No Option Orientation : Vertical

Correct Marks : 1 Wrong Marks : 0.25

एक ठोस धातु के बेलन के आधार की त्रिज्या 7 से.मी. है तथा ऊँचाई 21 से.मी. है। इसे पिघलाकर क्रमशः 5 से.मी. तथा 9 से.मी. त्रिज्या तथा ऊँचाई वाला एक शंकु बनाया गया है। कितनी प्रतिशत धातु व्यर्थ गयी?

Options :

1. ✖ 79.13
2. ✖ 86.43
3. ✔ 92.71
4. ✖ 96.43

Question Number : 111 Question Id : 54062624183 Question Type : MCQ Option Shuffling : Yes Is Question Mandatory : No Option Orientation : Vertical

Correct Marks : 1 Wrong Marks : 0.25

The length of the side of a cube is 1.4 cm. What is the approximate volume of the largest sphere that can be taken out of the cube?

Options :

1. ✔ $1.44\ cm^3$
2. ✖ $3.26\ cm^3$
3. ✖ $5.64\ cm^3$

4. ✖ $2.66\ cm^3$

Question Number : 111 Question Id : 54062624183 Question Type : MCQ Option Shuffling : Yes Is Question Mandatory : No Option Orientation : Vertical

Correct Marks : 1 Wrong Marks : 0.25

एक घन की भुजा की लंबाई 1.4 से.मी. है। घन से बाहर निकाले जा सकने वाले सबसे बड़े गोले का आयतन लगभग क्या है?

Options :

1. ✔ 1.44 सें.मी.^{3}

2. ✖ 3.26 सें.मी.^{3}

3. ✖ 5.64 सें.मी.^{3}

4. ✖ 2.66 सें.मी.^{3}

Question Number : 112 Question Id : 54062624184 Question Type : MCQ Option Shuffling : Yes Is Question Mandatory : No Option Orientation : Vertical

Correct Marks : 1 Wrong Marks : 0.25

Which of the following statement(s) is/are correct?

I. Length of a rectangle is 6 cm more than its breadth. If its perimeter is 48 cm, then length is 15 cm.
II. Area of a circle is $49\ \pi\ cm^2$.

If radius of circle = side of square, then diagonal of square is $7\sqrt{2}$ cm.

Options :

1. ✖ Only I
2. ✖ Only II
3. ✔ Both I and II

4. ✖ Neither I nor II

Question Number : 112 Question Id : 54062624184 Question Type : MCQ Option Shuffling : Yes Is Question Mandatory : No Option Orientation : Vertical

Correct Marks : 1 Wrong Marks : 0.25

निम्नलिखित में से कौन सा/से कथन सही है/हैं?

I. एक आयत की लंबाई उसकी चौड़ाई से 6 से.मी. अधिक है। यदि उसका परिमाप 48 से.मी. है, तो लंबाई 15 से.मी. है।
II. एक वृत्त का क्षेत्रफल $49\ \pi$ से.मी.^{2} है।

यदि वृत्त की त्रिज्या = वर्ग की भुजा है, तो वर्ग का विकर्ण $7\sqrt{2}$ से.मी. है।

Options :

1. ✖ केवल I
2. ✖ केवल II
3. ✔ I तथा II दोनों
4. ✖ ना ही I ना ही II

Question Number : 113 Question Id : 54062624185 Question Type : MCQ Option Shuffling : Yes Is Question Mandatory : No Option Orientation : Vertical

Correct Marks : 1 Wrong Marks : 0.25

The table given below shows the duration of mobile usage of 5 individuals in a day.

Persons	Duration of mobile usage
I1	18
I2	12
I3	10
I4	6
I5	9

What is the average mobile usage per person in a day?

Options :

1. ✔ 11

2. ✖ 12.5
3. ✖ 10.5
4. ✖ 9.5

Question Number : 113 Question Id : 54062624185 Question Type : MCQ Option Shuffling : Yes Is Question Mandatory : No Option Orientation : Vertical

Correct Marks : 1 Wrong Marks : 0.25

नीचे दी गयी तालिका 5 व्यक्तियों द्वारा एक दिन में मोबाइल उपयोग के समय को दर्शाती है।

व्यक्ति	मोबाइल उपयोग का समय
I1	18
I2	12
I3	10
I4	6
I5	9

प्रति व्यक्ति एक दिन का औसत मोबाइल उपयोग कितना है?

Options :

1. ✔ 11
2. ✖ 12.5
3. ✖ 10.5
4. ✖ 9.5

Question Number : 114 Question Id : 54062624186 Question Type : MCQ Option Shuffling : Yes Is Question Mandatory : No Option Orientation : Vertical

Correct Marks : 1 Wrong Marks : 0.25

The pie chart given below shows the number of papers used by 6 different employees in a month. The number of papers used by each employee is shown as a percentage of total papers used by these 6 employees.

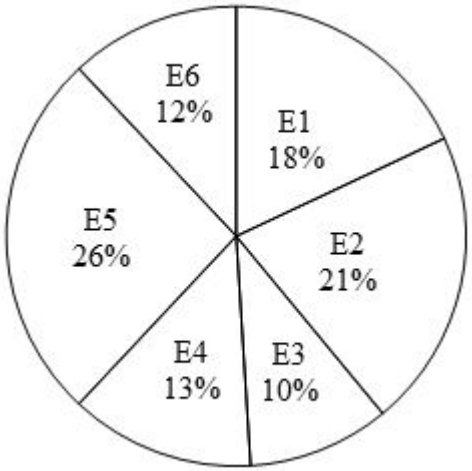

Total number of papers used are 500.
A = Difference between the number of papers used by E1 and E5.
B = Difference between the number of papers used by E3 and E6.
What is the value of A : B?

Options :

1. ✖ 3 : 1
2. ✔ 4 : 1
3. ✖ 5 : 2
4. ✖ 5 : 3

Question Number : 114 Question Id : 54062624186 Question Type : MCQ Option Shuffling : Yes Is Question Mandatory : No Option Orientation : Vertical

Correct Marks : 1 Wrong Marks : 0.25

नीचे दिया गया वृत्त चित्र 6 कर्मचारियों द्वारा एक महीने में उपयोग किए गए पेपरों की संख्या को दर्शाता है। प्रत्येक कर्मचारी द्वारा उपयोग किये गए पेपरों की संख्या को इन 6 कर्मचारियों द्वारा उपयोग किये गए पेपरों की कुल संख्या के प्रतिशत के रूप में दर्शाया गया है।

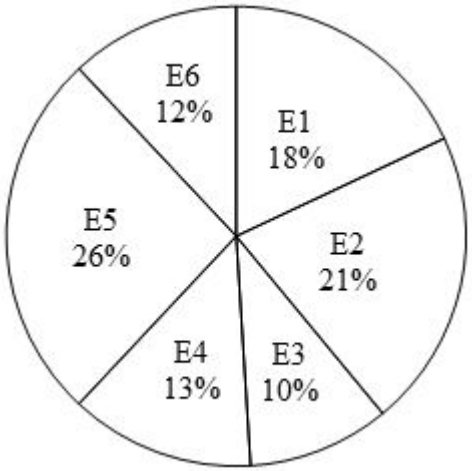

कुल उपयोग किए गए पेपरों की संख्या 500 है।
A = E1 तथा E5 द्वारा उपयोग किए गए पेपरों की संख्या का अंतर
B = E3 तथा E6 द्वारा उपयोग किए गए पेपरों की संख्या का अंतर
A : B का मान क्या है?

Options :

1. ✖ 3 : 1
2. ✔ 4 : 1
3. ✖ 5 : 2
4. ✖ 5 : 3

Question Number : 115 Question Id : 54062624187 Question Type : MCQ Option Shuffling : Yes Is Question Mandatory : No Option Orientation : Vertical

Correct Marks : 1 Wrong Marks : 0.25

The pie chart given below shows the number of medicines sold by 7 medicine shops. The number of medicines sold by each shop is shown as a percentage of total number of medicines sold by these 7 shops.

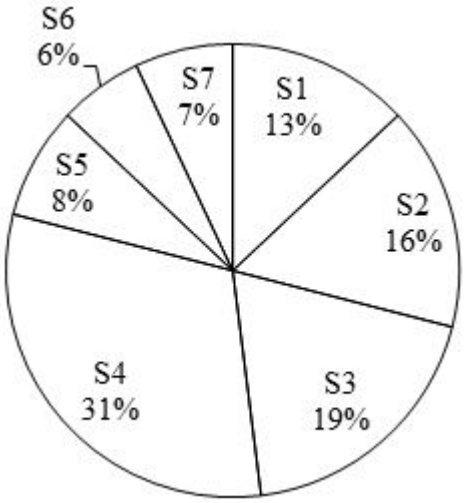

Which of the following statement(s) is/are correct?
I. If total medicines are 1800, then difference of S3 and S5 is 198.
II. If S2 is 24, then total medicines are 150.

Options :

1. ✖ Only I
2. ✖ Only II
3. ✔ Both I and II
4. ✖ Neither I nor II

Question Number : 115 Question Id : 54062624187 Question Type : MCQ Option Shuffling : Yes Is Question Mandatory : No Option Orientation : Vertical

Correct Marks : 1 Wrong Marks : 0.25

नीचे दिया गया वृत्त चित्र 7 दवाई की दुकानों द्वारा बेची गयी दवाइयों की संख्या को दर्शाता है। प्रत्येक दुकान द्वारा बेची गयी दवाईयों की संख्या को इन 7 दुकानों द्वारा बेची गयी दवाईयों की कुल संख्या के प्रतिशत के रूप में दर्शाया गया है।

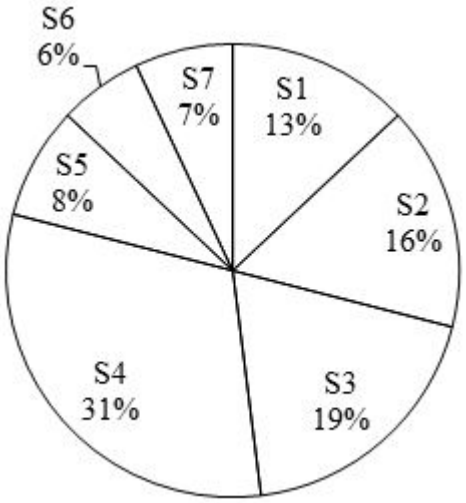

निम्नलिखित में से कौन सा/से कथन सही है/हैं?
I. यदि कुल दवाईयाँ 1800 है, तो S3 तथा S5 का अंतर 198 है।
II. यदि S2, 24 है, तो कुल दवाईयाँ 150 हैं।

Options :

1. ✖ केवल I
2. ✖ केवल II
3. ✔ I तथा II दोनों
4. ✖ ना ही I ना ही II

Question Number : 116 Question Id : 54062624188 Question Type : MCQ Option Shuffling : Yes Is Question Mandatory : No Option Orientation : Vertical

Correct Marks : 1 Wrong Marks : 0.25

The table given below shows the cost and revenue for 5 consecutive years for a firm.
Profit = Revenue – Cost
Percentage profit = (Profit/Cost) × 100

Years	Cost	Revenue
Y1	5000	5400
Y2	5200	5750
Y3	5380	6130
Y4	5600	6620
Y5	6150	7140

Which of the following statement(s) is/are correct?
I. Profit percentage in Y3 is 13.94 percent.
II. Profit for year Y4 is 1040.

Options :

1. ✔ Only I
2. ✖ Only II
3. ✖ Both I and II
4. ✖ Neither I nor II

Question Number : 116 Question Id : 54062624188 Question Type : MCQ Option Shuffling : Yes Is Question Mandatory : No Option Orientation : Vertical

Correct Marks : 1 Wrong Marks : 0.25

नीचे दी गयी तालिका एक फर्म के लिए 5 क्रमागत वर्षों के लिए लागत तथा राजस्व को दर्शाती है।
लाभ = राजस्व – लागत
प्रतिशत लाभ = (लाभ/लागत) × 100

वर्ष	लागत	राजस्व
Y1	5000	5400
Y2	5200	5750
Y3	5380	6130
Y4	5600	6620
Y5	6150	7140

निम्नलिखित में से कौन सा/से कथन सही है/हैं?

I. Y3 में लाभ 13.94 प्रतिशत है।
II. Y4 का लाभ 1040 है।

Options :

1. ✔ केवल I
2. ✖ केवल II
3. ✖ I तथा II दोनों
4. ✖ ना ही I ना ही II

Question Number : 117 Question Id : 54062624189 Question Type : MCQ Option Shuffling : Yes Is Question Mandatory : No Option Orientation : Vertical

Correct Marks : 1 Wrong Marks : 0.25

The line chart given below shows the number of doors in 6 houses.

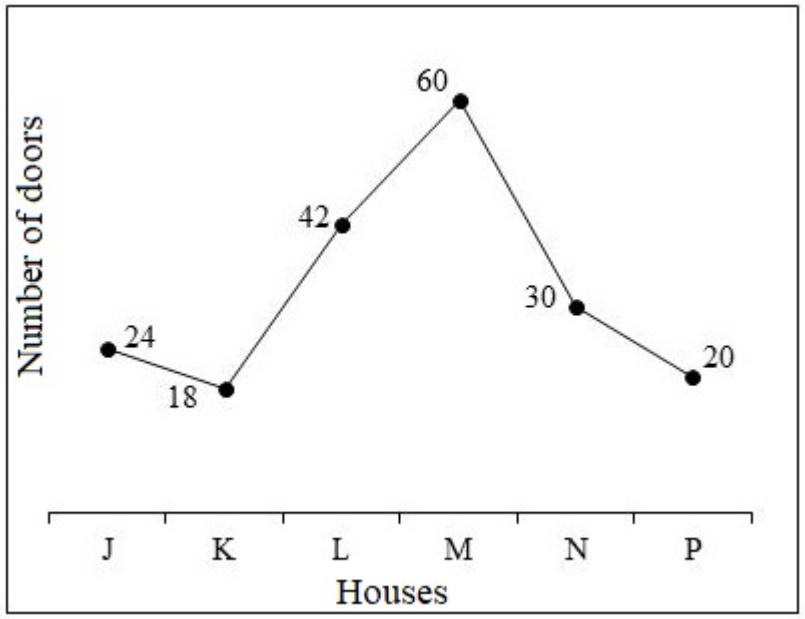

Number of doors in N are what percentage more than the number of doors in K?

Options :

1. ✖ 40 percent
2. ✔ 66.66 percent
3. ✖ 33.33 percent

4. ✖ 25 percent

Question Number : 117 Question Id : 54062624189 Question Type : MCQ Option Shuffling : Yes Is Question Mandatory : No Option Orientation : Vertical

Correct Marks : 1 Wrong Marks : 0.25

नीचे दिया गया रेखा चित्र 6 घरों में दरवाजों की संख्या को दर्शाता है।

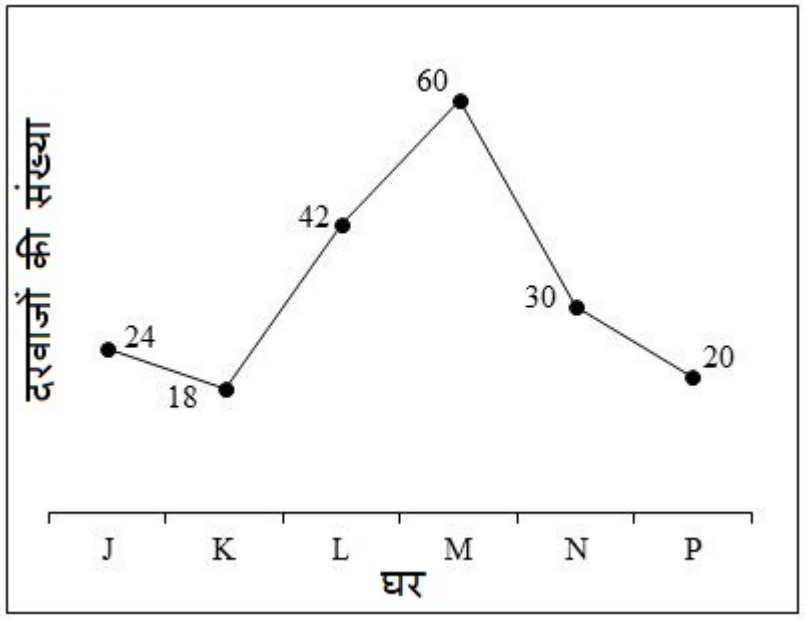

N में दरवाजों की संख्या, K में दरवाजों की संख्या से कितनी प्रतिशत अधिक है?

Options :

1. ✖ 40 प्रतिशत
2. ✔ 66.66 प्रतिशत
3. ✖ 33.33 प्रतिशत
4. ✖ 25 प्रतिशत

Question Number : 118 Question Id : 54062624190 Question Type : MCQ Option Shuffling : Yes Is Question Mandatory : No Option Orientation : Vertical

Correct Marks : 1 Wrong Marks : 0.25

The line chart given below shows the number of curtains in 6 shops.

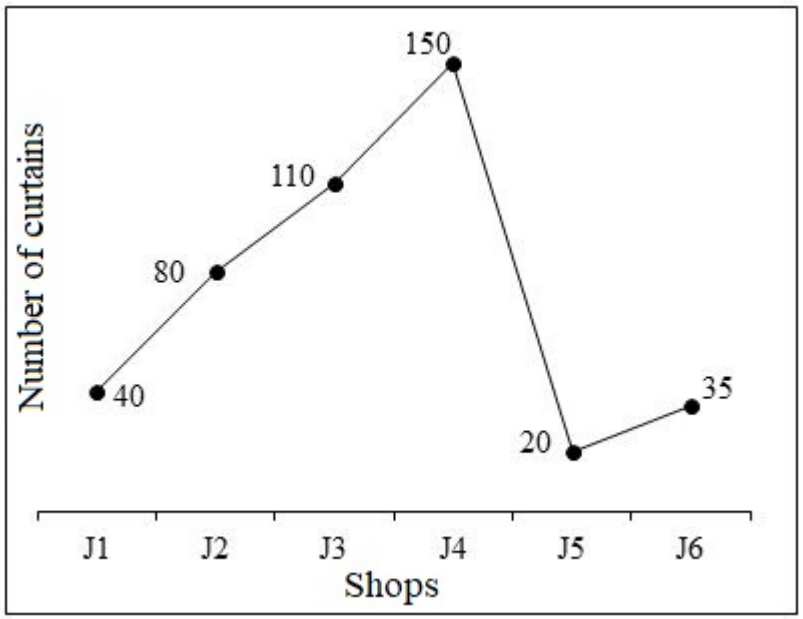

K – Total number of curtains in J5 and J3.
R – Total number of curtains in J2, J3 and J4
What is the value of R – K?

Options :

1. ✖ 240
2. ✔ 210
3. ✖ 190
4. ✖ 175

Question Number : 118 Question Id : 54062624190 Question Type : MCQ Option Shuffling : Yes Is Question Mandatory : No Option Orientation : Vertical

Correct Marks : 1 Wrong Marks : 0.25

नीचे दिया गया रेखाचित्र 6 दुकानों में पर्दों की संख्या को दर्शाता है।

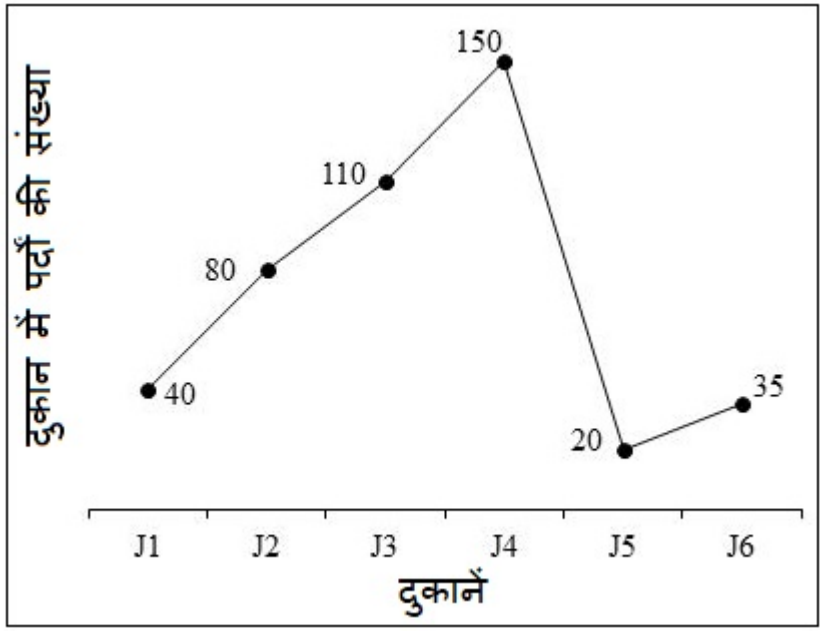

K – J5 तथा J3 में पर्दों की कुल संख्या
R – J2, J3 तथा J4 में पर्दों की कुल संख्या
R – K का मान क्या है?

Options :

1. ✖ 240
2. ✔ 210
3. ✖ 190
4. ✖ 175

Question Number : 119 Question Id : 54062624191 Question Type : MCQ Option Shuffling : Yes Is Question Mandatory : No Option Orientation : Vertical

Correct Marks : 1 Wrong Marks : 0.25

The line chart given below shows the average number of articles per shop in 6 consecutive years. There are 5 shops in every year.

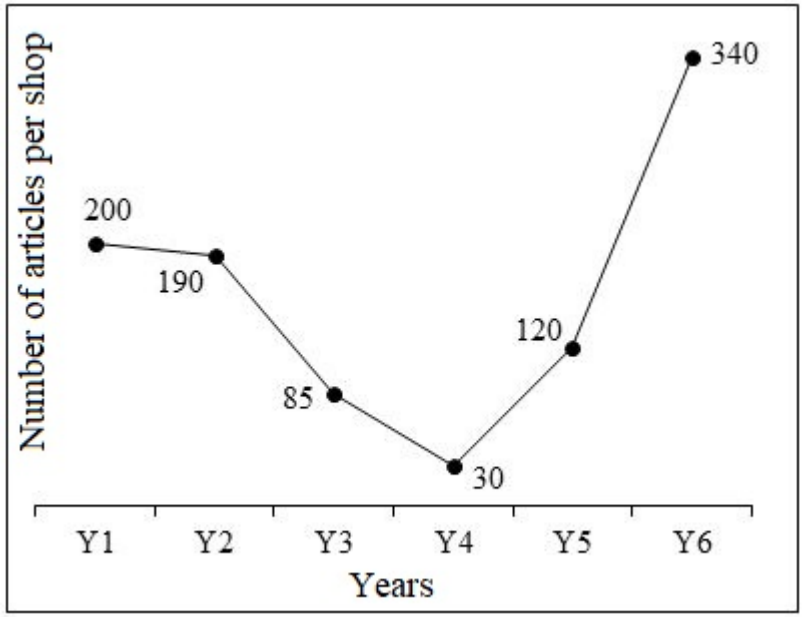

Which of the following statement(s) is/are correct?
I. Total number of articles in Y3 and Y5 are 1035.
II. Total number of articles in Y2 are 50 more than the total number of articles in Y1.

Options :

1. ✖ Only I
2. ✖ Only II
3. ✖ Both I and II
4. ✔ Neither I nor II

Question Number : 119 Question Id : 54062624191 Question Type : MCQ Option Shuffling : Yes Is Question Mandatory : No Option Orientation : Vertical

Correct Marks : 1 Wrong Marks : 0.25

नीचे दिया गया रेखा चित्र 6 क्रमागत वर्षों में प्रति दुकान वस्तुओं की औसत संख्या को दर्शाता है। प्रत्येक वर्ष में कुल 5 दुकाने हैं।

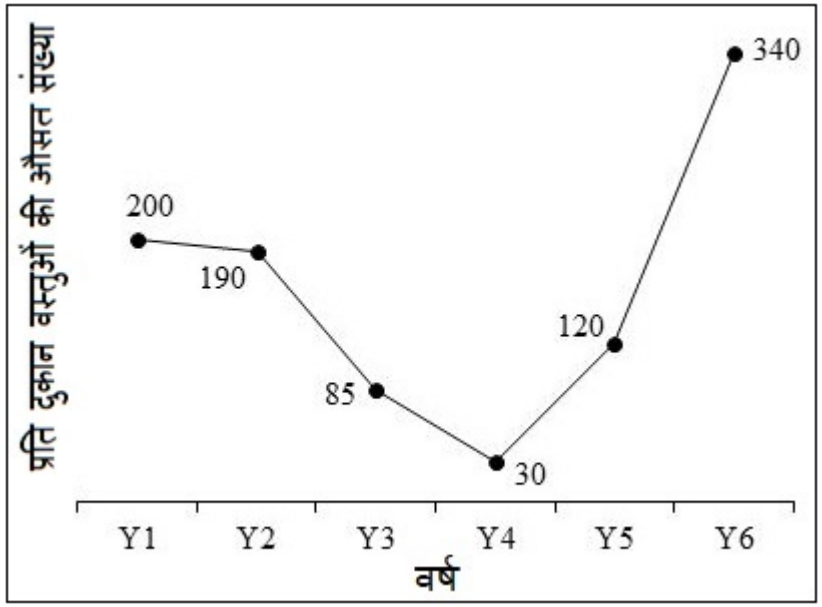

निम्नलिखित में से कौन सा/से कथन सही है/हैं?
I. Y3 तथा Y5 में वस्तुओं की कुल संख्या 1035 हैं।
II. Y2 में वस्तुओं की कुल संख्या, Y1 में वस्तुओं की कुल संख्या से 50 अधिक है।

Options :

1. ✖ केवल I
2. ✖ केवल II
3. ✖ I तथा II दोनों
4. ✔ ना ही I ना ही II

Question Number : 120 Question Id : 54062624192 Question Type : MCQ Option Shuffling : Yes Is Question Mandatory : No Option Orientation : Vertical

Correct Marks : 1 Wrong Marks : 0.25

The line graph given below shows the number of rubbers in 8 shops.

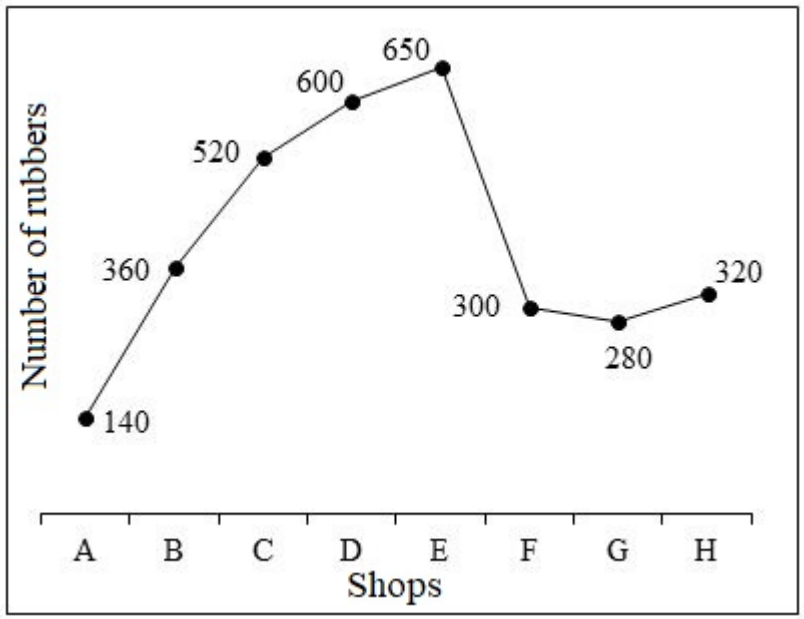

J1 – Average number of rubbers per shop.
J2 – Average of total number of rubbers in E, H, B and D
What is the value of J1/J2?

Options :

1. ✖ 1.009
2. ✖ 1.018
3. ✖ 1.0017
4. ✔ 1.003

Question Number : 120 Question Id : 54062624192 Question Type : MCQ Option Shuffling : Yes Is Question Mandatory : No Option Orientation : Vertical

Correct Marks : 1 Wrong Marks : 0.25

नीचे दिया गया रेखा चित्र 8 दुकानों में रबड़ों की संख्या को दर्शाता है।

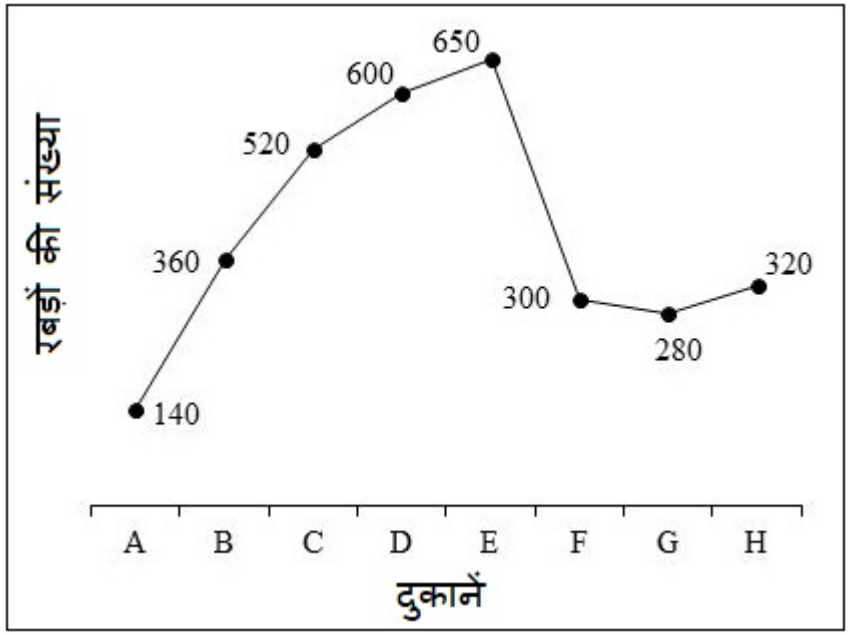

J1 – प्रति दुकान रबड़ों की औसत संख्या
J2 – E, H, B तथा D में रबड़ों की कुल संख्या का औसत
J1/J2 का मान क्या है?

Options :

1. ✖ 1.009
2. ✖ 1.018
3. ✖ 1.0017
4. ✔ 1.003

General English1

Group Number :	7
Group Id :	540626952
Group Maximum Duration :	0
Group Minimum Duration :	0
Show Attended Group? :	No

Edit Attended Group? :	No
Break time :	0
Group Marks :	20
Is this Group for Examiner? :	No

General English1

Section Id :	5406261199
Section Number :	1
Section type :	Online
Mandatory or Optional :	Mandatory
Number of Questions :	20
Number of Questions to be attempted :	20
Section Marks :	20
Enable Mark as Answered Mark for Review and Clear Response :	Yes
Sub-Section Number :	1
Sub-Section Id :	5406261427
Question Shuffling Allowed :	Yes

Question Number : 121 Question Id : 54062624193 Question Type : MCQ Option Shuffling : Yes Is Question Mandatory : No Option Orientation : Vertical

Correct Marks : 1 Wrong Marks : 0.25

Find the part of the given sentence that has an error in it. If there is no error, choose ‘No error’.

Jane has been living (1)/ in this house for (2)/ more than 3 years. (3)/ No error (4)

Options :

1. ✖ Jane has been living
2. ✖ in this house for
3. ✖ more than 3 years.
4. ✔ No Error

Question Number : 121 Question Id : 54062624193 Question Type : MCQ Option Shuffling : Yes Is Question Mandatory : No Option Orientation : Vertical

Correct Marks : 1 Wrong Marks : 0.25

Find the part of the given sentence that has an error in it. If there is no error, choose 'No error'.

Jane has been living (1)/ in this house for (2)/ more than 3 years. (3)/ No error (4)

Options :

1. ✖ Jane has been living
2. ✖ in this house for
3. ✖ more than 3 years.
4. ✔ No Error

Question Number : 122 Question Id : 54062624194 Question Type : MCQ Option Shuffling : Yes Is Question Mandatory : No Option Orientation : Vertical

Correct Marks : 1 Wrong Marks : 0.25

Find the part of the given sentence that has an error in it. If there is no error, choose 'No error'.

She want to (1)/ have a high (2)/ fibre diet today. (3)/ No error (4)

Options :

1. ✔ She want to
2. ✖ have a high
3. ✖ fibre diet today.
4. ✖ No Error

Question Number : 122 Question Id : 54062624194 Question Type : MCQ Option Shuffling : Yes Is Question Mandatory : No Option Orientation : Vertical

Correct Marks : 1 Wrong Marks : 0.25

Find the part of the given sentence that has an error in it. If there is no error, choose 'No error'.

She want to (1)/ have a high (2)/ fibre diet today. (3)/ No error (4)

Options :

1. ✔ She want to
2. ✖ have a high
3. ✖ fibre diet today.
4. ✖ No Error

Question Number : 123 Question Id : 54062624195 Question Type : MCQ Option Shuffling : Yes Is Question Mandatory : No Option Orientation : Vertical

Correct Marks : 1 Wrong Marks : 0.25

Find the part of the given sentence that has an error in it. If there is no error, choose 'No error'.

He has turned into a (1) new leaf after (2)/ separating from his wife. (3)/ No error (4)

Options :

1. ✔ He has turned into a
2. ✖ new leaf after
3. ✖ separating from his wife.
4. ✖ No Error

Question Number : 123 Question Id : 54062624195 Question Type : MCQ Option Shuffling : Yes Is Question Mandatory : No Option Orientation : Vertical

Correct Marks : 1 Wrong Marks : 0.25

Find the part of the given sentence that has an error in it. If there is no error, choose 'No error'.

He has turned into a (1) new leaf after (2)/ separating from his wife. (3)/ No error (4)

Options :

1. ✔ He has turned into a
2. ✖ new leaf after
3. ✖ separating from his wife.
4. ✖ No Error

Question Number : 124 Question Id : 54062624196 Question Type : MCQ Option Shuffling : Yes Is Question Mandatory : No Option Orientation : Vertical

Correct Marks : 1 Wrong Marks : 0.25

Find the part of the given sentence that has an error in it. If there is no error, choose 'No error'.

My heart went off to (1)/ them as I know how hard they (2)/ have worked for this project. (3)/ No error (4)

Options :

1. ✔ My heart went off to

2. ✖ them as I know how hard they
3. ✖ have worked for this project.
4. ✖ No Error

Question Number : 124 Question Id : 54062624196 Question Type : MCQ Option Shuffling : Yes Is Question Mandatory : No Option Orientation : Vertical

Correct Marks : 1 Wrong Marks : 0.25

Find the part of the given sentence that has an error in it. If there is no error, choose 'No error'.

My heart went off to (1)/ them as I know how hard they (2)/ have worked for this project. (3)/ No error (4)

Options :

1. ✔ My heart went off to
2. ✖ them as I know how hard they
3. ✖ have worked for this project.
4. ✖ No Error

Question Number : 125 Question Id : 54062624197 Question Type : MCQ Option Shuffling : Yes Is Question Mandatory : No Option Orientation : Vertical

Correct Marks : 1 Wrong Marks : 0.25

Find the part of the given sentence that has an error in it. If there is no error, choose 'No error'.

Scientists predict that as global (1)/ warming continued, the maximum potential (2)/ hurricane intensity will go up. (3)/ No error(4)

Options :

1. ✖ Scientists predict that as global
2. ✔ warming continued, the maximum potential
3. ✖ hurricane intensity will go up.
4. ✖ No Error

Question Number : 125 Question Id : 54062624197 Question Type : MCQ Option Shuffling : Yes Is Question Mandatory : No Option Orientation : Vertical

Correct Marks : 1 Wrong Marks : 0.25

Find the part of the given sentence that has an error in it. If there is no error, choose 'No error'.

Scientists predict that as global (1)/ warming continued, the maximum potential (2)/ hurricane intensity will go up. (3)/ No error(4)

Options :

1. ✖ Scientists predict that as global
2. ✔ warming continued, the maximum potential
3. ✖ hurricane intensity will go up.
4. ✖ No Error

Question Number : 126 Question Id : 54062624198 Question Type : MCQ Option Shuffling : Yes Is Question Mandatory : No Option Orientation : Vertical

Correct Marks : 1 Wrong Marks : 0.25

Select the most appropriate option to substitute the underlined segment in the given sentence. If no substitution is required, select No improvement.

She read daily newspaper in her office.

Options :

1. ✖ She has been reading daily
2. ✖ She is reading daily
3. ✔ She daily reads
4. ✖ No Improvement

Question Number : 126 Question Id : 54062624198 Question Type : MCQ Option Shuffling : Yes Is Question Mandatory : No Option Orientation : Vertical

Correct Marks : 1 Wrong Marks : 0.25

Select the most appropriate option to substitute the underlined segment in the given sentence. If no substitution is required, select No improvement.

She read daily newspaper in her office.

Options :

1. ✖ She has been reading daily
2. ✖ She is reading daily
3. ✔ She daily reads
4. ✖ No Improvement

Question Number : 127 Question Id : 54062624199 Question Type : MCQ Option Shuffling : Yes Is Question Mandatory : No Option Orientation : Vertical

Correct Marks : 1 Wrong Marks : 0.25

Select the most appropriate option to substitute the underlined segment in the given sentence. If no substitution is required, select No improvement.

Both Meena and I disagree with this theory.

Options :

1. ✖ as well as me disagree
2. ✖ or I disagrees
3. ✖ and me disagree
4. ✔ No Improvement

Question Number : 127 Question Id : 54062624199 Question Type : MCQ Option Shuffling : Yes Is Question Mandatory : No Option Orientation : Vertical

Correct Marks : 1 Wrong Marks : 0.25

Select the most appropriate option to substitute the underlined segment in the given sentence. If no substitution is required, select No improvement.

Both Meena and I disagree with this theory.

Options :

1. ✖ as well as me disagree
2. ✖ or I disagrees
3. ✖ and me disagree
4. ✔ No Improvement

Question Number : 128 Question Id : 54062624200 Question Type : MCQ Option Shuffling : Yes Is Question Mandatory : No Option Orientation : Vertical

Correct Marks : 1 Wrong Marks : 0.25

Select the most appropriate option to substitute the underlined segment in the given sentence. If no substitution is required, select No improvement.

The sooner she submitted, sooner it will be over.

Options :

1. ✔ the sooner it would
2. ✖ sooner it would
3. ✖ soon it would
4. ✖ No Improvement

Question Number : 128 Question Id : 54062624200 Question Type : MCQ Option Shuffling : Yes Is Question Mandatory : No Option Orientation : Vertical

Correct Marks : 1 Wrong Marks : 0.25

Select the most appropriate option to substitute the underlined segment in the given sentence. If no substitution is required, select No improvement.

The sooner she submitted, sooner it will be over.

Options :

1. ✔ the sooner it would
2. ✖ sooner it would
3. ✖ soon it would
4. ✖ No Improvement

Question Number : 129 Question Id : 54062624201 Question Type : MCQ Option Shuffling : Yes Is Question Mandatory : No Option Orientation : Vertical

Correct Marks : 1 Wrong Marks : 0.25

Select the most appropriate option to substitute the underlined segment in the given sentence. If no substitution is required, select No improvement.

The Conservatives learned to regard the veteran statesman, which has combined all sections of Liberals under his banner.

Options :

1. ✖ that have combined
2. ✔ who had combined
3. ✖ who combines
4. ✖ No Improvement

Question Number : 129 Question Id : 54062624201 Question Type : MCQ Option Shuffling : Yes Is Question Mandatory : No Option Orientation : Vertical

Correct Marks : 1 Wrong Marks : 0.25

Select the most appropriate option to substitute the underlined segment in the given sentence. If no substitution is required, select No improvement.

The Conservatives learned to regard the veteran statesman, which has combined all sections of Liberals under his banner.

Options :

1. ✖ that have combined
2. ✔ who had combined
3. ✖ who combines
4. ✖ No Improvement

Question Number : 130 Question Id : 54062624202 Question Type : MCQ Option Shuffling : Yes Is Question Mandatory : No Option Orientation : Vertical

Correct Marks : 1 Wrong Marks : 0.25

Select the most appropriate option to substitute the underlined segment in the given sentence. If no substitution is required, select No improvement.

It was her father who not only misjudged my actions but also her mother who blamed my intentions.

Options :

1. ✖ nor her father who
2. ✖ her father who didn’t
3. ✔ not only her father who
4. ✖ No Improvement

Question Number : 130 Question Id : 54062624202 Question Type : MCQ Option Shuffling : Yes Is Question Mandatory : No Option Orientation : Vertical

Correct Marks : 1 Wrong Marks : 0.25

Select the most appropriate option to substitute the underlined segment in the given sentence. If no substitution is required, select No improvement.

It was her father who not only misjudged my actions but also her mother who blamed my intentions.

Options :

1. ✖ nor her father who
2. ✖ her father who didn’t

3. ✔ not only her father who

4. ✖ No Improvement

Question Number : 131 Question Id : 54062624203 Question Type : MCQ Option Shuffling : Yes Is Question Mandatory : No Option Orientation : Vertical

Correct Marks : 1 Wrong Marks : 0.25

A sentence has been given with a blank to be filled with an appropriate word. Choose the correct alternative.

The noise made when you burp comes from gas that is _____ in your stomach.

Options :

1. ✔ trapped

2. ✖ rest

3. ✖ opposed

4. ✖ sectioned

Question Number : 131 Question Id : 54062624203 Question Type : MCQ Option Shuffling : Yes Is Question Mandatory : No Option Orientation : Vertical

Correct Marks : 1 Wrong Marks : 0.25

A sentence has been given with a blank to be filled with an appropriate word. Choose the correct alternative.

The noise made when you burp comes from gas that is _____ in your stomach.

Options :

1. ✔ trapped

2. ✖ rest

3. ✖ opposed

4. ✖ sectioned

Question Number : 132 Question Id : 54062624204 Question Type : MCQ Option Shuffling : Yes Is Question Mandatory : No Option Orientation : Vertical

Correct Marks : 1 Wrong Marks : 0.25

A sentence has been given with a blank to be filled with an appropriate word. Choose the correct alternative.

David long ago decided his hands were the _____ of his existence.

Options :

1. ✖ vain
2. ✔ bane
3. ✖ sane
4. ✖ calamity

Question Number : 132 Question Id : 54062624204 Question Type : MCQ Option Shuffling : Yes Is Question Mandatory : No Option Orientation : Vertical

Correct Marks : 1 Wrong Marks : 0.25

A sentence has been given with a blank to be filled with an appropriate word. Choose the correct alternative.

David long ago decided his hands were the _____ of his existence.

Options :

1. ✖ vain
2. ✔ bane
3. ✖ sane
4. ✖ calamity

Question Number : 133 Question Id : 54062624205 Question Type : MCQ Option Shuffling : Yes Is Question Mandatory : No Option Orientation : Vertical

Correct Marks : 1 Wrong Marks : 0.25

A sentence has been given with a blank to be filled with an appropriate word. Choose the correct alternative.

It’s difficult to smile when everything you do _____ in futile.

Options :

1. ✖ get
2. ✖ gone
3. ✖ go
4. ✔ goes

Question Number : 133 Question Id : 54062624205 Question Type : MCQ Option Shuffling : Yes Is Question Mandatory : No Option Orientation : Vertical

Correct Marks : 1 Wrong Marks : 0.25

A sentence has been given with a blank to be filled with an appropriate word. Choose the correct alternative.

It’s difficult to smile when everything you do _____ in futile.

Options :

1. ✖ get
2. ✖ gone
3. ✖ go
4. ✔ goes

Question Number : 134 Question Id : 54062624206 Question Type : MCQ Option Shuffling : Yes Is Question Mandatory : No Option Orientation : Vertical

Correct Marks : 1 Wrong Marks : 0.25

A sentence has been given with a blank to be filled with an appropriate word. Choose the correct alternative.

The dazzling lights of the urban district and the rigorous life of _____ inhabitants.

Options :

1. ✖ them
2. ✖ there
3. ✔ their
4. ✖ those

Question Number : 134 Question Id : 54062624206 Question Type : MCQ Option Shuffling : Yes Is Question Mandatory : No Option Orientation : Vertical

Correct Marks : 1 Wrong Marks : 0.25

A sentence has been given with a blank to be filled with an appropriate word. Choose the correct alternative.

The dazzling lights of the urban district and the rigorous life of _____ inhabitants.

Options :

1. ✖ them
2. ✖ there
3. ✔ their
4. ✖ those

Question Number : 135 Question Id : 54062624207 Question Type : MCQ Option Shuffling : Yes Is Question Mandatory : No Option Orientation : Vertical

Correct Marks : 1 Wrong Marks : 0.25

A sentence has been given with a blank to be filled with an appropriate word. Choose the correct alternative.

For the first time, _____, it sort of worked.

Options :

1. ✖ but
2. ✖ yet
3. ✔ though
4. ✖ for

Question Number : 135 Question Id : 54062624207 Question Type : MCQ Option Shuffling : Yes Is Question Mandatory : No Option Orientation : Vertical

Correct Marks : 1 Wrong Marks : 0.25

A sentence has been given with a blank to be filled with an appropriate word. Choose the correct alternative.

For the first time, _____, it sort of worked.

Options :

1. ✖ but
2. ✖ yet
3. ✔ though
4. ✖ for

Question Number : 136 Question Id : 54062624208 Question Type : MCQ Option Shuffling : Yes Is Question Mandatory : No Option Orientation : Vertical

Correct Marks : 1 Wrong Marks : 0.25

Rearrange the parts of the sentence in correct order.

When the Christian church
P: became dominant in the Roman Empire, its leaders
Q: to threaten Christian religious domination
R: to segregate Jews and curtail their freedoms when they appeared
S: inspired many laws by Roman emperors designed

Options :

1. ✖ SRPQ
2. ✔ PSRQ
3. ✖ SPRQ
4. ✖ QRPS

Question Number : 136 Question Id : 54062624208 Question Type : MCQ Option Shuffling : Yes Is Question Mandatory : No Option Orientation : Vertical

Correct Marks : 1 Wrong Marks : 0.25

Rearrange the parts of the sentence in correct order.

When the Christian church
P: became dominant in the Roman Empire, its leaders
Q: to threaten Christian religious domination
R: to segregate Jews and curtail their freedoms when they appeared
S: inspired many laws by Roman emperors designed

Options :

1. ✖ SRPQ
2. ✔ PSRQ
3. ✖ SPRQ
4. ✖ QRPS

Question Number : 137 Question Id : 54062624209 Question Type : MCQ Option Shuffling : Yes Is Question Mandatory : No Option Orientation : Vertical

Correct Marks : 1 Wrong Marks : 0.25

Rearrange the parts of the sentence in the correct order.

P: ranked as one of DC's
Q: most-recognizable characters
R: Wonder Woman is perennially
S: and a feminist icon

Options :

1. ✖ QPSR
2. ✖ RPSQ

3. ✖ QPRS

4. ✔ RPQS

Question Number : 137 Question Id : 54062624209 Question Type : MCQ Option Shuffling : Yes Is Question Mandatory : No Option Orientation : Vertical

Correct Marks : 1 Wrong Marks : 0.25

Rearrange the parts of the sentence in the correct order.

P: ranked as one of DC's
Q: most-recognizable characters
R: Wonder Woman is perennially
S: and a feminist icon

Options :

1. ✖ QPSR

2. ✖ RPSQ

3. ✖ QPRS

4. ✔ RPQS

Question Number : 138 Question Id : 54062624210 Question Type : MCQ Option Shuffling : Yes Is Question Mandatory : No Option Orientation : Vertical

Correct Marks : 1 Wrong Marks : 0.25

Rearrange the parts of the sentence in the correct order.

P: but also to inflict serious wounds on their enemies, including humans
Q: sharp teeth, which not only enable them to seize and hold their prey
R: the mouth is wide and the jaws are equipped with strong,
S: moray eels' skin is thick, smooth, and scale-less, while

Options :

1. ✖ QRSP

2. ✔ SRQP

3. ✖ RQPS

4. ✖ QPSR

Question Number : 138 Question Id : 54062624210 Question Type : MCQ Option Shuffling : Yes Is Question Mandatory : No Option

Orientation : Vertical

Correct Marks : 1 Wrong Marks : 0.25

Rearrange the parts of the sentence in the correct order.

P: but also to inflict serious wounds on their enemies, including humans
Q: sharp teeth, which not only enable them to seize and hold their prey
R: the mouth is wide and the jaws are equipped with strong,
S: moray eels' skin is thick, smooth, and scale-less, while

Options :

1. ✖ QRSP
2. ✔ SRQP
3. ✖ RQPS
4. ✖ QPSR

Question Number : 139 Question Id : 54062624211 Question Type : MCQ Option Shuffling : Yes Is Question Mandatory : No Option Orientation : Vertical

Correct Marks : 1 Wrong Marks : 0.25

Choose the word that means the same as the given word.

Freedom

Options :

1. ✔ Liberty
2. ✖ Fraternity
3. ✖ Right
4. ✖ Duty

Question Number : 139 Question Id : 54062624211 Question Type : MCQ Option Shuffling : Yes Is Question Mandatory : No Option Orientation : Vertical

Correct Marks : 1 Wrong Marks : 0.25

Choose the word that means the same as the given word.

Freedom

Options :

1. ✔ Liberty

2. ✖ Fraternity
3. ✖ Right
4. ✖ Duty

Question Number : 140 Question Id : 54062624212 Question Type : MCQ Option Shuffling : Yes Is Question Mandatory : No Option Orientation : Vertical

Correct Marks : 1 Wrong Marks : 0.25

Choose the word that means the same as the given word.

Amaze

Options :

1. ✖ Cease
2. ✔ Astonish
3. ✖ Passion
4. ✖ Expect

Question Number : 140 Question Id : 54062624212 Question Type : MCQ Option Shuffling : Yes Is Question Mandatory : No Option Orientation : Vertical

Correct Marks : 1 Wrong Marks : 0.25

Choose the word that means the same as the given word.

Amaze

Options :

1. ✖ Cease
2. ✔ Astonish
3. ✖ Passion
4. ✖ Expect

General English2

Group Number : 8

Group Id : 540626953

Group Maximum Duration :	0
Group Minimum Duration :	0
Show Attended Group? :	No
Edit Attended Group? :	No
Break time :	0
Group Marks :	20
Is this Group for Examiner? :	No

General English2

Section Id :	5406261200
Section Number :	1
Section type :	Online
Mandatory or Optional :	Mandatory
Number of Questions :	16
Number of Questions to be attempted :	16
Section Marks :	20
Enable Mark as Answered Mark for Review and Clear Response :	Yes
Sub-Section Number :	1
Sub-Section Id :	5406261428
Question Shuffling Allowed :	Yes

Question Number : 141 Question Id : 54062624213 Question Type : MCQ Option Shuffling : Yes Is Question Mandatory : No Option Orientation : Vertical

Correct Marks : 1 Wrong Marks : 0.25

Choose the word that means the same as the given word.

Fabulous

Options :

1. ✖ Corporeal
2. ✖ Enfeebling
3. ✖ Enervating
4. ✔ Staggering

Question Number : 141 Question Id : 54062624213 Question Type : MCQ Option Shuffling : Yes Is Question Mandatory : No Option Orientation : Vertical

Correct Marks : 1 Wrong Marks : 0.25

Choose the word that means the same as the given word.

Fabulous

Options :

1. ✖ Corporeal
2. ✖ Enfeebling
3. ✖ Enervating
4. ✔ Staggering

Question Number : 142 Question Id : 54062624214 Question Type : MCQ Option Shuffling : Yes Is Question Mandatory : No Option Orientation : Vertical

Correct Marks : 1 Wrong Marks : 0.25

Choose the word that is opposite in meaning to the given word.

Apprise

Options :

1. ✖ Downfall
2. ✔ Mislead
3. ✖ Galvanize
4. ✖ Undeceive

Question Number : 142 Question Id : 54062624214 Question Type : MCQ Option Shuffling : Yes Is Question Mandatory : No Option Orientation : Vertical

Correct Marks : 1 Wrong Marks : 0.25

Choose the word that is opposite in meaning to the given word.

Apprise

Options :

1. ✖ Downfall

2. ✔ Mislead
3. ✖ Galvanize
4. ✖ Undeceive

Question Number : 143 Question Id : 54062624215 Question Type : MCQ Option Shuffling : Yes Is Question Mandatory : No Option Orientation : Vertical

Correct Marks : 1 Wrong Marks : 0.25

Choose the word that is opposite in meaning to the given word.

Apprehend

Options :

1. ✖ Trommel
2. ✔ Emancipate
3. ✖ Seduce
4. ✖ Immure

Question Number : 143 Question Id : 54062624215 Question Type : MCQ Option Shuffling : Yes Is Question Mandatory : No Option Orientation : Vertical

Correct Marks : 1 Wrong Marks : 0.25

Choose the word that is opposite in meaning to the given word.

Apprehend

Options :

1. ✖ Trommel
2. ✔ Emancipate
3. ✖ Seduce
4. ✖ Immure

Question Number : 144 Question Id : 54062624216 Question Type : MCQ Option Shuffling : Yes Is Question Mandatory : No Option Orientation : Vertical

Correct Marks : 1 Wrong Marks : 0.25

Choose the word that is opposite in meaning to the given word.

Appropriate

Options :

1. ✖ Honorary
2. ✖ Competent
3. ✔ Inapposite
4. ✖ Tolerable

Question Number : 144 Question Id : 54062624216 Question Type : MCQ Option Shuffling : Yes Is Question Mandatory : No Option Orientation : Vertical

Correct Marks : 1 Wrong Marks : 0.25

Choose the word that is opposite in meaning to the given word.

Appropriate

Options :

1. ✖ Honorary
2. ✖ Competent
3. ✔ Inapposite
4. ✖ Tolerable

Question Number : 145 Question Id : 54062624217 Question Type : MCQ Option Shuffling : Yes Is Question Mandatory : No Option Orientation : Vertical

Correct Marks : 1 Wrong Marks : 0.25

In the given question, four words are given out of which one word is correctly spelt. Choose the correctly spelt word.

Options :

1. ✖ Reffered
2. ✖ Refered
3. ✔ Referred
4. ✖ Refferred

Question Number : 145 Question Id : 54062624217 Question Type : MCQ Option Shuffling : Yes Is Question Mandatory : No Option Orientation : Vertical

Correct Marks : 1 Wrong Marks : 0.25

In the given question, four words are given out of which one word is correctly spelt. Choose the correctly spelt word.

Options :

1. ✖ Reffered
2. ✖ Refered
3. ✔ Referred
4. ✖ Refferred

Question Number : 146 Question Id : 54062624218 Question Type : MCQ Option Shuffling : Yes Is Question Mandatory : No Option Orientation : Vertical

Correct Marks : 1 Wrong Marks : 0.25

In the given question, four words are given out of which one word is correctly spelt. Choose the correctly spelt word.

Options :

1. ✖ Indeipendnet
2. ✔ Independent
3. ✖ Indipendnet
4. ✖ Independnet

Question Number : 146 Question Id : 54062624218 Question Type : MCQ Option Shuffling : Yes Is Question Mandatory : No Option Orientation : Vertical

Correct Marks : 1 Wrong Marks : 0.25

In the given question, four words are given out of which one word is correctly spelt. Choose the correctly spelt word.

Options :

1. ✖ Indeipendnet
2. ✔ Independent
3. ✖ Indipendnet
4. ✖ Independnet

Question Number : 147 Question Id : 54062624219 Question Type : MCQ Option Shuffling : Yes Is Question Mandatory : No Option Orientation : Vertical

Correct Marks : 1 Wrong Marks : 0.25

In the given question, four words are given out of which one word is correctly spelt. Choose the correctly spelt word.

Options :

1. ✖ Philosphy
2. ✔ Philosophy
3. ✖ Philosofy
4. ✖ Philosopy

Question Number : 147 Question Id : 54062624219 Question Type : MCQ Option Shuffling : Yes Is Question Mandatory : No Option Orientation : Vertical

Correct Marks : 1 Wrong Marks : 0.25

In the given question, four words are given out of which one word is correctly spelt. Choose the correctly spelt word.

Options :

1. ✖ Philosphy
2. ✔ Philosophy
3. ✖ Philosofy
4. ✖ Philosopy

Question Number : 148 Question Id : 54062624220 Question Type : MCQ Option Shuffling : Yes Is Question Mandatory : No Option Orientation : Vertical

Correct Marks : 1 Wrong Marks : 0.25

In the given question, four words are given out of which one word is correctly spelt. Choose the correctly spelt word.

Options :

1. ✖ Pronounciation
2. ✖ Prononciation
3. ✔ Pronunciation
4. ✖ Pronuoncition

Question Number : 148 Question Id : 54062624220 Question Type : MCQ Option Shuffling : Yes Is Question Mandatory : No Option Orientation : Vertical

Correct Marks : 1 Wrong Marks : 0.25

In the given question, four words are given out of which one word is correctly spelt. Choose the correctly spelt word.

Options :

1. ✖ Pronounciation
2. ✖ Prononciation

3. ✔ Pronunciation
4. ✖ Pronuoncition

Question Number : 149 Question Id : 54062624221 Question Type : MCQ Option Shuffling : Yes Is Question Mandatory : No Option Orientation : Vertical

Correct Marks : 1 Wrong Marks : 0.25

In the following question, out of the given four alternatives, select the alternative which best expresses the meaning of the Idiom/Phrase.

Pull someone's leg

Options :

1. ✖ To steal from someone
2. ✖ To make situation worse
3. ✖ To beat someone recklessly
4. ✔ To tease or fool someone

Question Number : 149 Question Id : 54062624221 Question Type : MCQ Option Shuffling : Yes Is Question Mandatory : No Option Orientation : Vertical

Correct Marks : 1 Wrong Marks : 0.25

In the following question, out of the given four alternatives, select the alternative which best expresses the meaning of the Idiom/Phrase.

Pull someone's leg

Options :

1. ✖ To steal from someone
2. ✖ To make situation worse
3. ✖ To beat someone recklessly
4. ✔ To tease or fool someone

Question Number : 150 Question Id : 54062624222 Question Type : MCQ Option Shuffling : Yes Is Question Mandatory : No Option Orientation : Vertical

Correct Marks : 1 Wrong Marks : 0.25

In the following question, out of the given four alternatives, select the alternative which best expresses the meaning of the Idiom/Phrase.

Run out of steam

Options :

1. ✔ To exhaust one's energy
2. ✖ To offer a bad deal
3. ✖ To have limited time
4. ✖ To escape from a prison

Question Number : 150 Question Id : 54062624222 Question Type : MCQ Option Shuffling : Yes Is Question Mandatory : No Option Orientation : Vertical

Correct Marks : 1 Wrong Marks : 0.25

In the following question, out of the given four alternatives, select the alternative which best expresses the meaning of the Idiom/Phrase.

Run out of steam

Options :

1. ✔ To exhaust one's energy
2. ✖ To offer a bad deal
3. ✖ To have limited time
4. ✖ To escape from a prison

Question Number : 151 Question Id : 54062624223 Question Type : MCQ Option Shuffling : Yes Is Question Mandatory : No Option Orientation : Vertical

Correct Marks : 1 Wrong Marks : 0.25

In the following question, out of the given four alternatives, select the alternative which best expresses the meaning of the Idiom/Phrase.

Meet one's waterloo

Options :

1. ✖ To examine one's own thoughts and feelings
2. ✖ To meet one's friends after a long time
3. ✔ To experience a major defeat
4. ✖ To be unable to repay one's debts

Question Number : 151 Question Id : 54062624223 Question Type : MCQ Option Shuffling : Yes Is Question Mandatory : No Option Orientation : Vertical

Correct Marks : 1 Wrong Marks : 0.25

In the following question, out of the given four alternatives, select the alternative which best expresses the meaning of the Idiom/Phrase.

Meet one’s waterloo

Options :

1. ✖ To examine one’s own thoughts and feelings
2. ✖ To meet one’s friends after a long time
3. ✔ To experience a major defeat
4. ✖ To be unable to repay one’s debts

Question Number : 152 Question Id : 54062624224 Question Type : MCQ Option Shuffling : Yes Is Question Mandatory : No Option Orientation : Vertical

Correct Marks : 1 Wrong Marks : 0.25

Choose the word that can substitute the given sentence.

A disease which can be spread thought direct contact

Options :

1. ✖ Convalescent
2. ✖ Epidemic
3. ✖ Congruent
4. ✔ Contagious

Question Number : 152 Question Id : 54062624224 Question Type : MCQ Option Shuffling : Yes Is Question Mandatory : No Option Orientation : Vertical

Correct Marks : 1 Wrong Marks : 0.25

Choose the word that can substitute the given sentence.

A disease which can be spread thought direct contact

Options :

1. ✖ Convalescent
2. ✖ Epidemic
3. ✖ Congruent
4. ✔ Contagious

Question Number : 153 Question Id : 54062624225 Question Type : MCQ Option Shuffling : Yes Is Question Mandatory : No Option Orientation : Vertical

Correct Marks : 1 Wrong Marks : 0.25

Choose the word that can substitute the given sentence.

Causing death or ruin

Options :

1. ✖ Brutal
2. ✖ Salubrious
3. ✔ Fatal
4. ✖ Tonic

Question Number : 153 Question Id : 54062624225 Question Type : MCQ Option Shuffling : Yes Is Question Mandatory : No Option Orientation : Vertical

Correct Marks : 1 Wrong Marks : 0.25

Choose the word that can substitute the given sentence.

Causing death or ruin

Options :

1. ✖ Brutal
2. ✖ Salubrious
3. ✔ Fatal
4. ✖ Tonic

Question Number : 154 Question Id : 54062624226 Question Type : MCQ Option Shuffling : Yes Is Question Mandatory : No Option Orientation : Vertical

Correct Marks : 1 Wrong Marks : 0.25

Choose the word that can substitute the given sentence.

A group of singers

Options :

1. ✔ Choir
2. ✖ Coir

3. ✖ Quire
4. ✖ Quorum

Question Number : 154 Question Id : 54062624226 Question Type : MCQ Option Shuffling : Yes Is Question Mandatory : No Option Orientation : Vertical

Correct Marks : 1 Wrong Marks : 0.25

Choose the word that can substitute the given sentence.

A group of singers

Options :

1. ✔ Choir
2. ✖ Coir
3. ✖ Quire
4. ✖ Quorum

Question Number : 155 Question Id : 54062624227 Question Type : MCQ Option Shuffling : Yes Is Question Mandatory : No Option Orientation : Vertical

Correct Marks : 1 Wrong Marks : 0.25

Choose the word that can substitute the given sentence.

A child born after the death of his father

Options :

1. ✖ Fratricide
2. ✖ Progenitor
3. ✖ Orphan
4. ✔ Posthumous

Question Number : 155 Question Id : 54062624227 Question Type : MCQ Option Shuffling : Yes Is Question Mandatory : No Option Orientation : Vertical

Correct Marks : 1 Wrong Marks : 0.25

Choose the word that can substitute the given sentence.

A child born after the death of his father

Options :

1. ✖ Fratricide
2. ✖ Progenitor
3. ✖ Orphan
4. ✔ Posthumous

Sub-Section Number :	2
Sub-Section Id :	5406261429
Question Shuffling Allowed :	Yes

Question Id : 54062624228 Question Type : COMPREHENSION Sub Question Shuffling Allowed : Yes Group Comprehension Questions : No

Question Numbers : (156 to 160)

Read the following information carefully and answer the given questions.

Encephalitis is an inflammation of the brain. It is caused either by an infection invading the brain (infectious encephalitis) or through the immune system attacking the brain in error (post-infectious or autoimmune encephalitis). Anyone at any age can get encephalitis. There are up to 6,000 cases in the UK each year and potentially hundreds of thousands worldwide. In the USA there were approximately 250,000 patients admitted to hospital with a diagnosis of encephalitis in the last decade.
Viruses are the most frequently identified cause of infectious encephalitis (e.g. herpes viruses, enteroviruses, West Nile, Japanese encephalitis, La Crosse, St. Louis, Western equine, Eastern equine viruses and tick-borne viruses). Any virus has the potential to produce encephalitis, but not everybody who is infected with these viruses will develop encephalitis. Very rarely, bacteria, fungi or parasites can also cause encephalitis.
Some types of autoimmune encephalitis such as acute disseminated encephalomyelitis (ADEM) are caused by an infection in which case the term 'post-infectious encephalitis' is used. Other forms of autoimmune encephalitis are associated with finding specific antibodies in the blood such as VGKC complex (anti-LGI1 and Caspr2), NMDA receptor, GAD, AMPAR and GABA antibodies. Antibodies, also called immunoglobulins, are large Y-shaped proteins which identify and help remove foreign antigens such as viruses and bacteria. The reason why these antibodies are produced by the immune system in people with autoimmune encephalitis is not known in most cases. Sometimes a tumour (benign or cancerous) may generate the antibody. However, no certain theory based on it, has been cleared so far.

Sub questions

Question Number : 156 Question Id : 54062624229 Question Type : MCQ Option Shuffling : Yes Is Question Mandatory : No Option Orientation : Vertical

Correct Marks : 1 Wrong Marks : 0.25

What can be the suitable title for the given passage?

Options :

1. ✔ Encephalitis and its causes.

2. ✖ What is Encephalitis?
3. ✖ Stages of Encephalitis
4. ✖ Symptoms of Encephalitis

Question Number : 157 Question Id : 54062624230 Question Type : MCQ Option Shuffling : Yes Is Question Mandatory : No Option Orientation : Vertical

Correct Marks : 1 Wrong Marks : 0.25

Which of the following pathogens is not responsible for causing Encephalitis?

Options :

1. ✖ Virus
2. ✖ Bacteria
3. ✔ Protozoa
4. ✖ Fungi

Question Number : 158 Question Id : 54062624231 Question Type : MCQ Option Shuffling : Yes Is Question Mandatory : No Option Orientation : Vertical

Correct Marks : 1 Wrong Marks : 0.25

What is the reason behind the production of antibodies?

Options :

1. ✔ Removal of foreign antigens from the body is one of the reasons for its production.
2. ✖ For the identification of only virus and bacteria in the immune system.
3. ✖ As soon as, a pathogen enters in our body the production of these antibodies start.
4. ✖ The reason behind its production is not known yet.

Question Number : 159 Question Id : 54062624232 Question Type : MCQ Option Shuffling : Yes Is Question Mandatory : No Option Orientation : Vertical

Correct Marks : 1 Wrong Marks : 0.25

Which of the following words best expresses the opposite meaning of the word ‘Potential’?

Options :

1. ✔ Proven
2. ✖ Disembark
3. ✖ Viable
4. ✖ Implicit

Question Number : 160 Question Id : 54062624233 Question Type : MCQ Option Shuffling : Yes Is Question Mandatory : No Option Orientation : Vertical

Correct Marks : 1 Wrong Marks : 0.25

Which statement is definitely true about the Encephalitis?

Options :

1. ✖ It affects a person at a particular age.
2. ✔ It is caused by an infection invading the brain.
3. ✖ Not all viruses have the potential to cause this disease.
4. ✖ There is no treatment possible for this disease.

Question Id : 54062624228 Question Type : COMPREHENSION Sub Question Shuffling Allowed : Yes Group Comprehension Questions : No

Question Numbers : (156 to 160)

Read the following information carefully and answer the given questions.

Encephalitis is an inflammation of the brain. It is caused either by an infection invading the brain (infectious encephalitis) or through the immune system attacking the brain in error (post-infectious or autoimmune encephalitis). Anyone at any age can get encephalitis. There are up to 6,000 cases in the UK each year and potentially hundreds of thousands worldwide. In the USA there were approximately 250,000 patients admitted to hospital with a diagnosis of encephalitis in the last decade.
Viruses are the most frequently identified cause of infectious encephalitis (e.g. herpes viruses, enteroviruses, West Nile, Japanese encephalitis, La Crosse, St. Louis, Western equine, Eastern equine viruses and tick-borne viruses). Any virus has the potential to produce encephalitis, but not everybody who is infected with these viruses will develop encephalitis. Very rarely, bacteria, fungi or parasites can also cause encephalitis.
Some types of autoimmune encephalitis such as acute disseminated encephalomyelitis (ADEM) are caused by an infection in which case the term 'post-infectious encephalitis' is used. Other forms of autoimmune encephalitis are associated with finding specific antibodies in the blood such as VGKC complex (anti-LGI1 and Caspr2), NMDA receptor, GAD, AMPAR and GABA antibodies. Antibodies, also called immunoglobulins, are large Y-shaped proteins which identify and help remove foreign antigens such as viruses and bacteria. The reason why these antibodies are produced by the immune system in people with autoimmune encephalitis is not known in most cases. Sometimes a tumour (benign or cancerous) may generate the antibody. However, no certain theory based on it, has been cleared so far.

Sub questions

Question Number : 156 Question Id : 54062624229 Question Type : MCQ Option Shuffling : Yes Is Question Mandatory : No Option Orientation : Vertical

Correct Marks : 1 Wrong Marks : 0.25

What can be the suitable title for the given passage?

Options :

1. ✔ Encephalitis and its causes.
2. ✖ What is Encephalitis?
3. ✖ Stages of Encephalitis
4. ✖ Symptoms of Encephalitis

Question Number : 157 Question Id : 54062624230 Question Type : MCQ Option Shuffling : Yes Is Question Mandatory : No Option Orientation : Vertical

Correct Marks : 1 Wrong Marks : 0.25

Which of the following pathogens is not responsible for causing Encephalitis?

Options :

1. ✖ Virus
2. ✖ Bacteria
3. ✔ Protozoa
4. ✖ Fungi

Question Number : 158 Question Id : 54062624231 Question Type : MCQ Option Shuffling : Yes Is Question Mandatory : No Option Orientation : Vertical

Correct Marks : 1 Wrong Marks : 0.25

What is the reason behind the production of antibodies?

Options :

1. ✔ Removal of foreign antigens from the body is one of the reasons for its production.
2. ✖ For the identification of only virus and bacteria in the immune system.
3. ✖ As soon as, a pathogen enters in our body the production of these antibodies start.
4. ✖ The reason behind its production is not known yet.

Question Number : 159 Question Id : 54062624232 Question Type : MCQ Option Shuffling : Yes Is Question Mandatory : No Option Orientation : Vertical

Correct Marks : 1 Wrong Marks : 0.25

Which of the following words best expresses the opposite meaning of the word ‘Potential’?

Options :

1. ✔ Proven
2. ✖ Disembark

3. ✖ Viable
4. ✖ Implicit

Question Number : 160 Question Id : 54062624233 Question Type : MCQ Option Shuffling : Yes Is Question Mandatory : No Option Orientation : Vertical

Correct Marks : 1 Wrong Marks : 0.25

Which statement is definitely true about the Encephalitis?

Options :

1. ✖ It affects a person at a particular age.
2. ✔ It is caused by an infection invading the brain.
3. ✖ Not all viruses have the potential to cause this disease.
4. ✖ There is no treatment possible for this disease.

General Hindi1

Group Number :	9
Group Id :	540626954
Group Maximum Duration :	0
Group Minimum Duration :	0
Show Attended Group? :	No
Edit Attended Group? :	No
Break time :	0
Group Marks :	20
Is this Group for Examiner? :	No

General Hindi1

Section Id :	5406261201
Section Number :	1
Section type :	Online
Mandatory or Optional :	Mandatory
Number of Questions :	20

Number of Questions to be attempted :	20
Section Marks :	20
Enable Mark as Answered Mark for Review and Clear Response :	Yes
Sub-Section Number :	1
Sub-Section Id :	5406261430
Question Shuffling Allowed :	Yes

Question Number : 161 Question Id : 54062624234 Question Type : MCQ Option Shuffling : Yes Is Question Mandatory : No Option Orientation : Vertical

Correct Marks : 1 Wrong Marks : 0.25

दिए गए रिक्तस्थान में उचित सर्वनाम लिखकर वाक्य पूरा कीजिए।

_____ खेल में स्वर्ण पदक जीता है।

Options :

1. ✖ तुझे
2. ✖ तुम्हें
3. ✖ उसका
4. ✔ मैंने

Question Number : 161 Question Id : 54062624234 Question Type : MCQ Option Shuffling : Yes Is Question Mandatory : No Option Orientation : Vertical

Correct Marks : 1 Wrong Marks : 0.25

दिए गए रिक्तस्थान में उचित सर्वनाम लिखकर वाक्य पूरा कीजिए।

_____ खेल में स्वर्ण पदक जीता है।

Options :

1. ✖ तुझे
2. ✖ तुम्हें
3. ✖ उसका
4. ✔ मैंने

Question Number : 162 Question Id : 54062624235 Question Type : MCQ Option Shuffling : Yes Is Question Mandatory : No Option

Orientation : Vertical
Correct Marks : 1 Wrong Marks : 0.25
दिए गए शब्द का उपसर्ग ज्ञात कीजिए।

बेरोजगार
Options :
1. ✔ बे
2. ✖ बा
3. ✖ ब
4. ✖ बेर

Question Number : 162 Question Id : 54062624235 Question Type : MCQ Option Shuffling : Yes Is Question Mandatory : No Option Orientation : Vertical
Correct Marks : 1 Wrong Marks : 0.25
दिए गए शब्द का उपसर्ग ज्ञात कीजिए।

बेरोजगार
Options :
1. ✔ बे
2. ✖ बा
3. ✖ ब
4. ✖ बेर

Question Number : 163 Question Id : 54062624236 Question Type : MCQ Option Shuffling : Yes Is Question Mandatory : No Option Orientation : Vertical
Correct Marks : 1 Wrong Marks : 0.25
दिए गए वाक्य में सर्वनाम ज्ञात कीजिए।

मैं आज नहीं आऊंगा।
Options :
1. ✖ प्रथम पुरुष
2. ✔ उत्तम पुरुष

3. ✖ मध्यम पुरुष
4. ✖ अन्य पुरुष

Question Number : 163 Question Id : 54062624236 Question Type : MCQ Option Shuffling : Yes Is Question Mandatory : No Option Orientation : Vertical

Correct Marks : 1 Wrong Marks : 0.25

दिए गए वाक्य में सर्वनाम ज्ञात कीजिए।

मैं आज नहीं आऊंगा।

Options :

1. ✖ प्रथम पुरुष
2. ✔ उत्तम पुरुष
3. ✖ मध्यम पुरुष
4. ✖ अन्य पुरुष

Question Number : 164 Question Id : 54062624237 Question Type : MCQ Option Shuffling : Yes Is Question Mandatory : No Option Orientation : Vertical

Correct Marks : 1 Wrong Marks : 0.25

दिए गए वाक्य में रेखांकित शब्द की संज्ञा ज्ञात कीजिए।

खेतों में चारों ओर <u>हरियाली</u> नज़र आ रही हैं

Options :

1. ✖ जातिवाचक संज्ञा
2. ✖ समूहवाचक संज्ञा
3. ✖ व्यक्तिवाचक संज्ञा
4. ✔ भाववाचक संज्ञा

Question Number : 164 Question Id : 54062624237 Question Type : MCQ Option Shuffling : Yes Is Question Mandatory : No Option Orientation : Vertical

Correct Marks : 1 Wrong Marks : 0.25

दिए गए वाक्य में रेखांकित शब्द की संज्ञा ज्ञात कीजिए।

खेतों में चारों ओर हरियाली नज़र आ रही हैं

Options :

1. ✖ जातिवाचक संज्ञा
2. ✖ समूहवाचक संज्ञा
3. ✖ व्यक्तिवाचक संज्ञा
4. ✔ भाववाचक संज्ञा

Question Number : 165 Question Id : 54062624238 Question Type : MCQ Option Shuffling : Yes Is Question Mandatory : No Option Orientation : Vertical

Correct Marks : 1 Wrong Marks : 0.25

दिए गए शब्द का तद्भव ज्ञात कीजिए।

अनुत्थ

Options :

1. ✖ आँख
2. ✖ अचरज
3. ✔ अनूठा
4. ✖ अरपन

Question Number : 165 Question Id : 54062624238 Question Type : MCQ Option Shuffling : Yes Is Question Mandatory : No Option Orientation : Vertical

Correct Marks : 1 Wrong Marks : 0.25

दिए गए शब्द का तद्भव ज्ञात कीजिए।

अनुत्थ

Options :

1. ✖ आँख
2. ✖ अचरज
3. ✔ अनूठा
4. ✖ अरपन

Question Number : 166 Question Id : 54062624239 Question Type : MCQ Option Shuffling : Yes Is Question Mandatory : No Option Orientation : Vertical

Correct Marks : 1 Wrong Marks : 0.25

दिए गए शब्दों की संधि ज्ञात कीजिए।

उत् + हार

Options :

1. ✖ उत्तार
2. ✔ उद्धार
3. ✖ उधार
4. ✖ उतहार

Question Number : 166 Question Id : 54062624239 Question Type : MCQ Option Shuffling : Yes Is Question Mandatory : No Option Orientation : Vertical

Correct Marks : 1 Wrong Marks : 0.25

दिए गए शब्दों की संधि ज्ञात कीजिए।

उत् + हार

Options :

1. ✖ उत्तार
2. ✔ उद्धार
3. ✖ उधार
4. ✖ उतहार

Question Number : 167 Question Id : 54062624240 Question Type : MCQ Option Shuffling : Yes Is Question Mandatory : No Option Orientation : Vertical

Correct Marks : 1 Wrong Marks : 0.25

दिए गए वाक्य में सर्वनाम ज्ञात कीजिए।

आप स्वयं जाकर देख लीजिए।

Options :

1. ✖ निश्चयवाचक सर्वनाम

2. ✔ निजवाचक सर्वनाम
3. ✖ अनिश्चयवाचक सर्वनाम
4. ✖ संबंधवाचक सर्वनाम

Question Number : 167 Question Id : 54062624240 Question Type : MCQ Option Shuffling : Yes Is Question Mandatory : No Option Orientation : Vertical

Correct Marks : 1 Wrong Marks : 0.25

दिए गए वाक्य में सर्वनाम ज्ञात कीजिए।

आप स्वयं जाकर देख लीजिए।

Options :

1. ✖ निश्चयवाचक सर्वनाम
2. ✔ निजवाचक सर्वनाम
3. ✖ अनिश्चयवाचक सर्वनाम
4. ✖ संबंधवाचक सर्वनाम

Question Number : 168 Question Id : 54062624241 Question Type : MCQ Option Shuffling : Yes Is Question Mandatory : No Option Orientation : Vertical

Correct Marks : 1 Wrong Marks : 0.25

दिए गए शब्दों का सही तत्सम-तद्भव ज्ञात कीजिए।

Options :

1. ✖ आशीष-सीस
2. ✖ अज्ञान-अनजान
3. ✖ अनुत्थ-अंगूठा
4. ✔ उतिष्ठ-उठ

Question Number : 168 Question Id : 54062624241 Question Type : MCQ Option Shuffling : Yes Is Question Mandatory : No Option Orientation : Vertical

Correct Marks : 1 Wrong Marks : 0.25

दिए गए शब्दों का सही तत्सम-तद्भव ज्ञात कीजिए।

Options :

1. ✖ आशीष-सीस
2. ✖ अज्ञान-अनजान
3. ✖ अनुत्थ-अंगूठा
4. ✔ उतिष्ठ-उठ

Question Number : 169 Question Id : 54062624242 Question Type : MCQ Option Shuffling : Yes Is Question Mandatory : No Option Orientation : Vertical

Correct Marks : 1 Wrong Marks : 0.25

दिए गए शब्दों में शुद्ध वर्तनी का चयन कीजिए।

Options :

1. ✖ गृहणी
2. ✖ गृहनी
3. ✖ ग्रहिनि
4. ✔ गृहिणी

Question Number : 169 Question Id : 54062624242 Question Type : MCQ Option Shuffling : Yes Is Question Mandatory : No Option Orientation : Vertical

Correct Marks : 1 Wrong Marks : 0.25

दिए गए शब्दों में शुद्ध वर्तनी का चयन कीजिए।

Options :

1. ✖ गृहणी
2. ✖ गृहनी
3. ✖ ग्रहिनि
4. ✔ गृहिणी

Question Number : 170 Question Id : 54062624243 Question Type : MCQ Option Shuffling : Yes Is Question Mandatory : No Option Orientation : Vertical

Correct Marks : 1 Wrong Marks : 0.25

दिए गए वाक्य में उपयुक्त शब्द का चयन करके रिक्त स्थान की पूर्ति कीजिए।

कोई व्यक्ति _____ का मार्गदर्शन कैसे कर सकता है।

Options :

1. ✖ तुम्हारा
2. ✔ किसी
3. ✖ के लिए
4. ✖ हमारा

Question Number : 170 Question Id : 54062624243 Question Type : MCQ Option Shuffling : Yes Is Question Mandatory : No Option Orientation : Vertical

Correct Marks : 1 Wrong Marks : 0.25

दिए गए वाक्य में उपयुक्त शब्द का चयन करके रिक्त स्थान की पूर्ति कीजिए।

कोई व्यक्ति _____ का मार्गदर्शन कैसे कर सकता है।

Options :

1. ✖ तुम्हारा
2. ✔ किसी
3. ✖ के लिए
4. ✖ हमारा

Question Number : 171 Question Id : 54062624244 Question Type : MCQ Option Shuffling : Yes Is Question Mandatory : No Option Orientation : Vertical

Correct Marks : 1 Wrong Marks : 0.25

दिए गए शब्दों में शुद्ध वर्तनी का चयन कीजिए।

Options :

1. ✖ चेषटा
2. ✖ चष्ठा
3. ✖ चेष्ठा
4. ✔ चेष्टा

Question Number : 171 Question Id : 54062624244 Question Type : MCQ Option Shuffling : Yes Is Question Mandatory : No Option Orientation : Vertical

Correct Marks : 1 Wrong Marks : 0.25

दिए गए शब्दों में शुद्ध वर्तनी का चयन कीजिए।

Options :

1. ✖ चेषटा
2. ✖ चष्ठा
3. ✖ चेष्ठा
4. ✔ चेष्टा

Question Number : 172 Question Id : 54062624245 Question Type : MCQ Option Shuffling : Yes Is Question Mandatory : No Option Orientation : Vertical

Correct Marks : 1 Wrong Marks : 0.25

दिए गए शब्द का विलोम शब्द ज्ञात कीजिए।

करुण

Options :

1. ✖ वरुण
2. ✖ कर्कश
3. ✔ निष्ठुर
4. ✖ कटु

Question Number : 172 Question Id : 54062624245 Question Type : MCQ Option Shuffling : Yes Is Question Mandatory : No Option Orientation : Vertical

Correct Marks : 1 Wrong Marks : 0.25

दिए गए शब्द का विलोम शब्द ज्ञात कीजिए।

करुण

Options :

1. ✖ वरुण
2. ✖ कर्कश
3. ✔ निष्ठुर
4. ✖ कटु

Question Number : 173 Question Id : 54062624246 Question Type : MCQ Option Shuffling : Yes Is Question Mandatory : No Option Orientation : Vertical

Correct Marks : 1 Wrong Marks : 0.25

दिए गए शब्द का पर्यायवाची शब्द ज्ञात कीजिए।

कुसुम

Options :

1. ✖ कंटक
2. ✔ प्रसून
3. ✖ गुहा
4. ✖ कूर्म

Question Number : 173 Question Id : 54062624246 Question Type : MCQ Option Shuffling : Yes Is Question Mandatory : No Option Orientation : Vertical

Correct Marks : 1 Wrong Marks : 0.25

दिए गए शब्द का पर्यायवाची शब्द ज्ञात कीजिए।

कुसुम

Options :

1. ✖ कंटक
2. ✔ प्रसून
3. ✖ गुहा
4. ✖ कूर्म

Question Number : 174 Question Id : 54062624247 Question Type : MCQ Option Shuffling : Yes Is Question Mandatory : No Option Orientation : Vertical

Correct Marks : 1 Wrong Marks : 0.25

निम्नलिखित शब्द का पर्यायवाची नहीं हैं, ज्ञात कीजिए।

जल

Options :

1. ✖ उदक

2. ✖ सलिल
3. ✖ नीर
4. ✔ दुहिता

Question Number : 174 Question Id : 54062624247 Question Type : MCQ Option Shuffling : Yes Is Question Mandatory : No Option Orientation : Vertical

Correct Marks : 1 Wrong Marks : 0.25

निम्नलिखित शब्द का पर्यायवाची नहीं हैं, ज्ञात कीजिए।

जल

Options :

1. ✖ उदक
2. ✖ सलिल
3. ✖ नीर
4. ✔ दुहिता

Question Number : 175 Question Id : 54062624248 Question Type : MCQ Option Shuffling : Yes Is Question Mandatory : No Option Orientation : Vertical

Correct Marks : 1 Wrong Marks : 0.25

दिए गए शब्द युग्म का सही शब्द युग्म ज्ञात कीजिए।

कल्पना : कलपना

Options :

1. ✖ काम : कमर
2. ✖ तैयार : काम
3. ✔ कृत्रिम विचार : दुखी रहना
4. ✖ दुखी रहना : तैयार

Question Number : 175 Question Id : 54062624248 Question Type : MCQ Option Shuffling : Yes Is Question Mandatory : No Option Orientation : Vertical

Correct Marks : 1 Wrong Marks : 0.25

दिए गए शब्द युग्म का सही शब्द युग्म ज्ञात कीजिए।

कल्पना : कलपना

Options :

1. ✖ काम : कमर
2. ✖ तैयार : काम
3. ✔ कृत्रिम विचार : दुखी रहना
4. ✖ दुखी रहना : तैयार

Question Number : 176 Question Id : 54062624249 Question Type : MCQ Option Shuffling : Yes Is Question Mandatory : No Option Orientation : Vertical

Correct Marks : 1 Wrong Marks : 0.25

निम्नलिखित वाक्यांश के लिए उचित शब्द का चयन कीजिए।

मोक्ष की इच्छा रखने वाला

Options :

1. ✖ मुमूर्षु
2. ✖ मुमूर्षा
3. ✖ मुमाक्ष
4. ✔ मुमुक्षु

Question Number : 176 Question Id : 54062624249 Question Type : MCQ Option Shuffling : Yes Is Question Mandatory : No Option Orientation : Vertical

Correct Marks : 1 Wrong Marks : 0.25

निम्नलिखित वाक्यांश के लिए उचित शब्द का चयन कीजिए।

मोक्ष की इच्छा रखने वाला

Options :

1. ✖ मुमूर्षु
2. ✖ मुमूर्षा
3. ✖ मुमाक्ष
4. ✔ मुमुक्षु

Question Number : 177 Question Id : 54062624250 Question Type : MCQ Option Shuffling : Yes Is Question Mandatory : No Option Orientation : Vertical

Correct Marks : 1 Wrong Marks : 0.25

दिए गए वाक्य में उचित परसर्गों का चयन करके रिक्त स्थानों की पूर्ति कीजिए।

रमा _____ फल मेज _____ रखे।

Options :

1. ✖ ने; में
2. ✖ में; ने
3. ✔ ने; पर
4. ✖ पर; में

Question Number : 177 Question Id : 54062624250 Question Type : MCQ Option Shuffling : Yes Is Question Mandatory : No Option Orientation : Vertical

Correct Marks : 1 Wrong Marks : 0.25

दिए गए वाक्य में उचित परसर्गों का चयन करके रिक्त स्थानों की पूर्ति कीजिए।

रमा _____ फल मेज _____ रखे।

Options :

1. ✖ ने; में
2. ✖ में; ने
3. ✔ ने; पर
4. ✖ पर; में

Question Number : 178 Question Id : 54062624251 Question Type : MCQ Option Shuffling : Yes Is Question Mandatory : No Option Orientation : Vertical

Correct Marks : 1 Wrong Marks : 0.25

दिए गए शब्द किस पुरूष के उदाहरण हैं, ज्ञात कीजिए।

आप, तुम्हारा, तुझे

Options :

1. ✖ प्रथम

2. ✖ उत्तम
3. ✔ मध्यम
4. ✖ अन्य

Question Number : 178 Question Id : 54062624251 Question Type : MCQ Option Shuffling : Yes Is Question Mandatory : No Option Orientation : Vertical

Correct Marks : 1 Wrong Marks : 0.25

दिए गए शब्द किस पुरूष के उदाहरण हैं, ज्ञात कीजिए।

आप, तुम्हारा, तुझे

Options :

1. ✖ प्रथम
2. ✖ उत्तम
3. ✔ मध्यम
4. ✖ अन्य

Question Number : 179 Question Id : 54062624252 Question Type : MCQ Option Shuffling : Yes Is Question Mandatory : No Option Orientation : Vertical

Correct Marks : 1 Wrong Marks : 0.25

दिए गए वाक्य का पक्ष ज्ञात कीजिए।

अध्यापिका रोज विद्यालय जाती है।

Options :

1. ✔ नित्य पक्ष
2. ✖ सात्तय
3. ✖ पूर्ण
4. ✖ स्थित्यामक

Question Number : 179 Question Id : 54062624252 Question Type : MCQ Option Shuffling : Yes Is Question Mandatory : No Option Orientation : Vertical

Correct Marks : 1 Wrong Marks : 0.25

दिए गए वाक्य का पक्ष ज्ञात कीजिए।

अध्यापिका रोज विद्यालय जाती है।

Options :

1. ✔ नित्य पक्ष
2. ✖ सातत्य
3. ✖ पूर्ण
4. ✖ स्थित्यामक

Question Number : 180 Question Id : 54062624253 Question Type : MCQ Option Shuffling : Yes Is Question Mandatory : No Option Orientation : Vertical

Correct Marks : 1 Wrong Marks : 0.25

दिए गए वाक्य की वृत्ति ज्ञात कीजिए।

आज बारिश हो सकती है।

Options :

1. ✖ बाध्यता सूचक
2. ✔ संभावनार्थक
3. ✖ आज्ञार्थक
4. ✖ निश्चियार्थक

Question Number : 180 Question Id : 54062624253 Question Type : MCQ Option Shuffling : Yes Is Question Mandatory : No Option Orientation : Vertical

Correct Marks : 1 Wrong Marks : 0.25

दिए गए वाक्य की वृत्ति ज्ञात कीजिए।

आज बारिश हो सकती है।

Options :

1. ✖ बाध्यता सूचक
2. ✔ संभावनार्थक
3. ✖ आज्ञार्थक
4. ✖ निश्चियार्थक

General Hindi2

Group Number :	10
Group Id :	540626955
Group Maximum Duration :	0
Group Minimum Duration :	120
Show Attended Group? :	No
Edit Attended Group? :	No
Break time :	0
Group Marks :	20
Is this Group for Examiner? :	No

General Hindi2

Section Id :	5406261202
Section Number :	1
Section type :	Online
Mandatory or Optional :	Mandatory
Number of Questions :	16
Number of Questions to be attempted :	16
Section Marks :	20
Enable Mark as Answered Mark for Review and Clear Response :	Yes
Sub-Section Number :	1
Sub-Section Id :	5406261431
Question Shuffling Allowed :	Yes

Question Number : 181 Question Id : 54062624254 Question Type : MCQ Option Shuffling : Yes Is Question Mandatory : No Option Orientation : Vertical

Correct Marks : 1 Wrong Marks : 0.25

निम्नलिखित शब्दों में से कौन से शब्द स्त्रीलिंग के उदाहरण हैं?

Options :

1. ✖ भुलावा, बचपन

2. ✔ रेवती, रोहिणी
3. ✖ पूर्णिमा, झुकाव
4. ✖ रेल, गुस्सा

Question Number : 181 Question Id : 54062624254 Question Type : MCQ Option Shuffling : Yes Is Question Mandatory : No Option Orientation : Vertical

Correct Marks : 1 Wrong Marks : 0.25

निम्नलिखित शब्दों में से कौन से शब्द स्त्रीलिंग के उदाहरण हैं?

Options :

1. ✖ भुलावा, बचपन
2. ✔ रेवती, रोहिणी
3. ✖ पूर्णिमा, झुकाव
4. ✖ रेल, गुस्सा

Question Number : 182 Question Id : 54062624255 Question Type : MCQ Option Shuffling : Yes Is Question Mandatory : No Option Orientation : Vertical

Correct Marks : 1 Wrong Marks : 0.25

निम्नलिखित शब्दों में से कौन से शब्द बहुवचन के उदाहरण हैं?

Options :

1. ✔ कौए, रुपए
2. ✖ केला, कुत्ता
3. ✖ दासी, नारी
4. ✖ सेना, केला

Question Number : 182 Question Id : 54062624255 Question Type : MCQ Option Shuffling : Yes Is Question Mandatory : No Option Orientation : Vertical

Correct Marks : 1 Wrong Marks : 0.25

निम्नलिखित शब्दों में से कौन से शब्द बहुवचन के उदाहरण हैं?

Options :

1. ✔ कौए, रुपए
2. ✖ केला, कुत्ता

3. ✖ दासी, नारी
4. ✖ सेना, केला

Question Number : 183 Question Id : 54062624256 Question Type : MCQ Option Shuffling : Yes Is Question Mandatory : No Option Orientation : Vertical

Correct Marks : 1 Wrong Marks : 0.25

निम्नलिखित वाक्यों में से कौन सा वाक्य सम्भाव्य भविष्यत् काल का उदाहरण है?

Options :

1. ✖ मोहन आये तो रोहन जाये।
2. ✔ शायद गौरव पकड़ा जाये।
3. ✖ बच्चे लूडो खेलेंगे।
4. ✖ वह पढ़ेगी तो तभी पास होगी।

Question Number : 183 Question Id : 54062624256 Question Type : MCQ Option Shuffling : Yes Is Question Mandatory : No Option Orientation : Vertical

Correct Marks : 1 Wrong Marks : 0.25

निम्नलिखित वाक्यों में से कौन सा वाक्य सम्भाव्य भविष्यत् काल का उदाहरण है?

Options :

1. ✖ मोहन आये तो रोहन जाये।
2. ✔ शायद गौरव पकड़ा जाये।
3. ✖ बच्चे लूडो खेलेंगे।
4. ✖ वह पढ़ेगी तो तभी पास होगी।

Question Number : 184 Question Id : 54062624257 Question Type : MCQ Option Shuffling : Yes Is Question Mandatory : No Option Orientation : Vertical

Correct Marks : 1 Wrong Marks : 0.25

दिए गए वाक्यों में से संयुक्त वाक्य ज्ञात कीजिए।

Options :

1. ✔ मैं बहुत तेज़ी से दौड़ा फिर भी ट्रेन नहीं पकड़ सका।
2. ✖ जब मैं बहुत तेज़ दौड़ा तब मैंने ट्रेन पकड़ी।
3. ✖ मैं तेज़ दौड़कर भी ट्रेन नहीं पकड़ सका।

4. ✖ यदि मैं तेज़ दौड़ता तो ट्रेन पकड़ लेता।

Question Number : 184 Question Id : 54062624257 Question Type : MCQ Option Shuffling : Yes Is Question Mandatory : No Option Orientation : Vertical

Correct Marks : 1 Wrong Marks : 0.25

दिए गए वाक्यों में से संयुक्त वाक्य ज्ञात कीजिए।

Options :

1. ✔ मैं बहुत तेज़ी से दौड़ा फिर भी ट्रेन नहीं पकड़ सका।
2. ✖ जब मैं बहुत तेज़ दौड़ा तब मैंने ट्रेन पकड़ी।
3. ✖ मैं तेज़ दौड़कर भी ट्रेन नहीं पकड़ सका।
4. ✖ यदि मैं तेज़ दौड़ता तो ट्रेन पकड़ लेता।

Question Number : 185 Question Id : 54062624258 Question Type : MCQ Option Shuffling : Yes Is Question Mandatory : No Option Orientation : Vertical

Correct Marks : 1 Wrong Marks : 0.25

निम्नलिखित वाक्यों में से सरल वाक्य ज्ञात कीजिए।

Options :

1. ✔ वह लम्बा लड़का राधा का भाई है।
2. ✖ जो लड़का लम्बा है वह राधा का भाई है।
3. ✖ राधा का जो भाई है वह लम्बा है।
4. ✖ जो राधा का भाई है वह लम्बा है।

Question Number : 185 Question Id : 54062624258 Question Type : MCQ Option Shuffling : Yes Is Question Mandatory : No Option Orientation : Vertical

Correct Marks : 1 Wrong Marks : 0.25

निम्नलिखित वाक्यों में से सरल वाक्य ज्ञात कीजिए।

Options :

1. ✔ वह लम्बा लड़का राधा का भाई है।
2. ✖ जो लड़का लम्बा है वह राधा का भाई है।
3. ✖ राधा का जो भाई है वह लम्बा है।
4. ✖ जो राधा का भाई है वह लम्बा है।

Question Number : 186 Question Id : 54062624259 Question Type : MCQ Option Shuffling : Yes Is Question Mandatory : No Option Orientation : Vertical

Correct Marks : 1 Wrong Marks : 0.25

निम्नलिखित वाक्यों में से शुद्ध वाक्य का चयन कीजिए।

Options :

1. ✖ उसने मुझे गुनगुने गरम पानी से यह दवा लेने को कहा।
2. ✖ मुझे उसने गुनगुना गरम से पानी के साथ यह दवा लेने को कहा।
3. ✔ उसने मुझे गुनगुने पानी से यह दवा लेने को कहा।
4. ✖ मुझे उसने गुनगुने पानी के साथ वह दवा लेने को कहा।

Question Number : 186 Question Id : 54062624259 Question Type : MCQ Option Shuffling : Yes Is Question Mandatory : No Option Orientation : Vertical

Correct Marks : 1 Wrong Marks : 0.25

निम्नलिखित वाक्यों में से शुद्ध वाक्य का चयन कीजिए।

Options :

1. ✖ उसने मुझे गुनगुने गरम पानी से यह दवा लेने को कहा।
2. ✖ मुझे उसने गुनगुना गरम से पानी के साथ यह दवा लेने को कहा।
3. ✔ उसने मुझे गुनगुने पानी से यह दवा लेने को कहा।
4. ✖ मुझे उसने गुनगुने पानी के साथ वह दवा लेने को कहा।

Question Number : 187 Question Id : 54062624260 Question Type : MCQ Option Shuffling : Yes Is Question Mandatory : No Option Orientation : Vertical

Correct Marks : 1 Wrong Marks : 0.25

दिए गए वाक्य में किस विराम चिन्ह का उपयोग किया जाएगा उसकी पहचान कीजिए।

राम अच्छा लड़का है

Options :

1. ✖ !
2. ✔ ।
3. ✖ ?
4. ✖ ...

Question Number : 187 Question Id : 54062624260 Question Type : MCQ Option Shuffling : Yes Is Question Mandatory : No Option Orientation : Vertical

Correct Marks : 1 Wrong Marks : 0.25

दिए गए वाक्य में किस विराम चिन्ह का उपयोग किया जाएगा उसकी पहचान कीजिए।

राम अच्छा लड़का है

Options :

1. ✖ !
2. ✔ ।
3. ✖ ?
4. ✖ ...

Question Number : 188 Question Id : 54062624261 Question Type : MCQ Option Shuffling : Yes Is Question Mandatory : No Option Orientation : Vertical

Correct Marks : 1 Wrong Marks : 0.25

दिए गए वाक्य में उपयुक्त विराम चिन्ह का चयन कीजिए।

मैं सामान उठा दूँगा पर

Options :

1. ✖ विस्मरण चिन्ह
2. ✖ अल्पविराम चिन्ह
3. ✖ पूर्णविराम चिन्ह
4. ✔ पद्लोप चिन्ह

Question Number : 188 Question Id : 54062624261 Question Type : MCQ Option Shuffling : Yes Is Question Mandatory : No Option Orientation : Vertical

Correct Marks : 1 Wrong Marks : 0.25

दिए गए वाक्य में उपयुक्त विराम चिन्ह का चयन कीजिए।

मैं सामान उठा दूँगा पर

Options :

1. ✖ विस्मरण चिन्ह
2. ✖ अल्पविराम चिन्ह
3. ✖ पूर्णविराम चिन्ह
4. ✔ पद्लोप चिन्ह

Question Number : 189 Question Id : 54062624262 Question Type : MCQ Option Shuffling : Yes Is Question Mandatory : No Option Orientation : Vertical

Correct Marks : 1 Wrong Marks : 0.25

दिए गए वाक्य में उपयुक्त विराम चिन्ह का चयन कीजिए।

लोगों ने मिस्टर यादव को एमपी चुन लिया।

Options :

1. ✔ लाघव
2. ✖ अर्द्धविराम
3. ✖ लोप
4. ✖ अपूर्णविराम

Question Number : 189 Question Id : 54062624262 Question Type : MCQ Option Shuffling : Yes Is Question Mandatory : No Option Orientation : Vertical

Correct Marks : 1 Wrong Marks : 0.25

दिए गए वाक्य में उपयुक्त विराम चिन्ह का चयन कीजिए।

लोगों ने मिस्टर यादव को एमपी चुन लिया।

Options :

1. ✔ लाघव
2. ✖ अर्द्धविराम
3. ✖ लोप
4. ✖ अपूर्णविराम

Question Number : 190 Question Id : 54062624263 Question Type : MCQ Option Shuffling : Yes Is Question Mandatory : No Option Orientation : Vertical

Correct Marks : 1 Wrong Marks : 0.25

दिए गए वाक्य में उपयुक्त विराम चिन्ह का चयन कीजिए।

आप सभवत कानपुर के निवासी हैं

Options :

1. ✔ : ?
2. ✖ ; ।
3. ✖ , !
4. ✖ :- ।

Question Number : 190 Question Id : 54062624263 Question Type : MCQ Option Shuffling : Yes Is Question Mandatory : No Option Orientation : Vertical

Correct Marks : 1 Wrong Marks : 0.25

दिए गए वाक्य में उपयुक्त विराम चिन्ह का चयन कीजिए।

आप सभवत कानपुर के निवासी हैं

Options :

1. ✔ : ?
2. ✖ ; ।
3. ✖ , !
4. ✖ :- ।

Question Number : 191 Question Id : 54062624264 Question Type : MCQ Option Shuffling : Yes Is Question Mandatory : No Option Orientation : Vertical

Correct Marks : 1 Wrong Marks : 0.25

निम्नलिखित प्रश्न में, दिए गए चार विकल्पों में से, उस विकल्प का चयन करें जो दिए गए मुहावरे के अर्थ को सर्वश्रेष्ठ रूप से व्यक्त करता है।

अँधों का हाथी होना

Options :

1. ✖ आमने-सामने होना
2. ✖ बुद्धि कम होना
3. ✖ सब कुछ समझना
4. ✔ किसी विषय का पूर्ण ज्ञान ना होना

Question Number : 191 Question Id : 54062624264 Question Type : MCQ Option Shuffling : Yes Is Question Mandatory : No Option Orientation : Vertical

Correct Marks : 1 Wrong Marks : 0.25

निम्नलिखित प्रश्न में, दिए गए चार विकल्पों में से, उस विकल्प का चयन करें जो दिए गए मुहावरे के अर्थ को सर्वश्रेष्ठ रूप से व्यक्त करता है।

अँधों का हाथी होना

Options :

1. ✖ आमने-सामने होना
2. ✖ बुद्धि कम होना
3. ✖ सब कुछ समझना
4. ✔ किसी विषय का पूर्ण ज्ञान ना होना

Question Number : 192 Question Id : 54062624265 Question Type : MCQ Option Shuffling : Yes Is Question Mandatory : No Option Orientation : Vertical

Correct Marks : 1 Wrong Marks : 0.25

निम्नलिखित प्रश्न में, दिए गए चार विकल्पों में से, उस विकल्प का चयन करें जो दिए गए मुहावरे के अर्थ को सर्वश्रेष्ठ रूप से व्यक्त करता है।

अपना अपना है, पराया पराया

Options :

1. ✖ मनचाही वस्तु पाना
2. ✔ अपने पराये की पहचान
3. ✖ कोई बाधा न होना
4. ✖ व्यभिचार करना

Question Number : 192 Question Id : 54062624265 Question Type : MCQ Option Shuffling : Yes Is Question Mandatory : No Option Orientation : Vertical

Correct Marks : 1 Wrong Marks : 0.25

निम्नलिखित प्रश्न में, दिए गए चार विकल्पों में से, उस विकल्प का चयन करें जो दिए गए मुहावरे के अर्थ को सर्वश्रेष्ठ रूप से व्यक्त करता है।

अपना अपना है, पराया पराया

Options :

1. ✖ मनचाही वस्तु पाना
2. ✔ अपने पराये की पहचान
3. ✖ कोई बाधा न होना
4. ✖ व्यभिचार करना

Question Number : 193 Question Id : 54062624266 Question Type : MCQ Option Shuffling : Yes Is Question Mandatory : No Option Orientation : Vertical

Correct Marks : 1 Wrong Marks : 0.25

निम्नलिखित प्रश्न में, दिए गए चार विकल्पों में से, उस विकल्प का चयन करें जो दिए गए मुहावरे के अर्थ को सर्वश्रेष्ठ रूप से व्यक्त करता है।

चल बसना

Options :

1. ✖ कहीं और रहना
2. ✖ डर जाना
3. ✖ घबराना
4. ✔ मर जाना

Question Number : 193 Question Id : 54062624266 Question Type : MCQ Option Shuffling : Yes Is Question Mandatory : No Option Orientation : Vertical

Correct Marks : 1 Wrong Marks : 0.25

निम्नलिखित प्रश्न में, दिए गए चार विकल्पों में से, उस विकल्प का चयन करें जो दिए गए मुहावरे के अर्थ को सर्वश्रेष्ठ रूप से व्यक्त करता है।

चल बसना

Options :

1. ✖ कहीं और रहना
2. ✖ डर जाना
3. ✖ घबराना
4. ✔ मर जाना

Question Number : 194 Question Id : 54062624267 Question Type : MCQ Option Shuffling : Yes Is Question Mandatory : No Option Orientation : Vertical

Correct Marks : 1 Wrong Marks : 0.25

निम्नलिखित प्रश्न में, दिए गए चार विकल्पों में से, उस विकल्प का चयन करें जो दिए गए मुहावरे के अर्थ को सर्वश्रेष्ठ रूप से व्यक्त करता है।

अक्ल का पुतला होना

Options :

1. ✔ अधिक बुद्धिमान
2. ✖ इतिश्री होना
3. ✖ बुद्धि का इस्तेमाल करना
4. ✖ सिर उठाना

Question Number : 194 Question Id : 54062624267 Question Type : MCQ Option Shuffling : Yes Is Question Mandatory : No Option Orientation : Vertical

Correct Marks : 1 Wrong Marks : 0.25

निम्नलिखित प्रश्न में, दिए गए चार विकल्पों में से, उस विकल्प का चयन करें जो दिए गए मुहावरे के अर्थ को सर्वश्रेष्ठ रूप से व्यक्त करता है।

अक्ल का पुतला होना

Options :

1. ✔ अधिक बुद्धिमान
2. ✖ इतिश्री होना
3. ✖ बुद्धि का इस्तेमाल करना
4. ✖ सिर उठाना

Question Number : 195 Question Id : 54062624268 Question Type : MCQ Option Shuffling : Yes Is Question Mandatory : No Option Orientation : Vertical

Correct Marks : 1 Wrong Marks : 0.25

निम्नलिखित प्रश्न में, दिए गए चार विकल्पों में से, उस विकल्प का चयन करें जो दिए गए मुहावरे के अर्थ को सर्वश्रेष्ठ रूप से व्यक्त करता है।

अक्ल चरने जाना

Options :

1. ✔ अक्ल का काम न करना
2. ✖ बुद्धि भ्रष्ट होना
3. ✖ हार मान लेना
4. ✖ थक जाना

Question Number : 195 Question Id : 54062624268 Question Type : MCQ Option Shuffling : Yes Is Question Mandatory : No Option Orientation : Vertical

Correct Marks : 1 Wrong Marks : 0.25

निम्नलिखित प्रश्न में, दिए गए चार विकल्पों में से, उस विकल्प का चयन करें जो दिए गए मुहावरे के अर्थ को सर्वश्रेष्ठ रूप से व्यक्त करता है।

अक्ल चरने जाना

Options :

1. ✔ अक्ल का काम न करना
2. ✖ बुद्धि भ्रष्ट होना
3. ✖ हार मान लेना
4. ✖ थक जाना

Sub-Section Number :	2
Sub-Section Id :	5406261432
Question Shuffling Allowed :	Yes

Question Id : 54062624269 Question Type : COMPREHENSION Sub Question Shuffling Allowed : Yes Group Comprehension Questions : No

Question Numbers : (196 to 200)

दिए गए गद्यांश को ध्यानपूर्वक पढ़ें तथा प्रत्येक प्रश्न के चार विकल्पो में से सही विकल्प चुने।

आज का दौर युवाशक्ति का दौर है। सोशल मीडिया आज हमारे जीवन में एक बड़ी भूमिका निभा रहा है। सोशल मीडिया एक बहुत ही सशक्त माध्यम है और इसका प्रभाव प्रत्येक व्यक्ति पर पड़ता है। सोशल मीडिया समाज के सामाजिक विकास में अपना योगदान देता है और कई व्यवसायों को बढ़ाने में भी मदद करता है। यह सोशल मीडिया मार्केटिंग जैसे साधन प्रदान करता है। किसी भी सामाजिक कारण के बारे में जागरूकता पैदा करने के लिए सोशल मीडिया का उपयोग एक अच्छा साधन है। सोशल नेटवर्किंग साइटों पर उपस्थिति का बढ़ता दबाव और प्रभावशाली प्रोफ़ाइल, युवाओं को बड़े पैमाने पर प्रभावित कर रही है। सोशल मीडिया का अत्यधिक उपयोग निद्रा को प्रभावित करता है। युवा पीढ़ी ही नहीं आज वरिष्ठ पीढ़ी भी सोशल मीडिया की आदी हो चुकी है। लोकप्रियता के प्रसार में सोशल मीडिया एक बेहतरीन प्लेटफॉर्म है, जहां व्यक्ति स्वयं को अथवा अपने किसी उत्पाद को ज्यादा लोकप्रिय बना सकता है। वीडियो तथा ऑडियो चैट भी सोशल मीडिया के माध्यम से सुगम हो पाई है जिनमें फेसबुक, व्हॉट्सऐप है। व्यापार के लिए सोशल मीडिया का प्रयोग बेहद फायदेमंद है। ऑनलाइन सफलता सोशल मीडिया के प्रभावी उपयोग के साथ आती है। सोशल मीडिया वर्तमान समय में सबसे लोकप्रिय सूचनाओं के व्यापक संचार व लोगों की स्वतंत्र अभिव्यक्ति का माध्यम बन गया है। जिसके फलस्वरूप पूरे दुनिया के सामाजिक स्तर, संस्कृति, विस्तार और विकास पर अलग किस्म का बदलाव दिखाई दे रहा है। सोशल मीडिया ने जीवनशैली को बहुत ही प्रभावित किया है।

Sub questions

Question Number : 196 Question Id : 54062624270 Question Type : MCQ Option Shuffling : Yes Is Question Mandatory : No Option Orientation : Vertical

Correct Marks : 1 Wrong Marks : 0.25

किसका अत्यधिक उपयोग हमारी नींद को भी प्रभावित करता है?

Options :

1. ✖ प्रभावशाली प्रोफाइल
2. ✖ चैट
3. ✖ स्वतंत्रत अभिव्यक्ति
4. ✔ सोशल मीडिया

Question Number : 197 Question Id : 54062624271 Question Type : MCQ Option Shuffling : Yes Is Question Mandatory : No Option Orientation : Vertical

Correct Marks : 1 Wrong Marks : 0.25

आज का दौर किसका दौर कहलाता हैं?

Options :

1. ✖ वरिष्ठ पीढ़ी
2. ✔ युवाशक्ति
3. ✖ सामाजिक स्तर
4. ✖ राजनीतिकरण

Question Number : 198 Question Id : 54062624272 Question Type : MCQ Option Shuffling : Yes Is Question Mandatory : No Option Orientation : Vertical

Correct Marks : 1 Wrong Marks : 0.25

वर्तमान समय में सोशल मीडिया लोगों के लिए कैसा माध्यम बन गया है?

Options :

1. ✔ स्वतंत्र अभिव्यक्ति
2. ✖ प्रभावी
3. ✖ विस्तार
4. ✖ व्यापक

Question Number : 199 Question Id : 54062624273 Question Type : MCQ Option Shuffling : Yes Is Question Mandatory : No Option Orientation : Vertical

Correct Marks : 1 Wrong Marks : 0.25

किसके प्रसार में यह एक बेहतरीन प्लेटफ़ॉर्म है?

Options :

1. ✖ विरोध
2. ✖ संस्कृति
3. ✔ लोकप्रियता
4. ✖ जीवनशैली

Question Number : 200 Question Id : 54062624274 Question Type : MCQ Option Shuffling : Yes Is Question Mandatory : No Option Orientation : Vertical

Correct Marks : 1 Wrong Marks : 0.25

दिए गए युक्त गद्यांश में उपयुक्त शीर्षक क्या होगा?

Options :

1. ✖ जीवनशैली पर प्रभाव
2. ✔ सोशल मीडिया का महत्त्व
3. ✖ सोशल नेटवर्किंग
4. ✖ सामाजिक विकास

Question Id : 54062624269 Question Type : COMPREHENSION Sub Question Shuffling Allowed : Yes Group Comprehension Questions : No

Question Numbers : (196 to 200)

दिए गए गद्यांश को ध्यानपूर्वक पढ़ें तथा प्रत्येक प्रश्न के चार विकल्पो में से सही विकल्प चुने।

आज का दौर युवाशक्ति का दौर है। सोशल मीडिया आज हमारे जीवन में एक बड़ी भूमिका निभा रहा है। सोशल मीडिया एक बहुत ही सशक्त माध्यम है और इसका प्रभाव प्रत्येक व्यक्ति पर पड़ता है। सोशल मीडिया समाज के सामाजिक विकास में अपना योगदान देता है और कई व्यवसायों को बढ़ाने में भी मदद करता है। यह सोशल मीडिया मार्केटिंग जैसे साधन प्रदान करता है। किसी भी सामाजिक कारण के बारे में जागरूकता पैदा करने के लिए सोशल मीडिया का उपयोग एक अच्छा साधन है। सोशल नेटवर्किंग साइटों पर उपस्थिति का बढ़ता दबाव और प्रभावशाली प्रोफ़ाइल, युवाओं को बड़े पैमाने पर प्रभावित कर रही है। सोशल मीडिया का अत्यधिक उपयोग निद्रा को प्रभावित करता है। युवा पीढ़ी ही नहीं आज वरिष्ठ पीढ़ी भी सोशल मीडिया की आदी हो चुकी है। लोकप्रियता के प्रसार में सोशल मीडिया एक बेहतरीन प्लेटफॉर्म है, जहां व्यक्ति स्वयं को अथवा अपने किसी उत्पाद को ज्यादा लोकप्रिय बना सकता है। वीडियो तथा ऑडियो चैट भी सोशल मीडिया के माध्यम से सुगम हो पाई है जिनमें फेसबुक, व्हॉट्सऐप है। व्यापार के लिए सोशल मीडिया का प्रयोग बेहद फायदेमंद है। ऑनलाइन सफलता सोशल मीडिया के प्रभावी उपयोग के साथ आती है। सोशल मीडिया वर्तमान समय में सबसे लोकप्रिय सूचनाओं के व्यापक संचार व लोगों की स्वतंत्र अभिव्यक्ति का माध्यम बन गया है। जिसके फलस्वरूप पूरे दुनिया के सामाजिक स्तर, संस्कृति, विस्तार और विकास पर अलग किस्म का बदलाव दिखाई दे रहा है। सोशल मीडिया ने जीवनशैली को बहुत ही प्रभावित किया है।

Sub questions

Question Number : 196 Question Id : 54062624270 Question Type : MCQ Option Shuffling : Yes Is Question Mandatory : No Option Orientation : Vertical

Correct Marks : 1 Wrong Marks : 0.25

किसका अत्यधिक उपयोग हमारी नींद को भी प्रभावित करता है?

Options :

1. ✖ प्रभावशाली प्रोफाइल
2. ✖ चैट
3. ✖ स्वतंत्रत अभिव्यक्ति
4. ✔ सोशल मीडिया

Question Number : 197 Question Id : 54062624271 Question Type : MCQ Option Shuffling : Yes Is Question Mandatory : No Option Orientation : Vertical

Correct Marks : 1 Wrong Marks : 0.25

आज का दौर किसका दौर कहलाता हैं?

Options :

1. ✖ वरिष्ठ पीढ़ी
2. ✔ युवाशक्ति
3. ✖ सामाजिक स्तर
4. ✖ राजनीतिकरण

Question Number : 198 Question Id : 54062624272 Question Type : MCQ Option Shuffling : Yes Is Question Mandatory : No Option Orientation : Vertical

Correct Marks : 1 Wrong Marks : 0.25

वर्तमान समय में सोशल मीडिया लोगों के लिए कैसा माध्यम बन गया है?

Options :

1. ✔ स्वतंत्र अभिव्यक्ति
2. ✖ प्रभावी
3. ✖ विस्तार
4. ✖ व्यापक

Question Number : 199 Question Id : 54062624273 Question Type : MCQ Option Shuffling : Yes Is Question Mandatory : No Option Orientation : Vertical

Correct Marks : 1 Wrong Marks : 0.25

किसके प्रसार में यह एक बेहतरीन प्लेटफ़ॉर्म है?

Options :

1. ✖ विरोध
2. ✖ संस्कृति
3. ✔ लोकप्रियता
4. ✖ जीवनशैली

Question Number : 200 Question Id : 54062624274 Question Type : MCQ Option Shuffling : Yes Is Question Mandatory : No Option Orientation : Vertical

Correct Marks : 1 Wrong Marks : 0.25

दिए गए गद्यांश में उपयुक्त शीर्षक क्या होगा?

Options :

1. ✖ जीवनशैली पर प्रभाव
2. ✔ सोशल मीडिया का महत्त्व
3. ✖ सोशल नेटवर्किंग
4. ✖ सामाजिक विकास