Question Paper Preview

Notations :

1.Options shown in green color and with ✔ icon are correct.

2.Options shown in red color and with ✖ icon are incorrect.

Subject Name :	TGT-Social Science(Female)
Creation Date :	2021-10-10 13:49:07
Duration :	120
Total Marks :	200
Display Marks:	Yes
Share Answer Key With Delivery Engine :	No
Actual Answer Key :	Yes
Calculator :	None
Magnifying Glass Required? :	No
Ruler Required? :	No
Eraser Required? :	No
Scratch Pad Required? :	No
Rough Sketch/Notepad Required? :	No
Protractor Required? :	No
Show Watermark on Console? :	Yes
Highlighter :	No
Auto Save on Console? (SA type of questions will be always auto saved) :	No

General Ability

Group Number :	1
Group Id :	540626884
Group Maximum Duration :	0
Group Minimum Duration :	0

Show Attended Group? :	No
Edit Attended Group? :	No
Break time :	0
Group Marks :	20
Is this Group for Examiner? :	No

General Ability

Section Id :	5406261128
Section Number :	1
Section type :	Online
Mandatory or Optional :	Mandatory
Number of Questions :	20
Number of Questions to be attempted :	20
Section Marks :	20
Enable Mark as Answered Mark for Review and Clear Response :	Yes
Sub-Section Number :	1
Sub-Section Id :	5406261344
Question Shuffling Allowed :	Yes

Question Number : 1 Question Id : 54062622761 Question Type : MCQ Option Shuffling : Yes Is Question Mandatory : No Option Orientation : Vertical

Correct Marks : 1 Wrong Marks : 0.25

A series is given with one term missing. Select the correct alternative from the given ones that will complete the series.

NT, QY, ?, WI, ZN

Options :

1. ✖ SD
2. ✖ SE
3. ✔ TD
4. ✖ TE

Question Number : 1 Question Id : 54062622761 Question Type : MCQ Option Shuffling : Yes Is Question Mandatory : No Option

Orientation : Vertical

Correct Marks : 1 Wrong Marks : 0.25

एक अनुक्रम दिया गया है, जिसमें से एक पद लुप्त है। दिए गए विकल्पों में से वह सही विकल्प चुनिए, जो अनुक्रम को पूरा करे।

NT, QY, ?, WI, ZN

Options :

1. ✖ SD
2. ✖ SE
3. ✔ TD
4. ✖ TE

Question Number : 2 Question Id : 54062622762 Question Type : MCQ Option Shuffling : Yes Is Question Mandatory : No Option Orientation : Vertical

Correct Marks : 1 Wrong Marks : 0.25

A series is given with one term wrong. Select that wrong term from the given alternatives.

NPQJ, RSMG, VVID, ZYEA, DBAY, HEWU

Options :

1. ✖ RSMG
2. ✖ VVID
3. ✖ HEWU
4. ✔ DBAY

Question Number : 2 Question Id : 54062622762 Question Type : MCQ Option Shuffling : Yes Is Question Mandatory : No Option Orientation : Vertical

Correct Marks : 1 Wrong Marks : 0.25

एक अनुक्रम दिया गया है, जिसमें से एक पद गलत है। दिए गए विकल्पों में से उस गलत पद को चुनिए।

NPQJ, RSMG, VVID, ZYEA, DBAY, HEWU

Options :

1. ✖ RSMG
2. ✖ VVID
3. ✖ HEWU

4. ✔ DBAY

Question Number : 3 Question Id : 54062622763 Question Type : MCQ Option Shuffling : Yes Is Question Mandatory : No Option Orientation : Vertical

Correct Marks : 1 Wrong Marks : 0.25

In the following question, select the odd letter/letters from the given alternatives.

Options :

1. ✖ PRQS
2. ✔ BECD
3. ✖ ZBAC
4. ✖ NPOQ

Question Number : 3 Question Id : 54062622763 Question Type : MCQ Option Shuffling : Yes Is Question Mandatory : No Option Orientation : Vertical

Correct Marks : 1 Wrong Marks : 0.25

निम्नलिखित प्रश्न में दिए गए विकल्पों में से विषम अक्षर/अक्षरों को चुनिए।

Options :

1. ✖ PRQS
2. ✔ BECD
3. ✖ ZBAC
4. ✖ NPOQ

Question Number : 4 Question Id : 54062622764 Question Type : MCQ Option Shuffling : Yes Is Question Mandatory : No Option Orientation : Vertical

Correct Marks : 1 Wrong Marks : 0.25

निम्नलिखित प्रश्न में दिए गए विकल्पों में से संबंधित अक्षरों को चुनिए।

AN : VM :: PJ : ?

Options :

1. ✖ JR
2. ✖ JI
3. ✔ KI

4. ✖ KR

Question Number : 4 Question Id : 54062622764 Question Type : MCQ Option Shuffling : Yes Is Question Mandatory : No Option Orientation : Vertical

Correct Marks : 1 Wrong Marks : 0.25

In the following question, select the related letters from the given alternatives.

AN : VM :: PJ : ?

Options :

1. ✖ JR
2. ✖ JI
3. ✔ KI
4. ✖ KR

Question Number : 5 Question Id : 54062622765 Question Type : MCQ Option Shuffling : Yes Is Question Mandatory : No Option Orientation : Vertical

Correct Marks : 1 Wrong Marks : 0.25

In the following question, select the related letter pair from the given alternatives.

UVXT : WYTO :: ?

Options :

1. ✖ NPQR : PSNM
2. ✔ JSTR : LVPM
3. ✖ OBNC : QDJX
4. ✖ IPKL : KSHI

Question Number : 5 Question Id : 54062622765 Question Type : MCQ Option Shuffling : Yes Is Question Mandatory : No Option Orientation : Vertical

Correct Marks : 1 Wrong Marks : 0.25

निम्नलिखित प्रश्न में दिए गए विकल्पों में से संबंधित अक्षर युग्म को चुनिए।

UVXT : WYTO :: ?

Options :

1. ✖ NPQR : PSNM
2. ✔ JSTR : LVPM
3. ✖ OBNC : QDJX
4. ✖ IPKL : KSHI

Question Number : 6 Question Id : 54062622766 Question Type : MCQ Option Shuffling : Yes Is Question Mandatory : No Option Orientation : Vertical

Correct Marks : 1 Wrong Marks : 0.25

In a certain code language, 'MAINS' is written as '67', 'BORN' is written as '62'. What is the code for 'HUNT' in that code language?

Options :

1. ✖ 69
2. ✖ 78
3. ✔ 72
4. ✖ 75

Question Number : 6 Question Id : 54062622766 Question Type : MCQ Option Shuffling : Yes Is Question Mandatory : No Option Orientation : Vertical

Correct Marks : 1 Wrong Marks : 0.25

एक विशिष्ट कोड भाषा में, 'MAINS' को '67' लिखा जाता है, 'BORN' को '62' लिखा जाता है। इस कोड भाषा में 'HUNT' का कोड क्या है?

Options :

1. ✖ 69
2. ✖ 78
3. ✔ 72
4. ✖ 75

Question Number : 7 Question Id : 54062622767 Question Type : MCQ Option Shuffling : Yes Is Question Mandatory : No Option Orientation : Vertical

Correct Marks : 1 Wrong Marks : 0.25

A team of five members is to be selected among eight members A, B, C, D, E, F, G and H. C and F have to be selected together. Either G or D has to be selected with A. B or E has to be selected with H. G and C cannot be selected together. Which of the following members can be selected?

Options :

1. ✖ ABCDE
2. ✔ BCDEF
3. ✖ ABCFG
4. ✖ BCDFG

Question Number : 7 Question Id : 54062622767 Question Type : MCQ Option Shuffling : Yes Is Question Mandatory : No Option Orientation : Vertical

Correct Marks : 1 Wrong Marks : 0.25

आठ सदस्य A, B, C, D, E, F, G तथा H में से पाँच सदस्यों की एक टीम चुननी है। C तथा F को एक साथ चुनना है। A के साथ या तो G या D को चुनना है। H के साथ या तो B या E को चुनना है। G तथा C को एक साथ नहीं चुन सकते हैं। निम्नलिखित में से कौन से सदस्यों को चुना जा सकता है?

Options :

1. ✖ ABCDE
2. ✔ BCDEF
3. ✖ ABCFG
4. ✖ BCDFG

Question Number : 8 Question Id : 54062622768 Question Type : MCQ Option Shuffling : Yes Is Question Mandatory : No Option Orientation : Vertical

Correct Marks : 1 Wrong Marks : 0.25

Six boxes P, Q, R, S, T and U are kept one above the other (not necessarily in the same order). T is kept above Q, but below S. Two boxes are kept between R and U. P is kept just above T. One box is kept between P and U. How many boxes are kept between Q and S?

Options :

1. ✖ 1
2. ✖ 2
3. ✖ 3
4. ✔ 4

Question Number : 8 Question Id : 54062622768 Question Type : MCQ Option Shuffling : Yes Is Question Mandatory : No Option Orientation : Vertical

Correct Marks : 1 Wrong Marks : 0.25

छह बक्से P, Q, R, S, T तथा U एक दूसरे के ऊपर रखे जाते हैं (जरूरी नहीं की इसी क्रम में हो)। T को Q के ऊपर रखा जाता है, परंतु S के नीचे रखा जाता है। R तथा U के बीच में दो बक्से रखे जाते हैं। P को T के तुरंत ऊपर रखा जाता है। P तथा U के बीच में एक बक्सा रखा जाता है। Q तथा S के बीच में कितने बक्से

रखे जाते हैं?

Options :

1. ✖ 1
2. ✖ 2
3. ✖ 3
4. ✔ 4

Question Number : 9 Question Id : 54062622769 Question Type : MCQ Option Shuffling : Yes Is Question Mandatory : No Option Orientation : Vertical

Correct Marks : 1 Wrong Marks : 0.25

Eight persons A, B, C, D, E, F, G and H sit around a circular table facing towards the centre (not necessarily in the same order). Three persons sit between A and C. Two persons sit between B and H. E sits second to the left of G. H sits third to the right of D. A is not the neighbour of B. Which of the following statement is correct?

I. A sits second to the right of F.
II. Three persons sit between D and E.

Options :

1. ✔ Only I
2. ✖ Only II
3. ✖ Both I and II
4. ✖ Neither I nor II

Question Number : 9 Question Id : 54062622769 Question Type : MCQ Option Shuffling : Yes Is Question Mandatory : No Option Orientation : Vertical

Correct Marks : 1 Wrong Marks : 0.25

आठ व्यक्ति A, B, C, D, E, F, G तथा H एक वृत्ताकार मेज के इर्द-गिर्द केंद्र की ओर मुख करके बैठते हैं (जरूरी नहीं की इसी क्रम में हो)। A तथा C के बीच में तीन व्यक्ति बैठते हैं। B तथा H के बीच में दो व्यक्ति बैठते हैं। E, G के बायीं ओर से दूसरे स्थान पर बैठता है। H, D के दायीं ओर से तीसरे स्थान पर बैठता है। A, B का पड़ोसी नहीं है। निम्नलिखित में से कौन सा कथन सही है?

I. A, F के दायीं ओर से दूसरे स्थान पर बैठता है।
II. D तथा E के बीच में तीन व्यक्ति बैठते हैं।

Options :

1. ✔ केवल I

2. ✖ केवल II
3. ✖ I तथा II दोनों
4. ✖ ना ही I ना ही II

Question Number : 10 Question Id : 54062622770 Question Type : MCQ Option Shuffling : Yes Is Question Mandatory : No Option Orientation : Vertical

Correct Marks : 1 Wrong Marks : 0.25

In the following question below are given some statements followed by some conclusions based on those statements. Taking the given statements to be true even if they seem to be at variance from commonly known facts. Read all the conclusions and then decide which of the given conclusion logically follows the given statements.

Statements:
I. All A and B.
II. All B are C.

Conclusions:
I. No A is C.
II. Some B are A.

Options :

1. ✖ Only conclusion I follows
2. ✔ Only conclusion II follows
3. ✖ Both conclusion I and II follows
4. ✖ Neither conclusion follows

Question Number : 10 Question Id : 54062622770 Question Type : MCQ Option Shuffling : Yes Is Question Mandatory : No Option Orientation : Vertical

Correct Marks : 1 Wrong Marks : 0.25

नीचे दिए गए प्रश्न में कुछ कथन और उनके बाद उन कथनों पर आधारित कुछ निष्कर्ष दिए गए हैं। दिए गए कथनों को सही माने, चाहे उनमें सामान्य ज्ञात तथ्यों से भिन्नता हो। सभी निष्कर्ष पढ़ें और फिर निर्धारित करें कि दिए गए कौन से निष्कर्ष, दिए गए कथनों के आधार पर युक्तिसंगत हैं।

कथन:
I. सभी A, B हैं।
II. सभी B, C हैं।

निष्कर्ष:

I. कोई भी A, C नहीं है।
II. कुछ B, A हैं।

Options :

1. ✖ केवल निष्कर्ष I अनुसरण करता है
2. ✔ केवल निष्कर्ष II अनुसरण करता है
3. ✖ दोनों निष्कर्ष I तथा II अनुसरण करते हैं
4. ✖ कोई भी निष्कर्ष अनुसरण नहीं करता है

Question Number : 11 Question Id : 54062622771 Question Type : MCQ Option Shuffling : Yes Is Question Mandatory : No Option Orientation : Vertical

Correct Marks : 1 Wrong Marks : 0.25

In the following question below are given some statements followed by some conclusions based on those statements. Taking the given statements to be true even if they seem to be at variance from commonly known facts. Read all the conclusions and then decide which of the given conclusion logically follows the given statements.

Statements:
I. Some P are Q.
II. All Q are R.
III. No R is S.

Conclusions:
I. Some P are S.
II. No Q is S.
III. All P are R.

Options :

1. ✖ Only conclusion I follows
2. ✔ Only conclusion II follows
3. ✖ Only conclusion III follows
4. ✖ All conclusion follow

Question Number : 11 Question Id : 54062622771 Question Type : MCQ Option Shuffling : Yes Is Question Mandatory : No Option Orientation : Vertical

Correct Marks : 1 Wrong Marks : 0.25

नीचे दिए गए प्रश्न में कुछ कथन और उनके बाद उन कथनों पर आधारित कुछ निष्कर्ष दिए गए हैं। दिए गए कथनों को सही माने, चाहे उनमें सामान्य ज्ञात तथ्यों

से भिन्नता हो। सभी निष्कर्ष पढ़ें और फिर निर्धारित करें कि दिए गए कौन से निष्कर्ष, दिए गए कथनों के आधार पर युक्तिसंगत हैं।

कथनः
I. कुछ P, Q हैं।
II. सभी Q, R हैं।
III. कोई भी R, S नहीं है।

निष्कर्षः
I. कुछ P, S हैं।
II. कोई भी Q, S नहीं है।
III. सभी P, R हैं।

Options :

1. ✖ केवल निष्कर्ष I अनुसरण करता है
2. ✔ केवल निष्कर्ष II अनुसरण करता है
3. ✖ केवल निष्कर्ष III अनुसरण करता है
4. ✖ सभी निष्कर्ष अनुसरण करते हैं

Question Number : 12 Question Id : 54062622772 Question Type : MCQ Option Shuffling : Yes Is Question Mandatory : No Option Orientation : Vertical

Correct Marks : 1 Wrong Marks : 0.25

In the following question, select the missing number from the given series.

68, 68, 102, 204, 510, ?

Options :

1. ✔ 1530
2. ✖ 1535
3. ✖ 1540
4. ✖ 1560

Question Number : 12 Question Id : 54062622772 Question Type : MCQ Option Shuffling : Yes Is Question Mandatory : No Option Orientation : Vertical

Correct Marks : 1 Wrong Marks : 0.25

निम्नलिखित प्रश्न में दी गई श्रृंखला में से लुप्त अंक ज्ञात कीजिए।

68, 68, 102, 204, 510, ?

Options :

1. ✔ 1530
2. ✖ 1535
3. ✖ 1540
4. ✖ 1560

Question Number : 13 Question Id : 54062622773 Question Type : MCQ Option Shuffling : Yes Is Question Mandatory : No Option Orientation : Vertical

Correct Marks : 1 Wrong Marks : 0.25

In the following question, select the number which can be placed at the sign of question mark (?) from the given alternatives.

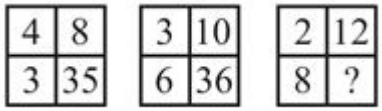

Options :

1. ✖ 28
2. ✖ 34
3. ✖ 36
4. ✔ 32

Question Number : 13 Question Id : 54062622773 Question Type : MCQ Option Shuffling : Yes Is Question Mandatory : No Option Orientation : Vertical

Correct Marks : 1 Wrong Marks : 0.25

निम्नलिखित प्रश्न में दिए गए विकल्पों में से प्रश्न चिन्ह (?) के स्थान पर आने वाली संख्या को चुनिए।

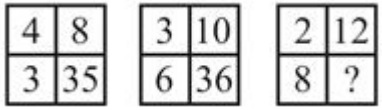

Options :

1. ✖ 28
2. ✖ 34

3. ✖ 36

4. ✔ 32

Question Number : 14 Question Id : 54062622774 Question Type : MCQ Option Shuffling : Yes Is Question Mandatory : No Option Orientation : Vertical

Correct Marks : 1 Wrong Marks : 0.25

How many bottles are either red or plastic but not both?

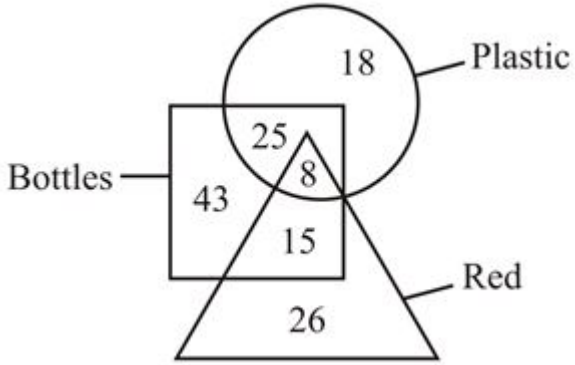

Options :

1. ✔ 40

2. ✖ 25

3. ✖ 8

4. ✖ 33

Question Number : 14 Question Id : 54062622774 Question Type : MCQ Option Shuffling : Yes Is Question Mandatory : No Option Orientation : Vertical

Correct Marks : 1 Wrong Marks : 0.25

कितनी बोतलें या तो प्लास्टिक हैं या लाल है परंतु दोनों नहीं हैं?

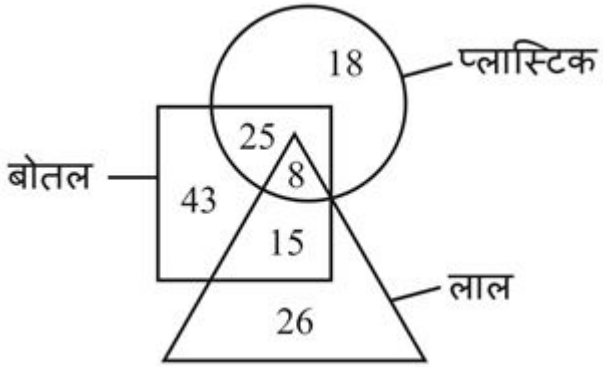

Options :

1. ✔ 40
2. ✖ 25
3. ✖ 8
4. ✖ 33

Question Number : 15 Question Id : 54062622775 Question Type : MCQ Option Shuffling : Yes Is Question Mandatory : No Option Orientation : Vertical

Correct Marks : 1 Wrong Marks : 0.25

Based on the given venn diagram, which of the following statement is correct?

I. Copy which are white and paper both are 16.
II. Paper which are neither copy nor white are 14.

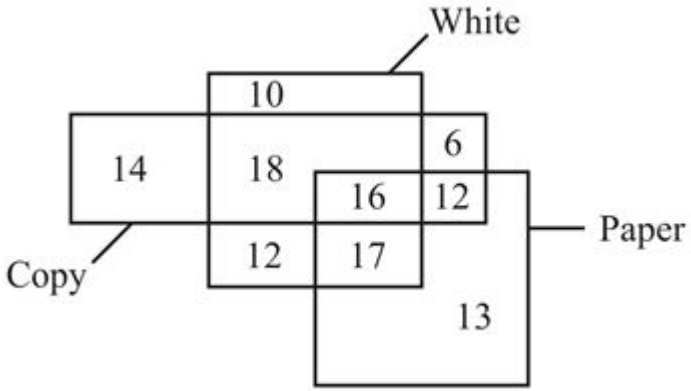

Options :

1. ✔ Only I
2. ✖ Only II
3. ✖ Both I and II
4. ✖ Neither I nor II

Question Number : 15 Question Id : 54062622775 Question Type : MCQ Option Shuffling : Yes Is Question Mandatory : No Option Orientation : Vertical

Correct Marks : 1 Wrong Marks : 0.25

दिए गए वेन आरेख के आधार पर, निम्नलिखित में से कौन सा कथन सही है?

I. कॉपी जो सफेद तथा कागज दोनों हैं, वह 16 हैं।
II. कागज जो ना तो कॉपी है ना ही सफेद है वह 14 हैं।

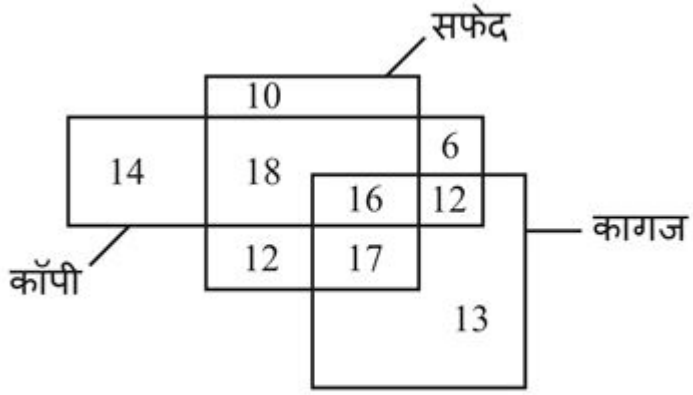

Options :

1. ✔ केवल I
2. ✖ केवल II
3. ✖ I तथा II दोनों
4. ✖ ना ही I ना ही II

Question Number : 16 Question Id : 54062622776 Question Type : MCQ Option Shuffling : Yes Is Question Mandatory : No Option Orientation : Vertical

Correct Marks : 1 Wrong Marks : 0.25

Point P is 9 metre to the west of point Q. Point R is 4 metre to the north of point Q. Point S is 31 metre to the east of point R. Point S is 5 metre to

the south of point T. How far and in which direction is point P from point T?

Options :

1. ✖ 51 metre, south-west
2. ✖ 51 metre, north-east
3. ✔ 41 metre, south-west
4. ✖ 41 metre, north-east

Question Number : 16 Question Id : 54062622776 Question Type : MCQ Option Shuffling : Yes Is Question Mandatory : No Option Orientation : Vertical

Correct Marks : 1 Wrong Marks : 0.25

बिंदु P बिंदु Q से 9 मीटर पश्चिम में है। बिंदु R बिंदु Q से 4 मीटर उत्तर में है। बिंदु S बिंदु R से 31 मीटर पूर्व में है। बिंदु S बिंदु T से 5 मीटर दक्षिण में है। बिंदु P बिंदु T से कितनी दूर तथा किस दिशा में है?

Options :

1. ✖ 51 मीटर, दक्षिण-पश्चिम
2. ✖ 51 मीटर, उत्तर-पूर्व
3. ✔ 41 मीटर, दक्षिण-पश्चिम
4. ✖ 41 मीटर, उत्तर-पूर्व

Question Number : 17 Question Id : 54062622777 Question Type : MCQ Option Shuffling : Yes Is Question Mandatory : No Option Orientation : Vertical

Correct Marks : 1 Wrong Marks : 0.25

Ramesh starts walking towards the south and walks 10 metre. He turns to the left and walks 24 metre. He turns to the left and walks 10 metre. He turns to the right and walks 11 metre. Finally, he turns to the right and walks 12 metre. How far and in which direction is he now from the starting point?

Options :

1. ✖ 37 metre, north-west
2. ✖ 39 metre, north-west
3. ✔ 37 metre, south-east
4. ✖ 39 metre, south-east

Question Number : 17 Question Id : 54062622777 Question Type : MCQ Option Shuffling : Yes Is Question Mandatory : No Option Orientation : Vertical

Correct Marks : 1 Wrong Marks : 0.25

रमेश दक्षिण की ओर चलना आरंभ करता है तथा 10 मीटर चलता है। वह बायीं ओर मुड़ता है तथा 24 मीटर चलता है। वह बायीं ओर मुड़ता है तथा 10 मीटर चलता है। वह दायीं ओर मुड़ता है तथा 11 मीटर चलता है। अंततः वह दायीं ओर मुड़ता है तथा 12 मीटर चलता है। वह आरंभिक बिंदु से अब कितनी दूर तथा किस दिशा में है?

Options :

1. ✖ 37 मीटर, उत्तर-पश्चिम
2. ✖ 39 मीटर, उत्तर-पश्चिम
3. ✔ 37 मीटर, दक्षिण-पूर्व
4. ✖ 39 मीटर, दक्षिण-पूर्व

Question Number : 18 Question Id : 54062622778 Question Type : MCQ Option Shuffling : Yes Is Question Mandatory : No Option Orientation : Vertical

Correct Marks : 1 Wrong Marks : 0.25

In the following question, select the figure which can be placed at the sign of question mark (?) from the given alternatives.

Options :

1. ✖

2. ✔

3. ✖ 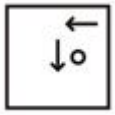

4. ✖

Question Number : 18 Question Id : 54062622778 Question Type : MCQ Option Shuffling : Yes Is Question Mandatory : No Option Orientation : Vertical

Correct Marks : 1 Wrong Marks : 0.25

निम्नलिखित प्रश्न में दिए गए विकल्पों में से प्रश्न चिन्ह (?) के स्थान पर आने वाली आकृति को चुनिए।

Options :

1. ✖

2. ✔

3. ✖ 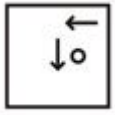

4. ✖ 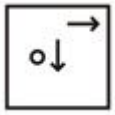

Question Number : 19 Question Id : 54062622779 Question Type : MCQ Option Shuffling : Yes Is Question Mandatory : No Option Orientation : Vertical

Correct Marks : 1 Wrong Marks : 0.25

In the following question, select the odd figure from the given alternatives.

Options :

1. ✖ 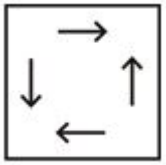

2. ✔ 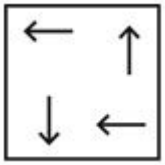

3. ✖ 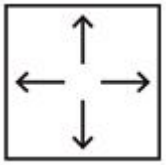

4. ✖ 

Question Number : 19 Question Id : 54062622779 Question Type : MCQ Option Shuffling : Yes Is Question Mandatory : No Option Orientation : Vertical

Correct Marks : 1 Wrong Marks : 0.25

निम्नलिखित प्रश्न में, दिए गए विकल्पों में से विषम आकृति को चुनिए।

Options :

1. ✖ 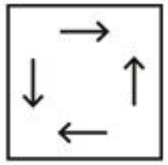

2. ✔ 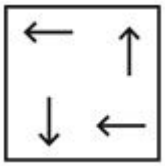

3. ✖ 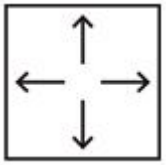

4. ✖ 

Question Number : 20 Question Id : 54062622780 Question Type : MCQ Option Shuffling : Yes Is Question Mandatory : No Option Orientation : Vertical

Correct Marks : 1 Wrong Marks : 0.25

By folding the given paper, which of the following cube can be made?

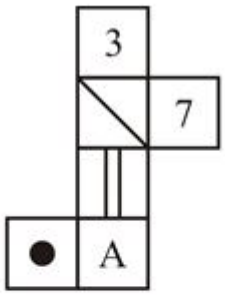



I II III

Options :

1. ✖ I and II
2. ✔ II and III
3. ✖ I and III
4. ✖ I, II and III

Question Number : 20 Question Id : 54062622780 Question Type : MCQ Option Shuffling : Yes Is Question Mandatory : No Option Orientation : Vertical

Correct Marks : 1 Wrong Marks : 0.25

दिए गए कागज को मोड़ने पर, निम्नलिखित में से कौन सा घन बनाया जा सकता है?

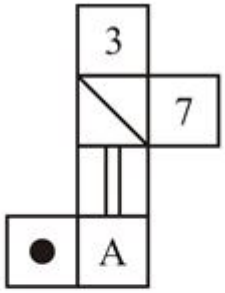

I II III

Options :

1. ✖ I तथा II
2. ✔ II तथा III
3. ✖ I तथा III
4. ✖ I, II तथा III

General Awareness

Group Number :	2
Group Id :	540626885
Group Maximum Duration :	0
Group Minimum Duration :	0
Show Attended Group? :	No
Edit Attended Group? :	No
Break time :	0
Group Marks :	20
Is this Group for Examiner? :	No

General Awareness

Section Id :	5406261129
Section Number :	1
Section type :	Online
Mandatory or Optional :	Mandatory
Number of Questions :	20
Number of Questions to be attempted :	20
Section Marks :	20
Enable Mark as Answered Mark for Review and Clear Response :	Yes
Sub-Section Number :	1
Sub-Section Id :	5406261345
Question Shuffling Allowed :	Yes

Question Number : 21 Question Id : 54062622781 Question Type : MCQ Option Shuffling : Yes Is Question Mandatory : No Option Orientation : Vertical

Correct Marks : 1 Wrong Marks : 0.25

Which of the following dance doesn't belong to Southern India?

Options :

1. ✖ Bharatanatyam
2. ✔ Kathak
3. ✖ Kathakali
4. ✖ Kuchipudi

Question Number : 21 Question Id : 54062622781 Question Type : MCQ Option Shuffling : Yes Is Question Mandatory : No Option Orientation : Vertical

Correct Marks : 1 Wrong Marks : 0.25

निम्नलिखित में से कौन सा नृत्य दक्षिणी भारत से संबंधित नहीं है?

Options :

1. ✖ भरतनाट्यम
2. ✔ कथक
3. ✖ कथकली
4. ✖ कुचिपुड़ी

Question Number : 22 Question Id : 54062622782 Question Type : MCQ Option Shuffling : Yes Is Question Mandatory : No Option Orientation : Vertical

Correct Marks : 1 Wrong Marks : 0.25

Which of the following pair of monument – state is correct?

I. Tomb of Maryam-uz-Zamani – Uttar Pradesh
II. French War Memorial - Goa

Options :

1. ✔ Only I
2. ✖ Only II
3. ✖ Both I and II
4. ✖ Neither I nor II

Question Number : 22 Question Id : 54062622782 Question Type : MCQ Option Shuffling : Yes Is Question Mandatory : No Option Orientation : Vertical

Correct Marks : 1 Wrong Marks : 0.25

स्मारक-राज्य का निम्नलिखित में से कौन सा युग्म सही है?

I. मरियम-उज़-ज़मानी का मकबरा – उत्तर प्रदेश
II. फ्रेंच वॉर मेमोरियल - गोवा

Options :

1. ✔ केवल I
2. ✖ केवल II
3. ✖ I तथा II दोनों
4. ✖ ना ही I ना ही II

Question Number : 23 Question Id : 54062622783 Question Type : MCQ Option Shuffling : Yes Is Question Mandatory : No Option Orientation : Vertical

Correct Marks : 1 Wrong Marks : 0.25

The average daily balance that a bank is required to maintain with the Reserve Bank as a share of such per cent of its Net demand and time liabilities (NDTL) that the Reserve Bank may notify from time to time in the Gazette of India is called as _____.

Options :

1. ✖ Statutory Liquidity Ratio
2. ✔ Cash Reserve Ratio
3. ✖ Repo rate
4. ✖ Reserve repo rate

Question Number : 23 Question Id : 54062622783 Question Type : MCQ Option Shuffling : Yes Is Question Mandatory : No Option Orientation : Vertical

Correct Marks : 1 Wrong Marks : 0.25

निवल मांग और समय देयताओं की हिस्सेदारी जो बैंकों को रिज़र्व बैंक में नकदी शेष के रूप में रखनी होती है जिसे रिज़र्व बैंक द्वारा समय समय पर भारत के राजपत्र में अधिसूचित किया जाता है को _____ कहा जाता है।

Options :

1. ✖ सांविधिक चलनिधि अनुपात
2. ✔ नकद आरक्षित अनुपात
3. ✖ रेपो दर
4. ✖ रिवर्स रेपो दर

Question Number : 24 Question Id : 54062622784 Question Type : MCQ Option Shuffling : Yes Is Question Mandatory : No Option Orientation : Vertical

Correct Marks : 1 Wrong Marks : 0.25

The government of India declares MSP for 23 crops. Out of these how many are cereal crops?

Options :

1. ✖ 5
2. ✖ 6
3. ✔ 7
4. ✖ 8

Question Number : 24 Question Id : 54062622784 Question Type : MCQ Option Shuffling : Yes Is Question Mandatory : No Option Orientation : Vertical

Correct Marks : 1 Wrong Marks : 0.25

भारत सरकार 23 फसलों के लिए एम.एस.पी. घोषित करती है। इनमें से कितनी अनाज फसलें हैं?

Options :

1. ✖ 5
2. ✖ 6
3. ✔ 7
4. ✖ 8

Question Number : 25 Question Id : 54062622785 Question Type : MCQ Option Shuffling : Yes Is Question Mandatory : No Option Orientation : Vertical

Correct Marks : 1 Wrong Marks : 0.25

In a convex lens, when the object is at infinity, then the image is formed at _____.

Options :

1. ✔ F_2
2. ✖ Between F_2 and $2F_2$
3. ✖ Beyond $2F_2$
4. ✖ At infinity

Question Number : 25 Question Id : 54062622785 Question Type : MCQ Option Shuffling : Yes Is Question Mandatory : No Option Orientation : Vertical

Correct Marks : 1 Wrong Marks : 0.25

उत्तल लेंस में, जब वस्तु अनंत पर होती है, तो प्रतिबिम्ब _____ पर बनता है।

Options :

1. ✔ F_2
2. ✖ F_2 तथा $2F_2$ के बीच
3. ✖ $2F_2$ से परे
4. ✖ अनंत पर

Question Number : 26 Question Id : 54062622786 Question Type : MCQ Option Shuffling : Yes Is Question Mandatory : No Option Orientation : Vertical

Correct Marks : 1 Wrong Marks : 0.25

The atomic number of an element is the same as the number of _____.

Options :

1. ✖ neutrons

2. ✔ protons
3. ✖ neutrons + protons
4. ✖ electrons + neutrons

Question Number : 26 Question Id : 54062622786 Question Type : MCQ Option Shuffling : Yes Is Question Mandatory : No Option Orientation : Vertical

Correct Marks : 1 Wrong Marks : 0.25

एक तत्व की परमाणु संख्या _____ की संख्या के बराबर होती है।

Options :

1. ✖ न्यूट्रॉनों
2. ✔ प्रोटॉनों
3. ✖ न्यूट्रॉन + प्रोटॉन
4. ✖ इलेक्ट्रॉन + न्यूट्रॉन

Question Number : 27 Question Id : 54062622787 Question Type : MCQ Option Shuffling : Yes Is Question Mandatory : No Option Orientation : Vertical

Correct Marks : 1 Wrong Marks : 0.25

Which of the following statement is true?

I. Bases are bitter in taste and soapy to touch.
II. Acids are sour in taste

Options :

1. ✖ Only I
2. ✖ Only II
3. ✔ Both I and II
4. ✖ Neither I nor II

Question Number : 27 Question Id : 54062622787 Question Type : MCQ Option Shuffling : Yes Is Question Mandatory : No Option Orientation : Vertical

Correct Marks : 1 Wrong Marks : 0.25

निम्नलिखित में से कौन सा कथन सत्य है?

I. क्षार स्वाद में कड़वे और छूने में साबुन जैसा होता है।
II. अम्ल स्वाद में खट्टे होते हैं

Options :

1. ✖ केवल I
2. ✖ केवल II
3. ✔ I तथा II दोनों
4. ✖ ना ही I ना ही II

Question Number : 28 Question Id : 54062622788 Question Type : MCQ Option Shuffling : Yes Is Question Mandatory : No Option Orientation : Vertical

Correct Marks : 1 Wrong Marks : 0.25

Around 50 percent of the basin area of Godavari lies in _____.

Options :

1. ✖ Andhra Pradesh
2. ✔ Maharashtra
3. ✖ Madhya Pradesh
4. ✖ Odisha

Question Number : 28 Question Id : 54062622788 Question Type : MCQ Option Shuffling : Yes Is Question Mandatory : No Option Orientation : Vertical

Correct Marks : 1 Wrong Marks : 0.25

गोदावरी के द्रोणी क्षेत्र का लगभग 50 प्रतिशत _____ में स्थित है।

Options :

1. ✖ आंध्र प्रदेश
2. ✔ महाराष्ट्र
3. ✖ मध्य प्रदेश
4. ✖ उड़ीसा

Question Number : 29 Question Id : 54062622789 Question Type : MCQ Option Shuffling : Yes Is Question Mandatory : No Option Orientation : Vertical

Correct Marks : 1 Wrong Marks : 0.25

निम्नलिखित में से कौन सा वृक्ष उष्णकटिबंधीय सदाबहार वनों में नहीं पाये जाते?

Options :

1. ✖ रोजवुड
2. ✖ आबनूस
3. ✖ महोगनी
4. ✔ बांज

Question Number : 29 Question Id : 54062622789 Question Type : MCQ Option Shuffling : Yes Is Question Mandatory : No Option Orientation : Vertical

Correct Marks : 1 Wrong Marks : 0.25

Which of the following tree is not found in the tropical evergreen forests?

Options :

1. ✖ Rosewood
2. ✖ Ebony
3. ✖ Mahogany
4. ✔ Oak

Question Number : 30 Question Id : 54062622790 Question Type : MCQ Option Shuffling : Yes Is Question Mandatory : No Option Orientation : Vertical

Correct Marks : 1 Wrong Marks : 0.25

Which of the following is correct regarding mesosphere?

I. This is the third layer of the atmosphere.
II. Meteorites burn up in this layer on entering from the space.

Options :

1. ✖ Only I
2. ✖ Only II
3. ✔ Both I and II
4. ✖ Neither I nor II

Question Number : 30 Question Id : 54062622790 Question Type : MCQ Option Shuffling : Yes Is Question Mandatory : No Option Orientation : Vertical

Correct Marks : 1 Wrong Marks : 0.25

मध्यमंडल के संदर्भ में निम्नलिखित में से कौन सा सही है?

I. यह वायुमंडल की तीसरी परत है।
II. अंतरिक्ष से प्रवेश करने वाले उल्का पिंड इस परत में आने पर जल जाते हैं।

Options :

1. ✖ केवल I
2. ✖ केवल II
3. ✔ I तथा II दोनों
4. ✖ ना ही I ना ही II

Question Number : 31 Question Id : 54062622791 Question Type : MCQ Option Shuffling : Yes Is Question Mandatory : No Option Orientation : Vertical

Correct Marks : 1 Wrong Marks : 0.25

Which city was the capital of Pallavas?

Options :

1. ✔ Kanchipuram
2. ✖ Patliputra
3. ✖ Aihole
4. ✖ Taxila

Question Number : 31 Question Id : 54062622791 Question Type : MCQ Option Shuffling : Yes Is Question Mandatory : No Option Orientation : Vertical

Correct Marks : 1 Wrong Marks : 0.25

पल्लवों की राजधानी कौन सा शहर था?

Options :

1. ✔ कांचीपुरम
2. ✖ पाटलिपुत्र
3. ✖ ऐहोल
4. ✖ तक्षशिला

Question Number : 32 Question Id : 54062622792 Question Type : MCQ Option Shuffling : Yes Is Question Mandatory : No Option Orientation : Vertical

Correct Marks : 1 Wrong Marks : 0.25

Who defeated Ibrahim Lodi at Panipat in 1526?

Options :

1. ✔ Babur
2. ✖ Humayun
3. ✖ Akbar
4. ✖ Jahangir

Question Number : 32 Question Id : 54062622792 Question Type : MCQ Option Shuffling : Yes Is Question Mandatory : No Option Orientation : Vertical

Correct Marks : 1 Wrong Marks : 0.25

1526 में पानीपत में इब्राहिम लोदी को किसने हराया था?

Options :

1. ✔ बाबर
2. ✖ हुमायूँ
3. ✖ अकबर
4. ✖ जहाँगीर

Question Number : 33 Question Id : 54062622793 Question Type : MCQ Option Shuffling : Yes Is Question Mandatory : No Option Orientation : Vertical

Correct Marks : 1 Wrong Marks : 0.25

On _____, Bhagat Singh and B. K. Dutt threw a bomb in the Central Legislative Assembly.

Options :

1. ✖ 8 March, 1929
2. ✔ 8 April, 1929
3. ✖ 8 May, 1929
4. ✖ 8 June 1929

Question Number : 33 Question Id : 54062622793 Question Type : MCQ Option Shuffling : Yes Is Question Mandatory : No Option Orientation : Vertical

Correct Marks : 1 Wrong Marks : 0.25

_____ को भगत सिंह और बी. के. दत्त ने केंद्रीय विधान सभा में बम फेंका।

Options :

1. ✖ 8 मार्च, 1929
2. ✔ 8 अप्रैल, 1929
3. ✖ 8 मई, 1929
4. ✖ 8 जून, 1929

Question Number : 34 Question Id : 54062622794 Question Type : MCQ Option Shuffling : Yes Is Question Mandatory : No Option Orientation : Vertical

Correct Marks : 1 Wrong Marks : 0.25

Who among the following is NOT a winner of Bharat Ratna Award?

Options :

1. ✖ Pranab Mukherjee
2. ✖ Atal Bihari Vajpayee
3. ✖ Pandit Ravi Shankar
4. ✔ Mahendra Singh Dhoni

Question Number : 34 Question Id : 54062622794 Question Type : MCQ Option Shuffling : Yes Is Question Mandatory : No Option Orientation : Vertical

Correct Marks : 1 Wrong Marks : 0.25

निम्नलिखित में से कौन भारत रत्न पुरस्कार के विजेता नहीं है?

Options :

1. ✖ प्रणब मुखर्जी
2. ✖ अटल बिहारी वाजपेयी
3. ✖ पंडित रविशंकर
4. ✔ महेंद्र सिंह धोनी

Question Number : 35 Question Id : 54062622795 Question Type : MCQ Option Shuffling : Yes Is Question Mandatory : No Option Orientation : Vertical

Correct Marks : 1 Wrong Marks : 0.25

Who has been appointed as the Vice Chief of Naval Staff of Indian Navy in July 2021?

Options :

1. ✖ Ajit Kumar
2. ✔ S.N. Ghormade
3. ✖ G. Ashok Kumar
4. ✖ R.K. Dhowan

Question Number : 35 Question Id : 54062622795 Question Type : MCQ Option Shuffling : Yes Is Question Mandatory : No Option Orientation : Vertical

Correct Marks : 1 Wrong Marks : 0.25

जुलाई 2021 में भारतीय नौसेना के नौसेना स्टाफ के उप प्रमुख के रूप में किसे नियुक्त किया गया है?

Options :

1. ✖ अजीत कुमार
2. ✔ एस.एन. घोरमडे
3. ✖ जी. अशोक कुमार
4. ✖ आर.के. धवन

Question Number : 36 Question Id : 54062622796 Question Type : MCQ Option Shuffling : Yes Is Question Mandatory : No Option Orientation : Vertical

Correct Marks : 1 Wrong Marks : 0.25

The 12th edition of exercise INDRA NAVY, a biennial bilateral maritime exercise between Indian Navy and Russian Navy was held in the _____ from 28 to 29 July 2021.

Options :

1. ✔ Baltic Sea
2. ✖ Red Sea
3. ✖ Caspian Sea
4. ✖ Dead Sea

Question Number : 36 Question Id : 54062622796 Question Type : MCQ Option Shuffling : Yes Is Question Mandatory : No Option Orientation : Vertical

Correct Marks : 1 Wrong Marks : 0.25

अभ्यास इंद्रा नेवी का 12 वां संस्करण, भारतीय नौसेना और रूसी नौसेना के बीच द्विवार्षिक द्विपक्षीय समुद्री अभ्यास _____ में 28 से 29 जुलाई 2021 तक

आयोजित किया गया था।

Options :

1. ✔ बाल्टिक सागर
2. ✖ लाल सागर
3. ✖ कैस्पियन सागर
4. ✖ मृत सागर

Question Number : 37 Question Id : 54062622797 Question Type : MCQ Option Shuffling : Yes Is Question Mandatory : No Option Orientation : Vertical

Correct Marks : 1 Wrong Marks : 0.25

Which part of Indian constitution is related with the Union Territories?

Options :

1. ✔ VIII
2. ✖ VII
3. ✖ IX
4. ✖ X

Question Number : 37 Question Id : 54062622797 Question Type : MCQ Option Shuffling : Yes Is Question Mandatory : No Option Orientation : Vertical

Correct Marks : 1 Wrong Marks : 0.25

भारतीय संविधान का कौन सा भाग संघ राज्यक्षेत्र से संबंधित है?

Options :

1. ✔ 8
2. ✖ 7
3. ✖ 9
4. ✖ 10

Question Number : 38 Question Id : 54062622798 Question Type : MCQ Option Shuffling : Yes Is Question Mandatory : No Option Orientation : Vertical

Correct Marks : 1 Wrong Marks : 0.25

Which article of Indian Constitution is related with the Term of office of Governor?

Options :

1. ✖ 152
2. ✔ 156
3. ✖ 161
4. ✖ 165

Question Number : 38 Question Id : 54062622798 Question Type : MCQ Option Shuffling : Yes Is Question Mandatory : No Option Orientation : Vertical

Correct Marks : 1 Wrong Marks : 0.25

भारतीय संविधान का कौन सा अनुच्छेद राज्यपाल की पदावधि से संबंधित है?

Options :

1. ✖ 152
2. ✔ 156
3. ✖ 161
4. ✖ 165

Question Number : 39 Question Id : 54062622799 Question Type : MCQ Option Shuffling : Yes Is Question Mandatory : No Option Orientation : Vertical

Correct Marks : 1 Wrong Marks : 0.25

Who among the following has never won an Olympic medal for India?

Options :

1. ✖ Neeraj Chopra
2. ✖ Leander Paes
3. ✖ Vijay Kumar
4. ✔ Mahesh Bhupathi

Question Number : 39 Question Id : 54062622799 Question Type : MCQ Option Shuffling : Yes Is Question Mandatory : No Option Orientation : Vertical

Correct Marks : 1 Wrong Marks : 0.25

निम्नलिखित में से किसने भारत के लिए कभी ओलंपिक पदक नहीं जीता है?

Options :

1. ✖ नीरज चोपड़ा

2. ✖ लिएंडर पेस
3. ✖ विजय कुमार
4. ✔ महेश भूपति

Question Number : 40 Question Id : 54062622800 Question Type : MCQ Option Shuffling : Yes Is Question Mandatory : No Option Orientation : Vertical

Correct Marks : 1 Wrong Marks : 0.25

निम्नलिखित में से कौन सा वर्ष-ग्रीष्मकालीन ओलंपिक मेजबान शहर सही है?

I. 2012 - लंदन
II.2000 - सिडनी

Options :

1. ✖ केवल I
2. ✖ केवल II
3. ✔ I तथा II दोनों
4. ✖ ना ही I ना ही II

Question Number : 40 Question Id : 54062622800 Question Type : MCQ Option Shuffling : Yes Is Question Mandatory : No Option Orientation : Vertical

Correct Marks : 1 Wrong Marks : 0.25

Which of the following pair of Year – Summer Olympic host city is correct?

I. 2012 – London
II. 2000 – Sydney

Options :

1. ✖ Only I
2. ✖ Only II
3. ✔ Both I and II
4. ✖ Neither I nor II

Arithmetic Ability

Group Number :	3
Group Id :	540626886
Group Maximum Duration :	0
Group Minimum Duration :	0
Show Attended Group? :	No
Edit Attended Group? :	No
Break time :	0
Group Marks :	20
Is this Group for Examiner? :	No

Arithmetic Ability

Section Id :	5406261130
Section Number :	1
Section type :	Online
Mandatory or Optional :	Mandatory
Number of Questions :	20
Number of Questions to be attempted :	20
Section Marks :	20
Enable Mark as Answered Mark for Review and Clear Response :	Yes
Sub-Section Number :	1
Sub-Section Id :	5406261346
Question Shuffling Allowed :	Yes

Question Number : 41 Question Id : 54062622801 Question Type : MCQ Option Shuffling : Yes Is Question Mandatory : No Option Orientation : Vertical

Correct Marks : 1 Wrong Marks : 0.25

What is the value of :

$$\frac{27 \div 9 \times 4 + 7 \div 14 - 2 \times 6}{5 \times 4 - 6 \times 3}$$

Options :

1. ✔ 1/4

2. ✖ 1/2
3. ✖ 2
4. ✖ 4

Question Number : 41 Question Id : 54062622801 Question Type : MCQ Option Shuffling : Yes Is Question Mandatory : No Option Orientation : Vertical

Correct Marks : 1 Wrong Marks : 0.25

$$\frac{27 \div 9 \times 4 + 7 \div 14 - 2 \times 6}{5 \times 4 - 6 \times 3}$$

का मान क्या है?

Options :

1. ✔ 1/4
2. ✖ 1/2
3. ✖ 2
4. ✖ 4

Question Number : 42 Question Id : 54062622802 Question Type : MCQ Option Shuffling : Yes Is Question Mandatory : No Option Orientation : Vertical

Correct Marks : 1 Wrong Marks : 0.25

For what value of M, 5234M is divisible by 9?

Options :

1. ✖ 2
2. ✔ 4
3. ✖ 1
4. ✖ 9

Question Number : 42 Question Id : 54062622802 Question Type : MCQ Option Shuffling : Yes Is Question Mandatory : No Option Orientation : Vertical

Correct Marks : 1 Wrong Marks : 0.25

M के किस मान के लिए 5234M, 9 से विभाज्य है?

Options :

1. ✖ 2
2. ✔ 4
3. ✖ 1
4. ✖ 9

Question Number : 43 Question Id : 54062622803 Question Type : MCQ Option Shuffling : Yes Is Question Mandatory : No Option Orientation : Vertical

Correct Marks : 1 Wrong Marks : 0.25

What is the largest fraction among $\frac{7}{9}, \frac{13}{15}, \frac{15}{17}$ and $\frac{3}{5}$?

Options :

1. ✖ $\frac{3}{5}$

2. ✖ $\frac{7}{9}$

3. ✖ $\frac{13}{15}$

4. ✔ $\frac{15}{17}$

Question Number : 43 Question Id : 54062622803 Question Type : MCQ Option Shuffling : Yes Is Question Mandatory : No Option Orientation : Vertical

Correct Marks : 1 Wrong Marks : 0.25

$\frac{7}{9}, \frac{13}{15}, \frac{15}{17}$ तथा $\frac{3}{5}$ निम्न में से सबसे बड़ा भिन्न क्या है?

Options :

1. ✖ $\frac{3}{5}$

2. ✖ $\frac{7}{9}$

3. ✖ $\frac{13}{15}$

4. ✔ $\frac{15}{17}$

Question Number : 44 Question Id : 54062622804 Question Type : MCQ Option Shuffling : Yes Is Question Mandatory : No Option Orientation : Vertical

Correct Marks : 1 Wrong Marks : 0.25

If A = 40 and B = 120, then what is the ratio of Highest Common Factor of A and B to the Least Common Multiple of A and B?

Options :

1. ✖ 2 : 3

2. ✖ 4 : 3

3. ✔ 1 : 3

4. ✖ 1 : 2

Question Number : 44 Question Id : 54062622804 Question Type : MCQ Option Shuffling : Yes Is Question Mandatory : No Option Orientation : Vertical

Correct Marks : 1 Wrong Marks : 0.25

यदि A = 40 तथा B = 120 है, तो A तथा B के महत्म समापवर्तक का A तथा B के लघुत्तम समापवर्त्य से क्या अनुपात है?

Options :

1. ✖ 2 : 3

2. ✖ 4 : 3
3. ✔ 1 : 3
4. ✖ 1 : 2

Question Number : 45 Question Id : 54062622805 Question Type : MCQ Option Shuffling : Yes Is Question Mandatory : No Option Orientation : Vertical

Correct Marks : 1 Wrong Marks : 0.25

If the positive square root of $41+24\sqrt{2}$ is A and positive square root of $36-16\sqrt{2}$ is B, then what is the value of A – B?

Options :

1. ✔ 5
2. ✖ 2
3. ✖ 3
4. ✖ 1

Question Number : 45 Question Id : 54062622805 Question Type : MCQ Option Shuffling : Yes Is Question Mandatory : No Option Orientation : Vertical

Correct Marks : 1 Wrong Marks : 0.25

यदि $41+24\sqrt{2}$ का धनात्मक वर्गमूल A है तथा $36-16\sqrt{2}$ का धनात्मक वर्गमूल B है, तो A – B का मान क्या है?

Options :

1. ✔ 5
2. ✖ 2
3. ✖ 3
4. ✖ 1

Question Number : 46 Question Id : 54062622806 Question Type : MCQ Option Shuffling : Yes Is Question Mandatory : No Option Orientation : Vertical

Correct Marks : 1 Wrong Marks : 0.25

In a class there are 12 boys and 15 girls. The average weight of all the boys is 55 kg and the average weight of all the girls is 45 kg. What is the average weight of the entire class?

Options :

1. ✖ 50.2 kg
2. ✖ 47.4 kg
3. ✖ 48.2 kg
4. ✔ 49.4 kg

Question Number : 46 Question Id : 54062622806 Question Type : MCQ Option Shuffling : Yes Is Question Mandatory : No Option Orientation : Vertical

Correct Marks : 1 Wrong Marks : 0.25

एक कक्षा में 12 लड़कें तथा 15 लड़कियाँ हैं। सभी लड़कों का औसत वज़न 55 कि.ग्रा है तथा सभी लड़कियों का औसत वज़न 45 कि.ग्रा. है। पूरी कक्षा का औसत वज़न क्या है?

Options :

1. ✖ 50.2 कि.ग्रा.
2. ✖ 47.4 कि.ग्रा.
3. ✖ 48.2 कि.ग्रा.
4. ✔ 49.4 कि.ग्रा.

Question Number : 47 Question Id : 54062622807 Question Type : MCQ Option Shuffling : Yes Is Question Mandatory : No Option Orientation : Vertical

Correct Marks : 1 Wrong Marks : 0.25

If 20 percent of a number is 200, then what will be 37.5 percent of the same number?

Options :

1. ✖ 335
2. ✔ 375
3. ✖ 415
4. ✖ 425

Question Number : 47 Question Id : 54062622807 Question Type : MCQ Option Shuffling : Yes Is Question Mandatory : No Option Orientation : Vertical

Correct Marks : 1 Wrong Marks : 0.25

यदि एक संख्या का 20 प्रतिशत, 200 है, तो उसी संख्या का 37.5 प्रतिशत क्या होगा?

Options :

1. ✖ 335
2. ✔ 375
3. ✖ 415
4. ✖ 425

Question Number : 48 Question Id : 54062622808 Question Type : MCQ Option Shuffling : Yes Is Question Mandatory : No Option Orientation : Vertical

Correct Marks : 1 Wrong Marks : 0.25

The maximum mark in an examination is 250. If Rohit has scored 120 marks in the examination, then how much percent marks has Rohit scored in the examination?

Options :

1. ✔ 48
2. ✖ 52
3. ✖ 40
4. ✖ 44

Question Number : 48 Question Id : 54062622808 Question Type : MCQ Option Shuffling : Yes Is Question Mandatory : No Option Orientation : Vertical

Correct Marks : 1 Wrong Marks : 0.25

एक परीक्षा के अधिकतम अंक 250 हैं। यदि रोहित ने परीक्षा में 120 अंक प्राप्त किए हैं, तो रोहित ने परीक्षा में कितने प्रतिशत अंक प्राप्त किए हैं?

Options :

1. ✔ 48
2. ✖ 52
3. ✖ 40
4. ✖ 44

Question Number : 49 Question Id : 54062622809 Question Type : MCQ Option Shuffling : Yes Is Question Mandatory : No Option Orientation : Vertical

Correct Marks : 1 Wrong Marks : 0.25

An article is sold at a loss of 37.5 percent. If the selling price of the article is Rs. 100, then what will be the cost price of the article?

Options :

1. ✔ Rs. 160

2. ✖ Rs. 150
3. ✖ Rs. 146.5
4. ✖ Rs. 156.5

Question Number : 49 Question Id : 54062622809 Question Type : MCQ Option Shuffling : Yes Is Question Mandatory : No Option Orientation : Vertical

Correct Marks : 1 Wrong Marks : 0.25

एक वस्तु को 37.5 प्रतिशत की हानि पर बेचा जाता है। यदि वस्तु का विक्रय मूल्य 100 रुपये है, तो वस्तु का क्रय मूल्य क्या होगा?

Options :

1. ✔ 160 रुपये
2. ✖ 150 रुपये
3. ✖ 146.5 रुपये
4. ✖ 156.5 रुपये

Question Number : 50 Question Id : 54062622810 Question Type : MCQ Option Shuffling : Yes Is Question Mandatory : No Option Orientation : Vertical

Correct Marks : 1 Wrong Marks : 0.25

रोहित तथा मोहित की वर्तमान आयु क्रमशः 24 वर्ष तथा 27 वर्ष है। 6 वर्षों के पश्चात् रोहित तथा मोहित की आयु का अनुपात क्या होगा?

Options :

1. ✖ 8 : 9
2. ✔ 10 : 11
3. ✖ 9 : 10
4. ✖ 11 : 12

Question Number : 50 Question Id : 54062622810 Question Type : MCQ Option Shuffling : Yes Is Question Mandatory : No Option Orientation : Vertical

Correct Marks : 1 Wrong Marks : 0.25

The present ages of Rohit and Mohit are 24 years and 27 years respectively. What will be the ratio of ages of Rohit and Mohit after 6 years?

Options :

1. ✖ 8 : 9
2. ✔ 10 : 11

3. ✖ 9 : 10

4. ✖ 11 : 12

Question Number : 51 Question Id : 54062622811 Question Type : MCQ Option Shuffling : Yes Is Question Mandatory : No Option Orientation : Vertical

Correct Marks : 1 Wrong Marks : 0.25

In a 400 litres mixture of A and B, the quantity of A is 240 litres. What is the ratio of quantity of A and B in the given mixture?

Options :

1. ✔ 3 : 2

2. ✖ 3 : 1

3. ✖ 2 : 1

4. ✖ 3 : 4

Question Number : 51 Question Id : 54062622811 Question Type : MCQ Option Shuffling : Yes Is Question Mandatory : No Option Orientation : Vertical

Correct Marks : 1 Wrong Marks : 0.25

400 लीटर A तथा B के मिश्रण में, A की मात्रा 240 लीटर है। दिए गए मिश्रण में A तथा B की मात्रा का अनुपात क्या है?

Options :

1. ✔ 3 : 2

2. ✖ 3 : 1

3. ✖ 2 : 1

4. ✖ 3 : 4

Question Number : 52 Question Id : 54062622812 Question Type : MCQ Option Shuffling : Yes Is Question Mandatory : No Option Orientation : Vertical

Correct Marks : 1 Wrong Marks : 0.25

A sum of Rs. 48000 is lent out at compound interest (compounding annually) at the rate of 25 percent per annum. What is the compound interest for 2 years?

Options :

1. ✖ Rs. 30000

2. ✖ Rs. 24000

3. ✖ Rs. 28000

4. ✔ Rs. 27000

Question Number : 52 Question Id : 54062622812 Question Type : MCQ Option Shuffling : Yes Is Question Mandatory : No Option Orientation : Vertical

Correct Marks : 1 Wrong Marks : 0.25

48000 रुपये की एक राशि को 25 प्रतिशत प्रतिवर्ष की दर से चक्रवृद्धि ब्याज (वार्षिक संयोजन) पर उधार दिया गया है। 2 वर्षों का चक्रवृद्धि ब्याज क्या है?

Options :

1. ✖ 30000 रुपये
2. ✖ 24000 रुपये
3. ✖ 28000 रुपये
4. ✔ 27000 रुपये

Question Number : 53 Question Id : 54062622813 Question Type : MCQ Option Shuffling : Yes Is Question Mandatory : No Option Orientation : Vertical

Correct Marks : 1 Wrong Marks : 0.25

The speed of a train is 15 metre/second. In how much time will it cover a distance of 15 km?

Options :

1. ✔ 5/18 hours
2. ✖ 18/5 hours
3. ✖ 1 hour
4. ✖ 2 hours

Question Number : 53 Question Id : 54062622813 Question Type : MCQ Option Shuffling : Yes Is Question Mandatory : No Option Orientation : Vertical

Correct Marks : 1 Wrong Marks : 0.25

एक रेलगाड़ी की गति 15 मीटर/सेकण्ड है। कितने समय में वह 15 कि.मी. की दूरी तय करेगी?

Options :

1. ✔ 5/18 घंटे
2. ✖ 18/5 घंटे
3. ✖ 1 घंटा
4. ✖ 2 घंटे

Question Number : 54 Question Id : 54062622814 Question Type : MCQ Option Shuffling : Yes Is Question Mandatory : No Option Orientation : Vertical

Correct Marks : 1 Wrong Marks : 0.25

A train can cover a platform of length 680 metres in 56 seconds. If the speed of train is 72 km/hr, then what is the length of train?

Options :

1. ✖ 380 metres
2. ✖ 460 metres
3. ✔ 440 metres
4. ✖ 520 metres

Question Number : 54 Question Id : 54062622814 Question Type : MCQ Option Shuffling : Yes Is Question Mandatory : No Option Orientation : Vertical

Correct Marks : 1 Wrong Marks : 0.25

एक रेलगाड़ी, एक 680 मीटर लंबे प्लेटफार्म को 56 सेकण्ड में पार कर सकती है। यदि रेलगाड़ी की गति 72 कि.मी./घंटा है, तो रेलगाड़ी की लम्बाई क्या है?

Options :

1. ✖ 380 मीटर
2. ✖ 460 मीटर
3. ✔ 440 मीटर
4. ✖ 520 मीटर

Question Number : 55 Question Id : 54062622815 Question Type : MCQ Option Shuffling : Yes Is Question Mandatory : No Option Orientation : Vertical

Correct Marks : 1 Wrong Marks : 0.25

Mohit and Rohit together can complete a work in 15 days. If Mohit is thrice as efficient as Rohit, then in how many days can Rohit alone complete the same work?

Options :

1. ✖ 45 days
2. ✔ 60 days
3. ✖ 20 days
4. ✖ 90 days

Question Number : 55 Question Id : 54062622815 Question Type : MCQ Option Shuffling : Yes Is Question Mandatory : No Option Orientation : Vertical

Correct Marks : 1 Wrong Marks : 0.25

मोहित तथा रोहित मिलकर एक कार्य को 15 दिन में कर सकते हैं। यदि मोहित, रोहित से तीन गुना कार्यकुशल है, तो रोहित अकेला समान कार्य को कितने दिन में पूरा कर सकता है?

Options :

1. ✖ 45 दिन
2. ✔ 60 दिन
3. ✖ 20 दिन
4. ✖ 90 दिन

Question Number : 56 Question Id : 54062622816 Question Type : MCQ Option Shuffling : Yes Is Question Mandatory : No Option Orientation : Vertical

Correct Marks : 1 Wrong Marks : 0.25

Area of a rectangle is 1200 cm^2. If the length of rectangle is thrice of its breadth, then what is the perimeter of the rectangle?

Options :

1. ✖ 80 cm
2. ✖ 60 cm
3. ✖ 120 cm
4. ✔ 160 cm

Question Number : 56 Question Id : 54062622816 Question Type : MCQ Option Shuffling : Yes Is Question Mandatory : No Option Orientation : Vertical

Correct Marks : 1 Wrong Marks : 0.25

एक आयत का क्षेत्रफल 1200 से.मी.^{2} है। यदि आयत की लम्बाई इसकी चौड़ाई की तीन गुना है, तो आयत का परिमाप क्या है?

Options :

1. ✖ 80 से.मी.
2. ✖ 60 से.मी.
3. ✖ 120 से.मी.
4. ✔ 160 से.मी.

Question Number : 57 Question Id : 54062622817 Question Type : MCQ Option Shuffling : Yes Is Question Mandatory : No Option Orientation : Vertical

Correct Marks : 1 Wrong Marks : 0.25

A solid cone is melted to form solid spherical balls. Height of cone is nine times of the radius of sphere. Radius of cone is 17 cm less than the height of cone. If radius of cone is 10 cm, then how many spherical balls will be formed?

Options :

1. ✔ 25
2. ✖ 36
3. ✖ 9
4. ✖ 75

Question Number : 57 Question Id : 54062622817 Question Type : MCQ Option Shuffling : Yes Is Question Mandatory : No Option Orientation : Vertical

Correct Marks : 1 Wrong Marks : 0.25

एक ठोस शंकु को पिघलाकर ठोस गोलाकार गेंदे बनाई गई हैं। शंकु की ऊँचाई गोले की त्रिज्या की नौ गुना है। शंकु की त्रिज्या, शंकु की ऊँचाई से 17 से.मी. कम है। यदि शंकु की त्रिज्या 10 से.मी. है, तो कितनी गोलाकार गेंदे बनेंगी?

Options :

1. ✔ 25
2. ✖ 36
3. ✖ 9
4. ✖ 75

Question Number : 58 Question Id : 54062622818 Question Type : MCQ Option Shuffling : Yes Is Question Mandatory : No Option Orientation : Vertical

Correct Marks : 1 Wrong Marks : 0.25

The table given below shows the number of pens sold by six shops.

Shops	Number of pens
A	120
B	40
C	70
D	45
E	30
F	100

What is the ratio of number of pens sold by A to the number of pens sold by E?

Options :

1. ✖ 2 : 1

2. ✖ 3 : 2

3. ✔ 4 : 1

4. ✖ 4 : 3

Question Number : 58 Question Id : 54062622818 Question Type : MCQ Option Shuffling : Yes Is Question Mandatory : No Option Orientation : Vertical

Correct Marks : 1 Wrong Marks : 0.25

नीचे दी गई तालिका छह दुकानों द्वारा बेची गई कलमों की संख्या को दर्शाती है।

दुकान	कलमों की संख्या
A	120
B	40
C	70
D	45
E	30
F	100

A द्वारा बेचे गए कलम की संख्या का, E द्वारा बेचे गए कलम की संख्या से अनुपात क्या है?

Options :

1. ✖ 2 : 1

2. ✖ 3 : 2
3. ✔ 4 : 1
4. ✖ 4 : 3

Question Number : 59 Question Id : 54062622819 Question Type : MCQ Option Shuffling : Yes Is Question Mandatory : No Option Orientation : Vertical

Correct Marks : 1 Wrong Marks : 0.25

The bar graph given below shows the marks obtained by a student in five subjects.

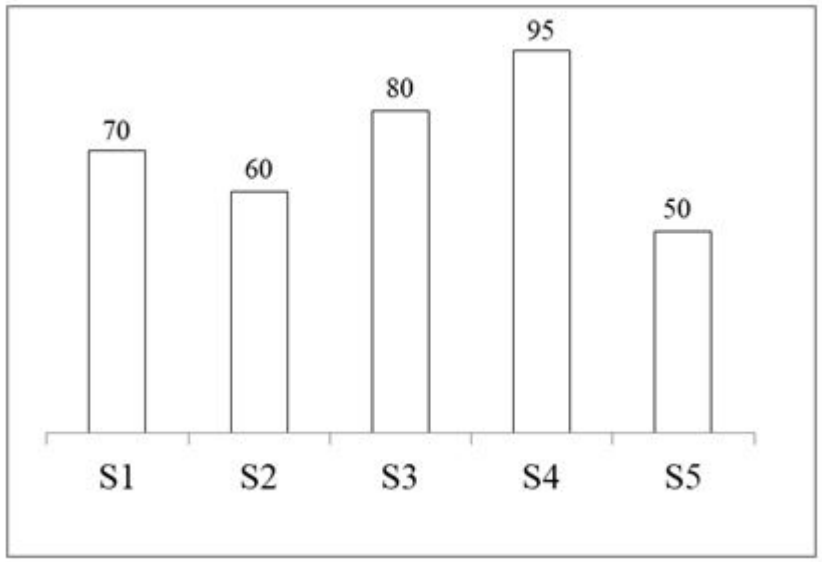

Marks obtained in S1 is what percent of the marks obtained in S5?

Options :

1. ✖ 125 percent
2. ✔ 140 percent
3. ✖ 160 percent
4. ✖ 114.28 percent

Question Number : 59 Question Id : 54062622819 Question Type : MCQ Option Shuffling : Yes Is Question Mandatory : No Option Orientation : Vertical

Correct Marks : 1 Wrong Marks : 0.25

नीचे दिया गया दण्ड चित्र पाँच विषयों में एक छात्र द्वारा प्राप्त अंकों को दर्शाता है।

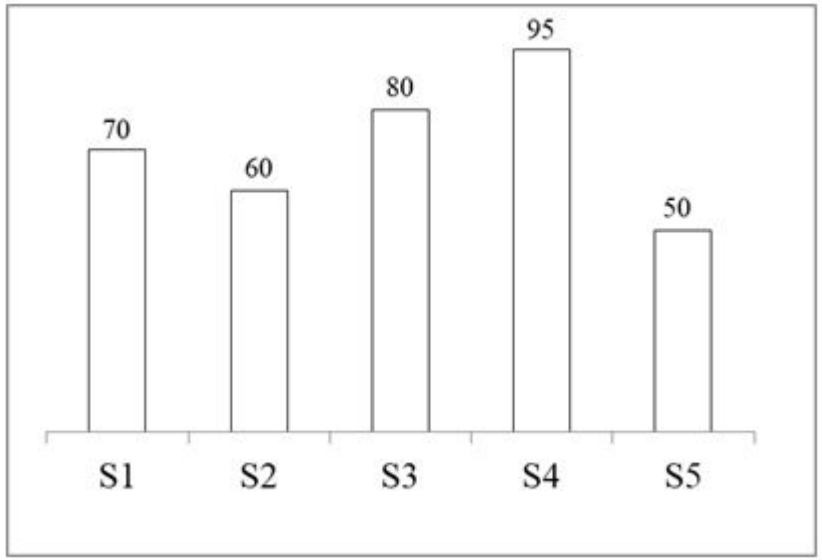

S1 में प्राप्त अंक, S5 में प्राप्त अंकों का कितना प्रतिशत है?

Options :

1. ✖ 125 प्रतिशत
2. ✔ 140 प्रतिशत
3. ✖ 160 प्रतिशत
4. ✖ 114.28 प्रतिशत

Question Number : 60 Question Id : 54062622820 Question Type : MCQ Option Shuffling : Yes Is Question Mandatory : No Option Orientation : Vertical

Correct Marks : 1 Wrong Marks : 0.25

The line chart given below shows the income of two companies in five years.

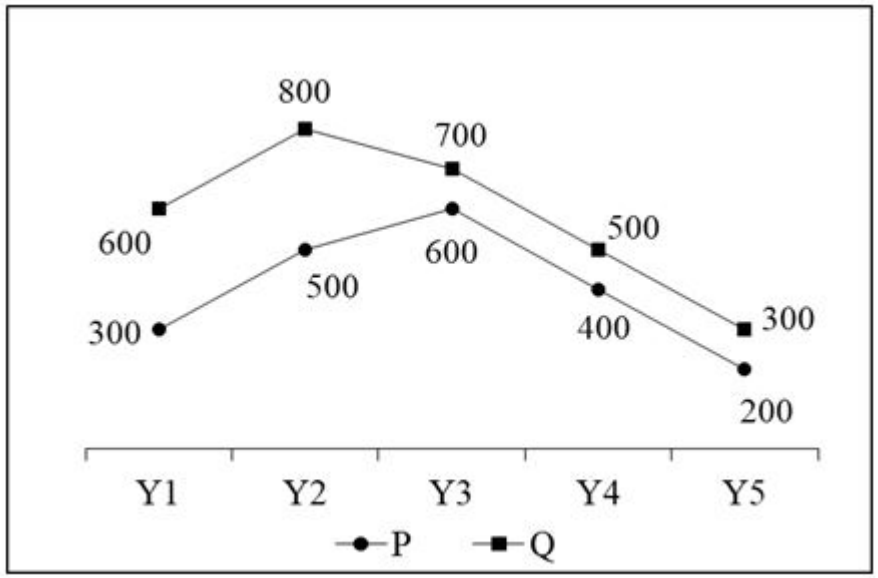

J1 = The value of average income of company P in all five years J2 = The difference between income of P and Q in all five years What is the value of J2 – J1?

Options :

1. ✖ 400
2. ✖ 600
3. ✔ 500
4. ✖ 900

Question Number : 60 Question Id : 54062622820 Question Type : MCQ Option Shuffling : Yes Is Question Mandatory : No Option Orientation : Vertical

Correct Marks : 1 Wrong Marks : 0.25

नीचे दिया गया रेखा चित्र पाँच वर्षों में दो कंपनियों की आय को दर्शाता है।

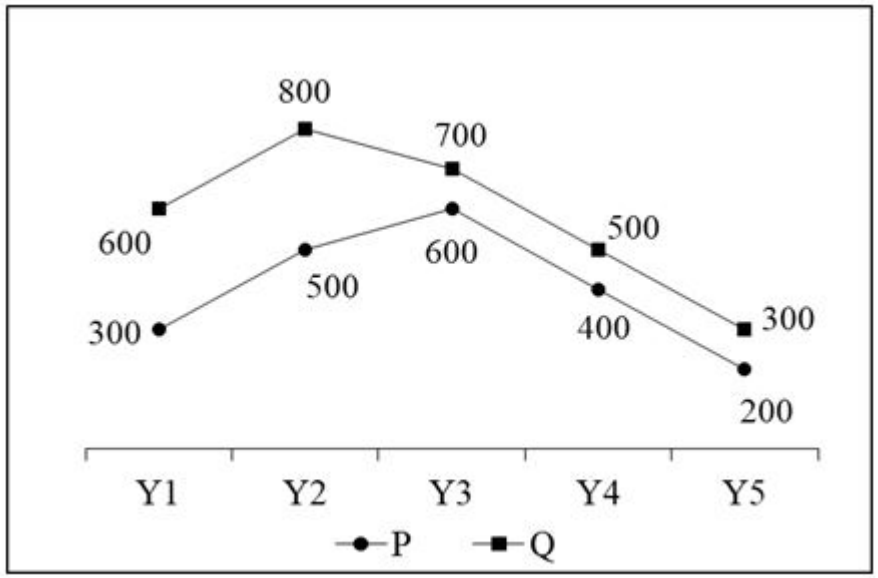

J1 = सभी पाँच वर्षों में कंपनी P की औसत आय का मान J2 = सभी पाँच वर्षों में P तथा Q की आय के बीच का अंतर J2 – J1 का मान क्या है?

Options :

1. ✖ 400
2. ✖ 600
3. ✔ 500
4. ✖ 900

General English

Group Number :	4
Group Id :	540626887
Group Maximum Duration :	0
Group Minimum Duration :	0
Show Attended Group? :	No
Edit Attended Group? :	No
Break time :	0
Group Marks :	20
Is this Group for Examiner? :	No

General English

Section Id :	5406261131
Section Number :	1
Section type :	Online
Mandatory or Optional :	Mandatory
Number of Questions :	16
Number of Questions to be attempted :	16
Section Marks :	20
Enable Mark as Answered Mark for Review and Clear Response :	Yes
Sub-Section Number :	1
Sub-Section Id :	5406261347
Question Shuffling Allowed :	Yes

Question Number : 61 Question Id : 54062622821 Question Type : MCQ Option Shuffling : Yes Is Question Mandatory : No Option Orientation : Vertical

Correct Marks : 1 Wrong Marks : 0.25

Find the part of the given sentence that has an error in it. If there is no error, choose 'No error'.

You don't has (1)/to be a linguist (2)/to recognize this language (3)/.No error (4)

Options :

1. ✔ 1
2. ✖ 2
3. ✖ 3
4. ✖ 4

Question Number : 61 Question Id : 54062622821 Question Type : MCQ Option Shuffling : Yes Is Question Mandatory : No Option Orientation : Vertical

Correct Marks : 1 Wrong Marks : 0.25

Find the part of the given sentence that has an error in it. If there is no error, choose 'No error'.

You don't has (1)/to be a linguist (2)/to recognize this language (3)/.No error (4)

Options :

1. ✔ 1
2. ✖ 2
3. ✖ 3
4. ✖ 4

Question Number : 62 Question Id : 54062622822 Question Type : MCQ Option Shuffling : Yes Is Question Mandatory : No Option Orientation : Vertical

Correct Marks : 1 Wrong Marks : 0.25

Find the part of the given sentence that has an error in it. If there is no error, choose 'No error'.

I am unable (1)/to make an (2)/connection with her (3)/.No error (4)

Options :

1. ✖ 1
2. ✔ 2
3. ✖ 3
4. ✖ 4

Question Number : 62 Question Id : 54062622822 Question Type : MCQ Option Shuffling : Yes Is Question Mandatory : No Option Orientation : Vertical

Correct Marks : 1 Wrong Marks : 0.25

Find the part of the given sentence that has an error in it. If there is no error, choose 'No error'.

I am unable (1)/to make an (2)/connection with her (3)/.No error (4)

Options :

1. ✖ 1
2. ✔ 2
3. ✖ 3
4. ✖ 4

Question Number : 63 Question Id : 54062622823 Question Type : MCQ Option Shuffling : Yes Is Question Mandatory : No Option Orientation : Vertical

Correct Marks : 1 Wrong Marks : 0.25

Select the most appropriate option to substitute the underlined segment in the given sentence. If no substitution is required, select 'No improvement' as your answer.

I turned in the street quickly.

Options :

1. ✖ on the
2. ✔ into the
3. ✖ onto the
4. ✖ No improvement

Question Number : 63 Question Id : 54062622823 Question Type : MCQ Option Shuffling : Yes Is Question Mandatory : No Option Orientation : Vertical

Correct Marks : 1 Wrong Marks : 0.25

Select the most appropriate option to substitute the underlined segment in the given sentence. If no substitution is required, select 'No improvement' as your answer.

I turned in the street quickly.

Options :

1. ✖ on the
2. ✔ into the
3. ✖ onto the
4. ✖ No improvement

Question Number : 64 Question Id : 54062622824 Question Type : MCQ Option Shuffling : Yes Is Question Mandatory : No Option Orientation : Vertical

Correct Marks : 1 Wrong Marks : 0.25

Select the most appropriate option to substitute the underlined segment in the given sentence. If no substitution is required, select 'No improvement' as your answer.

She have been running since a while.

Options :

1. ✖ have been running for
2. ✔ has been running for
3. ✖ has been running since

4. ✖ No improvement

Question Number : 64 Question Id : 54062622824 Question Type : MCQ Option Shuffling : Yes Is Question Mandatory : No Option Orientation : Vertical

Correct Marks : 1 Wrong Marks : 0.25

Select the most appropriate option to substitute the underlined segment in the given sentence. If no substitution is required, select 'No improvement' as your answer.

She have been running since a while.

Options :

1. ✖ have been running for
2. ✔ has been running for
3. ✖ has been running since
4. ✖ No improvement

Question Number : 65 Question Id : 54062622825 Question Type : MCQ Option Shuffling : Yes Is Question Mandatory : No Option Orientation : Vertical

Correct Marks : 1 Wrong Marks : 0.25

A sentence has been given with a blank to be filled with an appropriate word/words. Choose the correct alternative.

The movie was 4 hours long, it was the _____ movie I have ever seen.

Options :

1. ✖ as long as
2. ✖ long
3. ✖ longer
4. ✔ longest

Question Number : 65 Question Id : 54062622825 Question Type : MCQ Option Shuffling : Yes Is Question Mandatory : No Option Orientation : Vertical

Correct Marks : 1 Wrong Marks : 0.25

A sentence has been given with a blank to be filled with an appropriate word/words. Choose the correct alternative.

The movie was 4 hours long, it was the _____ movie I have ever seen.

Options :

1. ✖ as long as
2. ✖ long
3. ✖ longer
4. ✔ longest

Question Number : 66 Question Id : 54062622826 Question Type : MCQ Option Shuffling : Yes Is Question Mandatory : No Option Orientation : Vertical

Correct Marks : 1 Wrong Marks : 0.25

A sentence has been given with a blank to be filled with an appropriate word/words. Choose the correct alternative.

Horses are _____ than zebras.

Options :

1. ✔ bigger
2. ✖ biggest
3. ✖ big
4. ✖ as big as

Question Number : 66 Question Id : 54062622826 Question Type : MCQ Option Shuffling : Yes Is Question Mandatory : No Option Orientation : Vertical

Correct Marks : 1 Wrong Marks : 0.25

A sentence has been given with a blank to be filled with an appropriate word/words. Choose the correct alternative.

Horses are _____ than zebras.

Options :

1. ✔ bigger
2. ✖ biggest
3. ✖ big
4. ✖ as big as

Question Number : 67 Question Id : 54062622827 Question Type : MCQ Option Shuffling : Yes Is Question Mandatory : No Option Orientation : Vertical

Correct Marks : 1 Wrong Marks : 0.25

Rearrange the parts of the sentence in correct order.

While walking towards the house
P: I saw him rushing
Q: street talking to
R: up and down the
S: someone on the phone

Options :

1. ✖ PQRS
2. ✖ RQPS
3. ✖ RSPQ
4. ✔ PRQS

Question Number : 67 Question Id : 54062622827 Question Type : MCQ Option Shuffling : Yes Is Question Mandatory : No Option Orientation : Vertical

Correct Marks : 1 Wrong Marks : 0.25

Rearrange the parts of the sentence in correct order.

While walking towards the house
P: I saw him rushing
Q: street talking to
R: up and down the
S: someone on the phone

Options :

1. ✖ PQRS
2. ✖ RQPS
3. ✖ RSPQ
4. ✔ PRQS

Question Number : 68 Question Id : 54062622828 Question Type : MCQ Option Shuffling : Yes Is Question Mandatory : No Option Orientation : Vertical

Correct Marks : 1 Wrong Marks : 0.25

Rearrange the parts of the sentence in the correct order.

I was trying
P: but the broom

Q: to reach there
R: to clean the corner
S: wasn’t long enough

Options :

1. ✖ QRPS
2. ✖ RQPS
3. ✖ PSRQ
4. ✔ RPSQ

Question Number : 68 Question Id : 54062622828 Question Type : MCQ Option Shuffling : Yes Is Question Mandatory : No Option Orientation : Vertical

Correct Marks : 1 Wrong Marks : 0.25

Rearrange the parts of the sentence in the correct order.

I was trying
P: but the broom
Q: to reach there
R: to clean the corner
S: wasn’t long enough

Options :

1. ✖ QRPS
2. ✖ RQPS
3. ✖ PSRQ
4. ✔ RPSQ

Question Number : 69 Question Id : 54062622829 Question Type : MCQ Option Shuffling : Yes Is Question Mandatory : No Option Orientation : Vertical

Correct Marks : 1 Wrong Marks : 0.25

Choose the word that means the same as the given word.

Vigilant

Options :

1. ✔ Aware
2. ✖ Unaware

3. ✖ Unassuming
4. ✖ Alarm

Question Number : 69 Question Id : 54062622829 Question Type : MCQ Option Shuffling : Yes Is Question Mandatory : No Option Orientation : Vertical

Correct Marks : 1 Wrong Marks : 0.25

Choose the word that means the same as the given word.

Vigilant

Options :

1. ✔ Aware
2. ✖ Unaware
3. ✖ Unassuming
4. ✖ Alarm

Question Number : 70 Question Id : 54062622830 Question Type : MCQ Option Shuffling : Yes Is Question Mandatory : No Option Orientation : Vertical

Correct Marks : 1 Wrong Marks : 0.25

Choose the word that is opposite in meaning to the given word.

Rival

Options :

1. ✔ Accomplice
2. ✖ Carnival
3. ✖ Foe
4. ✖ Mimesis

Question Number : 70 Question Id : 54062622830 Question Type : MCQ Option Shuffling : Yes Is Question Mandatory : No Option Orientation : Vertical

Correct Marks : 1 Wrong Marks : 0.25

Choose the word that is opposite in meaning to the given word.

Rival

Options :

1. ✔ Accomplice
2. ✖ Carnival
3. ✖ Foe
4. ✖ Mimesis

Question Number : 71 Question Id : 54062622831 Question Type : MCQ Option Shuffling : Yes Is Question Mandatory : No Option Orientation : Vertical

Correct Marks : 1 Wrong Marks : 0.25

In the given question, four words are given out of which one word is correctly spelt. Choose the correctly spelt word.

Options :

1. ✖ Unnaranged
2. ✖ Unarrenged
3. ✔ Unarranged
4. ✖ Unaranged

Question Number : 71 Question Id : 54062622831 Question Type : MCQ Option Shuffling : Yes Is Question Mandatory : No Option Orientation : Vertical

Correct Marks : 1 Wrong Marks : 0.25

In the given question, four words are given out of which one word is correctly spelt. Choose the correctly spelt word.

Options :

1. ✖ Unnaranged
2. ✖ Unarrenged
3. ✔ Unarranged
4. ✖ Unaranged

Question Number : 72 Question Id : 54062622832 Question Type : MCQ Option Shuffling : Yes Is Question Mandatory : No Option Orientation : Vertical

Correct Marks : 1 Wrong Marks : 0.25

In the given question, four words are given out of which one word is correctly spelt. Choose the correctly spelt word.

Options :

1. ✔ Stuttering

2. ✖ Stuterring
3. ✖ Stutterring
4. ✖ sttutering

Question Number : 72 Question Id : 54062622832 Question Type : MCQ Option Shuffling : Yes Is Question Mandatory : No Option Orientation : Vertical

Correct Marks : 1 Wrong Marks : 0.25

In the given question, four words are given out of which one word is correctly spelt. Choose the correctly spelt word.

Options :

1. ✔ Stuttering
2. ✖ Stuterring
3. ✖ Stutterring
4. ✖ sttutering

Question Number : 73 Question Id : 54062622833 Question Type : MCQ Option Shuffling : Yes Is Question Mandatory : No Option Orientation : Vertical

Correct Marks : 1 Wrong Marks : 0.25

In the following question, out of the given four alternatives, select the alternative which best expresses the meaning of the Idiom/Phrase.

To mean business

Options :

1. ✔ To be serious
2. ✖ To start a new venture
3. ✖ To hire a contract killer
4. ✖ To weep heavily

Question Number : 73 Question Id : 54062622833 Question Type : MCQ Option Shuffling : Yes Is Question Mandatory : No Option Orientation : Vertical

Correct Marks : 1 Wrong Marks : 0.25

In the following question, out of the given four alternatives, select the alternative which best expresses the meaning of the Idiom/Phrase.

To mean business

Options :

1. ✔ To be serious
2. ✖ To start a new venture
3. ✖ To hire a contract killer
4. ✖ To weep heavily

Question Number : 74 Question Id : 54062622834 Question Type : MCQ Option Shuffling : Yes Is Question Mandatory : No Option Orientation : Vertical

Correct Marks : 1 Wrong Marks : 0.25

In the following question, out of the given four alternatives, select the alternative which best expresses the meaning of the Idiom/Phrase.

To cry for the moon

Options :

1. ✖ To long for the past
2. ✖ In old times
3. ✔ To aspire to possess something beyond one’s reach
4. ✖ To weep silently

Question Number : 74 Question Id : 54062622834 Question Type : MCQ Option Shuffling : Yes Is Question Mandatory : No Option Orientation : Vertical

Correct Marks : 1 Wrong Marks : 0.25

In the following question, out of the given four alternatives, select the alternative which best expresses the meaning of the Idiom/Phrase.

To cry for the moon

Options :

1. ✖ To long for the past
2. ✖ In old times
3. ✔ To aspire to possess something beyond one’s reach
4. ✖ To weep silently

Question Number : 75 Question Id : 54062622835 Question Type : MCQ Option Shuffling : Yes Is Question Mandatory : No Option Orientation : Vertical

Correct Marks : 1 Wrong Marks : 0.25

Choose the word that can substitute the given sentence.

Study of living organisms

Options :

1. ✔ Biology
2. ✖ Ecology
3. ✖ Zoology
4. ✖ Epistemology

Question Number : 75 Question Id : 54062622835 Question Type : MCQ Option Shuffling : Yes Is Question Mandatory : No Option Orientation : Vertical

Correct Marks : 1 Wrong Marks : 0.25

Choose the word that can substitute the given sentence.

Study of living organisms

Options :

1. ✔ Biology
2. ✖ Ecology
3. ✖ Zoology
4. ✖ Epistemology

Sub-Section Number :	2
Sub-Section Id :	5406261348
Question Shuffling Allowed :	Yes

Question Id : 54062622836 Question Type : COMPREHENSION Sub Question Shuffling Allowed : Yes Group Comprehension Questions : No

Question Numbers : (76 to 80)

Read the following information carefully and answer the given questions.

Homes are the places we spend most of our time. Heating your home in winter can be expensive, and comes at a huge environmental cost too. Technology to make homes more self-sufficient could help the UK decarbonise, while also make homes cheaper to run – something that's crucially needed for those on lower incomes.

In 2018, 10.3 percent of UK households experienced fuel poverty. This means these households were in a situation where spending money on energy services would push the household income below the poverty line.

On-site renewables can be part of the solution, especially for social housing, where significant numbers of families are currently facing a choice

between heat and food.
This awful situation can be avoided – or at least stemmed – by building renewable power generation and low carbon heat sources into the homes themselves, like integrated solar or thermal panels in roofs. By constructing these into the fabric of the roofs, they can be a design feature while providing a viable energy generation source for the home.
For new estates, there's the option of wider district heating or group ground source heat pumps, which take heat directly from the ground for use in the home. Air source heat pumps can also be used in the home. This technology uses hot air from outside to heat the home as well as hot water for use – similar to how a fridge works, but in reverse.
A project in Swansea, Wales, is looking into using homes as mini power stations. The pilot could see more than 10,000 homes with heat pumps, solar panels and large batteries for energy storage. The results of projects like this will be vital for learning how to progress with new designs for social homes.
Wind turbines, while suitable in some rural locations, are not entirely practical for housing developments. Solar panels are much more suitable and likely to be part of the solution for decarbonising social housing – even in places which do not receive much sunlight.

Sub questions

Question Number : 76 Question Id : 54062622837 Question Type : MCQ Option Shuffling : Yes Is Question Mandatory : No Option Orientation : Vertical

Correct Marks : 1 Wrong Marks : 0.25

What can be the suitable title for the given passage?

Options :

1. ✔ Homes as Power Stations
2. ✖ Social Housing
3. ✖ New Designs for Social Homes
4. ✖ Climate Change: Fight Continues

Question Number : 77 Question Id : 54062622838 Question Type : MCQ Option Shuffling : Yes Is Question Mandatory : No Option Orientation : Vertical

Correct Marks : 1 Wrong Marks : 0.25

Which of the following challenges is/are faced when heating homes during winters?

I. Spending money on energy services
II. A huge environmental cost
III. On-site renewables

Options :

1. ✔ I and II
2. ✖ II and III
3. ✖ I, II and III

4. ✖ Only I

Question Number : 78 Question Id : 54062622839 Question Type : MCQ Option Shuffling : Yes Is Question Mandatory : No Option Orientation : Vertical

Correct Marks : 1 Wrong Marks : 0.25

According to the given passage, which of the following statements is false?

Options :

1. ✖ A project in Swansea, Wales, is looking into using homes as mini power stations.
2. ✖ In 2018, 10.3% of UK households experienced fuel poverty.
3. ✔ Air source heat pumps cannot be used in the home.
4. ✖ Wind turbines is mainly suitable in some rural locations.

Question Number : 79 Question Id : 54062622840 Question Type : MCQ Option Shuffling : Yes Is Question Mandatory : No Option Orientation : Vertical

Correct Marks : 1 Wrong Marks : 0.25

Which technology has been compared with the technology of fridge?

Options :

1. ✖ Low carbon heat sources
2. ✔ Air source heat pumps
3. ✖ Solar thermal panels
4. ✖ Wind turbines

Question Number : 80 Question Id : 54062622841 Question Type : MCQ Option Shuffling : Yes Is Question Mandatory : No Option Orientation : Vertical

Correct Marks : 1 Wrong Marks : 0.25

What is the synonym of the word- ‘viable’ as used in the passage?

Options :

1. ✖ Adept
2. ✖ Vulnerable
3. ✖ Durable
4. ✔ Feasible

Question Id : 54062622836 Question Type : COMPREHENSION Sub Question Shuffling Allowed : Yes Group Comprehension Questions : No

Question Numbers : (76 to 80)

Read the following information carefully and answer the given questions.

Homes are the places we spend most of our time. Heating your home in winter can be expensive, and comes at a huge environmental cost too. Technology to make homes more self-sufficient could help the UK decarbonise, while also make homes cheaper to run – something that's crucially needed for those on lower incomes.

In 2018, 10.3 percent of UK households experienced fuel poverty. This means these households were in a situation where spending money on energy services would push the household income below the poverty line.

On-site renewables can be part of the solution, especially for social housing, where significant numbers of families are currently facing a choice between heat and food.

This awful situation can be avoided – or at least stemmed – by building renewable power generation and low carbon heat sources into the homes themselves, like integrated solar or thermal panels in roofs. By constructing these into the fabric of the roofs, they can be a design feature while providing a viable energy generation source for the home.

For new estates, there's the option of wider district heating or group ground source heat pumps, which take heat directly from the ground for use in the home. Air source heat pumps can also be used in the home. This technology uses hot air from outside to heat the home as well as hot water for use – similar to how a fridge works, but in reverse.

A project in Swansea, Wales, is looking into using homes as mini power stations. The pilot could see more than 10,000 homes with heat pumps, solar panels and large batteries for energy storage. The results of projects like this will be vital for learning how to progress with new designs for social homes.

Wind turbines, while suitable in some rural locations, are not entirely practical for housing developments. Solar panels are much more suitable and likely to be part of the solution for decarbonising social housing – even in places which do not receive much sunlight.

Sub questions

Question Number : 76 Question Id : 54062622837 Question Type : MCQ Option Shuffling : Yes Is Question Mandatory : No Option Orientation : Vertical

Correct Marks : 1 Wrong Marks : 0.25

What can be the suitable title for the given passage?

Options :

1. ✔ Homes as Power Stations
2. ✖ Social Housing
3. ✖ New Designs for Social Homes
4. ✖ Climate Change: Fight Continues

Question Number : 77 Question Id : 54062622838 Question Type : MCQ Option Shuffling : Yes Is Question Mandatory : No Option Orientation : Vertical

Correct Marks : 1 Wrong Marks : 0.25

Which of the following challenges is/are faced when heating homes during winters?

I. Spending money on energy services
II. A huge environmental cost
III. On-site renewables

Options :

1. ✔ I and II
2. ✖ II and III
3. ✖ I, II and III
4. ✖ Only I

Question Number : 78 Question Id : 54062622839 Question Type : MCQ Option Shuffling : Yes Is Question Mandatory : No Option Orientation : Vertical

Correct Marks : 1 Wrong Marks : 0.25

According to the given passage, which of the following statements is false?

Options :

1. ✖ A project in Swansea, Wales, is looking into using homes as mini power stations.
2. ✖ In 2018, 10.3% of UK households experienced fuel poverty.
3. ✔ Air source heat pumps cannot be used in the home.
4. ✖ Wind turbines is mainly suitable in some rural locations.

Question Number : 79 Question Id : 54062622840 Question Type : MCQ Option Shuffling : Yes Is Question Mandatory : No Option Orientation : Vertical

Correct Marks : 1 Wrong Marks : 0.25

Which technology has been compared with the technology of fridge?

Options :

1. ✖ Low carbon heat sources
2. ✔ Air source heat pumps
3. ✖ Solar thermal panels
4. ✖ Wind turbines

Question Number : 80 Question Id : 54062622841 Question Type : MCQ Option Shuffling : Yes Is Question Mandatory : No Option Orientation : Vertical

Correct Marks : 1 Wrong Marks : 0.25

What is the synonym of the word- ‘viable’ as used in the passage?

Options :

1. ✖ Adept
2. ✖ Vulnerable
3. ✖ Durable
4. ✔ Feasible

General Hindi

Group Number :	5
Group Id :	540626888
Group Maximum Duration :	0
Group Minimum Duration :	0
Show Attended Group? :	No
Edit Attended Group? :	No
Break time :	0
Group Marks :	20
Is this Group for Examiner? :	No

General Hindi

Section Id :	5406261132
Section Number :	1
Section type :	Online
Mandatory or Optional :	Mandatory
Number of Questions :	16
Number of Questions to be attempted :	16
Section Marks :	20
Enable Mark as Answered Mark for Review and Clear Response :	Yes
Sub-Section Number :	1
Sub-Section Id :	5406261349

Question Shuffling Allowed : Yes

Question Number : 81 Question Id : 54062622842 Question Type : MCQ Option Shuffling : Yes Is Question Mandatory : No Option Orientation : Vertical

Correct Marks : 1 Wrong Marks : 0.25

दिए गए शब्दों की संधि ज्ञात कीजिए।

इतः + ततः

Options :

1. ✖ इततः
2. ✔ इतस्ततः
3. ✖ इतः
4. ✖ इततततः

Question Number : 81 Question Id : 54062622842 Question Type : MCQ Option Shuffling : Yes Is Question Mandatory : No Option Orientation : Vertical

Correct Marks : 1 Wrong Marks : 0.25

दिए गए शब्दों की संधि ज्ञात कीजिए।

इतः + ततः

Options :

1. ✖ इततः
2. ✔ इतस्ततः
3. ✖ इतः
4. ✖ इततततः

Question Number : 82 Question Id : 54062622843 Question Type : MCQ Option Shuffling : Yes Is Question Mandatory : No Option Orientation : Vertical

Correct Marks : 1 Wrong Marks : 0.25

निम्नलिखित में से कौन सा शब्द विशेषण का उदाहरण नहीं है?

Options :

1. ✖ हरी

2. ✖ सुन्दर
3. ✔ घबराहट
4. ✖ दोहरा

Question Number : 82 Question Id : 54062622843 Question Type : MCQ Option Shuffling : Yes Is Question Mandatory : No Option Orientation : Vertical

Correct Marks : 1 Wrong Marks : 0.25

निम्नलिखित में से कौन सा शब्द विशेषण का उदाहरण नहीं है?

Options :

1. ✖ हरी
2. ✖ सुन्दर
3. ✔ घबराहट
4. ✖ दोहरा

Question Number : 83 Question Id : 54062622844 Question Type : MCQ Option Shuffling : Yes Is Question Mandatory : No Option Orientation : Vertical

Correct Marks : 1 Wrong Marks : 0.25

निम्नलिखित में से कौन सी क्रिया सही नहीं है?

Options :

1. ✖ मुकेश खाना पकवाता है – प्रेरणार्थक क्रिया
2. ✖ घोड़ा सड़क पर खड़ा है – अकर्मक क्रिया
3. ✔ पुलिस ने चोर को पकड़वाया – अकर्मक क्रिया
4. ✖ माधुरी पुस्तक पढ़ती है – सकर्मक क्रिया

Question Number : 83 Question Id : 54062622844 Question Type : MCQ Option Shuffling : Yes Is Question Mandatory : No Option Orientation : Vertical

Correct Marks : 1 Wrong Marks : 0.25

निम्नलिखित में से कौन सी क्रिया सही नहीं है?

Options :

1. ✖ मुकेश खाना पकवाता है – प्रेरणार्थक क्रिया
2. ✖ घोड़ा सड़क पर खड़ा है – अकर्मक क्रिया

3. ✔ पुलिस ने चोर को पकड़वाया – अकर्मक क्रिया
4. ✖ माधुरी पुस्तक पढ़ती है – सकर्मक क्रिया

Question Number : 84 Question Id : 54062622845 Question Type : MCQ Option Shuffling : Yes Is Question Mandatory : No Option Orientation : Vertical

Correct Marks : 1 Wrong Marks : 0.25

निम्नलिखित शब्दों में भिन्न अर्थ वाला शब्द कौन सा है?

Options :

1. ✖ उषा
2. ✔ दिन
3. ✖ प्रभात
4. ✖ सवेरा

Question Number : 84 Question Id : 54062622845 Question Type : MCQ Option Shuffling : Yes Is Question Mandatory : No Option Orientation : Vertical

Correct Marks : 1 Wrong Marks : 0.25

निम्नलिखित शब्दों में भिन्न अर्थ वाला शब्द कौन सा है?

Options :

1. ✖ उषा
2. ✔ दिन
3. ✖ प्रभात
4. ✖ सवेरा

Question Number : 85 Question Id : 54062622846 Question Type : MCQ Option Shuffling : Yes Is Question Mandatory : No Option Orientation : Vertical

Correct Marks : 1 Wrong Marks : 0.25

दिए गए शब्द का विलोम शब्द ज्ञात कीजिए।

भ्रम

Options :

1. ✖ निश्चित

2. ✖ संशयहीन
3. ✔ निभ्रम
4. ✖ निसंशय

Question Number : 85 Question Id : 54062622846 Question Type : MCQ Option Shuffling : Yes Is Question Mandatory : No Option Orientation : Vertical

Correct Marks : 1 Wrong Marks : 0.25

दिए गए शब्द का विलोम शब्द ज्ञात कीजिए।

भ्रम

Options :

1. ✖ निश्चित
2. ✖ संशयहीन
3. ✔ निभ्रम
4. ✖ निसंशय

Question Number : 86 Question Id : 54062622847 Question Type : MCQ Option Shuffling : Yes Is Question Mandatory : No Option Orientation : Vertical

Correct Marks : 1 Wrong Marks : 0.25

निम्नलिखित में से कौन सा शुद्ध शब्द है?

Options :

1. ✖ एक्य
2. ✖ महात्मय
3. ✔ अतिशयोक्ति
4. ✖ त्यौहार

Question Number : 86 Question Id : 54062622847 Question Type : MCQ Option Shuffling : Yes Is Question Mandatory : No Option Orientation : Vertical

Correct Marks : 1 Wrong Marks : 0.25

निम्नलिखित में से कौन सा शुद्ध शब्द है?

Options :

1. ✖ एक्य
2. ✖ महात्मय
3. ✔ अतिशयोक्ति
4. ✖ त्यौहार

Question Number : 87 Question Id : 54062622848 Question Type : MCQ Option Shuffling : Yes Is Question Mandatory : No Option Orientation : Vertical

Correct Marks : 1 Wrong Marks : 0.25

दिए गए वाक्यांश के लिए उचित शब्द का चयन कीजिए।

वीर पुत्र को जन्म देने वाली स्त्री

Options :

1. ✖ वसुंधरा
2. ✖ माता
3. ✖ जननी
4. ✔ वीरप्रसू

Question Number : 87 Question Id : 54062622848 Question Type : MCQ Option Shuffling : Yes Is Question Mandatory : No Option Orientation : Vertical

Correct Marks : 1 Wrong Marks : 0.25

दिए गए वाक्यांश के लिए उचित शब्द का चयन कीजिए।

वीर पुत्र को जन्म देने वाली स्त्री

Options :

1. ✖ वसुंधरा
2. ✖ माता
3. ✖ जननी
4. ✔ वीरप्रसू

Question Number : 88 Question Id : 54062622849 Question Type : MCQ Option Shuffling : Yes Is Question Mandatory : No Option Orientation : Vertical

Correct Marks : 1 Wrong Marks : 0.25

निम्नलिखित शब्दों में से स्त्रीलिंग ज्ञात कीजिए।

Options :

1. ✔ रियासत
2. ✖ दिन
3. ✖ राष्ट्र
4. ✖ राज्य

Question Number : 88 Question Id : 54062622849 Question Type : MCQ Option Shuffling : Yes Is Question Mandatory : No Option Orientation : Vertical

Correct Marks : 1 Wrong Marks : 0.25

निम्नलिखित शब्दों में से स्त्रीलिंग ज्ञात कीजिए।

Options :

1. ✔ रियासत
2. ✖ दिन
3. ✖ राष्ट्र
4. ✖ राज्य

Question Number : 89 Question Id : 54062622850 Question Type : MCQ Option Shuffling : Yes Is Question Mandatory : No Option Orientation : Vertical

Correct Marks : 1 Wrong Marks : 0.25

दिए गए शब्द का बहुवचन ज्ञात कीजिए।

भारतीय

Options :

1. ✖ भारतियों
2. ✔ भारतीयों
3. ✖ भारतिओं
4. ✖ भारितीयों

Question Number : 89 Question Id : 54062622850 Question Type : MCQ Option Shuffling : Yes Is Question Mandatory : No Option Orientation : Vertical

Correct Marks : 1 Wrong Marks : 0.25
दिए गए शब्द का बहुवचन ज्ञात कीजिए।

भारतीय
Options :
1. ✖ भारतियों
2. ✔ भारतीयों
3. ✖ भारतिओं
4. ✖ भारितीयों

Question Number : 90 Question Id : 54062622851 Question Type : MCQ Option Shuffling : Yes Is Question Mandatory : No Option Orientation : Vertical
Correct Marks : 1 Wrong Marks : 0.25
दिए गए वाक्य में शुद्ध भाग का चयन कीजिए।

घर के प्रत्येक सदस्यों से सह आपेक्षित है कि वे सद्भावना से रहें।
Options :
1. ✔ घर के प्रत्येक
2. ✖ सदस्यों से यह
3. ✖ आपरेक्षित है कि वे
4. ✖ सद्भावना से रहें

Question Number : 90 Question Id : 54062622851 Question Type : MCQ Option Shuffling : Yes Is Question Mandatory : No Option Orientation : Vertical
Correct Marks : 1 Wrong Marks : 0.25
दिए गए वाक्य में शुद्ध भाग का चयन कीजिए।

घर के प्रत्येक सदस्यों से सह आपेक्षित है कि वे सद्भावना से रहें।
Options :
1. ✔ घर के प्रत्येक
2. ✖ सदस्यों से यह
3. ✖ आपरेक्षित है कि वे

4. ✖ सद्भावना से रहें

Question Number : 91 Question Id : 54062622852 Question Type : MCQ Option Shuffling : Yes Is Question Mandatory : No Option Orientation : Vertical

Correct Marks : 1 Wrong Marks : 0.25

दिए गए वाक्य के प्रकार की पहचान कीजिए।

जैसे ही राधा आयी, वैसे ही पार्टी शुरू हो गयी।

Options :

1. ✖ समुच्चयबोधक
2. ✖ सरल
3. ✖ संयुक्त
4. ✔ मिश्रित

Question Number : 91 Question Id : 54062622852 Question Type : MCQ Option Shuffling : Yes Is Question Mandatory : No Option Orientation : Vertical

Correct Marks : 1 Wrong Marks : 0.25

दिए गए वाक्य के प्रकार की पहचान कीजिए।

जैसे ही राधा आयी, वैसे ही पार्टी शुरू हो गयी।

Options :

1. ✖ समुच्चयबोधक
2. ✖ सरल
3. ✖ संयुक्त
4. ✔ मिश्रित

Question Number : 92 Question Id : 54062622853 Question Type : MCQ Option Shuffling : Yes Is Question Mandatory : No Option Orientation : Vertical

Correct Marks : 1 Wrong Marks : 0.25

द्वंद्व समास के दोनों पदों के बीच किस चिन्ह का प्रयोग होता है?

Options :

1. ✖ विराम चिन्ह

2. ✔ योजक चिन्ह
3. ✖ अर्द्धविराम
4. ✖ अल्पविराम

Question Number : 92 Question Id : 54062622853 Question Type : MCQ Option Shuffling : Yes Is Question Mandatory : No Option Orientation : Vertical

Correct Marks : 1 Wrong Marks : 0.25

द्वंद्व समास के दोनों पदों के बीच किस चिन्ह का प्रयोग होता है?

Options :

1. ✖ विराम चिन्ह
2. ✔ योजक चिन्ह
3. ✖ अर्द्धविराम
4. ✖ अल्पविराम

Question Number : 93 Question Id : 54062622854 Question Type : MCQ Option Shuffling : Yes Is Question Mandatory : No Option Orientation : Vertical

Correct Marks : 1 Wrong Marks : 0.25

दिए गए वाक्य के लिए उपयुक्त मुहावरे का चयन करके, रिक्त स्थान की पूर्ति कीजिए।

वह कक्षा में अवश्य अव्वल स्थान प्राप्त करेगा, क्योंकि उसने _____।

Options :

1. ✖ बीड़ा उठाना
2. ✔ जी तोड़ मेहनत करना
3. ✖ पत्थर की लकीर
4. ✖ बाएं हाथ का खेल

Question Number : 93 Question Id : 54062622854 Question Type : MCQ Option Shuffling : Yes Is Question Mandatory : No Option Orientation : Vertical

Correct Marks : 1 Wrong Marks : 0.25

दिए गए वाक्य के लिए उपयुक्त मुहावरे का चयन करके, रिक्त स्थान की पूर्ति कीजिए।

वह कक्षा में अवश्य अव्वल स्थान प्राप्त करेगा, क्योंकि उसने _____।

Options :

1. ✖ बीड़ा उठाना
2. ✔ जी तोड़ मेहनत करना
3. ✖ पत्थर की लकीर
4. ✖ बाएं हाथ का खेल

Question Number : 94 Question Id : 54062622855 Question Type : MCQ Option Shuffling : Yes Is Question Mandatory : No Option Orientation : Vertical

Correct Marks : 1 Wrong Marks : 0.25

निम्नलिखित वाक्यों मे से किस वाक्य में उचित विराम चिन्हों का उपयोग किया गया है?

Note: For this question, discrepancy is found in question/answer. So,this question is ignored for all candidates.

Options :

1. अध्यक्ष जी, हमारी बात सुनिये
2. किसी पद का अर्थ स्पष्ट करने के लिए पूर्ण विराम लगाया जाता है।
3. वाह, आप खूब है।
4. जो परिश्रमी होते हैं, वही सफलता प्राप्त कर सकते हैं।

Question Number : 94 Question Id : 54062622855 Question Type : MCQ Option Shuffling : Yes Is Question Mandatory : No Option Orientation : Vertical

Correct Marks : 1 Wrong Marks : 0.25

निम्नलिखित वाक्यों मे से किस वाक्य में उचित विराम चिन्हों का उपयोग किया गया है?

Note: For this question, discrepancy is found in question/answer. So,this question is ignored for all candidates.

Options :

1. अध्यक्ष जी, हमारी बात सुनिये
2. किसी पद का अर्थ स्पष्ट करने के लिए पूर्ण विराम लगाया जाता है।
3. वाह, आप खूब है।

4. जो परिश्रमी होते हैं, वही सफलता प्राप्त कर सकते हैं।

Question Number : 95 Question Id : 54062622856 Question Type : MCQ Option Shuffling : Yes Is Question Mandatory : No Option Orientation : Vertical

Correct Marks : 1 Wrong Marks : 0.25

निम्नलिखित प्रश्न में, दिए गए चार विकल्पों में से, उस विकल्प का चयन करें जो दिए गए मुहावरे के अर्थ को सर्वश्रेष्ठ रूप से व्यक्त करता है।

घर को जोगी जोगड़ा, आन गाँव का सिद्ध

Options :

1. ✔ घर के ज्ञानी को सम्मान नहीं
2. ✖ घर घर में मिट्टी के चूल्हें
3. ✖ घर की मुर्गी का स्वाद नहीं होता
4. ✖ घर का भेदी लंका ढाए

Question Number : 95 Question Id : 54062622856 Question Type : MCQ Option Shuffling : Yes Is Question Mandatory : No Option Orientation : Vertical

Correct Marks : 1 Wrong Marks : 0.25

निम्नलिखित प्रश्न में, दिए गए चार विकल्पों में से, उस विकल्प का चयन करें जो दिए गए मुहावरे के अर्थ को सर्वश्रेष्ठ रूप से व्यक्त करता है।

घर को जोगी जोगड़ा, आन गाँव का सिद्ध

Options :

1. ✔ घर के ज्ञानी को सम्मान नहीं
2. ✖ घर घर में मिट्टी के चूल्हें
3. ✖ घर की मुर्गी का स्वाद नहीं होता
4. ✖ घर का भेदी लंका ढाए

Sub-Section Number :	2
Sub-Section Id :	5406261350
Question Shuffling Allowed :	Yes

Question Id : 54062622857 Question Type : COMPREHENSION Sub Question Shuffling Allowed : Yes Group Comprehension Questions : No

Question Numbers : (96 to 100)

एक गद्यांश दिया गया है। गद्यांश के आधार पर पाँच प्रश्न दिए गए हैं। गद्यांश को ध्यानपूर्वक पढ़ें तथा प्रत्येक प्रश्न के चार विकल्पो में से सही विकल्प चुने।

आज का युग प्रौद्योगिकी, सूचना तथा संचार का युग है। सूचना प्रौद्योगिकी, तकनीकी उपकरणों के माध्यम से सूचनाओं का संकलन तथा सम्प्रेषण करता है। सूचना प्रौद्योगिकी में कम्प्यूटर का महत्त्व अवर्णनीय है। आज के युग में कम्प्यूटर के द्वारा सूचना प्रौद्योगिकी के क्षेत्र में जो नई क्रान्ति हुई है, वह है- यान्त्रिकी और कम्प्यूटर की नई भाषाई माँगों को पूरा करना।
इन नई भाषाओं में हिन्दी का भी अपना विशेष महत्त्व है। हिन्दी विश्व की तीसरी सबसे बड़ी भाषा है। हिन्दी की शब्द-सम्पदा का नित विस्तार होने से कम्प्यूटर और हिन्दी एक-दूसरे के पूरक हो गए हैं। धीरे-धीरे अन्य देशों में हिन्दी के पठन-पाठन और प्रचार-प्रसार में तेजी से वृद्धि हुई है। दूर संचार के माध्यमों ने हिन्दी के प्रचार-प्रसार में अपना महत्त्वपूर्ण योगदान दिया है। चूँकि हिन्दी भाषा का व्याकरण वैज्ञानिक है, इसलिए देवनागरी लिपि कम्प्यूटर के लिए अनुकूल है। कम्प्यूटर युग में हिन्दी के प्रयोग की सम्भावनाओं को ध्यान में रखते हुए इलेक्ट्रॉनिक विभाग ने भारतीय भाषाओं के लिए तकनीकी विकास के अन्तर्गत विभिन्न परियोजनाओं को शुरू किया है।
आज विण्डोज प्लेटफार्म में कार्य करने वाले हिन्दी के अनेक सॉफ्टवेयर बाज़ार में उपलब्ध हैं; जैसे-सी डैक, लीप ऑफिस, अक्षर फॉर विण्डोज आदि। हिन्दी भाषा में वेब पेज विकसित करने के लिए प्लग इन पैकेट तैयार किया गया है, जिससे कोई भी व्यक्ति या संस्था अपना वेब पेज हिन्दी में प्रकाशित कर सकता है। कम्प्यूटर एवं इण्टरनेट के परस्पर सहयोग से हिन्दी भाषा का प्रसार तीव्र गति से होने की सम्भावनाएँ बढ़ गई हैं। माइक्रोसॉफ्ट, रेडिफ, गूगल, याहू आदि विदेशी कम्पनियाँ अपनी वेबसाइट पर हिन्दी भाषा को स्थान दे रही हैं। इण्टरनेट सेवा के अन्तर्गत ई-मेल, वॉइस मेल आदि के कारण हिन्दी भाषा के विकास व सम्प्रेषण की सम्भावनाएँ बढ़ गई हैं। हिन्दी वर्ड नेट पर हिन्दी शब्दों के एक विशाल भण्डार को विकसित किया गया है।
निष्कर्षतः हिन्दी और कम्प्यूटर को जोड़ने के काफी प्रयास किए जा रहे हैं, परन्तु अभी भी हिन्दी तकनीकी के दृष्टिकोण से पूर्णरूपेण विकसित नहीं है। अतः इस क्षेत्र में अभी युद्ध स्तर पर कार्य करने की आवश्यकता है, जिससे हिन्दी के प्रचार-प्रसार में वैश्विक रूप से महत्त्वपूर्ण वृद्धि की जा सके।

Sub questions

Question Number : 96 Question Id : 54062622858 Question Type : MCQ Option Shuffling : Yes Is Question Mandatory : No Option Orientation : Vertical

Correct Marks : 1 Wrong Marks : 0.25

उपर्युक्त गद्यांश का शीर्षक क्या होगा?

Options :

1. ✖ कंप्युटर के लाभ
2. ✖ हिन्दी का विस्तार
3. ✔ कंप्युटर और हिन्दी
4. ✖ मानव और हिन्दी

Question Number : 97 Question Id : 54062622859 Question Type : MCQ Option Shuffling : Yes Is Question Mandatory : No Option Orientation : Vertical

Correct Marks : 1 Wrong Marks : 0.25

'हिन्दी की शब्द-संपदा का नित विस्तार'।

इस वाक्य मे शब्द-सम्पदा का अर्थ क्या है?

Options :

1. ✖ विलोम
2. ✖ शब्द सम्पत्ति
3. ✖ शब्द शक्ति
4. ✔ शब्द कोश

Question Number : 98 Question Id : 54062622860 Question Type : MCQ Option Shuffling : Yes Is Question Mandatory : No Option Orientation : Vertical

Correct Marks : 1 Wrong Marks : 0.25

हिन्दी भाषा को विश्व में कौन-सा स्थान प्राप्त है?

Options :

1. ✖ पहला
2. ✖ दूसरा
3. ✔ तीसरा
4. ✖ चौथी

Question Number : 99 Question Id : 54062622861 Question Type : MCQ Option Shuffling : Yes Is Question Mandatory : No Option Orientation : Vertical

Correct Marks : 1 Wrong Marks : 0.25

हिन्दी भाषा का प्रसार तीव्र गति से बढ़ रहा है, क्योंकि _____।

Options :

1. ✖ कंप्युटर की बढ़ती मांग से
2. ✖ भारतीयों की विदेश यात्रा से
3. ✖ विदेशियों की भारतीय यात्रा से
4. ✔ कंप्युटर और इंटरनेट के सहयोग से

Question Number : 100 Question Id : 54062622862 Question Type : MCQ Option Shuffling : Yes Is Question Mandatory : No Option Orientation : Vertical

Correct Marks : 1 Wrong Marks : 0.25

हिन्दी और कंप्युटर को जोड़ने के लिए क्या प्रयास किए जा रहे है?

Options :

1. ✔ वैश्विक रूप से हिन्दी का प्रचार-प्रसार करना।
2. ✖ कंप्युटर को विभिन्न भाषाओ मे उपलब्ध कराना।
3. ✖ वेबसाईट पर हिन्दी को स्थान न देना।
4. ✖ हिन्दी सॉफ्टवेयर उपलब्ध कराना।

Question Id : 54062622857 Question Type : COMPREHENSION Sub Question Shuffling Allowed : Yes Group Comprehension Questions : No

Question Numbers : (96 to 100)

एक गद्यांश दिया गया है। गद्यांश के आधार पर पाँच प्रश्न दिए गए हैं। गद्यांश को ध्यानपूर्वक पढ़ें तथा प्रत्येक प्रश्न के चार विकल्पो में से सही विकल्प चुने।

आज का युग प्रौद्योगिकी, सूचना तथा संचार का युग है। सूचना प्रौद्योगिकी, तकनीकी उपकरणों के माध्यम से सूचनाओं का संकलन तथा सम्प्रेषण करता है। सूचना प्रौद्योगिकी में कम्प्यूटर का महत्त्व अवर्णनीय है। आज के युग में कम्प्यूटर के द्वारा सूचना प्रौद्योगिकी के क्षेत्र में जो नई क्रान्ति हुई है, वह है- यान्त्रिकी और कम्प्यूटर की नई भाषाई माँगों को पूरा करना।
इन नई भाषाओं में हिन्दी का भी अपना विशेष महत्त्व है। हिन्दी विश्व की तीसरी सबसे बड़ी भाषा है। हिन्दी की शब्द-सम्पदा का नित विस्तार होने से कम्प्यूटर और हिन्दी एक-दूसरे के पूरक हो गए हैं। धीरे-धीरे अन्य देशों में हिन्दी के पठन-पाठन और प्रचार-प्रसार में तेजी से वृद्धि हुई है। दूर संचार के माध्यमों ने हिन्दी के प्रचार-प्रसार में अपना महत्त्वपूर्ण योगदान दिया है। चूँकि हिन्दी भाषा का व्याकरण वैज्ञानिक है, इसलिए देवनागरी लिपि कम्प्यूटर के लिए अनुकूल है। कम्प्यूटर युग में हिन्दी के प्रयोग की सम्भावनाओं को ध्यान में रखते हुए इलेक्ट्रॉनिक विभाग ने भारतीय भाषाओं के लिए तकनीकी विकास के अन्तर्गत विभिन्न परियोजनाओं को शुरू किया है।
आज विण्डोज प्लेटफार्म में कार्य करने वाले हिन्दी के अनेक सॉफ्टवेयर बाज़ार में उपलब्ध हैं; जैसे-सी डैक, लीप ऑफिस, अक्षर फॉर विण्डोज आदि। हिन्दी भाषा में वेब पेज विकसित करने के लिए प्लग इन पैकेट तैयार किया गया है, जिससे कोई भी व्यक्ति या संस्था अपना वेब पेज हिन्दी में प्रकाशित कर सकता है। कम्प्यूटर एवं इण्टरनेट के परस्पर सहयोग से हिन्दी भाषा का प्रसार तीव्र गति से होने की सम्भावनाएँ बढ़ गई हैं। माइक्रोसॉफ्ट, रेडिफ, गूगल, याहू आदि विदेशी कम्पनियाँ अपनी वेबसाइट पर हिन्दी भाषा को स्थान दे रही हैं। इण्टरनेट सेवा के अन्तर्गत ई-मेल, वॉइस मेल आदि के कारण हिन्दी भाषा के विकास व सम्प्रेषण की सम्भावनाएँ बढ़ गई हैं। हिन्दी वर्ड नेट पर हिन्दी शब्दों के एक विशाल भण्डार को विकसित किया गया है।
निष्कर्षतः हिन्दी और कम्प्यूटर को जोड़ने के काफी प्रयास किए जा रहे हैं, परन्तु अभी भी हिन्दी तकनीकी के दृष्टिकोण से पूर्णरूपेण विकसित नहीं है। अतः इस क्षेत्र में अभी युद्ध स्तर पर कार्य करने की आवश्यकता है, जिससे हिन्दी के प्रचार-प्रसार में वैश्विक रूप से महत्त्वपूर्ण वृद्धि की जा सके।

Sub questions

Question Number : 96 Question Id : 54062622858 Question Type : MCQ Option Shuffling : Yes Is Question Mandatory : No Option Orientation : Vertical

Correct Marks : 1 Wrong Marks : 0.25

उपर्युक्त गद्यांश का शीर्षक क्या होगा?

Options :

1. ✖ कंप्युटर के लाभ

2. ✖ हिन्दी का विस्तार
3. ✔ कंप्युटर और हिन्दी
4. ✖ मानव और हिन्दी

Question Number : 97 Question Id : 54062622859 Question Type : MCQ Option Shuffling : Yes Is Question Mandatory : No Option Orientation : Vertical

Correct Marks : 1 Wrong Marks : 0.25

'हिन्दी की शब्द-संपदा का नित विस्तार'।

इस वाक्य मे शब्द-सम्पदा का अर्थ क्या है?

Options :

1. ✖ विलोम
2. ✖ शब्द सम्पत्ति
3. ✖ शब्द शक्ति
4. ✔ शब्द कोश

Question Number : 98 Question Id : 54062622860 Question Type : MCQ Option Shuffling : Yes Is Question Mandatory : No Option Orientation : Vertical

Correct Marks : 1 Wrong Marks : 0.25

हिन्दी भाषा को विश्व में कौन-सा स्थान प्राप्त है?

Options :

1. ✖ पहला
2. ✖ दूसरा
3. ✔ तीसरा
4. ✖ चौथी

Question Number : 99 Question Id : 54062622861 Question Type : MCQ Option Shuffling : Yes Is Question Mandatory : No Option Orientation : Vertical

Correct Marks : 1 Wrong Marks : 0.25

हिन्दी भाषा का प्रसार तीव्र गति से बढ़ रहा है, क्योंकि _____।

Options :

1. ✖ कंप्युटर की बढ़ती मांग से

2. ✖ भारतीयों की विदेश यात्रा से
3. ✖ विदेशियों की भारतीय यात्रा से
4. ✔ कंप्युटर और इंटरनेट के सहयोग से

Question Number : 100 Question Id : 54062622862 Question Type : MCQ Option Shuffling : Yes Is Question Mandatory : No Option Orientation : Vertical

Correct Marks : 1 Wrong Marks : 0.25

हिन्दी और कंप्युटर को जोड़ने के लिए क्या प्रयास किए जा रहे है?

Options :

1. ✔ वैश्विक रूप से हिन्दी का प्रचार-प्रसार करना।
2. ✖ कंप्युटर को विभिन्न भाषाओ मे उपलब्ध कराना।
3. ✖ वेबसाईट पर हिन्दी को स्थान न देना।
4. ✖ हिन्दी सॉफ्टवेयर उपलब्ध कराना।

Discipline1

Group Number :	6
Group Id :	540626889
Group Maximum Duration :	0
Group Minimum Duration :	0
Show Attended Group? :	No
Edit Attended Group? :	No
Break time :	0
Group Marks :	20
Is this Group for Examiner? :	No

Discipline1

Section Id :	5406261133
Section Number :	1
Section type :	Online

Mandatory or Optional :	Mandatory
Number of Questions :	20
Number of Questions to be attempted :	20
Section Marks :	20
Enable Mark as Answered Mark for Review and Clear Response :	Yes
Sub-Section Number :	1
Sub-Section Id :	5406261351
Question Shuffling Allowed :	Yes

Question Number : 101 Question Id : 54062622863 Question Type : MCQ Option Shuffling : Yes Is Question Mandatory : No Option Orientation : Vertical

Correct Marks : 1 Wrong Marks : 0.25

Between 1820-1913, which countries imported grains to Europe leading to the fall of agricultural prices?

Options :

1. ✔ United States and Canada
2. ✖ Canada and Mexico
3. ✖ Canada and China
4. ✖ China and Mexico

Question Number : 101 Question Id : 54062622863 Question Type : MCQ Option Shuffling : Yes Is Question Mandatory : No Option Orientation : Vertical

Correct Marks : 1 Wrong Marks : 0.25

1820-1913 के बीच, किन देशों ने यूरोप में अनाज का आयात किया जिससे कृषि कीमतों में गिरावट आई?

Options :

1. ✔ संयुक्त राज्य अमेरिका तथा कनाडा
2. ✖ कनाडा तथा मेक्सिको
3. ✖ कनाडा तथा चीन
4. ✖ चीन तथा मेक्सिको

Question Number : 102 Question Id : 54062622864 Question Type : MCQ Option Shuffling : Yes Is Question Mandatory : No Option Orientation : Vertical

Correct Marks : 1 Wrong Marks : 0.25

The 1945 Plan for Economic Development for India is also known as _____.

Options :

1. ✖ Delhi Plan
2. ✖ Lucknow Plan
3. ✔ Bombay Plan
4. ✖ Calcutta Plan

Question Number : 102 Question Id : 54062622864 Question Type : MCQ Option Shuffling : Yes Is Question Mandatory : No Option Orientation : Vertical

Correct Marks : 1 Wrong Marks : 0.25

1945 का भारत के लिए आर्थिक विकास के लिए योजना को _____ के रूप में भी जाना जाता है।

Options :

1. ✖ दिल्ली योजना
2. ✖ लखनऊ योजना
3. ✔ बॉम्बे प्लान
4. ✖ कलकत्ता योजना

Question Number : 103 Question Id : 54062622865 Question Type : MCQ Option Shuffling : Yes Is Question Mandatory : No Option Orientation : Vertical

Correct Marks : 1 Wrong Marks : 0.25

Which of the following statements are correct regarding the Bhoodan movement?

I. The movement was independent of the government.
II. The movement had support from the Congress party.
III. It was led by Jayaprakash Narayan

Options :

1. ✖ Only I
2. ✔ I and II
3. ✖ II and III
4. ✖ I and III

Question Number : 103 Question Id : 54062622865 Question Type : MCQ Option Shuffling : Yes Is Question Mandatory : No Option

Orientation : Vertical

Correct Marks : 1 Wrong Marks : 0.25

भूदान आंदोलन के संदर्भ में निम्नलिखित में से कौन सा कथन सही है?

I. आंदोलन सरकार से स्वतंत्र था।
II. इस आंदोलन को कांग्रेस पार्टी का समर्थन प्राप्त था।
III. इसका नेतृत्व जयप्रकाश नारायण ने किया था।

Options :

1. ✖ केवल I
2. ✔ I तथा II
3. ✖ II तथा III
4. ✖ I तथा III

Question Number : 104 Question Id : 54062622866 Question Type : MCQ Option Shuffling : Yes Is Question Mandatory : No Option Orientation : Vertical

Correct Marks : 1 Wrong Marks : 0.25

1787 में, लुई XVI ने अपने कुलीन सदस्यों को _____ शहर में निर्वासित कर दिया ।

Options :

1. ✖ ग्रेनोब्ल
2. ✔ ट्रोयेस
3. ✖ वर्साय
4. ✖ बैस्टिल

Question Number : 104 Question Id : 54062622866 Question Type : MCQ Option Shuffling : Yes Is Question Mandatory : No Option Orientation : Vertical

Correct Marks : 1 Wrong Marks : 0.25

In 1787, Louis XVI exiled its noble members to the town of _____.

Options :

1. ✖ Grenoble
2. ✔ Troyes
3. ✖ Versailles
4. ✖ Bastille

Question Number : 105 Question Id : 54062622867 Question Type : MCQ Option Shuffling : Yes Is Question Mandatory : No Option Orientation : Vertical

Correct Marks : 1 Wrong Marks : 0.25

Who was chosen President of the third estate in 1789?

Options :

1. ✔ Jean Sylvain Bailly
2. ✖ Jacques Necker
3. ✖ Abbe Sieyes
4. ✖ Marquis de Lafayette

Question Number : 105 Question Id : 54062622867 Question Type : MCQ Option Shuffling : Yes Is Question Mandatory : No Option Orientation : Vertical

Correct Marks : 1 Wrong Marks : 0.25

1789 में तृतीय एस्टेट का अध्यक्ष किसे चुना गया था?

Options :

1. ✔ जीन सिल्वेन बैली
2. ✖ जैक्स नेकर
3. ✖ एब्बे सियेस
4. ✖ मार्किस डी लाफायेट

Question Number : 106 Question Id : 54062622868 Question Type : MCQ Option Shuffling : Yes Is Question Mandatory : No Option Orientation : Vertical

Correct Marks : 1 Wrong Marks : 0.25

When was the Tennis Court Oath taken?

Options :

1. ✖ 18 June 1789
2. ✖ 19 June 1789
3. ✔ 20 June 1789
4. ✖ 21 June 1789

Question Number : 106 Question Id : 54062622868 Question Type : MCQ Option Shuffling : Yes Is Question Mandatory : No Option Orientation : Vertical

Correct Marks : 1 Wrong Marks : 0.25

टेनिस कोर्ट की शपथ कब ली गई थी?

Options :

1. ✖ 18 जून 1789
2. ✖ 19 जून 1789
3. ✔ 20 जून 1789
4. ✖ 21 जून 1789

Question Number : 107 Question Id : 54062622869 Question Type : MCQ Option Shuffling : Yes Is Question Mandatory : No Option Orientation : Vertical

Correct Marks : 1 Wrong Marks : 0.25

In the context of French Revolution, which of the following pairs of 'Event – Year' is correct?

I. Declaration of Rights of Man and Citizen – 1789
II. Reforms in Church and Clergy – 1787
III. First Anniversary of Fall of bastille – 1788

Options :

1. ✔ Only I
2. ✖ II and III
3. ✖ I and II
4. ✖ I and III

Question Number : 107 Question Id : 54062622869 Question Type : MCQ Option Shuffling : Yes Is Question Mandatory : No Option Orientation : Vertical

Correct Marks : 1 Wrong Marks : 0.25

फ्रांसीसी क्रांति के संदर्भ में, 'घटना – वर्ष' का निम्नलिखित में से कौन सा युग्म सही है?

I. मनुष्य और नागरिकों के अधिकारों की घोषणा – 1789
II. चर्च और पादरियों में सुधार – 1787
III. बैस्टिल के पतन की पहली वर्षगांठ – 1788

Options :

1. ✔ केवल I
2. ✖ II तथा III
3. ✖ I तथा II
4. ✖ I तथा III

Question Number : 108 Question Id : 54062622870 Question Type : MCQ Option Shuffling : Yes Is Question Mandatory : No Option Orientation : Vertical

Correct Marks : 1 Wrong Marks : 0.25

When was Delhi captured during the revolt of 1857?

Options :

1. ✔ 20 September 1857
2. ✖ 21 September 1857
3. ✖ 22 September 1857
4. ✖ 23 September 1857

Question Number : 108 Question Id : 54062622870 Question Type : MCQ Option Shuffling : Yes Is Question Mandatory : No Option Orientation : Vertical

Correct Marks : 1 Wrong Marks : 0.25

1857 के विद्रोह के दौरान दिल्ली पर कब कब्जा किया गया था?

Options :

1. ✔ 20 सितंबर 1857
2. ✖ 21 सितंबर 1857
3. ✖ 22 सितंबर 1857
4. ✖ 23 सितंबर 1857

Question Number : 109 Question Id : 54062622871 Question Type : MCQ Option Shuffling : Yes Is Question Mandatory : No Option Orientation : Vertical

Correct Marks : 1 Wrong Marks : 0.25

When was the kingdom of Awadh annexed by the British?

Options :

1. ✖ 1854

2. ✖ 1855
3. ✔ 1856
4. ✖ 1857

Question Number : 109 Question Id : 54062622871 Question Type : MCQ Option Shuffling : Yes Is Question Mandatory : No Option Orientation : Vertical

Correct Marks : 1 Wrong Marks : 0.25

अवध का राज्य अंग्रेजों द्वारा कब अधिग्रहण कर लिया गया था?

Options :

1. ✖ 1854
2. ✖ 1855
3. ✔ 1856
4. ✖ 1857

Question Number : 110 Question Id : 54062622872 Question Type : MCQ Option Shuffling : Yes Is Question Mandatory : No Option Orientation : Vertical

Correct Marks : 1 Wrong Marks : 0.25

"Give me blood and I shall give you freedom" statement was made by _____.

Options :

1. ✖ Bhagat Singh
2. ✔ Subhash Chandra Bose
3. ✖ Lala Lajpat Rai
4. ✖ Motilal Nehru

Question Number : 110 Question Id : 54062622872 Question Type : MCQ Option Shuffling : Yes Is Question Mandatory : No Option Orientation : Vertical

Correct Marks : 1 Wrong Marks : 0.25

“मुझे खून दो और मैं तुम्हें आजादी दूंगा” कथन _____ द्वारा दिया गया था।

Options :

1. ✖ भगत सिंह
2. ✔ सुभाष चंद्र बोस

3. ✖ लाला लाजपत राय
4. ✖ मोतीलाल नेहरू

Question Number : 111 Question Id : 54062622873 Question Type : MCQ Option Shuffling : Yes Is Question Mandatory : No Option Orientation : Vertical

Correct Marks : 1 Wrong Marks : 0.25

Who started the Khilafat Movement?

Options :

1. ✔ Mohammad Ali and Shaukat Ali
2. ✖ Mohammad Jinnah
3. ✖ Mahatma Gandhi
4. ✖ Hyder Ali

Question Number : 111 Question Id : 54062622873 Question Type : MCQ Option Shuffling : Yes Is Question Mandatory : No Option Orientation : Vertical

Correct Marks : 1 Wrong Marks : 0.25

खिलाफत आंदोलन किसने शुरू किया था?

Options :

1. ✔ मोहम्मद अली और शौकत अली
2. ✖ मोहम्मद जिन्नाह
3. ✖ महात्मा गांधी
4. ✖ हैदर अली

Question Number : 112 Question Id : 54062622874 Question Type : MCQ Option Shuffling : Yes Is Question Mandatory : No Option Orientation : Vertical

Correct Marks : 1 Wrong Marks : 0.25

The Salt Satyagraha of 1930 was part of which movement?

Options :

1. ✖ Quit India Movement
2. ✔ Civil Disobedience Movement
3. ✖ Non-Cooperation Movement

4. ✖ Kheda Satyagraha

Question Number : 112 Question Id : 54062622874 Question Type : MCQ Option Shuffling : Yes Is Question Mandatory : No Option Orientation : Vertical

Correct Marks : 1 Wrong Marks : 0.25

1930 का नमक सत्याग्रह किस आंदोलन का हिस्सा था?

Options :

1. ✖ भारत छोड़ो आंदोलन
2. ✔ सविनय अवज्ञा आन्दोलन
3. ✖ असहयोग आंदोलन
4. ✖ खेड़ा सत्याग्रह

Question Number : 113 Question Id : 54062622875 Question Type : MCQ Option Shuffling : Yes Is Question Mandatory : No Option Orientation : Vertical

Correct Marks : 1 Wrong Marks : 0.25

The _____ Act gave the British government the power to imprison any person without trial.

Options :

1. ✔ Rowlatt
2. ✖ Pitt's India
3. ✖ Bengal Regulation
4. ✖ Morley-Minto

Question Number : 113 Question Id : 54062622875 Question Type : MCQ Option Shuffling : Yes Is Question Mandatory : No Option Orientation : Vertical

Correct Marks : 1 Wrong Marks : 0.25

_____ अधिनियम ने ब्रिटिश सरकार को बिना किसी मुकदमे के किसी भी व्यक्ति को कैद करने की शक्ति प्रदान की थी।

Options :

1. ✔ रोलेट
2. ✖ पिट्स इंडिया
3. ✖ बंगाल विनियमन
4. ✖ मॉर्ले-मिंटो

Question Number : 114 Question Id : 54062622876 Question Type : MCQ Option Shuffling : Yes Is Question Mandatory : No Option Orientation : Vertical

Correct Marks : 1 Wrong Marks : 0.25

Who among the following did NOT participate in the First Round Table Conference?

I. Delegates from the Princely states
II. Indian National Congress

Options :

1. ✖ Only I
2. ✔ Only II
3. ✖ Both I and II
4. ✖ Neither I nor II

Question Number : 114 Question Id : 54062622876 Question Type : MCQ Option Shuffling : Yes Is Question Mandatory : No Option Orientation : Vertical

Correct Marks : 1 Wrong Marks : 0.25

निम्नलिखित में से किसने प्रथम गोलमेज सम्मेलन में भाग नहीं लिया?

I. रियासतों के प्रतिनिधि
II. भारतीय राष्ट्रीय कांग्रेस

Options :

1. ✖ केवल I
2. ✔ केवल II
3. ✖ I तथा II दोनों
4. ✖ ना ही I ना ही II

Question Number : 115 Question Id : 54062622877 Question Type : MCQ Option Shuffling : Yes Is Question Mandatory : No Option Orientation : Vertical

Correct Marks : 1 Wrong Marks : 0.25

Who was the leader of Khudai Khidmatgar Movement?

Options :

1. ✖ Vallabh Bhai Patel

2. ✔ Abdul Ghaffar Khan
3. ✖ Gopal Krishna Gokhale
4. ✖ Saifuddin Kitchlew

Question Number : 115 Question Id : 54062622877 Question Type : MCQ Option Shuffling : Yes Is Question Mandatory : No Option Orientation : Vertical

Correct Marks : 1 Wrong Marks : 0.25

खुदाई खिदमतगार आंदोलन के नेता कौन थे ?

Options :

1. ✖ वल्लभ भाई पटेल
2. ✔ अब्दुल गफ्फार खान
3. ✖ गोपाल कृष्ण गोखले
4. ✖ सैफुद्दीन किचलू

Question Number : 116 Question Id : 54062622878 Question Type : MCQ Option Shuffling : Yes Is Question Mandatory : No Option Orientation : Vertical

Correct Marks : 1 Wrong Marks : 0.25

Leadership to the Russian revolution was provided by which party?

I. Russian Social Democratic Labour Party
II. Communist Party of Russian Federation

Options :

1. ✔ Only I
2. ✖ Only II
3. ✖ Both I and II
4. ✖ Neither I nor II

Question Number : 116 Question Id : 54062622878 Question Type : MCQ Option Shuffling : Yes Is Question Mandatory : No Option Orientation : Vertical

Correct Marks : 1 Wrong Marks : 0.25

रूसी क्रांति के लिए नेतृत्व किस पार्टी द्वारा प्रदान किया गया था?

I. रूसी सोशल डेमोक्रेटिक लेबर पार्टी
II. रूसी संघ की कम्युनिस्ट पार्टी

Options :

1. ✔ केवल I
2. ✖ केवल II
3. ✖ I तथा II दोनों
4. ✖ ना ही I ना ही II

Question Number : 117 Question Id : 54062622879 Question Type : MCQ Option Shuffling : Yes Is Question Mandatory : No Option Orientation : Vertical

Correct Marks : 1 Wrong Marks : 0.25

Which revolution was sparked off due to shortage of bread in Petrograd?

Options :

1. ✖ January Revolution
2. ✔ February Revolution
3. ✖ March Revolution
4. ✖ April Revolution

Question Number : 117 Question Id : 54062622879 Question Type : MCQ Option Shuffling : Yes Is Question Mandatory : No Option Orientation : Vertical

Correct Marks : 1 Wrong Marks : 0.25

कौन सी क्रांति पेत्रोग्राद में बंद रोटी की कमी के कारण जन्मी थी?

Options :

1. ✖ जनवरी क्रांति
2. ✔ फरवरी क्रांति
3. ✖ मार्च क्रांति
4. ✖ अप्रैल क्रांति

Question Number : 118 Question Id : 54062622880 Question Type : MCQ Option Shuffling : Yes Is Question Mandatory : No Option Orientation : Vertical

Correct Marks : 1 Wrong Marks : 0.25

In the context of stages of the Russian revolution, which of the following statements is correct?

I. By the early 20th Century, middle-class intellectuals started participating.
II. In the 19th century, it only included the members of workers and peasants.

Options :

1. ✖ Only I
2. ✖ Only II
3. ✖ Both I and II
4. ✔ Neither I nor II

Question Number : 118 Question Id : 54062622880 Question Type : MCQ Option Shuffling : Yes Is Question Mandatory : No Option Orientation : Vertical

Correct Marks : 1 Wrong Marks : 0.25

रूसी क्रांति के चरणों के संदर्भ में, निम्नलिखित में से कौन सा कथन सही है?

I. 20वीं शताब्दी की शुरुआत तक, मध्यम वर्ग के बुद्धिजीवियों ने भाग लेना शुरू कर दिया था।
II. 19वीं सदी में, इसमें केवल मजदूरों और किसानों के सदस्य ही शामिल थे।

Options :

1. ✖ केवल I
2. ✖ केवल II
3. ✖ I तथा II दोनों
4. ✔ ना ही I ना ही II

Question Number : 119 Question Id : 54062622881 Question Type : MCQ Option Shuffling : Yes Is Question Mandatory : No Option Orientation : Vertical

Correct Marks : 1 Wrong Marks : 0.25

Who based his ideas on how to change the world on the scientific analysis of society through history?

Options :

1. ✖ Adam Smith
2. ✔ Karl Marx
3. ✖ Jeremy bentham
4. ✖ Leonid Brezhnev

Question Number : 119 Question Id : 54062622881 Question Type : MCQ Option Shuffling : Yes Is Question Mandatory : No Option Orientation : Vertical

Correct Marks : 1 Wrong Marks : 0.25

इतिहास के माध्यम से समाज के वैज्ञानिक विश्लेषण पर दुनिया को कैसे बदला जाए, इस पर अपने विचारों को किसने आधारित किया?

Options :

1. ✖ एडम स्मिथ
2. ✔ कार्ल मार्क्स
3. ✖ जेरेमी बेंथम
4. ✖ लियोनिद ब्रेज़नेव

Question Number : 120 Question Id : 54062622882 Question Type : MCQ Option Shuffling : Yes Is Question Mandatory : No Option Orientation : Vertical

Correct Marks : 1 Wrong Marks : 0.25

Which society destroys private ownership of means of production and in its place creates public ownership of means of production?

I. Socialist
II. Capitalist

Options :

1. ✔ Only I
2. ✖ Only II
3. ✖ Both I and II
4. ✖ Neither I nor II

Question Number : 120 Question Id : 54062622882 Question Type : MCQ Option Shuffling : Yes Is Question Mandatory : No Option Orientation : Vertical

Correct Marks : 1 Wrong Marks : 0.25

कौन सा समाज उत्पादन के साधनों के निजी स्वामित्व को नष्ट कर उसके स्थान पर उत्पादन के साधनों का सार्वजनिक स्वामित्व का सृजन करता है?

I. समाजवादी
II. पूंजीवादी

Options :

1. ✔ केवल I

2. ✖ केवल II
3. ✖ I तथा II दोनों
4. ✖ ना ही I ना ही II

Discipline2

Group Number :	7
Group Id :	540626890
Group Maximum Duration :	0
Group Minimum Duration :	0
Show Attended Group? :	No
Edit Attended Group? :	No
Break time :	0
Group Marks :	20
Is this Group for Examiner? :	No

Discipline2

Section Id :	5406261134
Section Number :	1
Section type :	Online
Mandatory or Optional :	Mandatory
Number of Questions :	20
Number of Questions to be attempted :	20
Section Marks :	20
Enable Mark as Answered Mark for Review and Clear Response :	Yes
Sub-Section Number :	1
Sub-Section Id :	5406261352
Question Shuffling Allowed :	Yes

Question Number : 121 Question Id : 54062622883 Question Type : MCQ Option Shuffling : Yes Is Question Mandatory : No Option Orientation : Vertical

Correct Marks : 1 Wrong Marks : 0.25

Robert Owen was the first to use the word Socialist in _____ in his Cooperative Magazine.

Options :

1. ✖ 1826
2. ✔ 1827
3. ✖ 1825
4. ✖ 1824

Question Number : 121 Question Id : 54062622883 Question Type : MCQ Option Shuffling : Yes Is Question Mandatory : No Option Orientation : Vertical

Correct Marks : 1 Wrong Marks : 0.25

रॉबर्ट ओवेन ने पहली बार _____ में अपनी कोओपरेटिव पत्रिका में समाजवादी शब्द का प्रयोग किया था।

Options :

1. ✖ 1826
2. ✔ 1827
3. ✖ 1825
4. ✖ 1824

Question Number : 122 Question Id : 54062622884 Question Type : MCQ Option Shuffling : Yes Is Question Mandatory : No Option Orientation : Vertical

Correct Marks : 1 Wrong Marks : 0.25

Name the person who believed that industries and factories could liberate mankind from poverty and ignorance.

Options :

1. ✖ Saint - Simon
2. ✖ Charles Fourier
3. ✖ Proudhon
4. ✔ Robert Owen

Question Number : 122 Question Id : 54062622884 Question Type : MCQ Option Shuffling : Yes Is Question Mandatory : No Option Orientation : Vertical

Correct Marks : 1 Wrong Marks : 0.25

उस व्यक्ति का नाम बताइए, जो यह मानता था कि उद्योग और कारखाने मानव जाति को गरीबी और अज्ञानता से मुक्त कर सकते हैं ।

Options :

1. ✖ संत - साइमन
2. ✖ चार्ल्स फूरियर
3. ✖ प्रुधों
4. ✔ रॉबर्ट ओवेन

Question Number : 123 Question Id : 54062622885 Question Type : MCQ Option Shuffling : Yes Is Question Mandatory : No Option Orientation : Vertical

Correct Marks : 1 Wrong Marks : 0.25

In the context of the Communist Manifesto, which of the following statements is correct?

I. It was written by Karl Marx and Charles Fourier and published in 1848.
II. Their thoughts became the basis of the struggle of the oppressed.

Options :

1. ✖ Only I
2. ✔ Only II
3. ✖ Both I and II
4. ✖ Neither I nor II

Question Number : 123 Question Id : 54062622885 Question Type : MCQ Option Shuffling : Yes Is Question Mandatory : No Option Orientation : Vertical

Correct Marks : 1 Wrong Marks : 0.25

कम्युनिस्ट घोषणापत्र के संदर्भ में, निम्नलिखित में से कौन सा कथन सही है?

I. यह कार्ल मार्क्स और चार्ल्स फूरियर द्वारा लिखा गया था और 1848 में प्रकाशित हुआ था।
II. उनके विचार शोषितों के संघर्ष का आधार बने।

Options :

1. ✖ केवल I
2. ✔ केवल II
3. ✖ I तथा II दोनों
4. ✖ ना ही I ना ही II

Question Number : 124 Question Id : 54062622886 Question Type : MCQ Option Shuffling : Yes Is Question Mandatory : No Option Orientation : Vertical

Correct Marks : 1 Wrong Marks : 0.25

Which ideology emphasized on state corporatism?

I. Fascism
II. Socialism

Options :

1. ✔ Only I
2. ✖ Only II
3. ✖ Both I and II
4. ✖ Neither I nor II

Question Number : 124 Question Id : 54062622886 Question Type : MCQ Option Shuffling : Yes Is Question Mandatory : No Option Orientation : Vertical

Correct Marks : 1 Wrong Marks : 0.25

राज्य निगमवाद पर किस विचारधारा ने जोर दिया?

I. फासीवाद
II. समाजवाद

Options :

1. ✔ केवल I
2. ✖ केवल II
3. ✖ I तथा II दोनों
4. ✖ ना ही I ना ही II

Question Number : 125 Question Id : 54062622887 Question Type : MCQ Option Shuffling : Yes Is Question Mandatory : No Option Orientation : Vertical

Correct Marks : 1 Wrong Marks : 0.25

Which of the following statements is correct in the context of dictatorial philosophy?

I. In 1920, Carl Schmitt criticized parliamentary democracy.
II. Martin Heidegger attacked Western modernism for technological violence

Options :

1. ✖ Only I
2. ✖ Only II
3. ✔ Both I and II
4. ✖ Neither I nor II

Question Number : 125 Question Id : 54062622887 Question Type : MCQ Option Shuffling : Yes Is Question Mandatory : No Option Orientation : Vertical

Correct Marks : 1 Wrong Marks : 0.25

तानाशाही दर्शन के संदर्भ में, निम्नलिखित में से कौन सा कथन सही है?

I. 1920 में, कार्ल श्मिट ने संसदीय लोकतंत्र की आलोचना की थी।
II. तकनीकी हिंसा के लिए मार्टिन हाइडेगर ने पश्चिमी आधुनिकतावाद पर हमला किया।

Options :

1. ✖ केवल I
2. ✖ केवल II
3. ✔ I तथा II दोनों
4. ✖ ना ही I ना ही II

Question Number : 126 Question Id : 54062622888 Question Type : MCQ Option Shuffling : Yes Is Question Mandatory : No Option Orientation : Vertical

Correct Marks : 1 Wrong Marks : 0.25

In _____ USA intervened in the World War I in support of Allies.

Options :

1. ✖ July 1917
2. ✔ April 1917
3. ✖ December 1917
4. ✖ February 1918

Question Number : 126 Question Id : 54062622888 Question Type : MCQ Option Shuffling : Yes Is Question Mandatory : No Option Orientation : Vertical

Correct Marks : 1 Wrong Marks : 0.25

यू.एस.ए. ने _____ में एलाईयस के सर्मथन में प्रथम विश्व युद्ध में हिस्सा लिया।

Options :

1. ✖ जुलाई 1917
2. ✔ अप्रैल 1917
3. ✖ दिसंबर 1917
4. ✖ फरवरी 1918

Question Number : 127 Question Id : 54062622889 Question Type : MCQ Option Shuffling : Yes Is Question Mandatory : No Option Orientation : Vertical

Correct Marks : 1 Wrong Marks : 0.25

The UN Charter was signed on 26 June 1945 by representatives of _____ countries.

Options :

1. ✔ 50
2. ✖ 45
3. ✖ 55
4. ✖ 59

Question Number : 127 Question Id : 54062622889 Question Type : MCQ Option Shuffling : Yes Is Question Mandatory : No Option Orientation : Vertical

Correct Marks : 1 Wrong Marks : 0.25

यू.एन. चार्टर पर 26 जून 1945 को _____ देशों के प्रतिनिधियों द्वारा हस्ताक्षर किए गए थे।

Options :

1. ✔ 50
2. ✖ 45
3. ✖ 55
4. ✖ 59

Question Number : 128 Question Id : 54062622890 Question Type : MCQ Option Shuffling : Yes Is Question Mandatory : No Option Orientation : Vertical

Correct Marks : 1 Wrong Marks : 0.25

In which year, did Germany formally declare that it was no longer bound by the military or disarmament clauses of the Treaty of Versailles?

Options :

1. ✖ 1934

2. ✔ 1935
3. ✖ 1936
4. ✖ 1937

Question Number : 128 Question Id : 54062622890 Question Type : MCQ Option Shuffling : Yes Is Question Mandatory : No Option Orientation : Vertical

Correct Marks : 1 Wrong Marks : 0.25

किस वर्ष में , जर्मनी ने औपचारिक रूप से घोषित किया था कि वह अब वर्साय की संधि के सैन्य या निरस्त्रीकरण खंड से बाध्य नहीं है?

Options :

1. ✖ 1934
2. ✔ 1935
3. ✖ 1936
4. ✖ 1937

Question Number : 129 Question Id : 54062622891 Question Type : MCQ Option Shuffling : Yes Is Question Mandatory : No Option Orientation : Vertical

Correct Marks : 1 Wrong Marks : 0.25

Which Provisions of the Treaty of Versailles is correct?

I. The Versailles Treaty redrew the border of Europe.
II. Article 231 held Germany guilty of war crimes.

Options :

1. ✖ Only I
2. ✖ Only II
3. ✔ Both I and II
4. ✖ Neither I nor II

Question Number : 129 Question Id : 54062622891 Question Type : MCQ Option Shuffling : Yes Is Question Mandatory : No Option Orientation : Vertical

Correct Marks : 1 Wrong Marks : 0.25

वर्साय की संधि के कौन से प्रावधान सही हैं?

I. वर्साय की संधि ने यूरोप की सीमा को फिर से नया रूप दिया।
II. अनुच्छेद 231 ने जर्मनी को युद्ध अपराधों का दोषी ठहराया।

Options :

1. ✖ केवल I
2. ✖ केवल II
3. ✔ I तथा II दोनों
4. ✖ ना ही I ना ही II

Question Number : 130 Question Id : 54062622892 Question Type : MCQ Option Shuffling : Yes Is Question Mandatory : No Option Orientation : Vertical

Correct Marks : 1 Wrong Marks : 0.25

Which of the following is correctly matched?

I. Soviet-German non-aggression pact – 1939
II. Treaty of Lausanne – 1923

Options :

1. ✖ Only I
2. ✖ Only II
3. ✔ Both I and II
4. ✖ Neither I nor II

Question Number : 130 Question Id : 54062622892 Question Type : MCQ Option Shuffling : Yes Is Question Mandatory : No Option Orientation : Vertical

Correct Marks : 1 Wrong Marks : 0.25

निम्नलिखित में से कौन सही सुमेलित है?

I. सोवियत-जर्मन गैर-आक्रामकता समझौता – 1939
II. लुसाने की संधि – 1923

Options :

1. ✖ केवल I
2. ✖ केवल II
3. ✔ I तथा II दोनों

4. ✖ ना ही I ना ही II

Question Number : 131 Question Id : 54062622893 Question Type : MCQ Option Shuffling : Yes Is Question Mandatory : No Option Orientation : Vertical

Correct Marks : 1 Wrong Marks : 0.25

The rotation of the Earth is responsible for _____.

I. the alternate periods of day and night
II. period of year

Options :

1. ✔ Only I
2. ✖ Only II
3. ✖ Both I and II
4. ✖ Neither I nor II

Question Number : 131 Question Id : 54062622893 Question Type : MCQ Option Shuffling : Yes Is Question Mandatory : No Option Orientation : Vertical

Correct Marks : 1 Wrong Marks : 0.25

पृथ्वी का घूर्णन _____ के लिए जिम्मेदार है।

I. दिन और रात की वैकल्पिक अवधि
II. वर्ष की अवधि

Options :

1. ✔ केवल I
2. ✖ केवल II
3. ✖ I तथा II दोनों
4. ✖ ना ही I ना ही II

Question Number : 132 Question Id : 54062622894 Question Type : MCQ Option Shuffling : Yes Is Question Mandatory : No Option Orientation : Vertical

Correct Marks : 1 Wrong Marks : 0.25

Which of the following planets comes under the category of ‘Jovian planet’?

Options :

1. ✔ Saturn
2. ✖ Venus
3. ✖ Mercury
4. ✖ Earth

Question Number : 132 Question Id : 54062622894 Question Type : MCQ Option Shuffling : Yes Is Question Mandatory : No Option Orientation : Vertical

Correct Marks : 1 Wrong Marks : 0.25

निम्नलिखित में से कौन सा ग्रह 'जोवियन ग्रह' की श्रेणी में आता है?

Options :

1. ✔ शनि
2. ✖ शुक्र
3. ✖ बुध
4. ✖ पृथ्वी

Question Number : 133 Question Id : 54062622895 Question Type : MCQ Option Shuffling : Yes Is Question Mandatory : No Option Orientation : Vertical

Correct Marks : 1 Wrong Marks : 0.25

The ‘Nife’ layer of the earth is composed of _____.

Options :

1. ✖ Sodium and Selenium
2. ✔ Nickel and Iron
3. ✖ Silicon and Iron
4. ✖ Iron and Tin

Question Number : 133 Question Id : 54062622895 Question Type : MCQ Option Shuffling : Yes Is Question Mandatory : No Option Orientation : Vertical

Correct Marks : 1 Wrong Marks : 0.25

पृथ्वी की 'नाइफ' परत _____ से बनी है।

Options :

1. ✖ सोडियम तथा सेलेनियम

2. ✔ निकेल तथा आयरन
3. ✖ सिलिकॉन तथा आयरन
4. ✖ लोहा तथा टिन

Question Number : 134 Question Id : 54062622896 Question Type : MCQ Option Shuffling : Yes Is Question Mandatory : No Option Orientation : Vertical

Correct Marks : 1 Wrong Marks : 0.25

Who was the first geologist to devise an instrument used to detect an earthquake?

Options :

1. ✖ George Cuvier
2. ✖ Alfred Wegener
3. ✖ E.R. Ward Neale
4. ✔ Chang Heng

Question Number : 134 Question Id : 54062622896 Question Type : MCQ Option Shuffling : Yes Is Question Mandatory : No Option Orientation : Vertical

Correct Marks : 1 Wrong Marks : 0.25

भूकंप का पता लगाने के लिए इस्तेमाल किए जाने वाले उपकरण को तैयार करने वाले पहले भूविज्ञानी कौन थे?

Options :

1. ✖ जॉर्ज कुवियर
2. ✖ अल्फ्रेड वेगेनर
3. ✖ ई.आर. वार्ड नीले
4. ✔ चेंग हेंग

Question Number : 135 Question Id : 54062622897 Question Type : MCQ Option Shuffling : Yes Is Question Mandatory : No Option Orientation : Vertical

Correct Marks : 1 Wrong Marks : 0.25

Which of the following characteristics of metamorphic rocks is correct?

I. These rocks are denser and harder than the original Protolith.
II. These rocks do not contain fossils.
III. Conglomerate is a type of metamorphic rock.

Options :

1. ✔ I and II
2. ✖ Only III
3. ✖ I, II and III
4. ✖ I and III

Question Number : 135 Question Id : 54062622897 Question Type : MCQ Option Shuffling : Yes Is Question Mandatory : No Option Orientation : Vertical

Correct Marks : 1 Wrong Marks : 0.25

कायांतरित चट्टानों की निम्नलिखित में से कौन सी विशेषता सही है?

I. ये चट्टानें मूल प्रोटोलिथ तुलना में सघन और सख्त हैं।
II. इन चट्टानों में जीवाश्म नहीं होते हैं।
III. कांग्लोमरेट एक प्रकार की कायांतरित चट्टान है।

Options :

1. ✔ I तथा II
2. ✖ केवल III
3. ✖ I, II तथा III
4. ✖ I तथा III

Question Number : 136 Question Id : 54062622898 Question Type : MCQ Option Shuffling : Yes Is Question Mandatory : No Option Orientation : Vertical

Correct Marks : 1 Wrong Marks : 0.25

Dew point temperature is expressed in _____.

I. Celsius
II. Fahrenheit

Options :

1. ✖ Only I
2. ✖ Only II
3. ✔ Both I and II
4. ✖ Neither I nor II

Question Number : 136 Question Id : 54062622898 Question Type : MCQ Option Shuffling : Yes Is Question Mandatory : No Option Orientation : Vertical

Correct Marks : 1 Wrong Marks : 0.25

ओसांक तापमान _____ में व्यक्त किया जाता है।

I. सेल्सियस
II. फ़ारेनहाइट

Options :

1. ✖ केवल I
2. ✖ केवल II
3. ✔ I तथा II दोनों
4. ✖ ना ही I ना ही II

Question Number : 137 Question Id : 54062622899 Question Type : MCQ Option Shuffling : Yes Is Question Mandatory : No Option Orientation : Vertical

Correct Marks : 1 Wrong Marks : 0.25

The swarms of rounded hummocks resulting from the deposition of glacial till are called _____.

Options :

1. ✖ Outwash
2. ✔ Drumlins
3. ✖ Moraines
4. ✖ Eskers

Question Number : 137 Question Id : 54062622899 Question Type : MCQ Option Shuffling : Yes Is Question Mandatory : No Option Orientation : Vertical

Correct Marks : 1 Wrong Marks : 0.25

हिमनदों के निक्षेपण से उत्पन्न गोल टेकरी के झुंड _____ कहलाते हैं।

Options :

1. ✖ हिमानी धौत
2. ✔ ड्रमलिन
3. ✖ हिमोढ़

4. ✖ एस्कर

Question Number : 138 Question Id : 54062622900 Question Type : MCQ Option Shuffling : Yes Is Question Mandatory : No Option Orientation : Vertical

Correct Marks : 1 Wrong Marks : 0.25

On which day, the sun's rays fall vertically over the tropic of cancer?

Options :

1. ✔ June 21
2. ✖ December 22
3. ✖ January 23
4. ✖ September 22

Question Number : 138 Question Id : 54062622900 Question Type : MCQ Option Shuffling : Yes Is Question Mandatory : No Option Orientation : Vertical

Correct Marks : 1 Wrong Marks : 0.25

कर्क रेखा पर सूर्य की किरणें किस दिन लंबवत् पड़ती हैं?

Options :

1. ✔ 21 जून
2. ✖ 22 दिसंबर
3. ✖ 23 जनवरी
4. ✖ 22 सितंबर

Question Number : 139 Question Id : 54062622901 Question Type : MCQ Option Shuffling : Yes Is Question Mandatory : No Option Orientation : Vertical

Correct Marks : 1 Wrong Marks : 0.25

Which of the following processes is involved in the hydrological cycle?

I. Evapotranspiration
II. Condensation
III. Sublimation

Options :

1. ✖ II and III

2. ✖ Only I
3. ✖ Only III
4. ✔ I and II

Question Number : 139 Question Id : 54062622901 Question Type : MCQ Option Shuffling : Yes Is Question Mandatory : No Option Orientation : Vertical

Correct Marks : 1 Wrong Marks : 0.25

निम्नलिखित में से कौन सी प्रक्रिया जलीय चक्र में शामिल है?

I. वाष्पोत्सर्जन
II. संघनन
III. ऊर्ध्वपातन

Options :

1. ✖ II तथा III
2. ✖ केवल I
3. ✖ केवल III
4. ✔ I तथा II

Question Number : 140 Question Id : 54062622902 Question Type : MCQ Option Shuffling : Yes Is Question Mandatory : No Option Orientation : Vertical

Correct Marks : 1 Wrong Marks : 0.25

Prayagraj city is situated at the confluence of which of the following rivers?

Options :

1. ✔ Ganga and Yamuna
2. ✖ Indus and Brahmaputra
3. ✖ Mahanadi and Narmada
4. ✖ Son and Kosi

Question Number : 140 Question Id : 54062622902 Question Type : MCQ Option Shuffling : Yes Is Question Mandatory : No Option Orientation : Vertical

Correct Marks : 1 Wrong Marks : 0.25

प्रयागराज शहर निम्नलिखित में से किस नदी के संगम पर स्थित है?

Options :

1. ✔ गंगा तथा यमुना
2. ✖ सिंधु तथा ब्रह्मपुत्र
3. ✖ महानदी तथा नर्मदा
4. ✖ सोन तथा कोसी

Discipline3

Group Number :	8
Group Id :	540626891
Group Maximum Duration :	0
Group Minimum Duration :	0
Show Attended Group? :	No
Edit Attended Group? :	No
Break time :	0
Group Marks :	20
Is this Group for Examiner? :	No

Discipline3

Section Id :	5406261135
Section Number :	1
Section type :	Online
Mandatory or Optional :	Mandatory
Number of Questions :	20
Number of Questions to be attempted :	20
Section Marks :	20
Enable Mark as Answered Mark for Review and Clear Response :	Yes
Sub-Section Number :	1
Sub-Section Id :	5406261353
Question Shuffling Allowed :	Yes

Question Number : 141 Question Id : 54062622903 Question Type : MCQ Option Shuffling : Yes Is Question Mandatory : No Option Orientation : Vertical

Correct Marks : 1 Wrong Marks : 0.25

Gangotri glacier is situated in which state/UT of India?

Options :

1. ✖ Himachal Pradesh
2. ✖ Jammu and Kashmir
3. ✔ Uttarakhand
4. ✖ Sikkim

Question Number : 141 Question Id : 54062622903 Question Type : MCQ Option Shuffling : Yes Is Question Mandatory : No Option Orientation : Vertical

Correct Marks : 1 Wrong Marks : 0.25

गंगोत्री ग्लेशियर भारत के किस राज्य/केंद्र शासित प्रदेश में स्थित है?

Options :

1. ✖ हिमाचल प्रदेश
2. ✖ जम्मू और कश्मीर
3. ✔ उत्तराखंड
4. ✖ सिक्किम

Question Number : 142 Question Id : 54062622904 Question Type : MCQ Option Shuffling : Yes Is Question Mandatory : No Option Orientation : Vertical

Correct Marks : 1 Wrong Marks : 0.25

Which of the following biosphere reserves of India is situated in Meghalaya?

Options :

1. ✖ Panna
2. ✖ Manas
3. ✔ Nokrek
4. ✖ Simlipal

Question Number : 142 Question Id : 54062622904 Question Type : MCQ Option Shuffling : Yes Is Question Mandatory : No Option Orientation : Vertical

Correct Marks : 1 Wrong Marks : 0.25

भारत का निम्नलिखित में से कौन सा जीवमंडल निचय मेघालय में स्थित है?

Options :

1. ✖ पन्ना
2. ✖ मानस
3. ✔ नोकरेक
4. ✖ सिमलीपाल

Question Number : 143 Question Id : 54062622905 Question Type : MCQ Option Shuffling : Yes Is Question Mandatory : No Option Orientation : Vertical

Correct Marks : 1 Wrong Marks : 0.25

The Deccan plateau is divided into three major regions. Which of the following is NOT one of those regions?

Options :

1. ✖ Maharashtra
2. ✖ Andhra Pradesh
3. ✔ Gujarat
4. ✖ Karnataka

Question Number : 143 Question Id : 54062622905 Question Type : MCQ Option Shuffling : Yes Is Question Mandatory : No Option Orientation : Vertical

Correct Marks : 1 Wrong Marks : 0.25

दक्कन का पठार तीन प्रमुख क्षेत्रों में विभाजित है। निम्नलिखित में से कौन उन क्षेत्रों में से एक नहीं है?

Options :

1. ✖ महाराष्ट्र
2. ✖ आंध्र प्रदेश
3. ✔ गुजरात
4. ✖ कर्नाटक

Question Number : 144 Question Id : 54062622906 Question Type : MCQ Option Shuffling : Yes Is Question Mandatory : No Option Orientation : Vertical

Correct Marks : 1 Wrong Marks : 0.25

The Shiwaliks are separated from the northern plains of India by the _____.

Options :

1. ✔ Himalayan Frontal Fault
2. ✖ Main Central Thrust
3. ✖ Main Boundary Thrust
4. ✖ Indus Suture

Question Number : 144 Question Id : 54062622906 Question Type : MCQ Option Shuffling : Yes Is Question Mandatory : No Option Orientation : Vertical

Correct Marks : 1 Wrong Marks : 0.25

शिवालिक, भारत के उत्तरी मैदानों से _____ द्वारा अलग पड़ते हैं।

Options :

1. ✔ हिमालयन फ्रंटल फॉल्ट
2. ✖ मुख्य केंद्रीय थ्रस्ट
3. ✖ मुख्य सीमा थ्रस्ट
4. ✖ सिंधु सिवनी

Question Number : 145 Question Id : 54062622907 Question Type : MCQ Option Shuffling : Yes Is Question Mandatory : No Option Orientation : Vertical

Correct Marks : 1 Wrong Marks : 0.25

Which of the following pairs of 'National park of India – State' is correct?

I. Silent Valley National Park – Karnataka
II. Bandhavgarh National Park – Rajasthan
III. Kanha National Park – Madhya Pradesh

Options :

1. ✖ I and II
2. ✔ Only III
3. ✖ I, II and III
4. ✖ Only I

Question Number : 145 Question Id : 54062622907 Question Type : MCQ Option Shuffling : Yes Is Question Mandatory : No Option

Orientation : Vertical

Correct Marks : 1 Wrong Marks : 0.25

'भारत का नेशनल पार्क – राज्य' का निम्नलिखित में से कौन सा युग्म सही है?

I. साइलेंट वैली नेशनल पार्क – कर्नाटक
II. बांधवगढ़ नेशनल पार्क – राजस्थान
III. कान्हा नेशनल पार्क – मध्य प्रदेश

Options :

1. ✖ I तथा II
2. ✔ केवल III
3. ✖ I, II तथा III
4. ✖ केवल I

Question Number : 146 Question Id : 54062622908 Question Type : MCQ Option Shuffling : Yes Is Question Mandatory : No Option Orientation : Vertical

Correct Marks : 1 Wrong Marks : 0.25

The dependency ratio is dependent on which of the following population compositions?

Options :

1. ✔ Age
2. ✖ Sex-ratio
3. ✖ Ethnicity
4. ✖ Education

Question Number : 146 Question Id : 54062622908 Question Type : MCQ Option Shuffling : Yes Is Question Mandatory : No Option Orientation : Vertical

Correct Marks : 1 Wrong Marks : 0.25

पराश्रितता अनुपात निम्नलिखित में से किस जनसंख्या संरचना पर निर्भर करता है?

Options :

1. ✔ उम्र
2. ✖ लिंग अनुपात
3. ✖ जातीयता
4. ✖ शिक्षा

Question Number : 147 Question Id : 54062622909 Question Type : MCQ Option Shuffling : Yes Is Question Mandatory : No Option Orientation : Vertical

Correct Marks : 1 Wrong Marks : 0.25

The optimum population theory is based on which of the following concepts?

I. Overpopulation
II. Underpopulation

Options :

1. ✖ Only I
2. ✖ Only II
3. ✔ Both I and II
4. ✖ Neither I nor II

Question Number : 147 Question Id : 54062622909 Question Type : MCQ Option Shuffling : Yes Is Question Mandatory : No Option Orientation : Vertical

Correct Marks : 1 Wrong Marks : 0.25

इष्टतम जनसंख्या सिद्धांत निम्नलिखित में से किस अवधारणा पर आधारित है?

I. अधिक जनसंख्या
II. अल्प जनसंख्या

Options :

1. ✖ केवल I
2. ✖ केवल II
3. ✔ I तथा II दोनों
4. ✖ ना ही I ना ही II

Question Number : 148 Question Id : 54062622910 Question Type : MCQ Option Shuffling : Yes Is Question Mandatory : No Option Orientation : Vertical

Correct Marks : 1 Wrong Marks : 0.25

Which of the following statements is correct regarding the unevenness of population distribution?

I. The distribution of population can be analysed on the basis of continents and countries.
II. South Asia is one of the major concentrations which accounts for about half of the world's population.

Options :

1. ✖ Only I
2. ✖ Only II
3. ✔ Both I and II
4. ✖ Neither I nor II

Question Number : 148 Question Id : 54062622910 Question Type : MCQ Option Shuffling : Yes Is Question Mandatory : No Option Orientation : Vertical

Correct Marks : 1 Wrong Marks : 0.25

जनसंख्या वितरण की असमानता के संदर्भ में निम्नलिखित में से कौन सा कथन सही है?

I. जनसंख्या वितरण को महाद्वीपों और देशों के आधार पर विश्लेषित किया जा सकता है।
II. दक्षिण एशिया प्रमुख संकेद्रण में से एक है जो दुनिया की आबादी का लगभग आधा हिस्सा है।

Options :

1. ✖ केवल I
2. ✖ केवल II
3. ✔ I तथा II दोनों
4. ✖ ना ही I ना ही II

Question Number : 149 Question Id : 54062622911 Question Type : MCQ Option Shuffling : Yes Is Question Mandatory : No Option Orientation : Vertical

Correct Marks : 1 Wrong Marks : 0.25

Which mineral resource is non-metallic in nature?

Options :

1. ✖ Manganese
2. ✖ Chromium
3. ✔ Asbestos
4. ✖ Platinum

Question Number : 149 Question Id : 54062622911 Question Type : MCQ Option Shuffling : Yes Is Question Mandatory : No Option

Orientation : Vertical

Correct Marks : 1 Wrong Marks : 0.25

निम्नलिखित में से कौन सा खनिज प्रकृति से अधातु है?

Options :

1. ✖ मैंगनीज
2. ✖ क्रोमियम
3. ✔ अदह
4. ✖ प्लैटिनम

Question Number : 150 Question Id : 54062622912 Question Type : MCQ Option Shuffling : Yes Is Question Mandatory : No Option Orientation : Vertical

Correct Marks : 1 Wrong Marks : 0.25

Which city is called the Cottonopolis of India?

Options :

1. ✖ Kolkata
2. ✔ Mumbai
3. ✖ Chennai
4. ✖ Patna

Question Number : 150 Question Id : 54062622912 Question Type : MCQ Option Shuffling : Yes Is Question Mandatory : No Option Orientation : Vertical

Correct Marks : 1 Wrong Marks : 0.25

भारत का कपासोपोलिस किस शहर को कहा जाता है?

Options :

1. ✖ कोलकाता
2. ✔ मुंबई
3. ✖ चेन्नई
4. ✖ पटना

Question Number : 151 Question Id : 54062622913 Question Type : MCQ Option Shuffling : Yes Is Question Mandatory : No Option Orientation : Vertical

Correct Marks : 1 Wrong Marks : 0.25

Which of the following combinations of factors determine the location of an industry?

Options :

1. ✔ Capital, Entrepreneur
2. ✖ Skilled labour, Greenery
3. ✖ Climate, Population
4. ✖ Rural settlement, Raw material

Question Number : 151 Question Id : 54062622913 Question Type : MCQ Option Shuffling : Yes Is Question Mandatory : No Option Orientation : Vertical

Correct Marks : 1 Wrong Marks : 0.25

निम्नलिखित में से कौन से कारकों का संयोजन किसी उद्योग की अवस्थिति का निर्धारण करता है?

Options :

1. ✔ राजधानी, उद्यमी
2. ✖ कुशल श्रम, हरियाली
3. ✖ जलवायु, जनसंख्या
4. ✖ ग्रामीण बस्ती, कच्चा माल

Question Number : 152 Question Id : 54062622914 Question Type : MCQ Option Shuffling : Yes Is Question Mandatory : No Option Orientation : Vertical

Correct Marks : 1 Wrong Marks : 0.25

Which state has the largest number of factories in India?

Options :

1. ✖ Maharashtra
2. ✖ Gujarat
3. ✖ Uttar Pradesh
4. ✔ Tamil Nadu

Question Number : 152 Question Id : 54062622914 Question Type : MCQ Option Shuffling : Yes Is Question Mandatory : No Option Orientation : Vertical

Correct Marks : 1 Wrong Marks : 0.25

भारत में सबसे अधिक फैक्ट्रियां किस राज्य में हैं?

Options :

1. ✖ महाराष्ट्र
2. ✖ गुजरात
3. ✖ उत्तर प्रदेश
4. ✔ तमिलनाडु

Question Number : 153 Question Id : 54062622915 Question Type : MCQ Option Shuffling : Yes Is Question Mandatory : No Option Orientation : Vertical

Correct Marks : 1 Wrong Marks : 0.25

The Lancashire region of Europe is known for which of the following industries?

Options :

1. ✔ Cotton textile
2. ✖ Electronics
3. ✖ Automobile
4. ✖ Sugar

Question Number : 153 Question Id : 54062622915 Question Type : MCQ Option Shuffling : Yes Is Question Mandatory : No Option Orientation : Vertical

Correct Marks : 1 Wrong Marks : 0.25

यूरोप का लंकाशायर क्षेत्र निम्नलिखित में से किस उद्योग के लिए जाना जाता है?

Options :

1. ✔ सूती कपड़ा
2. ✖ इलेक्ट्रानिक्स
3. ✖ ऑटोमोबाइल
4. ✖ चीनी

Question Number : 154 Question Id : 54062622916 Question Type : MCQ Option Shuffling : Yes Is Question Mandatory : No Option Orientation : Vertical

Correct Marks : 1 Wrong Marks : 0.25

Truck farming is associated with the cultivation of _____.

I. Vegetables
II. Fibre crops

Options :

1. ✔ Only I
2. ✖ Only II
3. ✖ Both I and II
4. ✖ Neither I nor II

Question Number : 154 Question Id : 54062622916 Question Type : MCQ Option Shuffling : Yes Is Question Mandatory : No Option Orientation : Vertical

Correct Marks : 1 Wrong Marks : 0.25

ट्रक कृषि _____ की खेती से जुड़ी है।

I. सब्जियां
II. रेशे वाली फसलें

Options :

1. ✔ सिर्फ I
2. ✖ केवल II
3. ✖ I और II दोनों
4. ✖ न तो I और न ही II

Question Number : 155 Question Id : 54062622917 Question Type : MCQ Option Shuffling : Yes Is Question Mandatory : No Option Orientation : Vertical

Correct Marks : 1 Wrong Marks : 0.25

Sugarcane is NOT grown in which of the following states of India?

Options :

1. ✖ Uttar Pradesh
2. ✔ Himachal Pradesh
3. ✖ Karnataka
4. ✖ Gujarat

Question Number : 155 Question Id : 54062622917 Question Type : MCQ Option Shuffling : Yes Is Question Mandatory : No Option

Orientation : Vertical

Correct Marks : 1 Wrong Marks : 0.25

भारत के निम्नलिखित में से किस राज्य में गन्ना नहीं उगाया जाता है?

Options :

1. ✖ उत्तर प्रदेश
2. ✔ हिमाचल प्रदेश
3. ✖ कर्नाटक
4. ✖ गुजरात

Question Number : 156 Question Id : 54062622918 Question Type : MCQ Option Shuffling : Yes Is Question Mandatory : No Option Orientation : Vertical

Correct Marks : 1 Wrong Marks : 0.25

All the given statements regarding maize cultivation are correct except:

Options :

1. ✖ It is essentially a warm and humid season crop.
2. ✖ A fertile, well-drained loamy soil is best for it.
3. ✖ It is very sensitive to excess water.
4. ✔ It requires a field having higher salinity.

Question Number : 156 Question Id : 54062622918 Question Type : MCQ Option Shuffling : Yes Is Question Mandatory : No Option Orientation : Vertical

Correct Marks : 1 Wrong Marks : 0.25

मक्के की खेती के संदर्भ में दिए गए सभी कथन सही हैं सिवाय:

Options :

1. ✖ यह अनिवार्य रूप है एक गर्म और उमस भरे मौसम की फसल।
2. ✖ इसके लिए अच्छी तरह से सूखी चिकिनी बलुई मृदा सबसे अच्छी है।
3. ✖ यह अतिरिक्त पानी के प्रति बहुत संवेदनशील है।
4. ✔ इसके लिए उच्च लवणता वाले क्षेत्र की आवश्यकता होती है।

Question Number : 157 Question Id : 54062622919 Question Type : MCQ Option Shuffling : Yes Is Question Mandatory : No Option Orientation : Vertical

Correct Marks : 1 Wrong Marks : 0.25

Asia's first export processing zone was setup in _____.

Options :

1. ✔ Kandla
2. ✖ Mumbai
3. ✖ Vishakapatnam
4. ✖ Chennai

Question Number : 157 Question Id : 54062622919 Question Type : MCQ Option Shuffling : Yes Is Question Mandatory : No Option Orientation : Vertical

Correct Marks : 1 Wrong Marks : 0.25

एशिया का पहला निर्यात प्रसंस्करण जोन _____ में बनाया गया था।

Options :

1. ✔ कांडला
2. ✖ मुम्बई
3. ✖ विशाखापत्तनम
4. ✖ चेन्नई

Question Number : 158 Question Id : 54062622920 Question Type : MCQ Option Shuffling : Yes Is Question Mandatory : No Option Orientation : Vertical

Correct Marks : 1 Wrong Marks : 0.25

Palmer index is associated with which of the following natural disasters?

Options :

1. ✖ Earthquake
2. ✖ Hurricanes
3. ✖ Volcano
4. ✔ Drought

Question Number : 158 Question Id : 54062622920 Question Type : MCQ Option Shuffling : Yes Is Question Mandatory : No Option Orientation : Vertical

Correct Marks : 1 Wrong Marks : 0.25

पामर इंडेक्स निम्नलिखित में से किस प्राकृतिक आपदा से संबंधित है?

Options :

1. ✖ भूकंप
2. ✖ हरिकेन
3. ✖ ज्वालामुखी विस्फोट
4. ✔ सूखा

Question Number : 159 Question Id : 54062622921 Question Type : MCQ Option Shuffling : Yes Is Question Mandatory : No Option Orientation : Vertical

Correct Marks : 1 Wrong Marks : 0.25

भोपाल गैस त्रासदी _____ का एक उदाहरण है।

Options :

1. ✖ जैविक आपदा
2. ✔ रासायनिक आपदा
3. ✖ तकनीकी आपदा
4. ✖ शारीरिक आपदा

Question Number : 159 Question Id : 54062622921 Question Type : MCQ Option Shuffling : Yes Is Question Mandatory : No Option Orientation : Vertical

Correct Marks : 1 Wrong Marks : 0.25

The Bhopal gas tragedy is an example of _____.

Options :

1. ✖ Biological disaster
2. ✔ Chemical disaster
3. ✖ Technological disaster
4. ✖ Physical disaster

Question Number : 160 Question Id : 54062622922 Question Type : MCQ Option Shuffling : Yes Is Question Mandatory : No Option Orientation : Vertical

Correct Marks : 1 Wrong Marks : 0.25

Which the following tropical cyclones falls under the category of weak cyclone?

I. Tropical depression
II. Tornado

Options :

1. ✔ Only I
2. ✖ Only II
3. ✖ Both I and II
4. ✖ Neither I nor II

Question Number : 160 Question Id : 54062622922 Question Type : MCQ Option Shuffling : Yes Is Question Mandatory : No Option Orientation : Vertical

Correct Marks : 1 Wrong Marks : 0.25

निम्न में से कौन सा उष्णकटिबंधीय चक्रवात कमजोर चक्रवात की श्रेणी में आता है?

I. उष्णकटिबंधीय अवसाद
II. टॉरनेडो

Options :

1. ✔ केवल I
2. ✖ केवल II
3. ✖ I तथा II दोनों
4. ✖ ना ही I ना ही II

Discipline4

Group Number :	9
Group Id :	540626892
Group Maximum Duration :	0
Group Minimum Duration :	0
Show Attended Group? :	No
Edit Attended Group? :	No
Break time :	0
Group Marks :	20
Is this Group for Examiner? :	No

Discipline4

Section Id :	5406261136
Section Number :	1
Section type :	Online
Mandatory or Optional :	Mandatory
Number of Questions :	20
Number of Questions to be attempted :	20
Section Marks :	20
Enable Mark as Answered Mark for Review and Clear Response :	Yes
Sub-Section Number :	1
Sub-Section Id :	5406261354
Question Shuffling Allowed :	Yes

Question Number : 161 Question Id : 54062622923 Question Type : MCQ Option Shuffling : Yes Is Question Mandatory : No Option Orientation : Vertical

Correct Marks : 1 Wrong Marks : 0.25

Which of the following causes can be held responsible for devastating floods of alluvial rivers?

I. Meandering courses of rivers
II. Large-scale of deforestation
III. Faulty agricultural practices

Options :

1. ✖ I and II
2. ✖ II and III
3. ✖ Only I
4. ✔ I, II and III

Question Number : 161 Question Id : 54062622923 Question Type : MCQ Option Shuffling : Yes Is Question Mandatory : No Option Orientation : Vertical

Correct Marks : 1 Wrong Marks : 0.25

जलोढ़ नदियों की विनाशकारी बाढ़ के लिए निम्नलिखित में से किस कारण को जिम्मेदार ठहराया जा सकता है?

I. नदियों के विसर्प भाग
II. बड़े पैमाने पर वनों की कटाई
III . दोषपूर्ण कृषि पद्धतियां

Options :

1. ✖ I तथा II
2. ✖ II तथा III
3. ✖ केवल I
4. ✔ I, II तथा III

Question Number : 162 Question Id : 54062622924 Question Type : MCQ Option Shuffling : Yes Is Question Mandatory : No Option Orientation : Vertical

Correct Marks : 1 Wrong Marks : 0.25

Chronic disguised unemployment is found in the _____.

I. Urban areas
II. Rural areas

Options :

1. ✖ Only I
2. ✔ Only II
3. ✖ Both I and II
4. ✖ Neither I nor II

Question Number : 162 Question Id : 54062622924 Question Type : MCQ Option Shuffling : Yes Is Question Mandatory : No Option Orientation : Vertical

Correct Marks : 1 Wrong Marks : 0.25

चिरकालिक प्रछन्न बेरोजगारी _____ में पाई जाती है।

I. शहरी क्षेत्रों
II. ग्रामीण क्षेत्रों

Options :

1. ✖ केवल I
2. ✔ केवल II

3. ✖ I तथा II दोनों
4. ✖ ना ही I ना ही II

Question Number : 163 Question Id : 54062622925 Question Type : MCQ Option Shuffling : Yes Is Question Mandatory : No Option Orientation : Vertical

Correct Marks : 1 Wrong Marks : 0.25

आय वितरण की असमानताओं को आम तौर पर _____ की सहायता से मापा जाता है।

Options :

1. ✖ फिलिप वक्र
2. ✖ एंगेल्स वक्र
3. ✔ लोरेंज वक्र
4. ✖ लाफ़र वक्र

Question Number : 163 Question Id : 54062622925 Question Type : MCQ Option Shuffling : Yes Is Question Mandatory : No Option Orientation : Vertical

Correct Marks : 1 Wrong Marks : 0.25

Inequalities of income distribution are generally measured with the help of _____.

Options :

1. ✖ Philip Curve
2. ✖ Engel's Curve
3. ✔ Lorenz Curve
4. ✖ Laffer Curve

Question Number : 164 Question Id : 54062622926 Question Type : MCQ Option Shuffling : Yes Is Question Mandatory : No Option Orientation : Vertical

Correct Marks : 1 Wrong Marks : 0.25

Which of the following expressions is correct with respect to the theory of purchase power parity? (D = price level in the domestic economy, e = exchange rate and F = price level in a foreign country)

Options :

1. ✖ $D \times F = e$
2. ✔ $D \times e = F$
3. ✖ $F \times e = D$

4. ✖ D – F = e

Question Number : 164 Question Id : 54062622926 Question Type : MCQ Option Shuffling : Yes Is Question Mandatory : No Option Orientation : Vertical

Correct Marks : 1 Wrong Marks : 0.25

क्रय शक्ति समता के सिद्धांत के संदर्भ में निम्नलिखित में से कौन सा व्यंजक सही है? (D = घरेलु अर्थव्यवस्था में मूल्य स्तर, e = विनिमय दर तथा F = एक विदेशी देश में मूल्य स्तर)

Options :

1. ✖ D × F = e
2. ✔ D × e = F
3. ✖ F × e = D
4. ✖ D – F = e

Question Number : 165 Question Id : 54062622927 Question Type : MCQ Option Shuffling : Yes Is Question Mandatory : No Option Orientation : Vertical

Correct Marks : 1 Wrong Marks : 0.25

Sen Index is associated with the measurement of which of the following social problems?

I. Poverty
II. Public health
III. Social disorganisation

Options :

1. ✔ Only I
2. ✖ II and III
3. ✖ I and III
4. ✖ I, II and III

Question Number : 165 Question Id : 54062622927 Question Type : MCQ Option Shuffling : Yes Is Question Mandatory : No Option Orientation : Vertical

Correct Marks : 1 Wrong Marks : 0.25

सेन इंडेक्स निम्नलिखित में से किस सामाजिक समस्या के मापन से संबंधित है?

I. गरीबी

II. सार्वजनिक स्वास्थ्य
III. सामाजिक अव्यवस्था

Options :

1. ✔ केवल I
2. ✖ II तथा III
3. ✖ I तथा III
4. ✖ I, II तथा III

Question Number : 166 Question Id : 54062622928 Question Type : MCQ Option Shuffling : Yes Is Question Mandatory : No Option Orientation : Vertical

Correct Marks : 1 Wrong Marks : 0.25

What is the main occupation of the producers in the primary sector of an economy?

Options :

1. ✖ Fishing
2. ✔ Agriculture
3. ✖ Mining
4. ✖ Quarrying

Question Number : 166 Question Id : 54062622928 Question Type : MCQ Option Shuffling : Yes Is Question Mandatory : No Option Orientation : Vertical

Correct Marks : 1 Wrong Marks : 0.25

किसी अर्थव्यवस्था के प्राथमिक क्षेत्रक में उत्पादकों का मुख्य व्यवसाय क्या होता है?

Options :

1. ✖ मत्स्यपालन
2. ✔ कृषि
3. ✖ खनन
4. ✖ आखनन

Question Number : 167 Question Id : 54062622929 Question Type : MCQ Option Shuffling : Yes Is Question Mandatory : No Option Orientation : Vertical

Correct Marks : 1 Wrong Marks : 0.25

All the non-banking financial institutions in India come under the category of _____.

I. Organised sector
II. Unorganised sector

Options :

1. ✖ Only I
2. ✖ Only II
3. ✔ Both I and II
4. ✖ Neither I nor II

Question Number : 167 Question Id : 54062622929 Question Type : MCQ Option Shuffling : Yes Is Question Mandatory : No Option Orientation : Vertical

Correct Marks : 1 Wrong Marks : 0.25

भारत में सभी गैर-बैंकिंग वित्तीय संस्थान _____ की श्रेणी में आते हैं।

I. संगठित क्षेत्र
II. असंगठित क्षेत्र

Options :

1. ✖ केवल I
2. ✖ केवल II
3. ✔ I तथा II दोनों
4. ✖ ना ही I ना ही II

Question Number : 168 Question Id : 54062622930 Question Type : MCQ Option Shuffling : Yes Is Question Mandatory : No Option Orientation : Vertical

Correct Marks : 1 Wrong Marks : 0.25

Which of the following is NOT an example of 'Development bank' in India?

Options :

1. ✖ Industrial Finance Corporation of India
2. ✖ State Financial Corporation
3. ✖ Industrial Development Bank of India
4. ✔ Indian Overseas Bank

Question Number : 168 Question Id : 54062622930 Question Type : MCQ Option Shuffling : Yes Is Question Mandatory : No Option Orientation : Vertical

Correct Marks : 1 Wrong Marks : 0.25

निम्नलिखित में से कौन भारत में 'विकास बैंक' का उदाहरण नहीं है?

Options :

1. ✖ भारतीय औद्योगिक वित्त निगम
2. ✖ राज्य वित्तीय निगम
3. ✖ भारतीय औद्योगिक विकास बैंक
4. ✔ इंडियन ओवरसीज बैंक

Question Number : 169 Question Id : 54062622931 Question Type : MCQ Option Shuffling : Yes Is Question Mandatory : No Option Orientation : Vertical

Correct Marks : 1 Wrong Marks : 0.25

Which of the following is an example of 'Near-Money' assets?

I. Treasury bills
II. Debentures

Options :

1. ✖ Only I
2. ✖ Only II
3. ✔ Both I and II
4. ✖ Neither I nor II

Question Number : 169 Question Id : 54062622931 Question Type : MCQ Option Shuffling : Yes Is Question Mandatory : No Option Orientation : Vertical

Correct Marks : 1 Wrong Marks : 0.25

निम्नलिखित में से कौन 'नियर-मनी' संपत्ति का एक उदाहरण है?

I. ट्रेज़री बिल
II. ऋणपत्रों

Options :

1. ✖ केवल I

2. ✖ केवल II
3. ✔ I तथा II दोनों
4. ✖ ना ही I ना ही II

Question Number : 170 Question Id : 54062622932 Question Type : MCQ Option Shuffling : Yes Is Question Mandatory : No Option Orientation : Vertical

Correct Marks : 1 Wrong Marks : 0.25

Which of the following statements regarding the Market Stabilisation Scheme (MSS) is correct?

I. It is an instrument for monetary management.
II. It was introduced in 2010.
III. It was introduced to with draw excess liquidity by selling short-dated government securities.

Options :

1. ✖ I and II
2. ✖ Only III
3. ✔ I and III
4. ✖ Only II

Question Number : 170 Question Id : 54062622932 Question Type : MCQ Option Shuffling : Yes Is Question Mandatory : No Option Orientation : Vertical

Correct Marks : 1 Wrong Marks : 0.25

बाजार स्थिरीकरण योजना (एम.एस.एस.) के संदर्भ में निम्नलिखित में से कौन सा कथन सही है?

I. यह मौद्रिक प्रबंधन के लिए एक उपकरण है।
II. इसे 2010 में पेश किया गया था।
III. इसे शॉर्ट-डेटेड सरकारी प्रतिभूतियों को बेचकर अतिरिक्त तरलता को आकर्षित करने के लिए पेश किया गया था।

Options :

1. ✖ I तथा II
2. ✖ केवल III
3. ✔ I तथा III
4. ✖ केवल II

Question Number : 171 Question Id : 54062622933 Question Type : MCQ Option Shuffling : Yes Is Question Mandatory : No Option Orientation : Vertical

Correct Marks : 1 Wrong Marks : 0.25

Which of the following pairs of 'Subjects containing in the list – List' are correct?

I. Fisheries– State list
II. Civil Procedure – Concurrent list
III. Railways – Union list

Options :

1. ✖ I and II
2. ✖ II and III
3. ✖ I and III
4. ✔ I, II and III

Question Number : 171 Question Id : 54062622933 Question Type : MCQ Option Shuffling : Yes Is Question Mandatory : No Option Orientation : Vertical

Correct Marks : 1 Wrong Marks : 0.25

'सूची में शामिल विषय – सूची' के निम्नलिखित युग्मों में से कौन सा सही है?

I. मत्स्यिकी – राज्य सूची
II. सिविल प्रक्रिया – समवर्ती सूची
III. रेलवे – संघ सूची

Options :

1. ✖ I तथा II
2. ✖ II तथा III
3. ✖ I तथा III
4. ✔ I, II तथा III

Question Number : 172 Question Id : 54062622934 Question Type : MCQ Option Shuffling : Yes Is Question Mandatory : No Option Orientation : Vertical

Correct Marks : 1 Wrong Marks : 0.25

निम्नलिखित में से किसके पास किसी अंतरराज्यिक नदी या नदी-दून के या उसमें जल के प्रयोग, वितरण या नियंत्रण के संबंध में किसी विवाद या परिवाद को न्यायनिर्णयन के लिए शक्ति है?

Options :

1. ✖ भारत का सर्वोच्च न्यायालय
2. ✖ संबंधित राज्यों के उच्च न्यायालय
3. ✔ संसद
4. ✖ राज्य का राज्यपाल

Question Number : 172 Question Id : 54062622934 Question Type : MCQ Option Shuffling : Yes Is Question Mandatory : No Option Orientation : Vertical

Correct Marks : 1 Wrong Marks : 0.25

Which of the following has the power to adjudicate on dispute or complaint with respect to the distribution or control of the water of any inter state river or river valley?

Options :

1. ✖ Supreme Court of India
2. ✖ High court of the concerned states
3. ✔ Parliament
4. ✖ Governor of the state

Question Number : 173 Question Id : 54062622935 Question Type : MCQ Option Shuffling : Yes Is Question Mandatory : No Option Orientation : Vertical

Correct Marks : 1 Wrong Marks : 0.25

The concept of federal system in India has been borrowed from the constitution of which of the following countries?

Options :

1. ✔ Canada
2. ✖ Australia
3. ✖ United States of America
4. ✖ Ireland

Question Number : 173 Question Id : 54062622935 Question Type : MCQ Option Shuffling : Yes Is Question Mandatory : No Option Orientation : Vertical

Correct Marks : 1 Wrong Marks : 0.25

भारत में संघीय व्यवस्था की अवधारणा निम्नलिखित में से किस देश के संविधान से ली गई है?

Options :

1. ✔ कनाडा
2. ✖ ऑस्ट्रेलिया
3. ✖ संयुक्त राज्य अमेरिका
4. ✖ आयरलैंड

Question Number : 174 Question Id : 54062622936 Question Type : MCQ Option Shuffling : Yes Is Question Mandatory : No Option Orientation : Vertical

Correct Marks : 1 Wrong Marks : 0.25

_____ constitutional amendment act is associated with Panchayati Raj system in India.

Options :

1. ✖ 88th
2. ✖ 83rd
3. ✖ 78th
4. ✔ 73rd

Question Number : 174 Question Id : 54062622936 Question Type : MCQ Option Shuffling : Yes Is Question Mandatory : No Option Orientation : Vertical

Correct Marks : 1 Wrong Marks : 0.25

_____ संविधान संशोधन अधिनियम भारत में पंचायती राज व्यवस्था से जुड़ा है।

Options :

1. ✖ 88वां
2. ✖ 83वां
3. ✖ 78वां
4. ✔ 73वां

Question Number : 175 Question Id : 54062622937 Question Type : MCQ Option Shuffling : Yes Is Question Mandatory : No Option Orientation : Vertical

Correct Marks : 1 Wrong Marks : 0.25

Which of the following pairs of 'Regional party – State' are correct?

I. Dravida Munnetra Kazhagam – Tamil Nadu

II. Aam Aadmi Party – Delhi
III. Shiromani Akali Dal – Haryana

Options :

1. ✔ I and II
2. ✖ II and III
3. ✖ I and III
4. ✖ I, II and III

Question Number : 175 Question Id : 54062622937 Question Type : MCQ Option Shuffling : Yes Is Question Mandatory : No Option Orientation : Vertical

Correct Marks : 1 Wrong Marks : 0.25

क्षेत्रीय दल – पार्टी का निम्नलिखित में से कौन सा युग्म सही है?

I. द्रविड़ मुन्नेत्र कड़गम – तमिलनाडु
II. आम आदमी पार्टी – दिल्ली
III. शिरोमणि अकाली दल – हरियाणा

Options :

1. ✔ I तथा II
2. ✖ II तथा III
3. ✖ I तथा III
4. ✖ I, II तथा III

Question Number : 176 Question Id : 54062622938 Question Type : MCQ Option Shuffling : Yes Is Question Mandatory : No Option Orientation : Vertical

Correct Marks : 1 Wrong Marks : 0.25

Which state of India has the largest legislature?

Options :

1. ✖ Karnataka
2. ✖ Andhra Pradesh
3. ✔ Uttar Pradesh
4. ✖ Madhya Pradesh

Question Number : 176 Question Id : 54062622938 Question Type : MCQ Option Shuffling : Yes Is Question Mandatory : No Option Orientation : Vertical

Correct Marks : 1 Wrong Marks : 0.25

भारत के किस राज्य में सबसे बड़ा विधानमंडल है?

Options :

1. ✖ कर्नाटक
2. ✖ आंध्र प्रदेश
3. ✔ उत्तर प्रदेश
4. ✖ मध्य प्रदेश

Question Number : 177 Question Id : 54062622939 Question Type : MCQ Option Shuffling : Yes Is Question Mandatory : No Option Orientation : Vertical

Correct Marks : 1 Wrong Marks : 0.25

Article 243ZA of the Indian constitution deals with the election of the_____.

Options :

1. ✔ municipalities
2. ✖ parliament
3. ✖ gram panchayats
4. ✖ President

Question Number : 177 Question Id : 54062622939 Question Type : MCQ Option Shuffling : Yes Is Question Mandatory : No Option Orientation : Vertical

Correct Marks : 1 Wrong Marks : 0.25

भारतीय संविधान का अनुच्छेद 243ZA _____ के निर्वाचन से संबंधित है।

Options :

1. ✔ नगर पालिकाओं
2. ✖ संसद्
3. ✖ ग्राम पंचायतें
4. ✖ राष्ट्रपति

Question Number : 178 Question Id : 54062622940 Question Type : MCQ Option Shuffling : Yes Is Question Mandatory : No Option Orientation : Vertical

Correct Marks : 1 Wrong Marks : 0.25

Which of the following is a difference between a political party and a pressure group?

Options :

1. ✔ Pressure groups do not seek power while a political party does.
2. ✖ Pressure groups are responsible for policy-making while a political party is not.
3. ✖ Pressure groups are important link between individual, state and society while a political party is not associated with such linkage.
4. ✖ Pressure groups form connection between social process and policy makers and political party does not.

Question Number : 178 Question Id : 54062622940 Question Type : MCQ Option Shuffling : Yes Is Question Mandatory : No Option Orientation : Vertical

Correct Marks : 1 Wrong Marks : 0.25

निम्नलिखित में से कौन एक राजनीतिक दल और एक दबाव समूह के बीच का अंतर है ?

Options :

1. ✔ दबाव समूह सत्ता की तलाश नहीं करते जबकि एक राजनीतिक दल करता है।
2. ✖ दबाव समूह नीति-निर्माण के लिए जिम्मेदार होते हैं जबकि राजनीतिक दल नहीं।
3. ✖ दबाव समूह व्यक्ति, राज्य और समाज के बीच महत्वपूर्ण कड़ी होते हैं जबकि एक राजनीतिक दल इस तरह के जुड़ाव से जुड़ा नहीं होता है।
4. ✖ दबाव समूह सामाजिक प्रक्रिया और नीति निर्माताओं के बीच संबंध बनाते हैं और राजनीतिक दल यह नहीं करते हैं।

Question Number : 179 Question Id : 54062622941 Question Type : MCQ Option Shuffling : Yes Is Question Mandatory : No Option Orientation : Vertical

Correct Marks : 1 Wrong Marks : 0.25

What is the election symbol for Nationalist Congress Party?

Options :

1. ✖ Scooter
2. ✔ Clock
3. ✖ Pen
4. ✖ Pencil

Question Number : 179 Question Id : 54062622941 Question Type : MCQ Option Shuffling : Yes Is Question Mandatory : No Option Orientation : Vertical

Correct Marks : 1 Wrong Marks : 0.25

राष्ट्रवादी कांग्रेस पार्टी का चुनाव चिन्ह क्या है?

Options :

1. ✖ स्कूटर
2. ✔ घड़ी
3. ✖ पेन
4. ✖ पेंसिल

Question Number : 180 Question Id : 54062622942 Question Type : MCQ Option Shuffling : Yes Is Question Mandatory : No Option Orientation : Vertical

Correct Marks : 1 Wrong Marks : 0.25

Which of the following states in India has a Panchayati Raj system?

Options :

1. ✖ Nagaland
2. ✖ Meghalaya
3. ✖ Mizoram
4. ✔ Tripura

Question Number : 180 Question Id : 54062622942 Question Type : MCQ Option Shuffling : Yes Is Question Mandatory : No Option Orientation : Vertical

Correct Marks : 1 Wrong Marks : 0.25

भारत में निम्नलिखित में से किस राज्य में पंचायती राज व्यवस्था है?

Options :

1. ✖ नगालैंड
2. ✖ मेघालय
3. ✖ मिजोरम
4. ✔ त्रिपुरा

Discipline5

Group Number : 10

Group Id : 540626893

Group Maximum Duration :	0
Group Minimum Duration :	0
Show Attended Group? :	No
Edit Attended Group? :	No
Break time :	0
Group Marks :	10
Is this Group for Examiner? :	No

Discipline5

Section Id :	5406261137
Section Number :	1
Section type :	Online
Mandatory or Optional :	Mandatory
Number of Questions :	10
Number of Questions to be attempted :	10
Section Marks :	10
Enable Mark as Answered Mark for Review and Clear Response :	Yes
Sub-Section Number :	1
Sub-Section Id :	5406261355
Question Shuffling Allowed :	Yes

Question Number : 181 Question Id : 54062622943 Question Type : MCQ Option Shuffling : Yes Is Question Mandatory : No Option Orientation : Vertical

Correct Marks : 1 Wrong Marks : 0.25

The Gram Panchayat is headed by the_____.

Options :

1. ✖ Councillor
2. ✖ District collector
3. ✔ Pradhan
4. ✖ Governor

Question Number : 181 Question Id : 54062622943 Question Type : MCQ Option Shuffling : Yes Is Question Mandatory : No Option Orientation : Vertical

Correct Marks : 1 Wrong Marks : 0.25

ग्राम पंचायत का नेतृत्व _____ द्वारा किया जाता है ।

Options :

1. ✖ पार्षद
2. ✖ जिला कलेक्टर
3. ✔ प्रधान
4. ✖ राज्यपाल

Question Number : 182 Question Id : 54062622944 Question Type : MCQ Option Shuffling : Yes Is Question Mandatory : No Option Orientation : Vertical

Correct Marks : 1 Wrong Marks : 0.25

Which of the following statements regarding municipal corporation is NOT correct?

Options :

1. ✔ A municipal corporation has five authorities
2. ✖ Municipal corporation has a corporation council headed by a mayor
3. ✖ Municipal corporation has standing committees to deal with various activities like health, education etc
4. ✖ Municipal corporation is established by the act of state government for the big cities of states

Question Number : 182 Question Id : 54062622944 Question Type : MCQ Option Shuffling : Yes Is Question Mandatory : No Option Orientation : Vertical

Correct Marks : 1 Wrong Marks : 0.25

नगर निगम के संदर्भ में निम्नलिखित में से कौन सा कथन सही नहीं है?

Options :

1. ✔ एक नगर निगम में पाँच प्राधिकरण होते हैं
2. ✖ नगर निगम में एक महापौर की अध्यक्षता में एक निगम परिषद होती है
3. ✖ नगर निगम के पास स्वास्थ्य, शिक्षा आदि विभिन्न गतिविधियों से निपटने के लिए स्थायी समितियाँ होती हैं।
4. ✖ राज्यों के बड़े शहरों के लिए राज्य सरकार के अधिनियम द्वारा नगर निगम की स्थापना की जाती है

Question Number : 183 Question Id : 54062622945 Question Type : MCQ Option Shuffling : Yes Is Question Mandatory : No Option Orientation : Vertical

Correct Marks : 1 Wrong Marks : 0.25

Which of the following is NOT a type of urban local body found in India?

Options :

1. ✖ Town Area Committee
2. ✖ Municipalities
3. ✖ Cantonment Boards
4. ✔ Public Undertakings Committee

Question Number : 183 Question Id : 54062622945 Question Type : MCQ Option Shuffling : Yes Is Question Mandatory : No Option Orientation : Vertical

Correct Marks : 1 Wrong Marks : 0.25

निम्नलिखित में से कौन भारत में पाया जाने वाला एक प्रकार का शहरी स्थानीय निकाय नहीं है?

Options :

1. ✖ टाउन एरिया कमेटी
2. ✖ नगर पालिकाओं
3. ✖ छावनी बोर्ड
4. ✔ सार्वजनिक उपक्रम समिति

Question Number : 184 Question Id : 54062622946 Question Type : MCQ Option Shuffling : Yes Is Question Mandatory : No Option Orientation : Vertical

Correct Marks : 1 Wrong Marks : 0.25

Panchayat democracy in Nepal was launched by King Mahendra. He was the son of _____.

Options :

1. ✖ King Gyanendra
2. ✖ King Narayan
3. ✔ King Tribhuvan
4. ✖ King Birendra

Question Number : 184 Question Id : 54062622946 Question Type : MCQ Option Shuffling : Yes Is Question Mandatory : No Option Orientation : Vertical

Correct Marks : 1 Wrong Marks : 0.25

नेपाल में पंचायत लोकतंत्र की शुरुआत राजा महेंद्र के द्वारा की गयी। वह _____ के पुत्र थे।

Options :

1. ✖ राजा ज्ञानेंद्र
2. ✖ राजा नारायण
3. ✔ राजा त्रिभुवन
4. ✖ राजा बीरेंद्र

Question Number : 185 Question Id : 54062622947 Question Type : MCQ Option Shuffling : Yes Is Question Mandatory : No Option Orientation : Vertical

Correct Marks : 1 Wrong Marks : 0.25

Which of the following statements regarding Bolivia's political struggle is correct?

I. The protest against water privatisation in Bolivia was supported by a socialist party.
II. The popular struggle in Bolivia was about one specific policy.

Options :

1. ✖ Only I
2. ✖ Only II
3. ✔ Both I and II
4. ✖ Neither I nor II

Question Number : 185 Question Id : 54062622947 Question Type : MCQ Option Shuffling : Yes Is Question Mandatory : No Option Orientation : Vertical

Correct Marks : 1 Wrong Marks : 0.25

बोलीविया के राजनीतिक संघर्ष के संदर्भ में निम्नलिखित में से कौन सा कथन सही है?

I. बोलिविया में पानी के निजीकरण के विरोध को एक समाजवादी पार्टी ने समर्थन दिया था।
II. बोलीविया में लोकप्रिय संघर्ष एक विशिष्ट नीति के बारे में था।

Options :

1. ✖ केवल I
2. ✖ केवल II
3. ✔ I तथा II दोनों
4. ✖ ना ही I ना ही II

Question Number : 186 Question Id : 54062622948 Question Type : MCQ Option Shuffling : Yes Is Question Mandatory : No Option Orientation : Vertical

Correct Marks : 1 Wrong Marks : 0.25

The Fundamental Rights Sub-Committee of the constituent assembly of India was headed by _____.

Options :

1. ✖ Mahavir Tyagi
2. ✔ J. B. Kripalani
3. ✖ G.V. Malvankar
4. ✖ S. K. Patil

Question Number : 186 Question Id : 54062622948 Question Type : MCQ Option Shuffling : Yes Is Question Mandatory : No Option Orientation : Vertical

Correct Marks : 1 Wrong Marks : 0.25

भारत की संविधान सभा की मौलिक अधिकार उप-समिति की अध्यक्षता _____ ने की थी।

Options :

1. ✖ महावीर त्यागी
2. ✔ जे.बी. कृपलानी
3. ✖ जी.वी. मालवणकर
4. ✖ एस.के. पाटिल

Question Number : 187 Question Id : 54062622949 Question Type : MCQ Option Shuffling : Yes Is Question Mandatory : No Option Orientation : Vertical

Correct Marks : 1 Wrong Marks : 0.25

Under Article 359, the President is authorised to suspend, by order, the right to move any court for the enforcement of Fundamental Rights EXCEPT:

I. Article 20
II. Article 21

Options :

1. ✖ Only I
2. ✖ Only II
3. ✔ Both I and II

4. ✖ Neither I nor II

Question Number : 187 Question Id : 54062622949 Question Type : MCQ Option Shuffling : Yes Is Question Mandatory : No Option Orientation : Vertical

Correct Marks : 1 Wrong Marks : 0.25

अनुच्छेद 359 के तहत, राष्ट्रपति को आदेश द्वारा, मूल अधिकारों के प्रवर्तन के लिए किसी भी अदालत में जाने का अधिकार निलंबित करने का अधिकार है, सिवाय:

I. अनुच्छेद 20
II. अनुच्छेद 21

Options :

1. ✖ केवल I
2. ✖ केवल II
3. ✔ I तथा II दोनों
4. ✖ ना ही I ना ही II

Question Number : 188 Question Id : 54062622950 Question Type : MCQ Option Shuffling : Yes Is Question Mandatory : No Option Orientation : Vertical

Correct Marks : 1 Wrong Marks : 0.25

The resolution to impeach the President of India requires the majority of not less than _____ of the total membership of that house of Parliament.

Options :

1. ✖ one-third
2. ✔ two-third
3. ✖ one-fourth
4. ✖ half

Question Number : 188 Question Id : 54062622950 Question Type : MCQ Option Shuffling : Yes Is Question Mandatory : No Option Orientation : Vertical

Correct Marks : 1 Wrong Marks : 0.25

भारत के राष्ट्रपति पर महाभियोग चलाने के प्रस्ताव के लिए संसद के उस सदन की कुल सदस्यता के कम से कम _____ के बहुमत की आवश्यकता होती है ।

Options :

1. ✖ एक तिहाई
2. ✔ दो तीहाई
3. ✖ एक चौथाई
4. ✖ आधा

Question Number : 189 Question Id : 54062622951 Question Type : MCQ Option Shuffling : Yes Is Question Mandatory : No Option Orientation : Vertical

Correct Marks : 1 Wrong Marks : 0.25

Which schedule of the Indian constitution deals with the powers, authority and responsibilities of municipalities?

Options :

1. ✖ Tenth
2. ✖ Eighth
3. ✖ Eleventh
4. ✔ Twelfth

Question Number : 189 Question Id : 54062622951 Question Type : MCQ Option Shuffling : Yes Is Question Mandatory : No Option Orientation : Vertical

Correct Marks : 1 Wrong Marks : 0.25

भारतीय संविधान की कौन सी अनुसूची नगर पालिकाओं की शक्तियों, प्राधिकार और उत्तरदायित्व से संबंधित है?

Options :

1. ✖ दसवीं
2. ✖ आठवीँ
3. ✖ ग्यारहवीं
4. ✔ बारहवीं

Question Number : 190 Question Id : 54062622952 Question Type : MCQ Option Shuffling : Yes Is Question Mandatory : No Option Orientation : Vertical

Correct Marks : 1 Wrong Marks : 0.25

Which of the following is NOT a fundamental right?

Options :

1. ✖ Right of equality
2. ✖ Right to freedom
3. ✖ Right against exploitation
4. ✔ Right to property

Question Number : 190 Question Id : 54062622952 Question Type : MCQ Option Shuffling : Yes Is Question Mandatory : No Option Orientation : Vertical

Correct Marks : 1 Wrong Marks : 0.25

निम्नलिखित में से कौन मूल अधिकार नहीं है?

Options :

1. ✖ समता का अधिकार
2. ✖ स्वातंत्र्य अधिकार
3. ✖ शोषण के विरुद्ध अधिकार
4. ✔ संपत्ति का अधिकार

Teaching Methodology

Group Number :	11
Group Id :	540626894
Group Maximum Duration :	0
Group Minimum Duration :	120
Show Attended Group? :	No
Edit Attended Group? :	No
Break time :	0
Group Marks :	10
Is this Group for Examiner? :	No

Teaching Methodology

Section Id :	5406261138
Section Number :	1

Section type :	Online
Mandatory or Optional :	Mandatory
Number of Questions :	10
Number of Questions to be attempted :	10
Section Marks :	10
Enable Mark as Answered Mark for Review and Clear Response :	Yes
Sub-Section Number :	1
Sub-Section Id :	5406261356
Question Shuffling Allowed :	Yes

Question Number : 191 Question Id : 54062622953 Question Type : MCQ Option Shuffling : Yes Is Question Mandatory : No Option Orientation : Vertical

Correct Marks : 1 Wrong Marks : 0.25

Growth depends upon both maturation and learning. Which of the following statement is NOT correct?

I. Learning refers to changes in the muscles and the nervous system as a result of time.
II. Maturation refers to the action of appropriate environmental forces operating on the individual.

Options :

1. ✖ Only I
2. ✖ Only II
3. ✔ Both I and II
4. ✖ Neither I nor II

Question Number : 191 Question Id : 54062622953 Question Type : MCQ Option Shuffling : Yes Is Question Mandatory : No Option Orientation : Vertical

Correct Marks : 1 Wrong Marks : 0.25

विकास परिपक्वता और अधिगम दोनों पर निर्भर करता है। निम्नलिखित में से कौन सा कथन सही नहीं है?

I. अधिगम समय के परिणामस्वरूप मांसपेशियों और तंत्रिका तंत्र में परिवर्तन को संदर्भित करता है।
II. परिपक्वता व्यक्ति पर कार्य करने वाली उपयुक्त पर्यावरणीय शक्तियों की कार्रवाई को संदर्भित करती है।

Options :

1. ✖ केवल I
2. ✖ केवल II

3. ✔ I तथा II दोनों
4. ✖ ना ही I ना ही II

Question Number : 192 Question Id : 54062622954 Question Type : MCQ Option Shuffling : Yes Is Question Mandatory : No Option Orientation : Vertical

Correct Marks : 1 Wrong Marks : 0.25

Emotions have some effects on the developing individual. Which of the following are those effects?

I. They influence adjustment in the society.
II. They work as motivators of our behaviour.

Options :

1. ✖ Only I
2. ✖ Only II
3. ✔ Both I and II
4. ✖ Neither I nor II

Question Number : 192 Question Id : 54062622954 Question Type : MCQ Option Shuffling : Yes Is Question Mandatory : No Option Orientation : Vertical

Correct Marks : 1 Wrong Marks : 0.25

व्यक्ति के विकास पर भावनाओं का कुछ प्रभाव पड़ता है। निम्नलिखित में से कौन से वह प्रभाव हैं?

I. वे समाज में समायोजन को प्रभावित करते हैं।
II. वे हमारे व्यवहार के प्रेरक के रूप में कार्य करते हैं।

Options :

1. ✖ केवल I
2. ✖ केवल II
3. ✔ I तथा II दोनों
4. ✖ ना ही I ना ही II

Question Number : 193 Question Id : 54062622955 Question Type : MCQ Option Shuffling : Yes Is Question Mandatory : No Option Orientation : Vertical

Correct Marks : 1 Wrong Marks : 0.25

Which of the following is NOT an assistive device for children with low vision?

Options :

1. ✖ Braille
2. ✔ Speech Synthesiser
3. ✖ Magnifiers
4. ✖ Spectacles

Question Number : 193 Question Id : 54062622955 Question Type : MCQ Option Shuffling : Yes Is Question Mandatory : No Option Orientation : Vertical

Correct Marks : 1 Wrong Marks : 0.25

निम्नलिखित में से कौन कम दृष्टि वाले बच्चों के लिए सहायक उपकरण नहीं है?

Options :

1. ✖ ब्रेल
2. ✔ स्पीच सिंथेसाइज़र
3. ✖ आवर्धक
4. ✖ चश्मा

Question Number : 194 Question Id : 54062622956 Question Type : MCQ Option Shuffling : Yes Is Question Mandatory : No Option Orientation : Vertical

Correct Marks : 1 Wrong Marks : 0.25

Which article of the Indian constitution ensures equality of opportunity in matters of public employment?

Options :

1. ✔ 16
2. ✖ 15(3)
3. ✖ 14
4. ✖ 20

Question Number : 194 Question Id : 54062622956 Question Type : MCQ Option Shuffling : Yes Is Question Mandatory : No Option Orientation : Vertical

Correct Marks : 1 Wrong Marks : 0.25

भारतीय संविधान का कौन सा अनुच्छेद लोक नियोजन के विषय में अवसर की समता सुनिश्चित करता है?

Options :

1. ✔ 16
2. ✖ 15(3)
3. ✖ 14
4. ✖ 20

Question Number : 195 Question Id : 54062622957 Question Type : MCQ Option Shuffling : Yes Is Question Mandatory : No Option Orientation : Vertical

Correct Marks : 1 Wrong Marks : 0.25

Which of the following statement shows gender sensitivity?

I. In certain cultures, women are not allowed to drive.
II. Providing separate toilets for boys and girls.

Options :

1. ✖ Only I
2. ✔ Only II
3. ✖ Both I and II
4. ✖ Neither I nor II

Question Number : 195 Question Id : 54062622957 Question Type : MCQ Option Shuffling : Yes Is Question Mandatory : No Option Orientation : Vertical

Correct Marks : 1 Wrong Marks : 0.25

निम्नलिखित में से कौन सा कथन लिंग संवेदनशीलता को दर्शाता है?

I. कुछ संस्कृतियों में, महिलाओं को गाड़ी चलाने की अनुमति नहीं है।
II. लड़के तथा लड़कियों के लिए विभिन्न शौचालय की व्यवस्था करना।

Options :

1. ✖ केवल I
2. ✔ केवल II
3. ✖ I तथा II दोनों
4. ✖ ना ही I ना ही II

Question Number : 196 Question Id : 54062622958 Question Type : MCQ Option Shuffling : Yes Is Question Mandatory : No Option

Orientation : Vertical

Correct Marks : 1 Wrong Marks : 0.25

Which of the following is a performing art?

I. Music
II. Dance
III. Drama
IV. Magic

Options :

1. ✖ II, III and IV
2. ✖ I and IV
3. ✔ I, II, III and IV
4. ✖ II and III

Question Number : 196 Question Id : 54062622958 Question Type : MCQ Option Shuffling : Yes Is Question Mandatory : No Option Orientation : Vertical

Correct Marks : 1 Wrong Marks : 0.25

निम्नलिखित में से कौन सी एक निष्पादन कला है?

I. संगीत
II. नृत्य
III. नाटक
IV. जादू

Options :

1. ✖ II, III तथा IV
2. ✖ I तथा IV
3. ✔ I, II, III तथा IV
4. ✖ II तथा III

Question Number : 197 Question Id : 54062622959 Question Type : MCQ Option Shuffling : Yes Is Question Mandatory : No Option Orientation : Vertical

Correct Marks : 1 Wrong Marks : 0.25

Sometimes poets and writers wish to exaggerate a specific feature or an event. Which literacy device refers to that exaggeration?

Options :

1. ✖ Irony
2. ✔ Hyperbole
3. ✖ Rhyme
4. ✖ Alliteration

Question Number : 197 Question Id : 54062622959 Question Type : MCQ Option Shuffling : Yes Is Question Mandatory : No Option Orientation : Vertical

Correct Marks : 1 Wrong Marks : 0.25

कभी-कभी कवि और लेखक किसी विशिष्ट विशेषता या घटना को बढ़ा-चढ़ाकर पेश करना चाहते हैं। कौन सा साक्षरता उपकरण उस अतिशयोक्ति को दर्शाता है?

Options :

1. ✖ आईरनी (Irony)
2. ✔ हायिपर्बोल (Hyperbole)
3. ✖ राइम (Rhyme)
4. ✖ आलीटरेशन (Alliteration)

Question Number : 198 Question Id : 54062622960 Question Type : MCQ Option Shuffling : Yes Is Question Mandatory : No Option Orientation : Vertical

Correct Marks : 1 Wrong Marks : 0.25

In which process instructional decisions are carefully made by examining evidence of student performance, behaviours towards learning and understanding over a period of time?

I. Evaluation
II. Assessment

Options :

1. ✖ Only I
2. ✖ Only II
3. ✔ Both I and II
4. ✖ Neither I nor II

Question Number : 198 Question Id : 54062622960 Question Type : MCQ Option Shuffling : Yes Is Question Mandatory : No Option

Orientation : Vertical

Correct Marks : 1 Wrong Marks : 0.25

किस प्रक्रिया में समय की अवधि में छात्र के प्रदर्शन, अधिगम और समझने के प्रति व्यवहार के साक्ष्य की जांच करके निर्देशात्मक निर्णय सावधानी से किए जाते हैं?

I. मूल्यांकन
II. आकलन

Options :

1. ✖ केवल I
2. ✖ केवल II
3. ✔ I तथा II दोनों
4. ✖ ना ही I ना ही II

Question Number : 199 Question Id : 54062622961 Question Type : MCQ Option Shuffling : Yes Is Question Mandatory : No Option Orientation : Vertical

Correct Marks : 1 Wrong Marks : 0.25

Which of the following combination is correct?

I. Intrinsic Motivation – Preparing any project in science/mathematics may give pleasure to the pupil as a result of which he/she is motivated to undertake similar activities on his/her own.
II. Extrinsic Motivation – Rewards like money and grades.

Options :

1. ✖ Only I
2. ✖ Only II
3. ✔ Both I and II
4. ✖ Neither I nor II

Question Number : 199 Question Id : 54062622961 Question Type : MCQ Option Shuffling : Yes Is Question Mandatory : No Option Orientation : Vertical

Correct Marks : 1 Wrong Marks : 0.25

निम्नलिखित में से कौन सा संयोजन सही है?

I. आंतरिक प्रेरणा - विज्ञान/गणित में किसी भी परियोजना को तैयार करने से छात्र को खुशी मिल सकती है जिसके परिणामस्वरूप वह स्वयं इसी तरह की

गतिविधियों को करने के लिए प्रेरित होता है।
II. बाह्य प्रेरणा – धन और ग्रेड जैसे पुरस्कार।

Options :

1. ✖ केवल I
2. ✖ केवल II
3. ✔ I तथा II दोनों
4. ✖ ना ही I ना ही II

Question Number : 200 Question Id : 54062622962 Question Type : MCQ Option Shuffling : Yes Is Question Mandatory : No Option Orientation : Vertical

Correct Marks : 1 Wrong Marks : 0.25

'Egocentric thought' is a major characteristic of which stage of Piaget's stages of cognitive development?

Options :

1. ✖ Sensorimotor
2. ✖ Concrete operating
3. ✖ Formal operations
4. ✔ Preoperational

Question Number : 200 Question Id : 54062622962 Question Type : MCQ Option Shuffling : Yes Is Question Mandatory : No Option Orientation : Vertical

Correct Marks : 1 Wrong Marks : 0.25

'अहं केंद्रित विचार' पियाजे के संज्ञानात्मक विकास के चरणों के किस चरण की एक प्रमुख विशेषता है?

Options :

1. ✖ संवेदी-गत्यात्मक
2. ✖ स्थूल संक्रिय
3. ✖ औपचारिक संक्रिया
4. ✔ पूर्वसंक्रिय